【FdData 中間期末：中学社会地理】

[中国]

◆パソコン・タブレット版へ移動

[一人っ子政策]

[問題](要点把握)

　次の下線部 A～F で誤っているものを 1 つ選び，正しい語句に直せ。

　中国政府はA人口増加をおさえるために，1970 年代末から B 夫婦 1 組につき子どもを原則 1 人に制限する C 一人子供政策を実施してきた。この政策は一定の効果をあげ，D 人口増加率は低下してきている。その反面で，急激な E 少子高齢化が問題になりつつある。こうした中，C 政策は 2016 年に見直され，F 二人まで子どもをもつことが認められるようになった。

[解答]C 一人っ子政策
※出題頻度：「一人っ子政策◎」「人口増加を抑えるため△」「少子高齢化が急速に進んだ△」

[問題](後期期末)

　中国では，最近まで，夫婦１組につき子どもを原則１人に制限する政策をとってきた。

これについて，次の各問いに答えよ。

(1) この政策を何というか。

(2) この政策は，どのような目的で実施されたか。簡潔に説明せよ

(3) この政策を実施したために起こった新たな問題は何かを漢字５字で答えよ。(現在の日本でも同じ問題が起こっている。)

[解答](1) 一人っ子政策　(2) 人口の増加をおさえるため。　(3) 少子高齢化

[問題](1 学期期末)

　中国で行われていた一人っ子政策は，2016 年に見直され二人まで子どもをもつことが認められるようになった。その理由を簡単に説明せよ。

[解答]少子高齢化が急速に進んだため。

[漢族・少数民族]

[問題](要点把握)

　次の下線部A〜Dで誤っているものを1つ選び，正しい語句に直せ。

　中国は多民族国家で，人口の9割以上をしめるA漢族(漢民族)や55のB少数民族がくらしている。B民族は主に中国のC西部で生活している。東南アジアなどの各地に移り住み，商業や金融業を営み，現地の国籍をとって定着した中国系の人々をD華僑という。

[解答]D 華人

※出題頻度：「漢族(漢民族)○」「少数民族△」「華人○」

[問題](2 学期期末)

中国の民族について，次の各問いに答えよ。

(1) 中国の全人口の 9 割をしめている民族は何か。

(2) (1)の民族以外(55 の民族)をまとめて何というか。

(3) (2)は中国の東部と西部のどちらに多く住んでいるか。

(4) 東南アジアなどに移り住み，現地の国籍をとって定着した中国系の人々を何というか。

[解答](1) 漢族(漢民族)　(2) 少数民族
(3) 西部　(4) 華人

[中国の農業区分]

[問題](要点把握)

次の下線部A～Gで誤っているものを2つ選び，正しい語句に直せ。

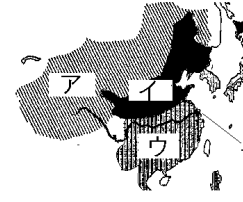

中国の農業は大きく3つに区分される。右図のアのA乾燥した地域ではB羊など乾燥に強い家畜の牧畜(遊牧)が中心である。C降水量が比較的に少ないイの一帯ではD稲作が中心である。

また，E降水量が多く温暖なウのF長江流域(エ)やそれより南の地域ではG畑作を中心とした農業が行われている。

[解答]D畑作，G稲作

※出題頻度：「南部で稲作○」「北部で畑作(小麦や大豆)○」「西部で牧畜(遊牧)○」

[問題](後期中間)

右図の中国の農業分布図を見て，A～C の各地域にあてはまる文を次のア～ウからそれぞれ選び，記号で答えよ。

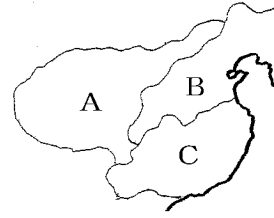

ア　降水量が比較的に少ないこの地域では，小麦や大豆などを作る畑作が中心である。

イ　乾燥したこの地域では，遊牧などの牧畜がさかんである。

ウ　降水量が多く温暖なこの地域では稲作を中心とした農業が行われている。華南のチュー川流域では米の二期作も行われている。

[解答]A イ　B ア　C ウ

[問題](1 学期中間)

中国の農業について，次の各問いに答えよ。

(1) 華中，華南の気温が高く雨が多い地方の代表的な農作物を 1 つ書け。

(2) 気温が高い南部で，(1)の作物を 1 年に 2 回つくる農業が行われている。このような農業を何というか。漢字 3 字で答えよ。

(3) 華北，東北の気温が低く雨が少ない地方の代表的な農作物を 2 つ書け。

(4) 内陸部では羊などを連れ，人間も移動する牧畜が行われているが，これを何というか。

[解答](1) 米　(2) 二期作　(3) 小麦，大豆(とうもろこし)　(4) 遊牧

[問題](2 学期中間)

　中国の東北区・華北と華中・華南では作られている農作物に大きな違いがある。これはどのような違いか，「降水量」「稲作」「畑作」という語句を使って簡単に答えよ。

[解答]東北区・華北では降水量が少ないので畑作が，華中・華南では降水量が多いので稲作が行われている。

[米・小麦などの生産統計]

[問題](要点把握)

　次の下線部A～Eで誤っているものを2つ選び，正しい語句に直せ。

　中国は，小麦や米の生産量がA世界1位であるが，B人口が多いため，生産量された小麦や米は国内で消費され，さらに，C不足分は輸入にたよっている。次のように，米，小麦ともに生産量1位は中国で2位はインドである。

D 米　：中国(17.0%)，インド(13.3%)，ロシア(12.9%)，アメリカ(5.6%)

E 小麦：中国(26.9%)，インド(25.3%)，バングラデシュ(7.4%)，インドネシア(7.1%)

[解答]D 小麦，E 米

※出題頻度：「中国は人口が多いため，生産量された小麦や米は国内で消費される△」「生産高順位→農産物名(米・小麦・茶・綿花)△」

[問題](前期期末)

次の各問いに答えよ。

(1) 中国は，米，小麦の生産量が世界第1位である。次の資料は，2021年の米，小麦のいずれかの生産量が多い上位5か国とその割合を示している。米の統計を示しているのは，A，Bのどちらか。

A：中国(26.9%)，インド(25.3%)，バングラデシュ(7.4%)，インドネシア(7.1%)，ベトナム(5.5%)，タイ(4.4%)

B：中国(17.0%)，インド(13.3%)，ロシア(12.9%)，アメリカ(5.6%)，

(2) 中国は米の生産量が世界1位であるが，米の輸出量より輸入量が多い。その理由を簡単に説明せよ。

[解答](1) A　(2) 人口が多いため米の消費量も多いから。

[問題](2 学期期末)

　次のグラフは，農産物の国別生産量の割合を示している。A～D にあてはまる農産物をそれぞれ下の[　　]から選べ。

A(2022 年)：中国(17.0%)，インド(13.3%)，ロシア(12.9%)，アメリカ(5.6%)，

B(2023 年)：中国(41.9%)，スリランカ(20.4%)，ケニア(11.5%)，インド(11.5%)

C(2021 年)：インド(23.6%)，中国(22.5%)，アメリカ(15.0%)，ブラジル(8.8%)

D(2022 年)：中国(26.9%)，インド(25.3%)，バングラデシュ(7.4%)，インドネシア(7.1%)，

[米　小麦　茶　綿花]

[解答]A 小麦　B 茶　C 綿花　D 米

[中国の経済成長]

[問題](要点把握)

次の下線部A～Hで誤っているものを2つ選び，正しい語句に直せ。

中国は，日本やアメリカなどの先進国からA資金と技術を導入して工業の発展をはかるため，1980年代に図のシェンチェンやアモイなどの5都市をB経済特別区に指定した。日本やアメリカの企業は，C安くて豊富な労働力にひかれて中国へ進出した。B区に指定された地区はいずれもD沿岸部である。これは，ED部のほうが，船での輸出や輸入に便利だからである。

その後，D 部を中心に F 工業化，経済成長が急速に進み，中国の工業製品は世界中に輸出されるようになり，中国は G 世界の生産工場と呼ばれるようになった。ただ，経済発展に伴って労働者の賃金が上がったため，H 中国より賃金が安い東南アジアの国々へ工場を移す日本や欧米の企業が増えている。

[解答]B 経済特区，G 世界の工場
※出題頻度:「外国企業を招いてその資金や技術を導入○」「経済特区◎」「沿岸部○」「安くて豊富な労働力があったから○」「世界の工場◎」

[問題](2 学期中間)

中国は，工業の発展をはかるため，1980 年代にシェンチェンやアモイなどの 5 都市をある地区に指定した。これについて，次の各問いに答えよ。

(1) これらの地区を何と呼ぶか。

(2) (1)は，外国企業を招いて，その何と何を導入することを目指したか。

(3) その後，沿岸部を中心に工業化，経済成長が急速に進み，中国の工業製品は世界中に輸出されるようになった。これにより，中国は「世界の○○」と呼ばれるようになった。○○にあてはまる語句を答えよ。

[解答](1) 経済特区　(2) 資本と技術
(3) 工場

[問題](2 学期期末)

次の各問いに答えよ。

(1) 中国は，工業の発展をはかるため，1980 年代にシェンチェンやアモイなどの 5 都市を何に指定したか。

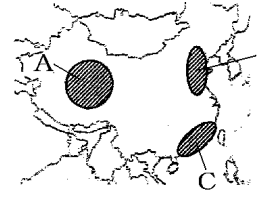

(2) (1)の場所として正しいものを，図の A～C から 1 つ選べ。

(3) (1)は何のために設けられた区域か。「外国企業」の語句を使って，簡単に書け。

(4) (1)の地域に外国資本が流入してきた理由を「労働力」という語句を使って説明せよ。

(5) 中国は近年工業化が急速に進み，中国の工業製品は世界中に輸出されるようになった。そのため，中国は世界の何と呼ばれるようになったか。

(6) 最近は，日本や欧米の企業が，中国から東南アジアの国々に工場などを移すようになってきている。その理由を簡単に説明せよ。

[解答](1) 経済特区　(2) C　(3) 外国企業を招いてその資金や技術を導入するため。

(4) 安くて豊富な労働力が手にはいるから。　(5) 世界の工場　(6) 東南アジアの国々のほうが中国より賃金が安いから。

[沿岸部と内陸部の経済格差]

[問題](要点把握)

次の下線部 A～F で誤っているものを 1 つ選び，正しい語句に直せ。

外資導入などの改革開放政策により，1990 年代から，中国は高い経済成長を続け，A 世界の工場と呼ばれるまでになった。しかし，経済成長の中心は B 沿岸部の都市で，C 内陸部，とくに農村は貧しいままになっている。沿岸部都市と内陸部農村部の D 経済格差が大きくなっている。内陸部の農村と沿岸部の都市では所得の格差があるため，E 都市から農村へ高い収入を求めて F 出かせぎへ行く人々(農民工)が増えている。

[解答]E 農村から都市へ

※出題頻度:「内陸部と沿岸部の経済格差が大きくなった○」「出かせぎ△」

[問題](後期中間)

次の文章は，資料について説明したものである。文章中の①～④に適語を入れよ。

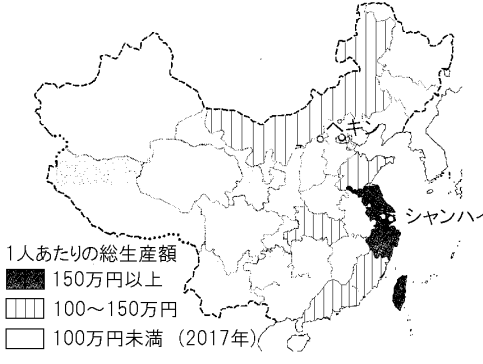

中国で経済発展している地域は，(　①　)部に集中し，(①)部と(　②　)部との間に経済(　③　)が広がっている。そのため，より多くの収入を求めて，(②)部から(①)部への(　④　)も多くなっている。

[解答]① 沿岸　② 内陸　③ 格差
④ 出かせぎ

[問題](2 学期期末)

次の資料に見られる中国の経済問題を「沿岸部」「内陸部」の語句を用いて書け。

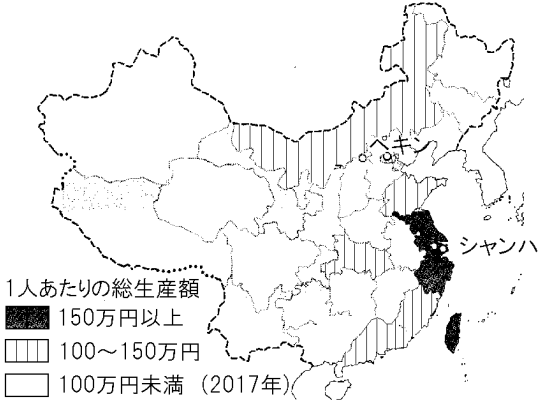

[解答]内陸部と沿岸部の経済格差が大きい。

[進む都市化と環境問題]

[問題](前期期末)

　次の文章中の①，②に適語を入れよ。

　経済の成長によって，農村からの出かせぎ労働者などが集まったことで，多くの都市では人口が増加した。こうした急速な都市化に環境対策が追いつかず，工場や自動車，家庭からの排煙や排気ガスによる(　①　)汚染が深刻になった。そこで，太陽光や風力などの(　②　)エネルギーを利用した発電施設の建設を進めるなどして，状況の改善を急いでいる。

[解答]① 大気　② 再生可能

※出題頻度：「都市化△」「大気汚染○」「再生可能エネルギー△」

[問題](2 学期期末)

次の各問いに答えよ。

(1) ペキンなどで深刻な，石炭の燃焼などに起因する環境問題は何か。

(2) 環境問題の改善のため導入が進められている，太陽光などのくり返し利用可能なエネルギーを何というか。

(3) (2)の中で，中国が発電量世界一であるのは，太陽光発電のほかに何があるか。

[解答](1) 大気汚染　(2) 再生可能エネルギー　(3) 風力発電

【各ファイルへのリンク】

社会地理

[世界 1]　[世界 2]　[日本 1]　[日本 2]

社会歴史

[古代]　[中世]　[近世]　[近代]　[現代]

社会公民

[現代社会]　[人権]　[三権]　[経済]

理科 1 年

[光音力]　[化学]　[植物]　[地学]

理科 2 年

[電気]　[化学]　[動物]　[天気]

理科 3 年

[運動]　[化学]　[生殖]　[天体]　[環境]

【FdData 中間期末製品版のご案内】
この PDF ファイルは, FdData 中間期末を PDF 形式(スマホ用)に変換したサンプルです。製品版の FdData 中間期末は Windows パソコン用のマイクロソフト Word(Office)の文書ファイル(A4 版)で, 印刷・編集を自由に行うことができます。
◆FdData 中間期末の特徴
中間期末試験で成績を上げる秘訣は過去問を数多く解くことです。FdData 中間期末は, 実際に全国の中学校で出題された試験問題をワープロデータ(Word 文書)にした過去問集です。各教科(社会・理科・数学)約 1800～2100 ページと豊富な問題を収録しているため, 出題傾向の 90%以上を網羅しております。
FdData 中間期末を購入いただいたお客様からは,「市販の問題集とは比べものにならない質の高さですね。子どもが受け

た今回の期末試験では，ほとんど同じような問題が出て今までにないような成績をとることができました。」,「製品の質の高さと豊富な問題量に感謝します。試験対策として，塾の生徒に FdData の膨大な問題を解かせたところ，成績が大幅に伸び過去最高の得点を取れました。」などの感想をいただいております。

◆サンプル版と製品版の違い

ホームページ上に掲載しておりますサンプルは，製品の全内容を掲載しており，どなたでも自由に閲覧できます。問題を「目で解く」だけでもある程度の効果をあげることができます。しかし，FdData 中間期末がその本来の力を発揮するのは印刷ができる製品版においてです。印刷した問題を，鉛筆を使って一問一問解き進むことで，大きな学習効果を得ることができます。さらに，製品版は，すぐ印

刷して使える「問題解答分離形式」，編集に適した「問題解答一体形式」，暗記分野で効果を発揮する「一問一答形式」(理科と社会)の 3 形式を含んでいますので，目的に応じて活用することができます。

FdData 中間期末の特徴(QandA 方式)

◆FdData 中間期末製品版の価格

社会地理，歴史，公民：各 7,800 円

理科 1 年，2 年，3 年：各 7,800 円

数学 1 年，2 年，3 年：各 7,800 円

ご注文は電話，メールで承っております。

FdData 中間期末(製品版)の注文方法

※パソコン版ホームページは，Google などで「fddata」で検索できます。

※Amazon でも販売しております。
（「amazon　fddata」で検索）

【Fd 教材開発】電話：092-811-0960

メール： info2@fdtext.com