【FdData 中間期末：中学社会地理】

[アメリカ合衆国の農業]

◆パソコン・タブレット版へ移動

[企業的な農業]

[問題](要点把握)

　次の下線部A～Gで誤っているものを2つ選び，正しい語句に直せ。

　アメリカでは，A広大な農地をB少ない労働力でC大型機械を使って行う農業が主流である。このような農業をD企業的な農耕という。また，収穫を増やしたり病害虫の影響を減らすために，遺伝子レベルで品種を改良するEバイオテクノロジーの技術も導入されている。

アメリカには，農業に関連することを専門に扱うFアグリビジネスを行っている企業がある。その中でも，特に規模が大きく，世界の農産物の流通をコントロールする程の力をもっている巨大な穀物商社をG穀類メジャーという。

[解答]D 企業的な農業，G 穀物メジャー
※「アグリビジネス」「穀物メジャー」の語句が出てこない教科書もある。
※出題頻度：「企業的な農業○」「広大な農地を少ない労働力で大型機械を使って行う農業○」「バイオテクノロジー△」「アグリビジネス△」「穀物メジャー△」

[問題](後期期末)

次の文章中の①～④に適語を入れよ。

アメリカでは，市場への出荷を目的として，広大な農地を少ない(　①　)力で(　②　)機械を使って行われる農業が主流である。このような農業を(　③　)という。また，収穫を増やしたり病害虫の影響を減らすために，遺伝子レベルで品種を改良する(　④　)テクノロジーの技術も導入されている。

[解答]① 労働　② 大型　③ 企業的な農業　④ バイオ

[問題](3 学期)

次の各問いに答えよ。

(1) アメリカの農業の特色を「広大」「労働力」「大型機械」の語句を用いて説明せよ。

(2) (1)のような農業を何というか。

(3) 新種の種子開発など農産物の品種改良に利用されている科学技術を何というか。

(4) アグリビジネスを行う企業の中でも特に規模が大きく，世界の農産物の流通をコントロールする程の力をもっている巨大な穀物商社を特に何というか。

[解答](1) 広大な農地を少ない労働力で大型機械を使って行われる農業。

(2) 企業的な農業　(3) バイオテクノロジー　(4) 穀物メジャー

[問題](1 学期中間)

次の文を読んで，後の各問いに答えよ。

アメリカ合衆国の農業では，大企業が農業や①農業に関連する産業に進出している。例えば，小麦などの②穀物の運搬・加工・流通は大企業によって行われている。作物の種子，農業機械，化学肥料や農薬も大企業によってつくられる。③このような大企業は世界各地に進出している。

(1) 下線部①について，「農業に関連する産業」という意味の語句をカタカナで答えよ。

(2) 下線部②について，「穀物の運搬・加工・流通などを行い，世界の穀物市場を支配する大企業のことを何というか，答えよ。

(3) 下線部③について，このような，複数の国家に拠点を置き，世界的に活動する企業のことを何というか。

[解答](1) アグリビジネス
(2) 穀物メジャー　(3) 多国籍企業

[世界最大の農産物の輸出国]

[問題](2 学期期末改)

　アメリカ合衆国は世界有数の農産物の生産国で，生産された作物は多くの国々へ輸出されている。とうもろこしと綿花の輸出量は世界 1 位で，大豆は世界第 2 位, 小麦は世界 3 位である(2021 年統計)。そのため,「世界の○○○」と呼ばれている。○○○にあてはまる語句を漢字で答えよ。

[解答]食料庫

※出題頻度 :「アメリカが世界 1〜3 位の農産物 : 小麦・大豆・とうもろこし・綿花△」「世界の食料庫△」

[問題](2 学期中間)

　アメリカは世界最大の農産物の輸出国で「世界の食糧庫」と呼ばれている。アメリカの輸出量が世界 1～3 位でない農産物を，次の[　　]から 1 つ選べ。

[綿花　小麦　とうもろこし
　大豆　米]

[解答]米

[適地適作]

[問題](2 学期期末)

　アメリカでは，気温，降水量，土地などの各地域の自然環境に適した農作物が生産されている。このことを何というか。漢字 4 文字で答えよ。

[解答]適地適作

※出題頻度：「適地適作◎」「気温，降水量，土地などの各地域の自然環境に適した農作物を生産△」

[問題](後期中間)

　次の文中の①，②に適語を入れよ。

　アメリカの農業は，気温，(　①　)，土地などの各地域の自然環境に適した農作物が生産されている。このことを(　②　)という。

[解答]① 降水量　② 適地適作

[問題](後期期末)

　アメリカの農業について，「適地適作」とはどのようなやり方か,「気温, 降水量, 土地」の語句を使って簡単に説明せよ。

[解答]気温，降水量，土地などの各地域の自然環境に適した農作物を生産する方式。

[西経 100 度付近の農業]

[問題](要点把握)

次の下線部A～Hで誤っているものを3つ選び，正しい語句に直せ。

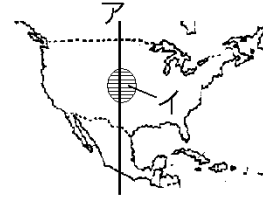

アメリカでは西へ行くほどA<u>降水量が少なくなる</u>。右の地図アの B <u>東経 100 度</u>の線は C <u>年間降水量500mm</u>の線とほぼ重なる。地図のイの一帯では，右図のようなD<u>センターポビット</u>方式の大規模なかんがい農業が行われている。長さが 400m のスプリンクラーが，くみ上げた地下水を散水しながら動くので円形の畑がかんがいされる。

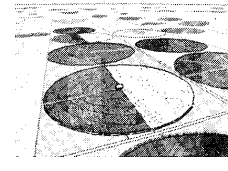

アの西付近にあるEグレートプレーンズは，降水量が少ないにもかかわらず地下水によるかんがいによって世界的なF小麦地帯になっている。Gアより西の年間降水量が500mmより少ない乾燥地帯は，農作物を育てるのに適していないため，H牛の遊牧が中心である。

[解答]B 西経100度，E センターピボット，H 牛の放牧
※出題頻度：「西経100度○」「センターピボット○」「グレートプレーンズ△」「牛の放牧○」

[問題](3 学期)

次の各問いに答えよ。

(1) 北アメリカでは右の地図中のXの経線を境に東西で降水量がちがう。Xの経線の経度を次の[　　]から選べ。

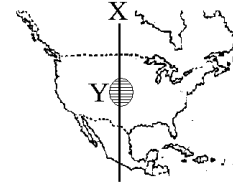

[東経 40 度　東経 100 度　西経 40 度　西経 100 度]

(2) 地図中のYの地域では，豊富な地下水を利用して，右の写真のように，長さ 400m のスプリンクラーが散水する(　　)方式の農業が行われている。(　　)に適語を入れよ。



[解答](1) 西経100度　(2) センターピボット

[問題](2 学期中間)

次の各問いに答えよ。

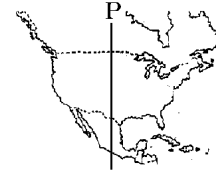

(1) 右の地図中の P の経線の経度を答えよ。

(2) P の線の中央部付近では，地下水をくみ上げて スプリンクラーで散水する農業を行っている。この方式の名称を書け。

(3) P の線の西付近にある(①)は世界的な(②)地帯になっている。①に地域名，②に穀物名を入れよ。

(4) P の線の西側と東側とではどちらが乾燥しているか。

(5) P の線の西側の地域でさかんな農業を次の[ ]から 1 つ選べ。

[綿花栽培　牛の放牧
　とうもろこし栽培]

[解答](1) 西経100度　(2) センターピボット　(3)① グレートプレーンズ
② 小麦　(4) 西側　(5) 牛の放牧

[問題](入試問題)

　アメリカのグレートプレーンズには，次の写真のようなスプリンクラーを用いたセンターピボット方式による農業が行なわれている地域がある。資料を参考にして，このような農業が行なわれている理由を簡潔に書け。ただし，その地域の気候の特色を述べるとともに，「地下水」という語句を用いること。



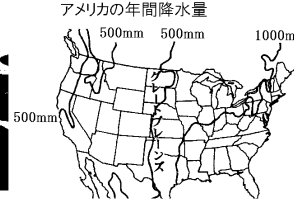

(大分県)

[解答]年間降水量が 500mm 程度と少ないが，豊富な地下水を使ったかんがいで水不足を補うことができるから。

[農業区分]

[問題](要点把握)

次の下線部 A～G で誤っているものを 2 つ選び，正しい語句に直せ。

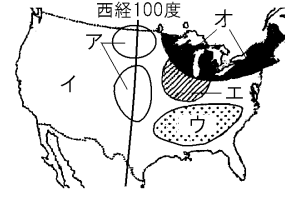

アメリカでは，降水量や気温などの自然条件にあったA適地適作がおこなわれている。アメリカでは西へ行くほど降水量が少なくなる。西経 100 度の線付近にある図のアの一帯は世界的なB大麦地帯になっている。西経 100 度より西の年間降水量が 500mm より少ないC乾燥地帯(イ)はD牛の放牧が中心である。西経100度より東には，地図エの E とうもろこし・小豆地帯，ウの F 綿花地帯などが広がっている。

カナダとの国境に近いオの地域は，冷涼な気候に適したG酪農が行われている。

[解答]B小麦，Eとうもろこし・大豆
※出題頻度(農業区分)：「小麦◎」「とうもろこし・大豆◎」「綿花◎」「放牧○」「酪農○」

[問題](2 学期期末)

次の地図中の A～D の各地域で生産されている農産物(または農業形態)を次の[　　]からそれぞれ 1 つずつ選べ。

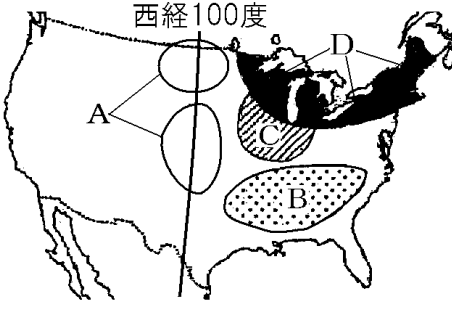

[綿花　とうもろこし・大豆　米　小麦　じゃがいも　さつまいも 酪農]

[解答]A 小麦　B 綿花　C とうもろこし・大豆　D 酪農

[問題](後期期末)

次の文の①～⑤にあてはまる語句を，右の地図の中から選んでそれぞれ書け。

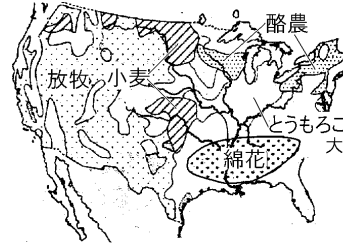

アメリカの中央部には(　①　)栽培のさかんな地域が南北にみられる。西部には(　②　)地帯がある。カナダとの国境に近い東北部には(　③　)地帯があり，その南側には，肉牛のえさとなる(　④　)や大豆の栽培地域がある。南東部には(　⑤　)の栽培地域がみられる。

[解答]① 小麦　② 放牧　③ 酪農
④ とうもろこし　⑤ 綿花

[問題](1 学期期末)

次の各問いに答えよ。

(1) 右の地図中の①～⑤の地域で生産される農作物(または農業形態)の名前を次の[　　]の中からそれぞれ選べ。

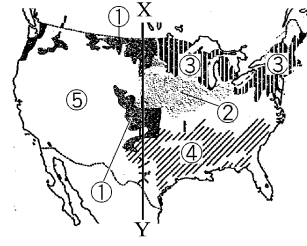

[とうもろこし・大豆　小麦　酪農　綿花　放牧]

(2) アメリカでは，地図のように，各地域の自然環境に適した農作物が生産されている。このことを何というか。

(3) 地図中の X－Y の線は何を表しているか。次の[　　]から選べ。

[年平均気温 15℃　年間降水量 500mm　標高 200m の等高線]

(4) 図の②には出荷前の牛に飼料をあたえて効率よく太らせるための牧場がある。このような牧場を何というか。

(5) アメリカ西海岸のカリフォルニア州などで行われている農業を何式農業というか。

[解答](1)① 小麦　② とうもろこし・大豆　③ 酪農　④ 綿花　⑤ 放牧
(2) 適地適作　(3) 年間降水量 500mm
(4) フィードロット　(5) 地中海式農業
※出題頻度：「フィードロット△」「地中海式農業△」

【各ファイルへのリンク】

社会地理

[世界 1]　[世界 2]　[日本 1]　[日本 2]

社会歴史

[古代]　[中世]　[近世]　[近代]　[現代]

社会公民

[現代社会]　[人権]　[三権]　[経済]

理科 1 年

[光音力]　[化学]　[植物]　[地学]

理科 2 年

[電気]　[化学]　[動物]　[天気]

理科 3 年

[運動]　[化学]　[生殖]　[天体]　[環境]

【FdData 中間期末製品版のご案内】
この PDF ファイルは, FdData 中間期末を PDF 形式(スマホ用)に変換したサンプルです。製品版の FdData 中間期末は Windows パソコン用のマイクロソフト Word(Office)の文書ファイル(A4 版)で, 印刷・編集を自由に行うことができます。
◆FdData 中間期末の特徴
中間期末試験で成績を上げる秘訣は過去問を数多く解くことです。FdData 中間期末は, 実際に全国の中学校で出題された試験問題をワープロデータ(Word 文書)にした過去問集です。各教科(社会・理科・数学)約 1800～2100 ページと豊富な問題を収録しているため, 出題傾向の 90%以上を網羅しております。
FdData 中間期末を購入いただいたお客様からは,「市販の問題集とは比べものにならない質の高さですね。子どもが受け

た今回の期末試験では，ほとんど同じような問題が出て今までにないような成績をとることができました。」,「製品の質の高さと豊富な問題量に感謝します。試験対策として，塾の生徒に FdData の膨大な問題を解かせたところ，成績が大幅に伸び過去最高の得点を取れました。」などの感想をいただいております。

◆サンプル版と製品版の違い

ホームページ上に掲載しておりますサンプルは，製品の全内容を掲載しており，どなたでも自由に閲覧できます。問題を「目で解く」だけでもある程度の効果をあげることができます。しかし，FdData 中間期末がその本来の力を発揮するのは印刷ができる製品版においてです。印刷した問題を，鉛筆を使って一問一問解き進むことで，大きな学習効果を得ることができます。さらに，製品版は，すぐ印

刷して使える「問題解答分離形式」，編集に適した「問題解答一体形式」，暗記分野で効果を発揮する「一問一答形式」(理科と社会)の 3 形式を含んでいますので，目的に応じて活用することができます。

FdData 中間期末の特徴(QandA 方式)

◆FdData 中間期末製品版の価格

社会地理，歴史，公民：各 7,800 円

理科 1 年，2 年，3 年：各 7,800 円

数学 1 年，2 年，3 年：各 7,800 円

ご注文は電話，メールで承っております。

FdData 中間期末(製品版)の注文方法

※パソコン版ホームページは，Google などで「fddata」で検索できます。

※Amazon でも販売しております。
（「amazon　fddata」で検索）

【Fd 教材開発】電話：092-811-0960

メール： info2@fdtext.com