【FdData 中間期末：中学社会地理】

[九州の農業]

◆パソコン・タブレット版へ移動

[九州北部の農業]

[問題](要点把握)

次の下線部 A～F で誤っているものを 2 つ選び，正しい語句に直せ。

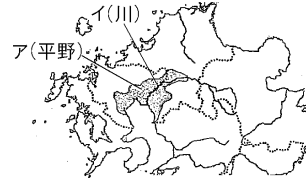

・A 筑後川(右図イ)流域に広がる B 筑紫平野(右図ア)では，C 稲作が終わった後に D 小麦などの作物を栽培する E 二期作が盛んである。

・福岡県はビニールハウスを使った野菜や果物の栽培が盛んで，「あまおう」などの F ぶどうは生産量が全国 2 位である。

[解答]E 二毛作，F いちご

※出題頻度 :「筑紫平野○」「稲作○」「二毛作◎ : 稲作が終わった後の水田で小麦などの作物を栽培△」「いちご(福岡県は全国 2 位)△」

[問題](2 学期期末)

次の各問いに答えよ。

(1) 地図中の A の平野の名前，B の川の名前を答えよ。

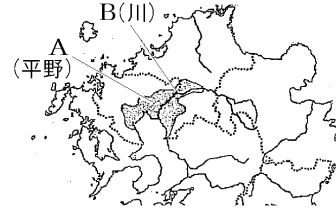

(2) 地図中の B の川の水を利用した，A の平野でさかんな農業は何か。次の[　　]から選べ。

(ア) [稲作　畑作]

(3) (2)の収穫後に小麦などを栽培する農業を何というか。

[解答](1)A 筑紫平野　B 筑後川

(2) 稲作　(3) 二毛作

[問題](1 学期期末)

次の各問いに答えよ。

(1) 筑紫平野で行われている二毛作について，「稲作が終わった後の水田で」に続けて簡単に説明せよ。

(2) 福岡県が栃木県についで全国 2 位の生産を行っている農作物を答えよ(「あまおう」のブランド名で販売されている)。

[解答](1) 稲作が終わった後の水田で小麦などの作物を栽培する農業。 (2) いちご

[シラス台地の畜産・畑作]

[問題](要点把握)

次の下線部A〜Gで誤っているものを2つ選び，正しい語句に直せ。

右の地図中に▨で示した鹿児島県と宮崎県南部は，古い火山灰でできたA シラスという地層が広がっている。A台地は水もちがB よいためC 稲作に向かない。そのため，D 茶(日本2位)やE さつまいも(日本1位)などの畑作，肉牛や豚やブロイラーの飼育を行うF 酪農がさかんである。近年では外国産の安い肉の輸入が増えているが，安全で，質の良い肉を生産してG ブランド化することで，対抗している。

[解答]B 悪い，F 畜産

※出題頻度：「シラス(台地)◎」「水持ちが悪く稲作には適さない◎」
「畜産◎：ブランド化△(安い輸入肉に対抗△)」「畑作○：さつまいも○，茶(2位)△」

[問題](2 学期期末)

次の各問いに答えよ。

(1) 九州の南部の地図中のX周辺で火山活動に伴う噴出物が長年積み重なってできた地層を何とよぶか。カタカナ 3 文字で答えよ。

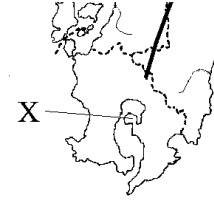

(2) (1)の地域でさかんな農業を次の[　　]内から 2 つ選べ。

[酪農　畜産　稲作　畑作]

(3) (2)で選んだ農業がさかんな理由を,「水持ち」「稲作」という語句を用いて簡潔に説明せよ。

(4) 外国産の安い肉に対抗するために,「かごしま黒豚」などの(　　)化を図っている。(　　)に適語を入れよ。

[解答](1) シラス　(2) 畜産，畑作

(3) 水持ちが悪く稲作には適さないため。

(4) ブランド

[問題](後期中間)

次の文章中の①～⑦に適語を入れよ(または，適語を選べ)。

九州南部の鹿児島県や(　①　)県では肉牛，豚，にわとりを育てる(　②　)が盛んである。その理由は，栄養分が少なく水持ちが③(よい／悪い)シラスという土地が広がっているため(　④　)に適さない場所が多いからである。現在「かごしま黒豚」などの(　⑤　)によって良質な食肉が年産され，外国産の安い肉に対抗している。畑作では，鹿児島県が日本1 位の生産をほこっている(　⑥　)いもや，静岡県についで日本2 位の生産高をあげている(　⑦　)がある。

[解答]① 宮崎　② 畜産　③ 悪い
④ 稲作　⑤ ブランド　⑥ さつま
⑦ 茶

[問題](2 学期中間)

次の各問いに答えよ。

(1) 鹿児島県や宮崎県の畜産について説明した，次の文中の X にあてはまる内容を,「安い」という語句を使って。簡単に書け。

(　　X　　)ために, おいしく安全な肉を生産することで，ブランド化を進めている。

(2) 静岡県についで，鹿児島県が日本第 2 位の生産をほこっている農作物は何か。

(3) 江戸時代より飢饉対策として栽培が始まり，現在でも，鹿児島県が日本 1 位の生産をほこっている農作物は何か。

[解答](1) 外国産の安い肉に対抗する

(2) 茶　(3) さつまいも

[豚・にわとり・肉牛]

[問題](2 学期期末)

次の資料のAは豚の道府県別頭数の割合である。B, C に当てはまる家畜名を書け。

家畜の道府県別頭数の割合(2023年)

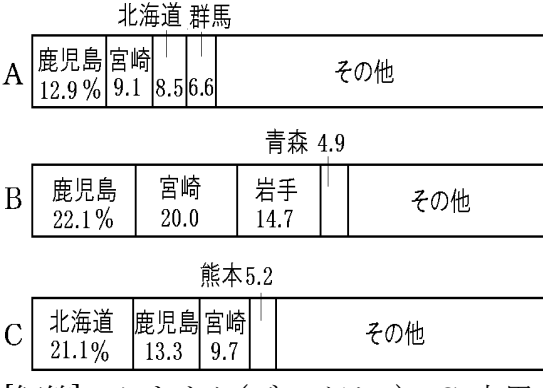

[解答]B にわとり(ブロイラー)　C 肉用牛

※出題頻度：「豚：鹿児島県・宮崎県○」

「にわとり：鹿児島県・宮崎県○」

「肉牛：北海道・鹿児島県・宮崎県○」

[問題](2 学期中間)

次のグラフは九州地方でさかんに生産されている 3 種類の畜産物について，道県別生産量の割合をあらわしている。グラフのアとイにあてはまる畜産物，A と B にあてはまる県名をそれぞれ答えよ。

家畜の道府県別頭数の割合(2023年)

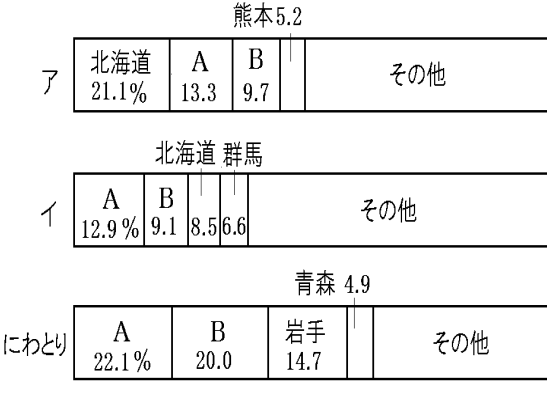

[解答]ア　肉用牛　イ　豚　A 鹿児島県　B 宮崎県

[野菜の促成栽培]

[問題](要点把握)

次の下線部A～Fで誤っているものを2つ選び，正しい語句に直せ。

右図XのA宮崎平野は太平洋側を流れる暖流のB黒潮の影響で冬でも温暖である。この温暖な気候を利用して，Cなす(日本1位)やDピーマン(日本2位)などの夏野菜を，ビニールハウスを使って冬から春にかけてE抑制栽培し，出荷している。他の地域の供給量が少なくて価格がF高くなる時期に出荷できるという利点がある。

[解答]Cきゅうり，E促成栽培

※出題頻度：「宮崎平野○」「きゅうり(1位)○，ピーマン(2位)○」「促成栽培◎」「出荷時期を早める△」「価格の高い時期に出荷できる○」

[問題](2 学期期末)

次の各問いに答えよ。

(1) A の平野の名前を答えよ。

(2) A の平野では，温暖な気候を利用して季節はずれの価格の高い時期に野菜を出荷している。このような栽培方法を何というか。

(3) A の平野で収穫される全国 1～2 位の農産品は何か。次の[　　]から 2 つ選べ。

[きゅうり　キャベツ　ピーマン　レタス]

[解答](1) 宮崎平野　(2) 促成栽培

(3) きゅうり，ピーマン

[問題](2 学期期末改)

次の文章中の①～⑥に適語を入れよ(または，適語を選べ)。

右図Xの(　①　)県は，沖合を流れる(　②　)海流という暖流の影響で冬でも比較的温暖である。(①)平野では，このような気候を生かし，野菜の成長を③(早めて／遅くして)，出荷時期をずらす工夫をした(　④　)栽培を行い，(　⑤　)(日本１位)やピーマン(日本 2 位)などの野菜を，他の地域の供給量が少なくて価格が(　⑥　)くなる時期に出荷している。

[解答]① 宮崎　② 日本　③ 早めて　④ 促成　⑤ きゅうり　⑥ 高く

[問題](後期中間)

次の各問いに答えよ。

(1) 宮崎平野は温暖な気候を利用した野菜の促成栽培がさかんな地域である。促成栽培とは何か。「出荷時期」という語句を使って簡潔に説明せよ。

(2) 宮崎平野では，野菜の促成栽培を行うために，ビニールハウスや温室などが使われている。このような施設を使う農業を何というか。漢字6字で答えよ。

(3) 野菜の促成栽培がさかんに行われている経済的な理由は何か。「価格」「出荷」という語句を使って簡潔に説明せよ。

[解答](1) 出荷時期を早める栽培方法。(2) 施設園芸農業　(3) 価格の高い時期に出荷することができること。

[沖縄の農業]

[問題](要点把握)

　次の下線部A～Eで誤っているものを1つ選び，正しい語句に直せ。

　沖縄では，冬でも温暖なA亜熱帯の気候を利用して，Bてんさいの栽培が盛んである(全国1位の生産量)。収穫されたBは，島の製糖工場で砂糖に加工されている。近年ではCパイナップルなどの果実，D電照栽培によって栽培されるE菊などが全国に出荷されている。

[解答]B さとうきび

※出題頻度：「亜熱帯△→さとうきび○，パイナップル△，菊(電照菊)△」

[問題](3 学期)

　南西諸島などの沖縄には，亜熱帯性の気候をいかして特産品となっている農作物がある。この農作物を次の[　　]から 2 つ選べ。

[さとうきび　てんさい　びわ
　じゃがいも　パイナップル]

[解答]さとうきび，パイナップル

[問題](2 学期中間改)

次の文章中の①～④に適語を入れよ。

沖縄では，冬でも温暖な(　①　)性の気候を利用して，日照りや台風にも強い(　②　)の栽培が盛んである。収穫された(②)は，島の製糖工場で砂糖に加工されるなど，島々の経済を支えてきた。近年では(　③　)やマンゴーなどの果実，(　④　)などの花の生産も増えており，東京などに出荷されている。

[解答]① 亜熱帯　② さとうきび
③ パイナップル　④ 菊

[問題](後期中間)

　次の農作物の県別収穫量割合(2022年)の①～⑤にあてはまる九州の県の名前を書け。

きゅうり：(　①　)(11.8％)，群馬県(10.2％)，埼玉県(8.0％)，福島県(7.4％)

茶：静岡県(37.0％)，(　②　)(34.6％)，三重県(6.8％)

さつまいも：(　③　)(29.5％)，茨城県(27.3％)

いちご：栃木県(15.1％)，(　④　)(10.4％)，熊本県(7.3％)，愛知県(6.6％)

さとうきび：(　⑤　)(58.0％)，鹿児島県(42.0％)

[解答]① 宮崎県　② 鹿児島県　③ 鹿児島県　④ 福岡県　⑤ 沖縄県

【各ファイルへのリンク】

社会地理

[世界 1]　[世界 2]　[日本 1]　[日本 2]

社会歴史

[古代]　[中世]　[近世]　[近代]　[現代]

社会公民

[現代社会]　[人権]　[三権]　[経済]

理科 1 年

[光音力]　[化学]　[植物]　[地学]

理科 2 年

[電気]　[化学]　[動物]　[天気]

理科 3 年

[運動]　[化学]　[生殖]　[天体]　[環境]

【FdData 中間期末製品版のご案内】
この PDF ファイルは, FdData 中間期末を PDF 形式(スマホ用)に変換したサンプルです。製品版の FdData 中間期末は Windows パソコン用のマイクロソフト Word(Office)の文書ファイル(A4 版)で, 印刷・編集を自由に行うことができます。
◆FdData 中間期末の特徴
中間期末試験で成績を上げる秘訣は過去問を数多く解くことです。FdData 中間期末は, 実際に全国の中学校で出題された試験問題をワープロデータ(Word 文書)にした過去問集です。各教科(社会・理科・数学)約 1800～2100 ページと豊富な問題を収録しているため, 出題傾向の 90%以上を網羅しております。
FdData 中間期末を購入いただいたお客様からは,「市販の問題集とは比べものにならない質の高さですね。子どもが受け

た今回の期末試験では，ほとんど同じような問題が出て今までにないような成績をとることができました。」,「製品の質の高さと豊富な問題量に感謝します。試験対策として，塾の生徒に FdData の膨大な問題を解かせたところ，成績が大幅に伸び過去最高の得点を取れました。」などの感想をいただいております。

◆サンプル版と製品版の違い

ホームページ上に掲載しておりますサンプルは，製品の全内容を掲載しており，どなたでも自由に閲覧できます。問題を「目で解く」だけでもある程度の効果をあげることができます。しかし，FdData 中間期末がその本来の力を発揮するのは印刷ができる製品版においてです。印刷した問題を，鉛筆を使って一問一問解き進むことで，大きな学習効果を得ることができます。さらに，製品版は，すぐ印

刷して使える「問題解答分離形式」，編集に適した「問題解答一体形式」，暗記分野で効果を発揮する「一問一答形式」(理科と社会)の 3 形式を含んでいますので，目的に応じて活用することができます。

FdData 中間期末の特徴(QandA 方式)

◆FdData 中間期末製品版の価格

社会地理，歴史，公民：各 7,800 円

理科 1 年，2 年，3 年：各 7,800 円

数学 1 年，2 年，3 年：各 7,800 円

ご注文は電話，メールで承っております。

FdData 中間期末(製品版)の注文方法

※パソコン版ホームページは，Google などで「fddata」で検索できます。

※Amazon でも販売しております。
（「amazon　fddata」で検索）

【Fd 教材開発】電話：092-811-0960

メール： info2@fdtext.com