【FdData 中間期末：中学歴史：明治】
[日本の産業革命]

◆パソコン・タブレット版へ移動

[紡績・製糸業の発達]
[問題](1 学期期末改)
　次の文章中の①，②に適語を入れよ。
　1880 年代後半から，日本では軽工業から産業革命が始まった。紡績業では，国産の(　①　)糸が輸入品を上回り，日清戦争後には，中国や朝鮮への輸出も増えていった。(　②　)糸をつくる製糸業はおもにアメリカ向けの輸出産業として発展した。

[解答]① 綿　② 生

※出題頻度：「1880 年代後半，軽工業を中心とする産業革命△」

「綿糸(紡績業)→中国や朝鮮に輸出△」

「生糸(製糸業)→アメリカに輸出△」

[問題](2 学期中間)

次の文章中の①～⑤に適語を入れよ。

日本でも 1880 年代後半から(　①　)革命が始まり，綿糸をつくる(　②　)業などの軽工業が発達した。日清戦争後には，(　③　)(国名)や朝鮮への綿糸の輸出が増え，1897 年には綿糸の輸出量が輸入量を上まわるようになった。また，生糸をつくる(　④　)業はおもに(　⑤　)(国名)向けの輸出産業として発展した。

[解答]① 産業　② 紡績　③ 中国
④ 製糸　⑤ アメリカ

[問題](入試問題)

次の各問いに答えよ。

(1) (A)にあてはまるものを，次から選べ。

日本の主な輸出入品の変化

	順位	1882年	1897年
輸出品	1	（ A ）	（ A ）
	2	緑茶	綿糸
	3	水産物	絹織物
輸入品	1	綿糸	綿花
	2	砂糖	米
	3	綿織物	砂糖

[生糸　船舶　銀　陶磁器]

(2) 1882年に輸入品の1位であった綿糸は，1897年には輸出品の2位になっていることが分かる。このように変化した理由を，「工場」という語を用いて，簡潔に書け。

(群馬県)

[解答](1) 生糸　(2) 輸入した綿花を原料として，工場で綿糸を大量生産できるようになったから。

[八幡製鉄所など]

[問題](要点把握)

次の下線部 A～H で誤っているものを 2 つ選び，正しい語句に直せ。

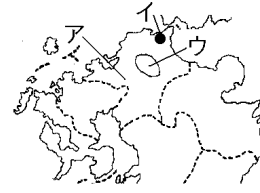

日清戦争後の A1901年，清国からの B 賠償金をもとに，福岡県(右図ア)の現在の C 北九州市の位置(イ)に官営の D 新日本製鉄所が建設された。C の地に製鉄所が造られたのは，近くにある E 筑後炭田(ウ)の F 石炭が利用できたことと，G 鉄鉱石の輸入先である H 中国に近かったためである。



製鉄所の建設は重工業発展の基礎となり，それまで輸入に頼っていた機関車や軍艦なども日本国内で生産できるようになった。

[解答]D 八幡製鉄所，E 筑豊炭田
※出題頻度：「八幡製鉄所○」「福岡県北九州(地図)△」「日清戦争の賠償金△」「石炭：筑豊炭田△」「鉄鉱石：中国から輸入△」

[問題](1 学期期末)

図1



図2

図１は近くの筑豊炭田で産出する石炭，中国から輸入する鉄鉱石を利用して1901 年に操業を開始し，鉄鋼を生産した工場を表している。

(1) この工場の名前を何というか。

(2) (1)が建設された場所を，①都道府県名で答えよ。②またその位置を図 2 のア～オから選べ。

[解答](1) 八幡製鉄所　(2)① 福岡県 ② オ

[問題](1 学期中間)

　次の文章中の①～⑤に適語を入れよ(または，適語を選べ)。

　(　①　)戦争で得た賠償金をもとに北九州に(　②　)製鉄所が建設され，1901年に操業を開始した。この地に製鉄所が建設されたのは，近くにある(　③　)炭田の石炭が利用できたことと，鉄鉱石の輸入先である(　④　)に近かったためである。製鉄所の建設は⑤(軽／重)工業発展の基礎となり，それまで輸入に頼っていた機関車や軍艦なども日本国内で生産できるようになった。

[解答]① 日清　② 八幡　③ 筑豊
④ 中国　⑤ 重

[財閥]

[問題](1 学期中間)

　政府から工場・鉱山の払い下げを受けた，三井・三菱・住友・安田などは日本の経済界を支配していく。このような大資本家を何というか。漢字 2 字で答えよ。

[解答]財閥

※出題頻度：「財閥◎」

[問題](2 学期期末)

　政府から鉱山や工場を払い下げられた大資本家たちは日本の経済を支配していく。

①この大資本家たちのことを何というか。

②また，その大資本家の名前を１つあげよ。

[解答]① 財閥　② 三菱(三井，住友，安田)

[労働問題]

[問題](1 学期期末改)

　次の文章中の①，②に適語を入れよ。

　労働者は低賃金・(　①　)時間労働に苦しんだ。そこで，労働者は団結して労働組合を結成し，資本家に待遇改善を要求する労働運動を行い，社会主義思想も広まり始めた。1910 年，天皇の暗殺を企てたとして，幸徳秋水などの多数の社会主義者が逮捕され，12 名が死刑に処せられる(　②　)事件が起きた。政府は，集会，結社の自由を制限する一方，日露戦争後に，12 歳未満の就業禁止，労働時間の制限などを定めた工場法を制定した。

[解答]① 長　② 大逆

※出題頻度：「低賃金・長時間労働○」「労働組合△」「社会主義△」「大逆事件○」「幸徳秋水△」「工場法△」

[問題](前期中間)

次の文章中の①～④に適語を入れよ。

明治時代，労働者は低賃金・長時間労働に苦しんだ。日清戦争後には，(　①　)が結成され始め，労働条件の改善を求める労働争議が増加した。これとともに，(　②　)主義の思想が広がった。1910年には天皇暗殺を企てたとして多数の(②)主義者が逮捕される(　③　)事件が起きた。政府は，集会，結社の自由を制限する一方，日露戦争後に，12歳未満の就業禁止，労働時間の制限などを定めた(　④　)法を制定した。

[解答]① 労働組合　② 社会　③ 大逆　④ 工場

[問題](1 学期中間)

次の各問いに答えよ。

(1) 右の資料は，ある製糸工場で働く工女の 1 日を示している。この工女の就業時間に最も近いものを次の[　　]から 1 つ選べ。

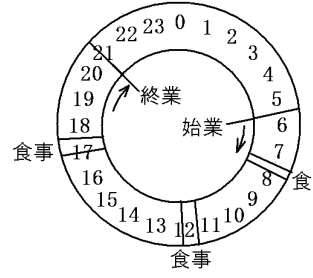

[7 時間　10 時間　14 時間　18 時間]

(2) (1)も参考にして，当時の工女がどのような労働条件で働いていたかを，「賃金」「時間」という語句を使って説明せよ。

(3) 日清戦争後，労働条件の改善を求める訴えが多くなった。これは，何が結成され始めたからか。

(4) 1910 年に社会主義者 12 名が死刑になる事件が起きた。①この事件を何というか。

②また，この事件で死刑となった社会主義者を 1 人答えよ。

(5) 政府は 1911 年に，12 歳未満の就業禁止，労働時間の制限などを定めた法律を制定した。何という法律か。

[解答](1) 14 時間　(2) 低賃金，長時間労働という条件下で働いた。　(3) 労働組合　(4)① 大逆事件　② 幸徳秋水

(5) 工場法

[公害]

[問題](2 学期中間)

　栃木県の足尾銅山では鉱毒が農産物などに被害を与える足尾銅山鉱毒事件が起こった。この公害に対する反対運動の中心になった図の人物は誰か。

[解答]田中正造

※出題頻度 :「田中正造◎」「足尾銅山(地図)○」

[問題](2 学期中間)

明治時代，銅山からの煙や廃液によって，渡良瀬川流域の住民が公害病で苦しんだ事件があった。①その銅山の名前を答えよ。

② その銅山の位置を地図のア～エから選べ。③また，そのとき，住民の側にたって事件の早期解決を図るために政府を相手にたたかった国会議員の名前を答えよ。

[解答]① 足尾銅山　② イ
③ 田中正造

【各ファイルへのリンク】

社会地理

[世界 1]　[世界 2]　[日本 1]　[日本 2]

社会歴史

[古代]　[中世]　[近世]　[近代]　[現代]

社会公民

[現代社会]　[人権]　[三権]　[経済]

理科 1 年

[光音力]　[化学]　[植物]　[地学]

理科 2 年

[電気]　[化学]　[動物]　[天気]

理科 3 年

[運動]　[化学]　[生殖]　[天体]　[環境]

【FdData 中間期末製品版のご案内】
このPDFファイルは,FdData 中間期末を PDF 形式(スマホ用)に変換したサンプルです。製品版の FdData 中間期末は Windows パソコン用のマイクロソフト Word(Office)の文書ファイル(A4 版)で,印刷・編集を自由に行うことができます。
◆FdData 中間期末の特徴
中間期末試験で成績を上げる秘訣は過去問を数多く解くことです。FdData 中間期末は,実際に全国の中学校で出題された試験問題をワープロデータ(Word 文書)にした過去問集です。各教科(社会・理科・数学)約 1800～2100 ページと豊富な問題を収録しているため,出題傾向の90%以上を網羅しております。
FdData 中間期末を購入いただいたお客様からは,「市販の問題集とは比べものにならない質の高さですね。子どもが受け

た今回の期末試験では，ほとんど同じような問題が出て今までにないような成績をとることができました。」,「製品の質の高さと豊富な問題量に感謝します。試験対策として，塾の生徒に FdData の膨大な問題を解かせたところ，成績が大幅に伸び過去最高の得点を取れました。」などの感想をいただいております。

◆サンプル版と製品版の違い

ホームページ上に掲載しておりますサンプルは，製品の全内容を掲載しており，どなたでも自由に閲覧できます。問題を「目で解く」だけでもある程度の効果をあげることができます。しかし，FdData 中間期末がその本来の力を発揮するのは印刷ができる製品版においてです。印刷した問題を，鉛筆を使って一問一問解き進むことで，大きな学習効果を得ることができます。さらに，製品版は，すぐ印

刷して使える「問題解答分離形式」，編集に適した「問題解答一体形式」，暗記分野で効果を発揮する「一問一答形式」(理科と社会)の 3 形式を含んでいますので，目的に応じて活用することができます。

FdData 中間期末の特徴(QandA 方式)

◆FdData 中間期末製品版の価格

社会地理，歴史，公民：各 7,800 円

理科 1 年，2 年，3 年：各 7,800 円

数学 1 年，2 年，3 年：各 7,800 円

ご注文は電話，メールで承っております。

FdData 中間期末(製品版)の注文方法

※パソコン版ホームページは，Google などで「fddata」で検索できます。

※Amazon でも販売しております。
（「amazon　fddata」で検索）

【Fd 教材開発】電話：092-811-0960
メール： info2@fdtext.com