【FdData 中間期末：中学歴史：大正】

[第一次世界大戦]

◆パソコン・タブレット版へ移動

[三国同盟と三国協商]

[問題](要点把握)

次の下線部 A～H で誤っているものを 2 つ選び，正しい語句に直せ。

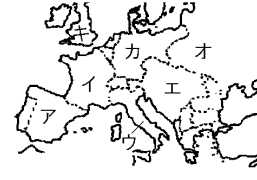

19 世紀末に強国として台頭した A ドイツ(図カ)は，B オーストリア(エ)や C イタリア(ウ)と D 三国同盟を結んだ。これに対し，A 国と対立関係にあった，E フランス(ア)，F ロシア(オ)，G イギリス(キ)は H 三国連合を結んだ。

[解答]E フランス(イ)，H 三国協商
※出題頻度 :「三国同盟◎ : ドイツ・オーストリア・イタリア○」「三国協商◎ : イギリス・フランス・ロシア○」
(頻度記号 : ◎(特に出題頻度が高い)，○(出題頻度が高い)，△(ときどき出題される))

[問題](入試問題)

三国協商国を▤，三国同盟国を■であらわした図として正しいものを次のア～エより１つ選び，記号で答えよ。

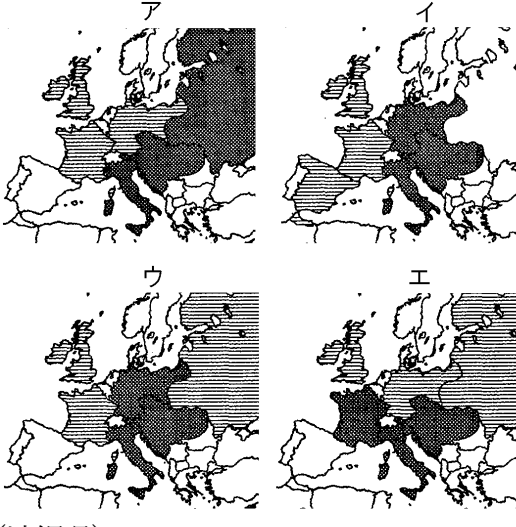

(沖縄県)

[解答]ウ

[問題](1 学期期末)

次の図は第一次世界大戦が始まる前の国際関係を示したものである。①，②に適する同盟関係を，A～C には適する国名を書け。

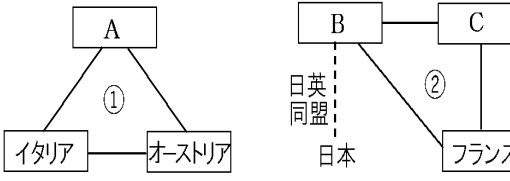

[解答]① 三国同盟　② 三国協商

A ドイツ　B イギリス　C ロシア

[バルカン半島]

[問題](後期期末)

次の文中の①，②に適語を入れよ。

20 世紀初め，右図 X の(　①　)半島は，列強の利害と民族の対立がからまって，国際紛争の火種となったことから，(　②　)と呼ばれていた。

[解答]① バルカン半島

② ヨーロッパの火薬庫

※出題頻度 :「バルカン半島(地図)◎」「ヨーロッパの火薬庫○」「列強の対立と民族の対立△」

[問題](1 学期期末)

次の文章中の①～⑥に適語を入れよ。

第一次世界大戦前のヨーロッパは,(　①　)・オーストリア・イタリアの三国が(　②　)という同盟を結び,(　③　)・フランス・ロシアの三国は(　④　)という同盟を結んでいた。この 2 つの陣営の対立に民族の対立が加わって,(　⑤　)半島は,ちょっとした衝突から大きな戦争に発展する危険な状態にあった。こうしたことから,(⑤)半島はヨーロッパの(　⑥　)と呼ばれた。

[解答]① ドイツ　② 三国同盟
③ イギリス　④ 三国協商
⑤ バルカン　⑥ 火薬庫

[第一次世界大戦の勃発]

[問題](要点把握)

次の下線部 A～L で誤っているものを 2 つ選び，正しい語句に直せ。

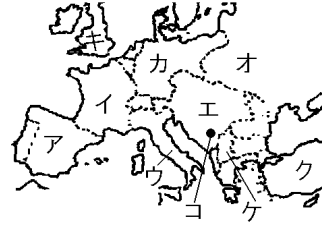

1914 年，バルカン半島の A サラエボ(右図コ)という都市で，B オーストラリア(エ)の皇位継承者夫妻が C セルビア(ケ)の青年に暗殺されるという D サラエボ事件が起こった。B 国(エ)は C 国(ケ)に宣戦布告し，E ドイツ(カ)，オスマン帝国(ク)などの F 同盟国が B 国(エ)につき，G イギリス(キ)，フランス(イ)，ロシア(オ)などの H 連合国が C 国(ケ)について，I 第二次世界大戦が始まった。

Jイタリア(ウ)は領土をめぐってB国(エ)と対立して，三国同盟から離脱し，連合国側に立って参戦した。日本はK日英同盟を理由に連合国側に立って参戦し，最初は中立の立場をとっていたLアメリカも1917年に連合国側に加わった。

[解答]B オーストリア(エ)，I 第一次世界大戦
※出題頻度：「サラエボ(事件)(地図)◎」「オーストリア(の皇位継承者夫妻)◎がセルビア(の青年)○によって暗殺される」「第一次世界大戦○」「同盟国：ドイツ・オーストリア・オスマン帝国△」「連合国：イギリス・フランス・ロシア・イタリア・アメリカ・日本△」

[問題](2 学期期末)

次の文中の①～④に適語を入れよ。

1914 年の夏，(　①　)の皇位継承者夫妻が(　②　)人の青年に(　③　)で暗殺される(③)事件が起こった。これをきっかけとして，オーストリア，ドイツ，オスマン帝国の同盟国側と，イギリス，フランス，ロシア，日本，アメリカ，イタリアの(　④　)側の間で，第一次世界大戦が始まった。

[解答]① オーストリア　② セルビア　③ サラエボ　④ 連合国

[問題](後期中間)

次の各問いに答えよ。

(1) 「ヨーロッパの火薬庫」と呼ばれていたバルカン半島における対立からおこった戦争は何か。

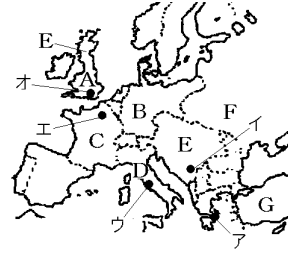

(2) (1)の戦争が始まったのは何年か。

(3) (1)の戦争は，①どこの国の皇位継承者夫妻が，②何という都市で暗殺されたことがきっかけでおこったか。③②の都市を図のア～オから選べ。④また，暗殺を実行したのは何という国の青年か。

(4) 図の A～G を①連合国側と，②同盟国側に分けよ。

(5) A の国との同盟を理由に参戦した国はどこか。

(6) はじめは中立の立場をとっていたが，1917 年に連合国側に立って参戦した国はどこか。

[解答](1) 第一次世界大戦　(2) 1914 年
(3)① オーストリア　② サラエボ
③ イ　④ セルビア　(4)① A，C，D，F　② B，E，G　(5) 日本　(6) アメリカ

[総力戦・新兵器]

[問題](1 学期期末改)

　第一次世界大戦では, 戦車, (　①　), 潜水艦, 毒ガスなどの新兵器が使われた。戦いは各国がその国の国民，経済，科学技術，資源などをすべて使い果たして戦う(　②　)戦になった。働き手が不足したため，女性も兵器工場などで働いた。戦死者数は約850万人とそれまでに例を見ない悲惨なものになった。文中の①, ②に適語を入れよ。

[解答]① 飛行機　② 総力

※出題頻度 :「新兵器 : 戦車，飛行機，潜水艦，毒ガス○」「総力戦○」「女性も兵器工場などで働いた△」

[問題](前期中間)

第一次世界大戦について述べた①～④の文で，正しいものには○，まちがっているものには×を書け。

① 国の経済や資源などを総動員して戦う総力戦になった。

② 戦車，飛行機，毒ガス，潜水艦などの新兵器が使用された。

③ 働き手が不足したため，女性も兵器工場などで働いた。

④ 戦場はヨーロッパに限られたので，犠牲者は少なかった。

[解答]① ○　② ○　③ ○　④ ×

[問題](1 学期期末)

次の各問いに答えよ。

(1) 第一次世界大戦のように，各国がその国の国民，経済，科学技術，資源などをすべて使い果たして戦う戦争を何というか。

(2) 第一次世界大戦で使用された新兵器を 4 つ答えよ。

[解答](1) 総力戦　(2) 戦車，飛行機，潜水艦，毒ガス

[問題](1 学期中間)

　第一次世界大戦がそれまでの戦争と異なっている点を述べた文として当てはまらないものを次のア～エから 1 つ選び，記号で答えよ。

ア　毒ガスなどの新兵器が使われた。

イ　最前線でざんごう戦が行われた。

ウ　国の経済や資源を総動員し，すぐに決着した。

エ　女性が兵器工場に動員された。

[解答]ウ

[問題](1 学期期末)

　次の写真は，第一次世界大戦の戦闘や社会の様子を写したものである。この写真が表す，第一次世界大戦の特色を 2 つ簡単に説明せよ。



[解答]飛行機や戦車などの新兵器が使われた。女性も兵器工場で働くなど総力戦になった。

[日本の参戦と二十一か条の要求]

[問題](要点把握)

次の下線部 A～I で誤っているものを 2 つ選び，正しい語句に直せ。

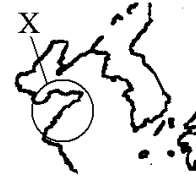

第一次世界大戦が始まると，日本は A 日米同盟を根拠に，B 連合国側に加わって参戦して，右図 X の C 山東半島にある D ドイツの根拠地を攻撃した。さらに，中国に対して E 三十一か条の要求を出し，「D 国が F 山東省にもっているいっさいの権利を日本にゆずる」「日本の G 旅順・大連の租借の期限，H 南満州鉄道の期限を 99 か年延長する」ことなどを中国の I 袁世凱の政府に認めさせた。

[解答]A 日英同盟，E 二十一か条の要求
※出題頻度:「日英同盟◎を根拠に連合国側△に立って参戦」「山東半島(地図)のドイツ△」「二十一か条の要求◎」「ドイツが山東省にもつ権益○」「旅順・大連△」「南満州鉄道△」「中華民国の袁世凱△」

[問題](1 学期期末)

第一次世界大戦が始まると，日本は連合国側にたって参戦した。次の各問いに答えよ。

(1) 日本は何を根拠に参戦したか。

(2) 1915 年，日本から中華民国の袁世凱政府に対して，「(　A　)(国名)が(　B　)省にもっているいっさいの権利を日本にゆずる」「日本の旅順・大連の租借の期限，南満州鉄道の期限を 99 か年延長する」ことなどを要求した。① A，B に適語を入れよ。②この要求を何というか。

[解答](1) 日英同盟　(2)①A ドイツ　B 山東　② 二十一か条の要求

[問題](3 学期)

1914 年に第一次世界大戦が始まった。これについて，次の各問いに答えよ。

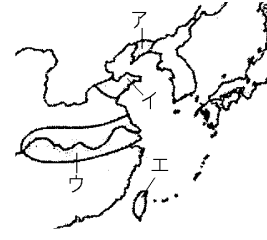

(1) 日本は何という同盟を根拠として参戦したか。

(2) 日本は，連合国側，同盟国側のどちらの側に立って参戦したか。

(3) 日本は，この戦争で主にどの国と戦ったか。

(4) (3)の国の中国における勢力範囲を図のア～エから 1 つ選べ。

(5) 日本が参戦した目的を「権益」という語句を使って説明せよ。

(6) 次は，1915 年に，日本が中国に示した要求の一部である。これについて①～④に答えよ。

一　中国政府は，ドイツが(　A　)省にもっているいっさいの権益を日本にゆずる。

一　日本の(　B　)・大連の租借の期限，(　C　)鉄道の期限を 99 か年延長する。

① この要求を何というか。

② 資料の A～C にあてはまる語句をそれぞれ書け。

③ この要求が出されたときの中国の国名を答えよ。

④ ③の国の大総統であったのは誰か。

[解答](1) 日英同盟　(2) 連合国側
(3) ドイツ　(4) イ　(5) 中国における権益をのばすため。　(6)① 二十一か条の要求　②A 山東　B 旅順　C 南満州
③ 中華民国　④ 袁世凱

[ロシア革命とシベリア出兵]

[問題](要点把握)

　次の下線部 A～J で誤っているものを 2 つ選び，正しい語句に直せ。

　第一次世界大戦が長引くにつれ，ロシア国内では国民の生活が苦しくなり，労働者のストライキや兵士の反乱が続き，かれらの代表会議(A ソビエト)が各地に設けられた。こうした中，B1917 年に右図の C スターリンを指導者とする D ロシア革命が起こった。この革命政府は，史上初の E 社会主義の政府であった。1918 年，ロシアは F ドイツと単独で講和した。



ロシア革命によって，G 社会主義の影響が拡大することをおそれた H イギリス，フランス，アメリカ，日本などは 1918 年に I ロシア出兵を行った。革命政府は，内戦と列強の干渉戦争を切り抜け，1922 年，J ソビエト社会主義共和国連邦(略称はソ連)が世界で初めての社会主義国として成立した。

[解答]C レーニン，I シベリア出兵
※出題頻度 :「レーニン◎」「1917 年△にロシア革命○」「社会主義△」「ソビエト△」「ドイツと単独講和△」「シベリア出兵○ : 社会主義の影響が拡大するのをおそれたから○」「ソビエト社会主義共和国連邦○(1922 年△)」

[問題](1 学期期末)

次の各問いに答えよ。

(1) 第一次世界大戦中の 1917 年，ロシアで革命がおこった。①何という革命か。②また，その革命の指導者を答えよ。

(2) (1)に対して，イギリス，フランス，アメリカ，日本などは軍隊を送って干渉を行った。これを何というか。

(3) 内戦と(1)を切り抜け，1922 年に誕生した社会主義国の正式名称を答えよ。

[解答](1)① ロシア革命　② レーニン

(2) シベリア出兵

(3) ソビエト社会主義共和国連邦

[問題](2 学期中間改)

次の文章中の①～⑦に適語を入れよ。

第一次世界大戦が長引くにつれ，ロシア国内では国民の生活が苦しくなり，労働者のストライキや兵士の反乱が続き，(　①　)という代表会議が各地に設けられた。1917 年に図の(　②　)を指導者とする(　③　)革命がおこり，(　④　)(国名)と単独講和条約を結び戦争から離脱した。(　⑤　)主義の影響が拡大することをおそれたイギリス，フランス，アメリカ，日本などは，(　⑥　)出兵を行った。ロシアの革命政府は，内戦と列強の干渉戦争を切り抜け，1922 年には，(　⑦　)(略称はソ連)を樹立した。

[解答]① ソビエト　② レーニン
③ ロシア　④ ドイツ　⑤ 社会
⑥ シベリア　⑦ ソビエト社会主義共和国連邦

[問題](1 学期期末)
　ロシア革命に対し，イギリス，フランス，アメリカ，日本などはシベリア出兵を行ったが，その理由を「影響」という語句を使って説明せよ。

[解答]社会主義の影響が拡大するのをおそれたから

[問題](入試問題)

　次のア～エのことがらを，年代の古い順に並べ，符号で書け。

ア　日本，アメリカ，イギリス，フランスは，シベリア出兵を開始した。

イ　オーストリアがセルビアに宣戦布告し，第一次世界大戦が起こった。

ウ　ロシアでレーニンの指導のもと，ロシア革命がおこった。

エ　ソビエト社会主義共和国連邦が成立した。

(岐阜県改)

[解答]イ→ウ→ア→エ

【各ファイルへのリンク】

社会地理

[世界 1]　[世界 2]　[日本 1]　[日本 2]

社会歴史

[古代]　[中世]　[近世]　[近代]　[現代]

社会公民

[現代社会]　[人権]　[三権]　[経済]

理科 1 年

[光音力]　[化学]　[植物]　[地学]

理科 2 年

[電気]　[化学]　[動物]　[天気]

理科 3 年

[運動]　[化学]　[生殖]　[天体]　[環境]

【FdData 中間期末製品版のご案内】
このPDFファイルは,FdData 中間期末を PDF 形式(スマホ用)に変換したサンプルです。製品版の FdData 中間期末は Windows パソコン用のマイクロソフト Word(Office)の文書ファイル(A4 版)で,印刷・編集を自由に行うことができます。
◆FdData 中間期末の特徴
中間期末試験で成績を上げる秘訣は過去問を数多く解くことです。FdData 中間期末は,実際に全国の中学校で出題された試験問題をワープロデータ(Word 文書)にした過去問集です。各教科(社会・理科・数学)約 1800～2100 ページと豊富な問題を収録しているため,出題傾向の90%以上を網羅しております。
FdData 中間期末を購入いただいたお客様からは,「市販の問題集とは比べものにならない質の高さですね。子どもが受け

た今回の期末試験では，ほとんど同じような問題が出て今までにないような成績をとることができました。」,「製品の質の高さと豊富な問題量に感謝します。試験対策として，塾の生徒に FdData の膨大な問題を解かせたところ，成績が大幅に伸び過去最高の得点を取れました。」などの感想をいただいております。

◆サンプル版と製品版の違い

ホームページ上に掲載しておりますサンプルは，製品の全内容を掲載しており，どなたでも自由に閲覧できます。問題を「目で解く」だけでもある程度の効果をあげることができます。しかし，FdData 中間期末がその本来の力を発揮するのは印刷ができる製品版においてです。印刷した問題を，鉛筆を使って一問一問解き進むことで，大きな学習効果を得ることができます。さらに，製品版は，すぐ印

刷して使える「問題解答分離形式」，編集に適した「問題解答一体形式」，暗記分野で効果を発揮する「一問一答形式」(理科と社会)の 3 形式を含んでいますので，目的に応じて活用することができます。

FdData 中間期末の特徴(QandA 方式)

◆FdData 中間期末製品版の価格

社会地理，歴史，公民：各 7,800 円

理科 1 年，2 年，3 年：各 7,800 円

数学 1 年，2 年，3 年：各 7,800 円

ご注文は電話，メールで承っております。

FdData 中間期末(製品版)の注文方法

※パソコン版ホームページは，Google などで「fddata」で検索できます。

※Amazon でも販売しております。
（「amazon　fddata」で検索）

【Fd 教材開発】電話：092-811-0960
メール： info2@fdtext.com