【FdData 中間期末：中学歴史：昭和】
[満州事変～二・二六事件]

◆パソコン・タブレット版へ移動

[金融恐慌→世界恐慌→昭和恐慌]
[問題](1 学期期末改)

次の文章中の①，②に適語を入れよ。

1923 年の関東大震災は経済に大きな打撃をあたえ，その後の混乱などから 1927 年には(　①　)恐慌が起こり，多くの銀行が休業に追いこまれた。1929 年にアメリカから始まった世界恐慌は，1930 年に入って日本にもおよび，アメリカ向けの生糸の輸出が激減したため，まゆなどの農産物の価格が暴落した。

さらに，大凶作に見舞われた東北地方と北海道では，ききんが起こり，女性の「身売り」や，「欠食児童」が問題になった。都市では，企業が数多く倒産し，失業者が増大した。また，労働争議や小作争議が多発した。このような深刻な不況を(　②　)恐慌という。

[解答]① 金融　② 昭和
※出題頻度：「金融恐慌〇」「世界恐慌→昭和恐慌△」「生糸の輸出が激減△」

[問題](1 学期期末)

次の A～D のできごとを古い順に並び替えよ。

A　関東地方を中心に関東大震災が起き，大きな被害を受けた。

B　日本経済が深刻な不況となる昭和恐慌が始まった。

C　ニューヨークの市場の株価が大暴落し世界恐慌が始まった。

D　日本で銀行の休業や倒産があいつぐ金融恐慌がおこった。

[解答]A→D→C→B

[問題](1 学期期末)

次の各問いに答えよ。

(1) 関東大震災で経済が大きな打撃を受け，その後の混乱から，1927 年に取りつけさわぎが起こり，多くの銀行が休業，倒産する恐慌に見舞われた。この恐慌を何恐慌というか。

(2) 生糸の最大の輸出先であるアメリカで 1929 年に始まった世界恐慌によって，日本の経済も大きな打撃を受け，深刻な不況におそわれた。これを何恐慌というか。

(3) (2)の恐慌時の日本経済にあてはまらないものを，次のア～オから１つ選べ。

ア　アメリカ向けの生糸の輸出が激減したため，まゆなどの農産物の価格が暴落した。

イ　農村では農作物の価格が暴落し，生活は苦しくなった。

ウ　労働争議や小作争議が多発した。

エ　欠食児童，娘の身売りなどの社会現象がみられた。

オ　アメリカからの輸入がとだえたため，国内で重化学工業が発達した。

[解答](1) 金融恐慌　(2) 昭和恐慌
(3) オ

[難航する外交]
[問題](2 学期期末改)
　次の文章中の①，②に適語を入れよ。
　日本などの列強が持つ権益の回収を唱える蔣介石に対し，危機感をいだいた関東軍は，満州の直接支配を目指して，1928 年に満州の軍閥だった(　①　)を爆殺した。浜口雄幸内閣は，中国全土をほぼ統一した国民政府との関係改善を図る一方で，軍備を縮小して国民の負担を減らすため，イギリスやアメリカなどと協調して，1930 年に(　②　)海軍軍縮条約を結んだ。しかし，一部の軍人や国家主義者などはこれを激しく攻撃した。首相の浜口雄幸は，右翼の一青年に狙撃されて重傷を負い，退陣に追い込まれた。
[解答]① 張作霖　② ロンドン
※出題頻度 :「蔣介石△」「張作霖△」「ロンドン海軍軍縮条約△」「浜口雄幸△」

[問題](後期中間)

次の各問いに答えよ。

(1) 南京に国民政府を作り，各地の軍閥によってばらばらに支配されていた中国の統一を進め，日本などの列強が持っていた権益の回収を唱えた国民党の指導者は誰か。

(2) (1)の権益回収の動きに危機感をいだいた関東軍は，満州の直接支配を目指して，1928 年に満州のある軍閥を爆殺した。その軍閥の名前を答えよ。

(3) 日本は，1930 年に軍縮会議に参加し，何という軍縮条約に調印したか。

(4) (3)の条約を結んだときの日本の首相の名前を答えよ。

[解答](1) 蔣介石　(2) 張作霖　(3) ロンドン海軍軍縮条約　(4) 浜口雄幸

[満州事変]

[問題](要点把握)

次の下線部 A～F で誤っているものを 2 つ選び，正しい語句に直せ。

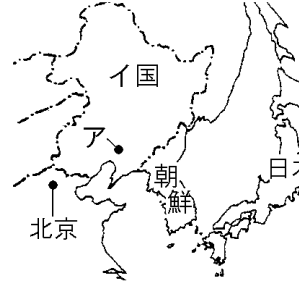

1931 年，A 関東軍は奉天郊外の B 柳条湖(図のア)で C 南満州鉄道の線路を爆破し，これを中国軍のしわざであるとして軍事行動を起こし，満州全土を占領した。これを D 支那事変という。A 軍はさらに，1932 年に清朝最後の皇帝 E 不義を元首とする F 満州国(図のイ)をつくった。

[解答]D 満州事変，E 溥儀

※出題頻度：「柳条湖(地図)○」「関東軍○が南満州鉄道○を爆破」「満州事変◎」「満州国(地図)○」「溥儀○(清の最後の皇帝△)」

[問題](1 学期中間)

次の各問いに答えよ。

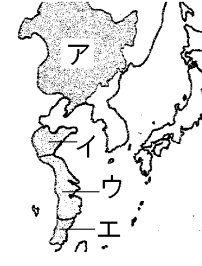

(1) 1931 年，関東軍が奉天郊外の柳条湖で満鉄の線路を爆破したことをきっかけに満州を占領したことを何というか。

(2) (1)の翌年，軍部は清朝最後の皇帝を元首とする国を建国した。①その国名を書け。②また，その場所を地図中のア～エから１つ選べ。

(3) (2)の清朝最後の皇帝の名前を答えよ。

[解答](1) 満州事変　(2)① 満州国
② ア　(3) 溥儀

[問題](1 学期期末)

次の文章中の①～⑧に適語を入れよ。

中国では(　①　)の率いる国民党が中国の統一を進め，満州における日本の権益を回収することを表明した。これに危機感を持った(　②　)(現地の日本軍)は，1931 年，(　③　)湖(地図中の(　④　))で(　⑤　)鉄道を爆破し，これを中国軍のしわざであるとして(　⑥　)事変を起こし，満州全土を占領した。(②)は，翌 1932 年に，中国の清朝最後の皇帝の(　⑦　)を元首とする(　⑧　)(国名)をつくった。

[解答]① 蔣介石　② 関東軍　③ 柳条　④ イ　⑤ 南満州　⑥ 満州　⑦ 溥儀　⑧ 満州国

[五・一五事件]

[問題](要点把握)

次の下線部 A～E で誤っているものを 2 つ選び，正しい語句に直せ。

若槻内閣にかわった A 犬養太(右図)内閣は，B 満州国の承認に反対する方針をとったが，これに対し，C1932 年，海軍将校の一団が A 首相を殺害した。この事件を D 二・二六事件という。これによって，E 政党内閣の時代が終わり，軍人が首相になることが多くなった。

[解答]A 犬養毅，D 五・一五事件
※出題頻度：「五・一五事件◎」「犬養毅◎」「政党内閣の時代が終わった○」

[問題](1 学期期末)
　次の文章中の①～③に適語を入れよ。
　関東軍は満州事変を起こして，満州国を勝手に建国した。若槻内閣にかわった(　①　)(右の写真)内閣は，満州国の承認に反対する方針をとった。これに対し，1932 年，海軍将校の一団が(①)首相を殺害する事件を起こした。この事件を(　②　)という。これによって 8 年間続いた(　③　)内閣の時代が終わった。

[解答]① 犬養毅　② 五・一五事件
③ 政党

[問題](1 学期中間)

右の新聞記事は，1932 年に起きた事件を報じたものである。次の各問いに答えよ。

首相遂に兇手に倒る

昨夜十一時廿六分絶命

犬養総裁は堂々に決定

後継総裁

(1) この事件は何と呼ばれるか。

(2) (1)の事件で暗殺された写真の首相は誰か。

(3) (2)の人物が暗殺された理由を，何について軍部と対立していたかを考えて，簡潔に書け。

(4) (1)の事件は日本の政治にどのような影響を及ぼしたか説明せよ。

[解答](1) 五・一五事件　(2) 犬養毅

(3) 満州国の承認に反対したから。

(4) 政党内閣の時代が終わった。

[国際連盟を脱退]

[問題](要点把握)

　次の下線部 A〜F で誤っているものを 2 つ選び，正しい語句に直せ。

　A 満州事変はアメリカを中心に各国の反発を招き，中国からの訴えで B 国際連合はC リットン調査団を派遣して調査を行い，1933 年，総会で D 満州国を認めず，E 日本軍の撤兵を求める勧告を採択した。これに反発した日本は F 国際連合を脱退し，国際的に孤立することになった。

[解答]B 国際連盟，F 国際連盟を脱退

※出題頻度 :「国際連盟△ : リットン調査団〇」「満州国を認めず日本軍の撤兵を要求◎」「日本は国際連盟を脱退◎」

[問題](1 学期期末)

次の各問いに答えよ。

(1) 満州事変と満州国建国後，国際連盟は中国側の要請にもとづき図の調査団を派遣したが，その団長の名前を答えよ。

(2) (1)の調査団を派遣して調査を行い，総会で満州国の不承認ともう 1 つ何の勧告を採択したか。

(3) (2)に対して日本はどのような行動をとったか。

[解答](1) リットン　(2) 日本軍の撤兵

(3) 国際連盟を脱退した。

[問題](1 学期期末)

次のア～エのうち適切でない文を１つ記号で選べ。

ア　満州の主要地域を占領した関東軍は，清朝の最後の皇帝であった薄儀を執政とする満州国を建国した。

イ　国際連盟は，中国の訴えによってリットン調査団を派遣し，満州国を認めず日本軍の撤兵を求める勧告を採択した。

ウ　関東軍が北京郊外の盧溝橋で南満州鉄道を爆破する事件を起こした。

エ　1933 年に日本は国際連盟を脱退し，国際的に孤立していった。

[解答]ウ

[問題](後期中間)

次の資料について，後の各問いに答えよ。

聯盟よ！ばらさよ協力の方途盡く

總會勸告書を採擇し
我が代表堂々退場す
四十一對一票棄權一

支那側勸告受諾
第六項の權利强調
第五項の陳述書
けふ提出に

けふ閣議で正式に
脱退方針を決定
聯盟離脱の最終手續

北票
不正
崔興武

米露兩
動き
松岡外相
けふ入ロ

(1) 資料の新聞記事は，どのようなことを報じているか。「日本が～したこと」という形で答えよ。

(2) 日本が(1)の行動をとったのは，国際連盟からある勧告を受けたためである。勧告された内容を，「満州国」「撤兵」という語句を使って書け。

[解答](1) 日本が国際連盟を脱退したこと。　(2) 満州国を認めず，日本軍の撤兵を求めた。

[問題](入試問題)

次の資料は，日本，アメリカ，イギリス，ドイツの国際連盟への加盟状況を示している。日本に当たるものを，ア～エから１つ選び，符号で書け。

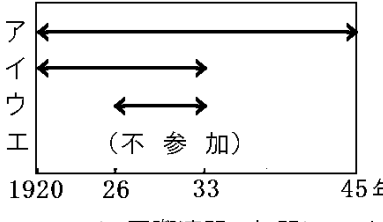

⟷ は，国際連盟に加盟していた期間を示す。

(岐阜県)

[解答]イ

[二・二六事件]

[問題](2 学期期末)

　1936 年, 陸軍の青年将校が首相官邸や警視庁を襲撃する(　X　)事件が起こったが, これ以降, 軍部は政治的な発言力を強めていった。文中の X に適語を入れよ。

[解答]二・二六

※出題頻度：「二・二六事件◎」「軍部は政治的な発言力を強めていった△」

[問題](1 学期中間)

次の各問いに答えよ。

(1) 右の資料は，1936 年に東京を占拠した反乱軍の将兵らに配布されたビラである。この事件を何というか。


下士官兵ニ告グ

一、今カラデモ遅クナイカラ原隊ヘ歸レ

二、抵抗スル者ハ全部逆賊デアルカラ射殺スル

三、オ前達ノ父母兄弟ハ國賊トナルノデ誓泣イテオルゾ

二月二十九日　戒嚴司令部

(2) (1)について正しく述べているものを，次のア～エから 1 つ選べ。

ア　陸軍の青年将校が首相官邸を襲撃し，犬養毅首相を暗殺した。

イ　海軍将校の一団が首相官邸や警視庁を襲撃した。

ウ　陸軍の青年将校が首相官邸や警視庁を襲撃した。

エ　海軍将校の一団が首相官邸を襲撃し，犬養毅首相を暗殺した。

(3) 五・一五事件や(1)の事件のあと，日本の政治はどのようになっていったか。「政治的な発言力」という語句を使って簡潔に説明せよ。

[解答](1) 二・二六事件　(2) ウ　(3) 軍部が政治的な発言力を強めていった。

[問題](前期期末)

次の[　　]のできごとを古い順に並べよ。

[五・一五事件　満州事変　二・二六事件　世界恐慌　満州国建国　国際連盟脱退]

[解答]世界恐慌→満州事変→満州国建国→五・一五事件→国際連盟脱退→二・二六事件

【各ファイルへのリンク】

社会地理

[世界 1]　[世界 2]　[日本 1]　[日本 2]

社会歴史

[古代]　[中世]　[近世]　[近代]　[現代]

社会公民

[現代社会]　[人権]　[三権]　[経済]

理科 1 年

[光音力]　[化学]　[植物]　[地学]

理科 2 年

[電気]　[化学]　[動物]　[天気]

理科 3 年

[運動]　[化学]　[生殖]　[天体]　[環境]

【FdData 中間期末製品版のご案内】
このPDFファイルは,FdData 中間期末を PDF 形式(スマホ用)に変換したサンプルです。製品版の FdData 中間期末は Windows パソコン用のマイクロソフト Word(Office)の文書ファイル(A4 版)で,印刷・編集を自由に行うことができます。
◆FdData 中間期末の特徴
中間期末試験で成績を上げる秘訣は過去問を数多く解くことです。FdData 中間期末は,実際に全国の中学校で出題された試験問題をワープロデータ(Word 文書)にした過去問集です。各教科(社会・理科・数学)約 1800～2100 ページと豊富な問題を収録しているため,出題傾向の90%以上を網羅しております。
FdData 中間期末を購入いただいたお客様からは,「市販の問題集とは比べものにならない質の高さですね。子どもが受け

た今回の期末試験では，ほとんど同じような問題が出て今までにないような成績をとることができました。」,「製品の質の高さと豊富な問題量に感謝します。試験対策として，塾の生徒に FdData の膨大な問題を解かせたところ，成績が大幅に伸び過去最高の得点を取れました。」などの感想をいただいております。

◆サンプル版と製品版の違い

ホームページ上に掲載しておりますサンプルは，製品の全内容を掲載しており，どなたでも自由に閲覧できます。問題を「目で解く」だけでもある程度の効果をあげることができます。しかし，FdData 中間期末がその本来の力を発揮するのは印刷ができる製品版においてです。印刷した問題を，鉛筆を使って一問一問解き進むことで，大きな学習効果を得ることができます。さらに，製品版は，すぐ印

刷して使える「問題解答分離形式」，編集に適した「問題解答一体形式」，暗記分野で効果を発揮する「一問一答形式」(理科と社会)の 3 形式を含んでいますので，目的に応じて活用することができます。

FdData 中間期末の特徴(QandA 方式)

◆FdData 中間期末製品版の価格

社会地理，歴史，公民：各 7,800 円

理科 1 年，2 年，3 年：各 7,800 円

数学 1 年，2 年，3 年：各 7,800 円

ご注文は電話，メールで承っております。

FdData 中間期末(製品版)の注文方法

※パソコン版ホームページは，Google などで「fddata」で検索できます。

※Amazon でも販売しております。
（「amazon　fddata」で検索）

【Fd 教材開発】電話：092-811-0960
メール： info2@fdtext.com