【FdData 中間期末：中学歴史：現代】

[冷戦終結後の世界]

◆パソコン・タブレット版へ移動

[冷戦の終結]

[問題](要点把握)

　次の下線部 A～J で誤っているものを 2 つ選び，正しい語句に直せ。

　1979 年に A アフガニスタンに侵攻した B ソ連は軍事費の負担などによって国力が低下していた。1980 年代後半, 東ヨーロッパ諸国では民主化運動が高まり, 1989 年に共産党政権が次々とたおれた。

C ドイツでは 1989 年 11 月に，冷戦の象徴であった D ベルリンの壁が取りはらわれ，同年 12 月には，E アメリカのブッシュ大統領と F ソ連のゴルバチョフ書記長が図の X の G コルシカ島で G 会談を行い，H 冷戦の終結を宣言した。1990 年には東西に分裂していた I ドイツが統一し，さらに，1991 年に J ソ連が解体した。

[解答]D ベルリンの壁，G マルタ
※出題頻度:「ソ連のアフガニスタン侵攻△」「ベルリンの壁の崩壊◎」「マルタ会談(マルタ島)◎」「ソ連のゴルバチョフ○」「アメリカのブッシュ○」「冷戦の終結○」「ドイツの統一○」「ソ連の解体○」

[問題](1 学期期末)

　次のア～オを起こった順番に並び替えて，記号で答えよ。

ア　東西ベルリンを隔てていた建築物が取り壊された。

イ　ソ連が崩壊し，ロシア共和国などができた。

ウ　東西ドイツが統一した。

エ　アメリカのブッシュ大統領とソ連のゴルバチョフ書記長がマルタ島で会談し，冷戦が終了した。

オ　アフガニスタンに侵攻したソ連は，軍事費の負担などによって国力が低下した。

[解答]オ→ア→エ→ウ→イ

[問題](3 学期)

次の各問いに答えよ。

図1

図2

(1) 図 1 の写真は 1989 年にドイツであるものが取りはらわれたときの様子である。あるものとは何か。

(2) 図 2 の写真の会談の名前を答えよ。

(3) (2)の会談では何が宣言されたか。

(4) 図 2 の A の人物の名前を答えよ。

(5) (2)の会談の後, 1990 年に東西に分裂していた(①)が統一し, さらに, 1991 年に(②)が解体した。文中の①, ②に適語を入れよ。

[解答](1) ベルリンの壁 (2) マルタ会談 (3) 冷戦の終結 (4) ゴルバチョフ (5)① ドイツ ② ソ連

[問題](2 学期中間)

次の各問いに答えよ。

(1) 1979 年にソ連はどこに侵攻したか。

(2) ドイツでは，1989 年 11 月，冷戦のシンボルともいえる，図のあるものが市民によって壊された。このとき壊されたあるものとは何か。

(3) 右の写真は，1989 年 12 月に行われたアメリカとソ連の首脳による会談後の記者会見の様子である。それぞれの首脳の名前を答えよ。

(4) ①(3)の会談が行われた島を何というか。②また。その位置を右の地図中のA～Cから選べ。

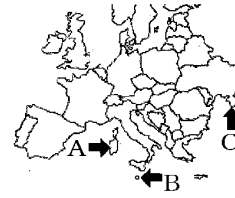

(5) 1990年，東西に分かれていたヨーロッパのある国が統一された。何という国か。

(6) 1991 年に解体したのは何という国か。

(7) (3)の会談，(5)や(6)などによって，第二次世界大戦後，長く続いていた東西の対立が終結した。何という対立が終結したか。漢字2字で答えよ。

[解答](1) アフガニスタン　(2) ベルリンの壁　(3)アメリカ：ブッシュ　ソ連：ゴルバチョフ　(4)① マルタ島　② B　(5) ドイツ　(6) ソ連　(7) 冷戦

[国際協調への動き]

[問題](1 学期期末)

次の①，②にあてはまるものを下の[　　]内よりそれぞれ選べ。

① 1975 年から先進諸国の間で毎年 1 回開かれている首脳会議。

② 経済や政治の地域統合をはかるため 1993 年に発足したヨーロッパの組織。

[EC　EU　APEC　サミット]

[解答]① サミット　② EU

※出題頻度：「サミット△」「EU△」「APEC△」

[問題](前期期末)

次の各問いに答えよ。

(1) 1975 年に始まった主要国首脳会議をカタカナで何というか。

(2) 現在(1)に参加している 7 か国は何と呼ばれているか。

(3) 1989 年に発足したアジアをはじめとする太平洋を囲む諸国が加盟し，地域協力をゆるやかな枠組みの中で進めている組織は何か。

(4) 1993 年に，ヨーロッパの国々で発足した組織を何というか。

[解答](1) サミット　(2) G7　(3) APEC　(4) EU

[同時多発テロなど]

[問題](要点把握)

次の下線部A〜Gで誤っているものを2つ選び，正しい語句に直せ。



1990年にA<u>イラク</u>がクウェートに侵攻したが，これに対し，翌年，B<u>アメリカ</u>を中心とする多国籍軍がA国を攻撃するC<u>沿岸戦争</u>が起こった。2001年9月11日B国のD<u>ニューヨーク</u>などで大規模なE<u>同時頻発テロ</u>(図)が発生し，それをきっかけに翌年，アメリカは，F<u>アフガニスタン</u>を攻撃し，さらに，2003年にはG<u>イラク</u>を攻撃した(G戦争)。

[解答]C湾岸戦争，E同時多発テロ

※出題頻度：「1991 年湾岸戦争△」「2001 年同時多発テロ○，アメリカのニューヨーク○」「2002 年アメリカがアフガニスタンを攻撃△」「2003 年イラク戦争△」

[問題](2 学期中間)

　次のア～エの出来事を起こった順に並びかえよ。

ア　アメリカがアフガニスタンを攻撃した。

イ　アメリカのニューヨークなどで同時多発テロが発生した。

ウ　イラクがクウェートに侵攻した翌年，湾岸戦争が起きた。

エ　イラク戦争が起きた。

[解答] ウ→イ→ア→エ

[問題](前期期末改)

次の文中の①～⑦に適語を入れよ。

・ 1990 年に(①)(国名)がクウェートに侵攻した。これに対し，1991 年に，国際連合が多国籍軍を派遣して(②)戦争が起こった。

・2001 年，図のように(③)(国名)の(④)(都市名)などで大規模な(⑤)テロが発生した。これに対し，テロを支援する危険な国であるとして，(③)は(⑥)を攻撃し，さらに，2003 年に(⑦)戦争を起こした。

[解答]① イラク ② 湾岸 ③ アメリカ ④ ニューヨーク ⑤ 同時多発 ⑥ アフガニスタン ⑦ イラク

[地域紛争と PKO]

[問題](1 学期期末)

　国際連合は，紛争やテロが起こっている地域の平和を守るための活動をおこなっている。この活動を何というか。アルファベット 3 文字で答えよ。

[解答]PKO

※出題頻度：「PKO(国連平和維持活動)〇」「日本もカンボジアにおける PKO に参加△」

[問題](2 学期中間)

次の各問いに答えよ。

(1) 冷戦の終結後, 地域紛争が世界各地で起こるようになったが, 地図の a, b で示した紛争が起きた地域名をそれぞれ下の[　　]から 1 つずつ選べ。

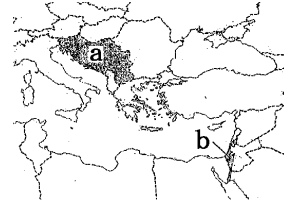

[キプロス　パレスチナ　ソマリア　ユーゴスラビア]

(2) 国連は, 紛争やテロが起こっている(1)の地域などの平和を守るための活動をおこなっている。この活動を何というか。

(3) 1992 年, 日本がはじめて(2)の活動に参加し, 自衛隊を派遣した国はどこか。

[解答](1)a ユーゴスラビア　b パレスチナ　(2) PKO(国連平和維持活動)
(3) カンボジア

[地球温暖化問題]
[問題](2 学期中間)
　1997 年, 日本で国際環境会議が開かれた。中心となった議題から何会議と呼ばれているか。開かれた都市名も入れて答えよ。

[解答]地球温暖化防止京都会議
※出題頻度：この単元はときどき出題される。

[問題](前期中間)

次の文章中の①～④に適語を入れよ。

二酸化炭素などの温室効果ガスが原因で起こる(　①　)という環境問題を防止するために 1997 年 12 月に，日本の(　②　)で会議が行われ，(　③　)が採択され，各国が削減目標を定めた。しかし，アメリカの脱退や発展途上国の不参加により，不十分な点があったため，その後も交渉が続いた。そして，2015 年 12 月には(　④　)協定が採択され，190 か国以上が削減目標を定めるまでに至った。

[解答]① 地球温暖化　② 京都
③ 京都議定書　④ パリ

[問題](2 学期中間)

　近年，さまざまな国の代表者が集まって地球温暖化などについて話し合っている。なぜ各国の代表者が参加するのか。その理由を「グローバル化」という語句を使って説明せよ。

[解答]グローバル化が進む中で，一国だけでは解決できない問題が起きているから。

【各ファイルへのリンク】

社会地理

[世界 1]　[世界 2]　[日本 1]　[日本 2]

社会歴史

[古代]　[中世]　[近世]　[近代]　[現代]

社会公民

[現代社会]　[人権]　[三権]　[経済]

理科 1 年

[光音力]　[化学]　[植物]　[地学]

理科 2 年

[電気]　[化学]　[動物]　[天気]

理科 3 年

[運動]　[化学]　[生殖]　[天体]　[環境]

【FdData 中間期末製品版のご案内】
この PDF ファイルは, FdData 中間期末を PDF 形式(スマホ用)に変換したサンプルです。製品版の FdData 中間期末は Windows パソコン用のマイクロソフト Word(Office)の文書ファイル(A4 版)で, 印刷・編集を自由に行うことができます。
◆FdData 中間期末の特徴
中間期末試験で成績を上げる秘訣は過去問を数多く解くことです。FdData 中間期末は, 実際に全国の中学校で出題された試験問題をワープロデータ(Word 文書)にした過去問集です。各教科(社会・理科・数学)約 1800～2100 ページと豊富な問題を収録しているため, 出題傾向の 90%以上を網羅しております。
FdData 中間期末を購入いただいたお客様からは,「市販の問題集とは比べものにならない質の高さですね。子どもが受け

た今回の期末試験では，ほとんど同じような問題が出て今までにないような成績をとることができました。」,「製品の質の高さと豊富な問題量に感謝します。試験対策として，塾の生徒に FdData の膨大な問題を解かせたところ，成績が大幅に伸び過去最高の得点を取れました。」などの感想をいただいております。

◆サンプル版と製品版の違い

ホームページ上に掲載しておりますサンプルは，製品の全内容を掲載しており，どなたでも自由に閲覧できます。問題を「目で解く」だけでもある程度の効果をあげることができます。しかし，FdData 中間期末がその本来の力を発揮するのは印刷ができる製品版においてです。印刷した問題を，鉛筆を使って一問一問解き進むことで，大きな学習効果を得ることができます。さらに，製品版は，すぐ印

刷して使える「問題解答分離形式」，編集に適した「問題解答一体形式」，暗記分野で効果を発揮する「一問一答形式」(理科と社会)の 3 形式を含んでいますので，目的に応じて活用することができます。

FdData 中間期末の特徴(QandA 方式)

◆FdData 中間期末製品版の価格

社会地理，歴史，公民：各 7,800 円

理科 1 年，2 年，3 年：各 7,800 円

数学 1 年，2 年，3 年：各 7,800 円

ご注文は電話，メールで承っております。

FdData 中間期末(製品版)の注文方法

※パソコン版ホームページは，Google などで「fddata」で検索できます。

※Amazon でも販売しております。
（「amazon　fddata」で検索）

【Fd 教材開発】電話：092-811-0960
メール： info2@fdtext.com