【FdData 高校入試：中学社会公民：社会保障・環境】

[社会保障の法的根拠・社会保障の 4 本柱／社会保険／公的扶助・社会福祉・公衆衛生／少子高齢化と社会保障／公害の防止と環境の保全／循環型社会／FdData 入試製品版のご案内]

[FdData 入試ホームページ]掲載の pdf ファイル(サンプル)一覧]
※次のリンクは[Shift]キーをおしながら左クリックすると，新規ウィンドウが開きます
社会： [社会地理]，[社会歴史]，[社会公民]
理科： [理科 1 年]，[理科 2 年]，[理科 3 年]
数学： [数学 1 年]，[数学 2 年]，[数学 3 年]
※全内容を掲載しておりますが，印刷はできないように設定しております

【】社会保障
【】社会保障の法的根拠・社会保障の 4 本柱
[問題]
次の文の内容と最もかかわりのある権利は，自由権，生存権，財産権，環境権のうちのどれか。
収入がとだえたら，人間としての最低限度の生活さえ営むことができなくなる。そうした場合には，生活保護法などによって生活を保障される。また，人々が安定した生活を送ることができるように，老齢年金や障害年金，健康保険などの制度が設けられている。
(埼玉県)
[解答欄]

[解答]生存権
[解説]
資本主義の初期のころ,「毎日のパンがほしかったら，額(ひたい)に汗(あせ)を流して働くことだ。働かざる者，食うべからず」と考えられ，貧困(ひんこん)は怠惰(たいだ)や浪費(ろうひ)などの個人的な理由によるものとされ，その解決も個人の責任とされてきた。しかし，不況(ふきょう)で大量の失業者が発生している場合など，働く意志(いし)があっても働くことができず，毎日の生活を維持していくことができないなど，かならずしも個人の責任とはいえなくなってきた。

[社会保障の法的根拠]
憲法25条の生存権
「すべて国民は，健康で文化的な最低限度の生活を営む権利を有する」

そこで，生活が困難になったとき，個人にかわって国が生活の保障(ほしょう)を行う社会保障(しゃかいほしょう)の制度が生まれた。日本の社会保障制度は，「すべて国民は，健康で文化的な最低限度の生活を営む権利を有する」「国は，すべての生活部面について，社会福祉(ふくし)，社会保障及び公衆衛生の向上および増進に努めなければならない。」という憲法 25 条の生存権(せいぞんけん)の規定にもとづいて整備された。

※出題頻度：「社会保障△」「憲法 25 条の生存権○」「健康で文化的な最低限度の生活を営む権利△」

(頻度記号：◎(特に出題頻度が高い)，○(出題頻度が高い)，△(ときどき出題される))

[問題]

社会保障制度は，憲法のある条文の規定にもとづいて整備されているが，この条文として最も適当なものを，次のア～エから 1 つ選んで記号で答えよ。

ア　「すべて国民は，勤労の権利を有し，義務を負ふ。」

イ　「集会，結社及び言論，出版その他一切の表現の自由は，これを保障する。」

ウ　「思想及び良心の自由は，これを侵してはならない。」

エ　「すべて国民は，健康で文化的な最低限度の生活を営む権利を有する。」

(島根県)

[解答欄]

[解答]エ

[問題]

日本では年金などの社会保険をはじめ，社会福祉・公的扶助・公衆衛生の分野を整えているが，このように国や社会全体で個人の生活を支える制度を何というか。

(福井県)

[解答欄]

[解答]社会保障制度

[問題]

文中の①～④にあてはまる語を書け。

日本国憲法 25 条は「すべて国民は(　①　)で(　②　)的な最低限度の生活を営む権利を有する。」と(　③　)権を定めており，この考えにもとづいて，国民一人ひとりの福祉を社会全体で守っていくための(　④　)制度が定められている。

(補充問題)

[解答欄]

①	②	③	④

[解答]① 健康　② 文化　③ 生存　④ 社会保障

[社会保障の 4 本柱]

[問題]

社会保障の 4 つの柱は，(　X　)，公的扶助，社会福祉，公衆衛生である。文中の X に適語をいれよ。

(兵庫県)

[解答欄]

[解答]社会保険

[解説]

社会保障は，社会保険，公的扶助(こうてきふじょ)，社会福祉(ふくし)，公衆衛生(こうしゅうえいせい)の 4 つを基本としている。

[社会保障の4本柱]
・社会保険
・公的扶助
・社会福祉
・公衆衛生

[問題]

日本の社会保障制度は憲法にもとづいて整備され，4 つの基本的な柱が立てられている。この 4 つの柱の中で，「公的扶助」と「公衆衛生」以外の 2 つを書け。

(埼玉県)

[解答欄]

[解答]社会保険，社会福祉

【】社会保険

[問題]

年金保険，医療保険，介護保険は，日本の社会保障制度の 4 つの柱のうちどれに当たるか，最も適切なものを，次の[　　]から 1 つ選べ。

[公的扶助　社会保険　公衆衛生　社会福祉]

(長野県)

[解答欄]

[解答]社会保険

[解説]

社会保障制度の中心となっているのは社会保険で，病気や事故・失業や老後の生活にそなえて，加入者が日ごろから少しずつ掛け金を積み立てておき，必要なときに給付を受けるしくみになっている。社会保険には，医療保険・年金保険・介護保険・雇用保険・労災保険の5種類がある。

[社会保険]
医療保険，年金保険
介護保険（40歳以上）
国民皆保険

1) 医療保険 病気やけがをして病院で治療を受けた場合，窓口で自己負担分の費用を支払う。自己負担の割合が3割の場合，例えば窓口で支払った金額が3000円であるとき，残りの7割の7000円は健康保険組合等が負担してくれる。

2) 年金保険 自営業者が加入する国民年金の場合，月々の保険料は16,980円である(2024年度)。年金の支給開始は，原則として65歳である支給額は保険料を支払った期間によって異なるが，現在の受給者の平均月額は約5.6万円である。サラリーマンが加入する厚生年金の場合，保険料は収入の約18％で，そのうちの半分は企業(雇用主)が支払う。年金の支給開始は，原則として65歳で，現在の受給者の平均月額は約14.8万円である。公務員が加入するのは共済組合である。日本では，1960年代に，すべての国民が医療保険と年金保険に加入する国民皆保険，国民皆年金が実現した。

3) 介護保険 高齢化が進むなか，自宅や施設で保健・医療・福祉サービスが総合的に受けられることを目的とした介護保険制度が2000年から導入され，40歳以上のすべての国民が保険料を負担することになった。

4) その他 雇用保険は失業したとき生活費を支給し，再就職を助ける制度である。
労災保険は，働いていて事故やケガなどの労働災害にみまわれた時のための保険である。

※入試出題頻度：「社会保険◎」「介護保険◎，40 歳以上○」「医療保険○，後期高齢者医療制度△」「年金保険○」「雇用保険△」「国民皆保険(加入の義務)△」

[問題]

社会保険について述べた次の文のXにあてはまる語を書け。

保険料を支払うことで必要なときに給付を受ける社会保険には，高齢になったときなどに給付を受ける(　X　)保険や，病気になったときなどの健康保険などの医療保険のほか，介護保険や雇用保険などがある。

(長崎県)

[解答欄]

[解答]年金

[問題]

医療保険は，どのような状況になったときに給付を受けることができるか。

(熊本県)

[解答欄]

[解答]病院で治療を受けたとき。

[問題]

右の資料は，ある病院で受診した際に受け取った請求書の一部である。資料から，かかった医療費と実際に支払う金額には違いがあることがわかる。これは，日本のある社会保障制度によるものであるが，この制度の名称を1つあげて，かかった医療費と実際に支払う金額の大小関係がどのようになるか，書け。

初・再診料	医学管理等	投薬
123点	225点	135点
検査	合計点数	負担率
510点	993点	3割
	負担金	請求金額
	2,980円	2,980円

(注1)請求書の様式は，医療機関によって異なる。
(注2)点数1点を10円として計算する。

(徳島県)

[解答欄]

[解答]健康保険により，実際に支払う金額はかかった医療費より小さい。

[解説]

表で，実際にかかった費用は，993×10＝9930(円)で，自己負担金は2980円である。

[問題]

右の資料は，病院での診療の際に病院から受け取った請求書兼領収書の一部である。資料に示された点数は，診療にかかった医療費を 10 円ごとに 1 点として表したものである。次のア～エのうち，資料に関する制度の説明として適当なものをすべて選び，記号で答えよ。

請求書兼領収書

氏名　〇〇　〇〇　様　　令和４年２月10日

初診・再診料	医学管理等	投薬料	検査料
125点	137点	123点	420点

保険合計点数	保険内請求額	領収金額
805点	2,420円	2,420円

〒〇〇〇-〇〇〇〇
熊本県熊本市中央区〇〇町〇〇丁目〇〇番〇〇号
医療法人〇〇会　〇〇病院
Tel　096-〇〇〇-〇〇〇〇

領収 4.2.10 〇〇病院

ア　この診療で，実際にかかった医療費の総額は，8,050 円である。

イ　この診療で，公的な医療保険で支払われる費用は，保険加入者の保険料ですべてまかなわれる。

ウ　この診療で利用されている公的な医療保険は，加入するかどうかを選択できる。

エ　この診療で利用されている公的な医療保険は，雇用保険と同じ社会保険の一つである。

(熊本県)

[解答欄]

[解答]ア，エ

[問題]

75 歳以上の高齢者が独自の医療保険に加入する制度を何というか。

(補充問題)

[解答欄]

[解答]後期高齢者医療制度

[問題]

次の資料は，ある企業に勤務する A さんの給料からの控除(引かれるお金)額をまとめたものである。このうち，A さんが支払っている社会保険料は合計でいくらになるか。

所得税	住民税	厚生年金	健康保険	雇用保険	介護保険
9,900 円	20,000 円	15,000 円	8,000 円	3,300 円	2,200 円

(福井県)

[解答欄]

[解答]28,500 円
[解説]
表の項目のうち，社会保険は，厚生年金，健康保険，雇用保険，介護保険の 4 つである。

[問題]
　わが国では，高齢化が進み，高齢者の(　X　)の問題が大きくなっている。このため，社会保険の一つとして，国民が，40 歳に達すると加入して保険料を支払い，必要となったときにサービスを受けることができる，(X)保険制度が導入されている。X に当てはまる適当な言葉を書け。
(愛媛県)
[解答欄]

[解答]介護

[問題]
　わが国で 2000 年から実施されている介護保険は，社会保障制度の 4 種類の柱のうちどれに含まれるか，次から 1 つ選べ。
[公衆衛生・医療　社会福祉　公的扶助　社会保険]
(徳島県)
[解答欄]

[解答]社会保険

[問題]
　わが国では，2000 年から介護保険制度が導入された。この制度において，原則，保険に加入し，保険料を払い始める年齢は何歳からか，次の[　　]の中から適切なものを 1 つ選べ。
[20 歳　30 歳　40 歳　50 歳]
(和歌山県)
[解答欄]

[解答]40 歳

[問題]

介護保険制度を説明した次の文中の①，②の(　　)内からそれぞれ適語を選べ。

原則として，①(40 歳／18 歳)以上の国民の②(全員／一部)が加入し，介護が必要となったときに，国や地方公共団体などから，介護サービスが受けられる制度である。

(兵庫県)

[解答欄]

①	②

[解答]① 40 歳　② 全員

[問題]

わが国の社会保障制度の一つに社会保険がある。この社会保険の給付に必要な資金は，税金とともに，個人や企業が負担する費用によってまかなわれている。個人や企業が負担している，この費用は何と呼ばれるか。その呼び名を書け。

(香川県)

[解答欄]

[解答]保険料

[問題]

次の文は，介護保険制度の費用負担を説明したものである。文中の X にあてはまることばを，「40 歳以上」という語句を用いて書け。

介護保険制度の費用は，サービス利用者の自己負担や公的資金(税金)のほかに，

(　　X　　)により，まかなわれている。

(福島県)

[解答欄]

[解答]40 歳以上の国民が負担する保険料

[問題]

次の文中の①，②の(　　)内からそれぞれ適語を選べ。

社会保障は，介護保険制度のように加入が義務づけられて①(おり／いないが)，前もって保険料を納めることで社会全体でリスクを分担するしくみや，政府が税金等を財源として生活を保障する②(公助／共助)のしくみがある。

(兵庫県)

[解答欄]

①	②

[解答]① おり　② 公助

[問題]

高齢化の進展などに対応して，2000 年から導入された介護保険制度について，「40 歳以上の」の書き出しに続けて，「介護が必要になったとき」「加入」のことばを用いて書け。

(福島県)

[解答欄]

[解答]40 歳以上の全員が加入し，介護が必要になったときに介護サービスを受けることができる制度。

[問題]

図は，2000 年 4 月から始まった介護保険制度のしくみを示している。図をみて，介護保険制度のよさを，「介護の必要な人が，」の書き出しで，「国民」と「介護サービス」の語句を使って書け。

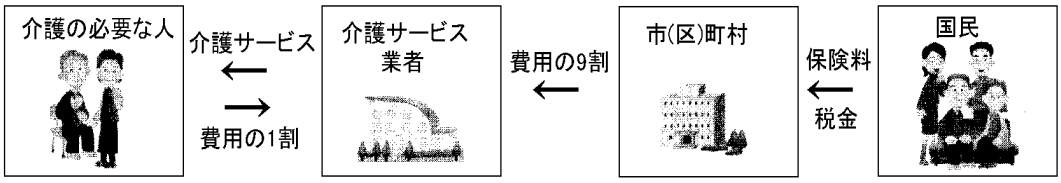

(福岡県)

[解答欄]

[解答]介護の必要な人が，国民が納める保険料や税金をもとに，少ない負担で介護サービスを受けることができる。

【】公的扶助・社会福祉・公衆衛生

[公的扶助]

[問題]

　さまざまな理由で生活が困難になり，最低限度の生活を維持できない人に生活費を保障する制度は，次の何にあてはまるか，1 つ選べ。

[社会保険　公的扶助　社会福祉　公衆衛生]

(沖縄県)

[解答欄]

[解答]公的扶助

[解説]

公的扶助(こうてきふじょ)は，生活保護法による生活保護が中心で，生活に困っている程度によって，生活扶助・医療扶助・住宅扶助・教育扶助などの経済的援助が行われる。そのための費用は，すべて国庫支出によってまかなわれている。

[公的扶助]
生活保護法による
生活保護が中心

※入試出題頻度：「公的扶助◎」「生活保護法△」

[問題]

　日本の社会保障制度の四つの柱のうち，生活に困っている人々に対し，生活保護法に基づいて最低限度の生活を保障し，自立を助ける制度を何というか。

(栃木県)

[解答欄]

[解答]公的扶助

[問題]

　公的扶助の内容について，最も適切に述べているものを，次のア～エの中から 1 つ選び，その記号を書け。

ア　児童や老人，障害者など社会的に弱い立場の人々に，施設やサービスを提供する。

イ　伝染病の予防や上下水道の整備などを通して，国民の健康増進と生活環境の改善をはかる。

ウ　生活保護法などにもとづき，生活が困難な人々に対し，生活費や教育費などを支給する。

エ　病気，老齢，失業，労働災害などに対して，積み立てた掛け金から一定の給付を行う。

(和歌山県)

[解答欄]

[解答]ウ

[解説]

アは社会福祉，イは公衆衛生，ウは公的扶助，エは社会保険である。

[社会福祉]

[問題]

　わが国の社会保障制度のうち，障害者をはじめ，高齢者や児童などを支援し，自立を助ける制度として最も適当なものは，次の[　　]のうちのどれか。1 つ選べ。

[社会保険　公的扶助　社会福祉　公衆衛生]

(香川県)

[解答欄]

[解答]社会福祉

[解説]

社会福祉(ふくし)は，社会生活上でハンディキャップをもつ人(社会的弱者)の生活を保障し，自立を助けるための制度である。

［社会福祉］
母子家庭，障害者の福祉など

老人・心身障害者(しんしんしょうがいしゃ)・母子(ぼし)家庭・児童(じどう)などがその対象となる。

具体的には，老人ホームなどの福祉施設(しせつ)，障害者のための援護(えんご)施設や職業訓練施設，児童養護(ようご)施設や保育所などの社会福祉施設が作られ，市町村に設けられた社会福祉事務所が福祉行政を行っている。

※入試出題頻度：「社会福祉◎，児童・高齢者・障害者などを支援△」

[問題]

　社会福祉について述べたものを，次のア～エから 1 つ選び，その記号を書け。

ア　保護や援助を必要とする児童や高齢者や障害者の生活を支援する。

イ　病気を予防したり，環境衛生を改善したりする。

ウ　所得の少ない人々に生活費を支給する。

エ　病気・けが，失業，高齢になったときの生活を保障する。

(高知県)

[解答欄]

[解答]ア

[解説]
アは社会福祉，イは公衆衛生，ウは公的扶助，エは社会保険である。

[公衆衛生]
[問題]
　感染症対策や下水道の整備をすることなどは，次の[　　]のうちのどれにあてはまるか。1 つ選べ。
[社会保険　公的扶助　社会福祉　公衆衛生]
(香川県)
[解答欄]

[解答]公衆衛生
[解説]
国民の健康と公衆衛生の向上を目的としている。保健所などが中心になって感染症の予防などを行っている。下水道の整備，廃棄物処理，公害対策などの環境衛生も公衆衛生に含まれる。

[公衆衛生]
感染症予防や
下水道の整備など

※入試出題頻度：「公衆衛生◎」「上下水道の整備△，感染症の予防△，廃棄物処理△」

[問題]
　日本の社会保障制度の 4 つの柱のうち，公害対策や感染症の予防などにより，人々が健康で安全な生活を送ることができるようにすることを何というか。
(福島県)
[解答欄]

[解答]公衆衛生

[問題]
　日本国憲法 25 条に定められている公衆衛生の説明として正しいものを，次のア～エから 1 つ選べ。
ア　国民の健康保持・増進を図り，感染症の予防などをめざすこと。
イ　自立が困難な老人・心身障害者・母子家庭・児童などに対して，生活の保障や支援のサービスをすること。
ウ　人々が積み立てた保険料を，病気や高齢になったときなどに給付すること。
エ　生活に困り最低限度の生活を営めない人に生活費などを給付すること。
(山口県)

[解答欄]

[解答]ア

[解説]

アは公衆衛生，イは社会福祉，ウは社会保険，エは公的扶助である。

[問題]

　公衆衛生に分類されるものを，次の[　　]からすべて選べ。

[感染症対策　児童福祉　生活保護　廃棄物処理　医療保険]

(京都府)

[解答欄]

[解答]感染症対策，廃棄物処理

[問題]

　公衆衛生のおもな内容としてあてはまるものはどれか。次の[　　]の中からすべて選べ。

[雇用対策　公害対策　廃棄物処理　道路整備　教育対策　食料安定対策]

(滋賀県)

[解答欄]

[解答]公害対策，廃棄物処理

[全般]

[問題]

　K さんは，日本の社会保障制度の四つの柱について調べ，次の表をつくった。表中の①～③にあてはまる語を下の[　　]からそれぞれ選べ。

四つの柱	社会保障の内容
社会福祉	高齢者や子どもなど，社会の中で弱い立場になりやすい人々を支援する。
(　①　)	人々が毎月保険料を負担し合い，病気や高齢の人々に給付する。
(　②　)	生活環境の改善や感染症の予防などで，人々の健康や安全な生活を守る。
(　③　)	最低限の生活ができない人々に対して，生活費や教育費などを支給する。

[公衆衛生　社会保険　公的扶助]

(埼玉県)

[解答欄]

①	②	③

[解答]① 社会保険　② 公衆衛生　③ 公的扶助

[問題]

次の A，B の文は，日本における社会保障の四つの制度のうちのいずれかについて説明したものである。それぞれの文で説明された制度の組み合わせとして最も適当なのは，ア～エのうちではどれか。1 つ答えよ。

A　社会生活を営むうえで不利だったり立場が弱かったりして自立することが困難な人たちを支援するための施設の整備やサービスの提供などを行う。

B　人々が健康で安全な生活を送ることができるように，生活環境の改善や感染症の予防などを行う。

ア A：社会保険，B：公衆衛生

イ A：社会保険，B：公的扶助

ウ A：社会福祉，B：公衆衛生

エ A：社会福祉，B：公的扶助

(岡山県)

[解答欄]

[解答]ウ

[問題]

次の A～D は，わが国の社会保障の四つの柱について説明したものである。社会保障の四つの柱の説明とその呼び名の組み合わせとして正しいものは，あとのア～エのうちのどれか。1 つ選んで，その記号を書け。

A　病気やけがで医療を受けた者，一定の年齢に達した者などへの給付

B　伝染病，感染症の予防や公害対策などの環境改善

C　生活保護法にもとづく最低限度の生活の保障

D　障害者や高齢者，児童などへの支援

ア A 社会福祉，B 公衆衛生，C 公的扶助，D 社会保険

イ A 社会保険，B 公的扶助，C 公衆衛生，D 社会福祉

ウ A 社会保険，B 公衆衛生，C 公的扶助，D 社会福祉

エ A 社会福祉，B 公的扶助，C 公衆衛生，D 社会保険

(香川県)

[解答欄]

[解答]ウ

[問題]

次の各問いに答えよ。

(1) 社会保障などを担当する省の名称を書け。

(2) わが国の社会保障制度については，日本国憲法の第 25 条に「国は，すべての生活部面について，(　①　)，社会保障及び(　②　)の向上及び増進に努めなければならない。」と規定されている。(①)は，高齢者や児童など自立が困難な人たちの生活の保障や支援サービスを行うこと，(②)は，感染症の予防などを行うことである。①，②に当てはまる語を，それぞれ書け。

(熊本県)

[解答欄]

(1)	(2)①	②

[解答](1) 厚生労働省　(2)① 社会福祉　② 公衆衛生

[問題]

日本の社会保障制度について述べた文として最も適当なものはどれか。

ア　社会保険は，生活保護法にもとづいて，生活費や教育費を支給するしくみである。

イ　社会福祉は，高齢者や障がいのある人などに，生活の保障や支援サービスを行うしくみである。

ウ　公衆衛生は，保険料を納めた人が，病気や高齢になったときに給付を受けるしくみである。

エ　公的扶助は，環境衛生の改善や感染病の予防などにより，生活の基盤を整えるしくみである。

(鹿児島県)

[解答欄]

[解答]イ

[解説]

アは誤り。生活保護法にもとづいて，生活費や教育費を支給するしくみは公的扶助である。

ウは誤り。保険料を納めた人が，病気や高齢になったときに給付を受けるしくみは社会保険である。

エは誤り。環境衛生の改善や感染病の予防などは公衆衛生である。

[問題]

社会保障に関する説明として適切なものを次のア～エから 2 つ選び，記号を書け。

ア　社会保障制度は，憲法の生存権の規定に基づいて整備されている。

イ　40 歳になると介護保険制度に加入することが義務づけられている。

ウ　社会福祉は，生活に困っている人に，生活保護法に基づき，生活費などを給付する仕組みである。

エ　医療機関を受診した際にかかる医療費は，すべて税金でまかなわれている。

(富山県)

[解答欄]

[解答]ア，イ

[解説]

ウは誤り。「社会福祉」ではなく「公的扶助」である。

エは誤り。医療費の一部は本人負担で，残りは保険料収入から健康保険組合が支出するのが原則である(不足分を税金で補うこともある)。

[問題]

現在の日本の社会保障制度として誤っているものを，次のア～エから 1 つ選んで記号で書け。

ア　公的扶助・社会保険・社会福祉・公衆衛生の 4 つの柱からなっている。

イ　健康で文化的な生活を営むことができるという自由権にもとづいている。

ウ　公衆衛生は，感染症などの予防をめざしている。

エ　介護を必要とする高齢者が増加するなか，介護保険制度が始まっている。

(福井県)

[解答欄]

[解答]イ

[解説]

イは自由権ではなく生存権(社会権)。

[問題]

　すべての人々が安心して豊かな生活を送ることができるよう社会全体で支え合うしくみがつくられている。次のうち，わが国の社会保障制度について述べた文として，その内容が誤っているものを１つ選び，記号を書け。

ア　健康で文化的な最低限度の生活を営む生存権の理念に基づいている。

イ　公的扶助，社会保険，社会福祉，公衆衛生の４つを柱としている。

ウ　社会保険における給付などの費用は，すべて保険料によってまかなわれている。

エ　介護を社会全体で支えていくことをねらいとして介護保険制度が導入されている。

(大阪府)

[解答欄]

[解答]ウ

[解説]

ウが誤り。社会保険は保険料の収入で不足する分を税金収入でまかなっている。

【】少子高齢化と社会保障

[問題]

次の文中の①，②の(　　)内からそれぞれ適語を選べ。

現在の日本のように，高齢者の総人口に占める割合が高くなると，公的年金制度では，給付額の総額が①(増加／減少)するため，働く世代の負担が②(大きく／小さく)なる。

(茨城県改)

[解答欄]

①	②

[解答]① 増加　② 大きく

[解説]

現在の日本は，すでに少子高齢(しょうしこうれい)社会に突入しているが，今後もさらに人口の高齢化が進むと予想されている。高齢者の人口が増えると，年金保険(ねんきんほけん)・医療(いりょう)保険・介護(かいご)保険などの社会保険のための支出が増加する。これらの社会保険の支出は保険料と税金でまかなわれているが，少子化の影響で生産年齢人口(15～64 歳)が減少していくため，税収と保険料収入が減少していく。したがって，財源が不足し，このままでは制度が維持できなくなるおそれがある。消費税率をあげてその一部を社会保険の不足分にあてる，保険料の引き上げをおこなう，年金の支給金額の引き下げ・受給開始年齢の引き上げを同時に行うなど，国民に大きな負担を強いる改革が必要となるが，その実行には大きな困難が伴う。

[少子高齢化と社会保障]
高齢化➔社会保障支出が増大
少子化➔税金･社会保険料の減少
➔資金不足

※入試出題頻度：「少子高齢化○」「高齢化→高齢者の増加→社会保障支出の増加○」「少子化→現役世代が減少→税収・保険料収入が減少○」

[問題]

次の文章中の①～③に適語を入れよ。

若年層が減少し高齢者が増加する(　①　)化は，社会保障のあり方に大きな影響をおよぼす。高齢者の人口が(　②　)するため高齢者の生活を支える年金などの社会保障の給付が(②)する一方で，現役世代の人口が(　③　)して税収と保険料収入が(③)していくからである。

(補充問題)

[解答欄]

①	②	③

[解答]① 少子高齢　② 増加　③ 減少

[問題]

あやかさんは，日本の社会保障について調べ，資料 A，B を作成した。資料 A は，2000 年度と 2021 年度の社会保障給付費について，資料 B は，社会保障給付費の内訳の項目について，それぞれまとめたものである。資料 A において，2021 年度の社会保障給付費が，2000 年度と比べて増加した理由を簡潔に述べよ。

資料Ａ　社会保障給付費（円）

2000年度	2021年度
78兆3985億	138兆7433億

資料Ｂ 社会保障給付費の内訳の項目

・年金
・医療
・福祉その他

(宮城県)

[解答欄]

[解答]高齢者の人口が増えたため。

(統計修正)「日本国勢図会 2024/2025」P444

[問題]

次のような総人口が常に 100 万人の国で，65 歳以上の高齢者の生活を 15～64 歳の人々が支えることとした場合，このモデルを説明した文ア～オのうち，正しいものを 2 つ選べ。

50 年前：15～64 歳の人口 69 万人，65 歳以上の人口 7 万人

現在：15～64 歳の人口 59 万人，65 歳以上の人口 29 万人

ア　50 年前と比べて，現在は 65 歳以上の人口割合が高く，15～64 歳の人々が約 5 人で 65 歳以上の高齢者 1 人を支えていることになる。

イ　50 年前と比べて，現在は 65 歳以上の人口割合が高いが，15～64 歳の人々が 65 歳以上の高齢者 1 人を支える割合に変化はない。

ウ　50 年前は，現在と比べて 15～64 歳の人口割合が高く，15～64 歳の人々が約 2 人で 65 歳以上の高齢者 1 人を支えていたことになる。

エ　50 年前は，現在と比べて 15～64 歳の人口割合が高く，15～64 歳の人々が約 10 人で 65 歳以上の高齢者 1 人を支えていたことになる。

オ　50 年前と比べて，現在は 15～64 歳の人口割合が低く，15 歳未満の人口割合も 50 年前と比べて約半分になっている。

(兵庫県)

[解答欄]

[解答]エ，オ

[問題]

日本の社会保障制度は，おもに税や保険料を財源として国民の生活水準の向上に役立ってきた。しかし，現在は次のような課題を抱えている。

① 保険料収入が減少していくこと。

② 社会保障にかかる費用が増加していくこと。

下線部①，②は，社会保障制度の課題を示している。それぞれのおもな原因を，次の[　　]の中の語句を 2 つずつ選び，それらの語句を使って書け。

[出生率　年金給付額　平均寿命　労働力人口]

(福岡県)

[解答欄]

①
②

[解答]① 出生率が低下し，労働力人口が減少していくため。

② 平均寿命がのび，年金給付額が増加していくため。

[問題]

社会保障について，次の先生と花子さんの会話文を読み，①，②にあてはまるものを資料のア～エからそれぞれ 1 つずつ選び，記号を書け。

先生：社会保障制度を考える際，右の資料のように「高福祉」「低福祉」と「高負担」「低負担」といった視点が必要となるね。例えば 2000 年の公的介護保険制度の導入は，それ以前の状況を図の中心(●)とした場合，イを目指した考え方であったと言えるね。では，「増税し，社会保障を充実させる」考えは，どこを目指した考え方だと思いますか。

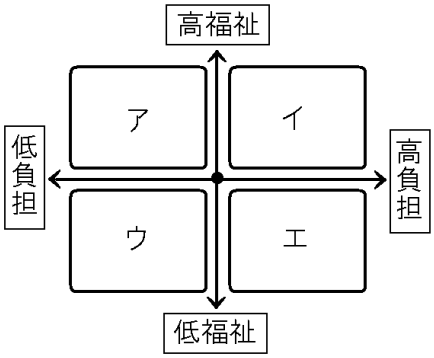

花子：(　①　)を目指した考え方だと思います。

先生：そうですね。では，少子高齢化が進む中「社会保障の給付水準を大幅に引き下げて，負担を減らすことを優先すべき」という意見もある。これはどうかな。

花子：これは，(　②　)を目指した考え方だと思います。

(富山県)

[解答欄]

①	②

[解答]① イ　② ウ

[解説]
社会保障と財政との関係は，社会保障を充実させる代わりに，税金などの国民の負担を大きくする高福祉高負担(大きな政府)(図のイ)と，社会保障をしぼりこむ代わりに国民の負担を軽くする低福祉低負担(小さな政府)(図のウ)という 2 つがある。高福祉高負担は，スウェーデンなどの北ヨーロッパの国々が，低福祉低負担は，アメリカなどが採用している。

[問題]
右の図は，社会保障の在り方について，社会保障給付費を横軸にとり，税などの国民負担を縦軸にとって，図式化したものである。現在の状況を図中の●の位置としたとき，次の文に書かれていることを行うと，●はア～エのどこに移動するか。適当なものを 1 つ選べ。
医療保険の保険料を引き下げて，医療機関で支払う医療費の自己負担の割合を大きくする。
(福島県)

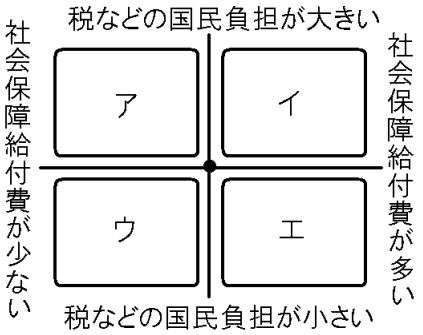

[解答欄]

[解答]ウ

[問題]
春菜さんは，社会保障に関するさまざまな意見を整理するため，次の資料をまとめた。メモは，春菜さんが，社会保障の在り方についてまとめたものである。メモ中の下線部のような意見は，資料のどの欄にあてはまるか。ア～エから 1 つ選び，記号で答えよ。

		社会保障の財源について	
		税金でまかなう割合を高める	保険料でまかなう割合を高める
社会保障の給付について	水準を引き上げる	ア	イ
	水準を引き下げる	ウ	エ

(メモ)
社会保障の在り方について，政府の役割や国民の負担などが議論されている。私は，「大きな政府」を目指しながら世代間で負担を公平に分かち合うための方策について，さらに調べてみたい。
(山形県)

[解答欄]

[解答]ア

[解説]

社会保障の給付水準を引き上げるのは「大きな政府」を目指すことである。

社会保障の財源は保険料と税金の両方でまかなわれている。「保険料でまかなう割合を高める」のは受益者負担の立場であり，「税金でまかなう割合を高める」のは負担を「世代間で負担を公平に分かち合う」という立場である。

[問題]

右の資料は 2024 年度の国の一般会計予算(歳出)における社会保障関係費の内訳を示したものである。資料の X にあてはまる語句を書け。

(佐賀県)

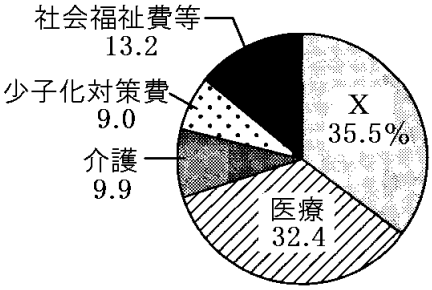

[解答欄]

[解答]年金

(統計修正)「日本国勢図会 2024/2025」P346

[問題]

少子高齢化の進展と社会保障との関連について述べた文として適切でないものを，次のア～エの中から 1 つ選べ。

ア　公的年金や医療など高齢者の生活を支える社会保障にかかる費用が増加した。

イ　高齢者を支える現役世代の数が減少するため，国民一人あたりの経済的な負担が軽くなった。

ウ　子育て及び家族の介護と仕事を両立できる雇用環境を整えるために，育児・介護休業法が定められた。

エ　75 歳以上の高齢者が加入する，後期高齢者医療制度が導入された。

(青森県)

[解答欄]

[解答]イ

【】公害の防止と環境保全

【】公害の防止と環境の保全

[四大公害]

[問題]

次の文は，高度経済成長期にみられたできごとについて説明したものである。文中の X に適切な語をおぎない，文を完成せよ。

経済が発展した一方で，企業の生産活動による大気汚染や水質汚濁などの(　X　)が発生した。なかでも，イタイイタイ病，水俣病，四日市ぜんそく，新潟水俣病の患者らが起こした裁判は，四大(X)裁判と呼ばれた。

(山口県)

[解答欄]

[解答]公害

[解説]

戦後，日本が急速な経済発展をとげるにつれて，各地で深刻な公害問題が発生した。なかでも，熊本県水俣湾の水俣病(メチル水銀による水質汚濁が原因)，三重県四日市の四日市ぜんそく(大気汚染が原因)，富山県神通川流域のイタイイタイ病(カドミウムによる水質汚濁が原因)，新潟県阿賀野川流域の新潟水俣病(メチル水銀による水質汚濁が原因)の 4 つは四大公害とよばれた。

※入試出題頻度：「公害△」「水俣病(地図)○，メチル水銀△」「四日市ぜんそく(地図)○，大気汚染」「イタイイタイ病(地図)○，カドミウム△」「新潟水俣病(地図)○，メチル水銀△」

[問題]

四大公害に関して，熊本県と新潟県で発生した病気を何というか書け。

(福井県)

[解答欄]

[解答]水俣病

[問題]

四大公害病とされるのは新潟水俣病，イタイイタイ病，水俣病とあと 1 つは何か。

(長崎県)

[解答欄]

[解答]四日市ぜんそく

[問題]

「四大公害病」のうち，三重県四日市市で起こった公害病の主な原因は，次のどれか。

[水質汚濁　土壌汚染　大気汚染　騒音]

(岡山県)

[解答欄]

[解答]大気汚染

[解説]

四大公害病のうち，大気汚染が原因であるのは四日市ぜんそくである。あとの 3 つ(水俣病，イタイイタイ病，新潟水俣病)は水質汚濁が原因である。

[問題]

四大公害のうち，大気汚染を原因とする公害はどの県でおきたか。右の地図のア～エの中から 1 つ選べ。

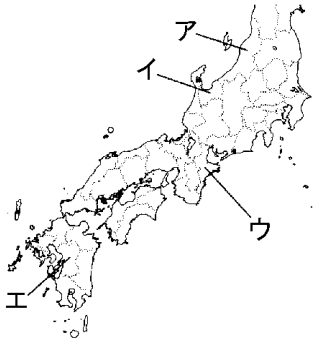

(福島県)

[解答欄]

[解答]ウ

[問題]

1960 年代に裁判がおこされた，一般に四大公害病と呼ばれているものは，水俣病，四日市ぜんそく，新潟水俣病とあと一つは何か。その呼び名を書け。

(香川県)

[解答欄]

[解答]イタイイタイ病

[問題]

日本の四大公害病のうち，イタイイタイ病を説明した文として，最も適切なものを，次のア～エから１つ選び，記号で答えよ。

ア　被害地域は新潟県阿賀野川流域で，主な原因はメチル水銀化合物による水質汚濁であった。

イ　被害地域は三重県四日市市で，主な原因は亜硫酸ガスによる大気汚染であった。

ウ　被害地域は富山県神通川流域で，主な原因はカドミウムによる水質汚濁であった。

エ　被害地域は熊本県・鹿児島県八代海沿岸で，主な原因はメチル水銀化合物による水質汚濁であった。

(鳥取県)

[解答欄]

[解答]ウ

[公害対策]

[問題]

次の各問いに答えよ。

(1) 1967 年に公害を抑制するために制定された法律は何か。

(2) 公害問題や自然環境の保護を専門的にあつかう官庁が 1971 年に新設された。何という官庁か。

(補充問題)

[解答欄]

(1)	(2)

[解答](1) 公害対策基本法　(2) 環境庁

[解説]

公害追放の住民運動が各地で展開される中，公害を防止し，環境汚染をくいとめるべく，1967 年に公害対策基本法(こうがいたいさくきほんほう)が作られ，1971 年には環境庁(かんきょうちょう)(現在は環境省)が新設された。また，1993 年，環境基本法(かんきょうきほんほう)が作られた。

[公害対策]
1967年　公害対策基本法
1971年　環境庁(現在は環境省)
1993年　環境基本法

こうした努力によって生産活動による公害は少しずつ減っていった。しかし，その反面で騒音，排気ガス，ごみなどによる生活公害が大きな問題になっている。最近では，廃棄物焼却施設から排出されるダイオキシンによる土壌汚染(どじょうおせん)・大気汚染が大きな問題となった。

※入試出題頻度：「公害対策基本法△→環境基本法○」「環境庁→環境省△」

[問題]

1971 年に環境庁が設置された目的を，当時の日本経済の様子を含めて書け。

(石川県)

[解答欄]

[解答]高度経済成長期に深刻化した公害問題に対応するため。

[問題]

次の資料は，国のある行政機関の役割の一部を説明したものである。この機関の名称を書け。

・循環型社会の構築

・公害健康被害対策の推進

(青森県)

[解答欄]

[解答]環境省

[問題]

次の文は, 1993 年に制定された, わが国のある法律の一部である。この法律は何というか。

第 1 条

この法律は，環境の保全について，基本理念を定め，並びに国，地方公共団体，事業者及び国民の責務を明らかにするとともに, ･･･環境の保全に関する施策を総合的かつ計画的に推進し，もって現在及び将来の国民の健康で文化的な生活の確保に寄与するとともに人類の福祉に貢献することを目的とする。

(栃木県)

[解答欄]

[解答]環境基本法

[問題]

環境基本法が制定されたのは，次のどの時期か。

ア　1955 年以前の時期

イ　1956 年から 1970 年の間の時期

ウ　1971 年から 1985 年の間の時期

エ　1986 年から 2000 年の間の時期

(神奈川県)

[解答欄]

[解答]エ

[問題]

次の文の①，②に適語を入れよ。

日本では地球環境問題への対応が求められるなか，国は 1993 年に(　①　)法を制定し，環境の保全に関する施策の基本的な方向を示した。また，国や地方公共団体などは，紙・缶などのリサイクルや電気・ガスなどを節約する(　②　)対策を進めている。私たちは，地球温暖化防止など地球環境を守るために，身近な生活のなかで，くらし方を見直し，リサイクルや(②)に取り組み，二酸化炭素排出量の削減など環境の保全に努めることが大切である。

(兵庫県)

[解答欄]

①	②

[解答]① 環境基本　② 省エネルギー

[問題]

公害対策基本法に「公害」として示されておらず，環境基本法に示されている地球環境問題を，次から 1 つ選べ。

[土壌の汚染　地盤の沈下　オゾン層の破壊　水質の汚濁]

(福岡県)

[解答欄]

[解答]オゾン層の破壊

【】循環型社会

[循環型社会]

[問題]

右図は，容器や包装の識別マークの１つであり，分別をしやすくし，廃棄物の有効利用や減量化を促進するために，表示が義務づけられている。このように，生産物の再利用を徹底し，廃棄物をなくすことをめざす社会を何というか。次から選べ。

[情報社会　少子高齢社会　循環型社会　多文化社会]

(愛媛県)

[解答欄]

[解答]循環型社会

[解説]

ごみの増加は，資源の浪費(ろうひ)だけでなく，環境汚染(かんきょうおせん)にもつながる。限りある資源を有効に利用し，環境を維持するために循環型社会(じゅんかん)を実現することが重要である。こうした観点から，2000 年には循環型社会形成推進基本法が定められた。

[循環型社会]
限りある資源を有効に利用し，環境を維持するため
循環型社会形成推進基本法

※入試出題頻度：「循環型社会◎」「循環型社会形成推進基本法△」

[問題]

2000 年に制定された(　X　)型社会形成推進基本法では，ごみの発生する量をおさえ，リサイクルすることなどが求められている。これまでのごみ問題への取り組みを見直し，(X)型社会になるように，家庭，企業，地方公共団体，国がそれぞれの役割を果たすことが大切である。X に共通してはいる語句を答えよ。

(長野県)

[解答欄]

[解答]循環

[問題]

循環型社会が必要とされているのはなぜか。その理由を資源と環境に着目して簡潔に書け。

(和歌山県)

[解答欄]

[解答]限りある資源を有効に利用し，環境を維持するため。

[問題]

循環型社会の形成に向け，消費者としての国民の責務を定めている法律について述べているのは，次のア～エのうちのどれか。

ア　この法律は，製造物の欠陥により人の生命，身体又は財産に被害が生じた場合の製造業者に対する損害賠償の責任を定めることにより，被害者の保護を図ることを目的に制定された。

イ　この法律は，事業者の不適切な説明等により消費者が誤認して契約を結んだ場合に契約を取り消すことができるようにすること等により，消費者の利益を守ることを目的に制定された。

ウ　この法律は，製品等が廃棄物等となることをおさえ，かつ再利用，再生利用等を促進することで,天然資源の消費と環境への負荷をできる限り減らす社会をつくることを進め，国民の健康で文化的な生活を確保することを目的に制定された。

エ　この法律は，私的独占や不公正な取引方法等を禁止して，生産や販売等の不当な制限その他一切の不当な拘束を排除することにより，公正で自由な競争を促進することを目的に制定された。

(東京都)

[解答欄]

[解答]ウ

[解説]

アは製造物責任法(PL 法)。イはクーリングオフを定めた法律。ウは循環型社会形成推進基本法。エは独占禁止法。

[問題]

次のア～ウの法律について，制定された年代の古い順に並べよ。

ア　環境基本法

イ　公害対策基本法

ウ　循環型社会形成推進基本法

(富山県)

[解答欄]

[解答]イ→ア→ウ

[3R]

[問題]

右の図は，循環型社会のキーワードを示したものである。次のア～ウのうち，図中の A～C のそれぞれにあてはまる事例はどれか。1 つずつ選び，その記号を書け。

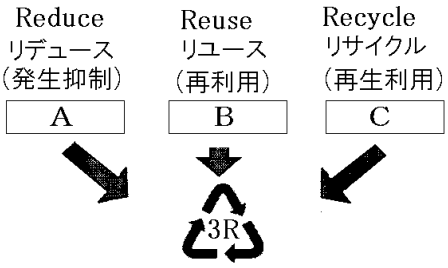

ア　分別回収に協力する。

イ　牛乳ビンを回収し，繰り返し利用する。

ウ　買い物でマイバッグを使う。

(岩手県)

[解答欄]

A	B	C

[解答]A ウ　B イ　C ア

[解説]

ごみの増加は，資源(しげん)の浪費(ろうひ)だけでなく，環境汚染(かんきょうおせん)にもつながる。こうした問題の解決には，ごみを減らすリデュース，使えるものを何度も使用するリユース，ごみを資源として活用するリサイクルという 3R を心がけ，循環型社会(じゅんかんがたしゃかい)を実現することが重要である。2000 年には循環型社会形成推進基本法が定められた。

[3R]
リデュース　ごみを減らす
リユース　何度も使う
リサイクル　ごみの再生利用

リデュース，リユース，リサイクルの例をあげると，次のようになる。

(リデュースの例)マイバッグを持参してレジ袋をもらわない(レジ袋のごみを出さない)，シャンプーなどは詰め替え商品を選ぶ(容器のごみを出さない)。

(リユースの例)牛乳ビンを回収し，洗浄・殺菌するなどして，繰り返し利用する。

故障した時計を修理して，買い替えずに使用し続ける。

フリーマーケットなどを利用して中古品を購入する。

(リサイクル)ペットボトルを回収して，資源として再生利用する。

アルミ缶とスチール缶をきちんと分別して，資源ごみの日に出す。

※入試出題頻度：「リサイクル○：ごみの分別→再資源化△」

「リデュース○：ごみを減らす△」「リユース○：何度も使う△」

[問題]

空き缶などを資源として再利用することを(　X　)といい，消費者は空き缶の分別収集や回収に協力することが大切である。文中の X に適語をいれよ。

(兵庫県)

[解答欄]

[解答]リサイクル

[問題]

　次のア～エのうち，リサイクルの具体例はどれか。

ア　牛乳ビンを回収し，洗浄・殺菌するなどして，繰り返し利用する。

イ　買い物の際にマイバッグを持参して，レジ袋の使用を控える。

ウ　ペットボトルを回収して，資源として再生利用する。

エ　故障した時計を修理して，買い替えずに使用し続ける。

(栃木県)

[解答欄]

[解答]ウ

[解説]

アはリユース，イはリデュース，ウはリサイクル，エはリユース。

[問題]

　私たちは，日常生活において，さまざまな商品を消費している。右の資料は，ある清涼飲料水の容器に表示されているマークを示している。このマークが表示されている目的は何か。その目的について述べた次の文中のXに入る適切な語句を書け。

　アルミ缶を分別して回収し，(　　X　　)ことを促進するため。

(広島県)

[解答欄]

[解答]資源として再利用する

[問題]

　あきおさんは，店長からごみを分別するように指示された。これは循環型社会という考えにもとづいている。なぜ，ごみの分別が循環型社会につながるのか，書け。

(石川県)

[解答欄]

[解答]これまで廃棄していたものを資源として再利用することになるから。

[問題]

花子さんは，社会科の授業で，できるだけ環境への負担を減らすためには，循環型社会の形成に向けた取り組みが必要であることを学習し，自分でできることを考えてみた。次の A，B のカードは，花子さんが考えた提案をまとめたものである。A，B は，リデュース，リユース，リサイクルのどれにあてはまるか，答えよ。

A　家族への提案：ストローを使用しないようにすることで，プラスチックのごみを減らす。

B　生徒会への提案：ペットボトルを分別して回収することで，再資源化を図る。

(香川県)

[解答欄]

A	B

[解答]A リデュース　B リサイクル

[問題]

リデュースの具体的な実践例として適当なものを，次のア～エから 2 つ選べ。

ア　シャンプーなどは，詰め替え商品を選ぶ。

イ　ペットボトルなどを，分別，回収し，再資源化する。

ウ　フリーマーケットなどを，有効に利用する。

エ　レジ袋をもらわず，マイバッグを活用する。

(鳥取県)

[解答欄]

[解答]ア，エ

[問題]

次は，環境に配慮した消費生活のあり方についてまとめたものである。適切なまとめになるように，X にあてはまる言葉を書け。

現代の消費者には，(　　X　　)という「リデュース」の考え方，使ったものを再利用するという「リユース」の考え方，そして，廃棄物を資源として再生利用するという「リサイクル」の考え方である，3R を心がけた生活が求められている。

(山形県)

[解答欄]

[解答]ごみの発生を減らす

[問題]

環境対策として，3R と呼ばれるリデュース，リユース，リサイクルの取り組みがある。次のア～エのうち，リユースにあたる取り組みはどれか。最も適切なものを選び，その記号を書け。

ア　容器に詰め替えられる洗剤を購入する。

イ　古紙を分別して回収してもらう。

ウ　地元でとれた野菜を購入する。

エ　商品を購入するとき簡易な包装にしてもらう。

(広島県)

[解答欄]

[解答]ア

[解説]

アはリユース(再利用)，イはリサイクル，エはリデュースである。ウは地産地消で 3R とは関係がない。

[問題]

①リデュース(ゴミの発生を抑制する)，②リユース(再使用する)の具体例の組み合わせとして最も適当なものを，次のア～エから 1 つ選び，記号で答えよ。

a　アルミ缶とスチール缶をきちんと分別して，資源ごみの日に出す。

b　買い物には，自分の買い物袋を持っていき，レジ袋はもらわない。

c　食品を買う際は，表示をみて，食品添加物の少ないものを買う。

d　ビールびんを小売店に持っていき，びん代を返却してもらう。

[ア①－c・②－d　　イ①－b・②－a　　ウ①－d・②－a　　エ①－b・②－d]

(鳥取県)

[解答欄]

[解答]エ

[解説]

a は資源のリサイクル，回収された鉄やアルミは地金に再生される。

b はゴミの発生を抑制する(リデュース)の効果がある。

c は食品の安全に関することで，資源の有効利用とは関係がない。

d は資源の再利用(リユース)。回収されたビールびんは，ふたたび使用される。

[問題]

私たちは，現在と将来の世代の様々なニーズを満たすような社会を形成しなければならない。下線部のような社会を「(　　)可能な社会」という。(　　)の中にあてはまる言葉を漢字2文字で答えよ。

(沖縄県)

[解答欄]

[解答]持続

[問題]

持続可能な社会とはどのような社会のことか。「現在」「将来」の2つの言葉を使って，簡単に書け。

(香川県)

[解答欄]

[解答]将来の世代の幸福と現在の世代の幸福が両立できる社会。

【FdData 入試版のご案内】
詳細は，[FdData 入試ホームページ]に掲載（[Shift]＋左クリック→新規ウィンドウ）
姉妹品：[FdData 中間期末ホームページ]（[Shift]＋左クリック→新規ウィンドウ）

◆印刷・編集
この PDF ファイルは，FdData 入試を PDF 形式に変換したサンプルで，印刷はできないように設定しております。製品版の FdData 入試は Windows パソコン用のマイクロソフト Word(Office)の文書ファイルで，印刷・編集を自由に行うことができます。

◆FdData 入試の特徴
FdData 入試は，公立高校入試問題の全傾向を網羅することを基本方針に編集したワープロデータ(Word 文書)です。 入試理科・入試社会ともに，過去に出題された公立高校入試の問題をいったんばらばらに分解して，細かい単元ごとに再編集して作成しております。

◆サンプル版と製品版の違い
ホームページ上に掲載しておりますサンプルは，製品の Word 文書を PDF ファイルに変換したもので印刷や編集はできませんが，製品の全内容を掲載しており，どなたでも自由に閲覧できます。問題を「目で解く」だけでもある程度の効果をあげることができます。
しかし，FdData 入試がその本来の力を発揮するのは印刷や編集ができる製品版においてです。また，製品版は，すぐ印刷して使える「問題解答分離形式」，編集に適した「問題解答一体形式」，暗記分野で効果を発揮する「一問一答形式」の 3 形式を含んでいますので，目的に応じて活用することができます。
※FdData 入試の特徴(QandA 方式)（[Shift]＋左クリック→新規ウィンドウ）

◆FdData 入試製品版(Word 版)の価格(消費税込み)
※以下のリンクは[Shift]キーをおしながら左クリックすると，新規ウィンドウが開きます
社会地理，社会歴史，社会公民：各 6,800 円(統合版は 16,200 円)（[Shift]＋左クリック）
理科 1 年，理科 2 年，理科 3 年：各 6,800 円(統合版は 16,200 円)（[Shift]＋左クリック）
※Windows パソコンにマイクロソフト Word がインストールされていることが必要です。
(Mac の場合はお電話でお問い合わせください)。

◆ご注文は，メール(info2@fdtext.com)，または電話(092-811-0960)で承っております。
※注文→インストール→編集･印刷の流れ （[Shift]＋左クリック）
※注文メール記入例 （[Shift]＋左クリック）

【Fd 教材開発】 Mail： info2@fdtext.com Tel ：092-811-0960