【FdData 高校入試：中学社会公民：地球社会】

[主権・領域／国際法・国際司法裁判所／領土をめぐる問題／
国連：発足・加盟国数の変化・国連分担金／総会・経済社会理事会／
安全保障理事会・PKO／専門機関など／国連全般／地域主義／地球環境問題／
資源・エネルギー問題／南北問題・フェアトレードなど／ODA と NGO／
新しい戦争・核軍縮など／FdData 入試版のご案内]

[FdData 入試ホームページ]掲載の pdf ファイル(サンプル)一覧]
※次のリンクは[Shift]キーをおしながら左クリックすると，新規ウィンドウが開きます
社会： [社会地理]，[社会歴史]，[社会公民]
理科： [理科 1 年]，[理科 2 年]，[理科 3 年]
数学： [数学 1 年]，[数学 2 年]，[数学 3 年]
※全内容を掲載しておりますが，印刷はできないように設定しております

【】国際社会における国家
【】主権・領域
[主権]
[問題]
　国家が成り立つためには，領土と国民と(　X　)の 3 つの要素が必要であるといわれている。(X)とは，他国から支配や干渉を受けず，国内の政治や外交についての決定権を自らもつことをいう。国際社会は(X)国家によって構成されており，すべての国の(X)を平等に尊重しあうことが，国際社会の大切な原則である。
(三重県)
[解答欄]

[解答]主権
[解説]
世界には 196 の国家がある(2024 年現在)。国家は，国民，領域(りょういき)，主権(しゅけん)の 3 つの要素がそろって成り立つ。主権を持つ国は主権国家とよばれ，他の主権国家とたがいに平等であるという主権平等の原則が認められている。

[主権]
国家の三要素：国民・領域・主権
主権国家：主権平等の原則
　　内政不干渉の原則

また，主権国家は，国内の問題について他国から干渉を受けることがない内政不干渉(ないせいふかんしょう)の原則も認められている。
主権国家は，国の象徴(しょうちょう)として国旗(日本では「日章旗(にっしょうき)」)や国歌(日本では「君が代」)を持っている。
※入試出題頻度：「国家の三要素は国民・領域・主権△」「主権○」「主権国家△」
「主権平等の原則○」「内政不干渉の原則○」
(頻度記号：◎(特に出題頻度が高い)，○(出題頻度が高い)，△(ときどき出題される))

[問題]
　国家の領域を統治し，他国から支配を受けず，国内の政治や外交について決める権利をもつ国家を何というか。
(北海道)
[解答欄]

| |
|---|
| |

[解答]主権国家

[問題]
　①他国による支配や干渉を受けないという原則が，主権国家には認められている。この原則を何というか。②また，主権国家は他の主権国家とたがいに平等であるという原則があるが，これを何というか。
(和歌山県改)
[解答欄]

| | |
|---|---|
| ① | ② |

[解答]① 内政不干渉の原則　② 主権平等の原則

[問題]
　国際連合の総会の決定において，各構成国は 1 個の投票権をもつ。その理由を書け。
(滋賀県)
[解答欄]

| |
|---|
| |

[解答]国家の主権平等という原則があるから。

[国家の領域]

[問題]

右の図は，日本の領土や領空，領海などについて示したものである。このうち，領空と領海の範囲を示した記号の組み合わせとしてふさわしいものはどれか。

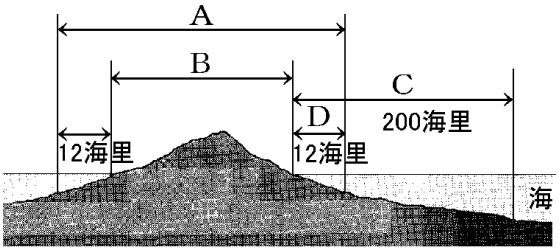


ア　領空：A　領海：C

イ　領空：A　領海：D

ウ　領空：B　領海：C

エ　領空：B　領海：D

(神奈川県)

[解答欄]

[解答]イ

[解説]

国家の主権がおよぶ範囲を領域という。領域は，領土・領海(領土沿岸から12海里)・領空(領土と領海の上空で大気圏内)の3つから構成されており，不法に立ち入ることは認められていない(領土不可侵の原則)(1海里は1852m)。

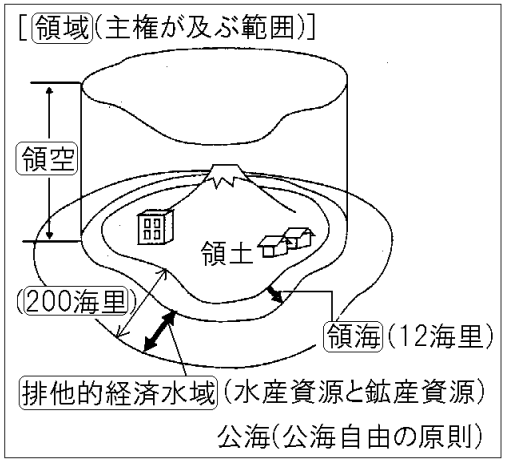


領海の外側の領土沿岸から200海里までの排他的経済水域では，水産資源や海底の鉱産資源を沿岸国の権利として認めている。排他的経済水域の外側の水域は公海で，どの国の船でも自由に航行できる。これを公海自由の原則という。南極大陸や宇宙空間は，どの国も領域にできないと決められている。

※入試出題頻度：「領域(主権が及ぶ範囲)○：領土△，領海○(12海里△)，領空○」「排他的経済水域○：200海里○，水産資源と鉱産資源△」「公海△。公海自由の原則△」

[問題]

次の文の①，②に適語を入れよ。

国家の領域は，領土・(　①　)・領空からなり，(①)は国際法で海岸線から12海里を超えない範囲と定められている。さらにその外側に，海岸線から(　②　)海里までの排他的経済水域の設定が認められている。

(岡山県)

[解答欄]

| | |
|---|---|
| ① | ② |

[解答]① 領海　② 200

[問題]

右の資料は，国家の領域について模式的に表したものである。各問いに答えよ。

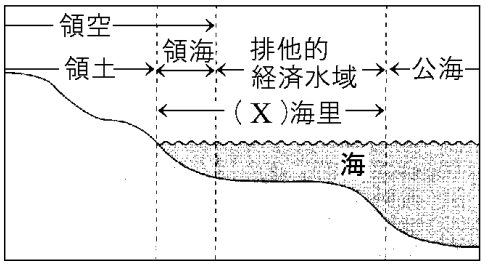


(1) 資料中の(　X　)にあてはまる数字を書け。

(2) 国家の主権がおよぶ範囲について，次の[　　]の中から適切なものをすべて選べ。

[ 領土　領海　排他的経済水域　公海　領空 ]

(和歌山県)

[解答欄]

| | |
|---|---|
| (1) | (2) |

[解答](1) 200　(2) 領土，領海，領空

[問題]

右の図は，国の範囲などを示す模式図である。

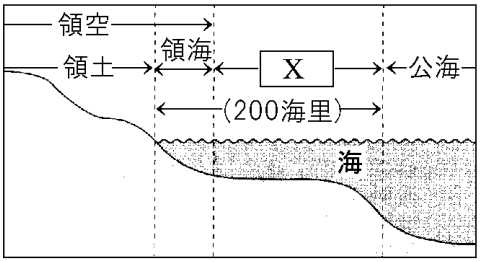


(1) 図の X に入る語は，海洋に関する条約によって，沿岸の国が水産資源や鉱産資源を利用する権利をもつとされている範囲を表す語である。X にあてはまる語を書け。

(2) 世界の国々が，自国の 200 海里内における権利を行使するようになってから，日本の漁業は影響を受けてきた。その影響による，日本の遠洋漁業の漁獲量や，魚介類の輸入量の変化を，簡潔に書け。

(山形県)

[解答欄]

| |
|---|
| (1) |
| (2) |

[解答](1) 排他的経済水域　(2) 遠洋漁業の漁獲量が減り，魚介類の輸入量が増えた。

[問題]

右の図は，岩手県を中心として，わが国の海岸から，12 海里，24 海里，200 海里を 3 種類の線で示した模式図である。排他的経済水域は図中のどの範囲か。その範囲を斜線で表せ。

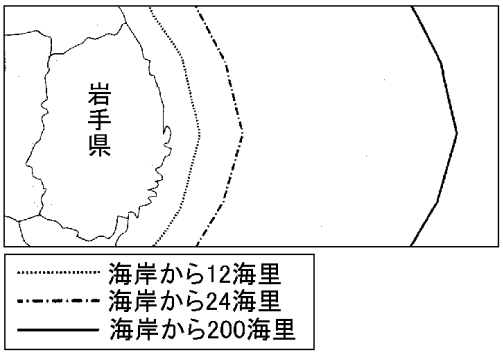


(岩手県)

[解答欄]

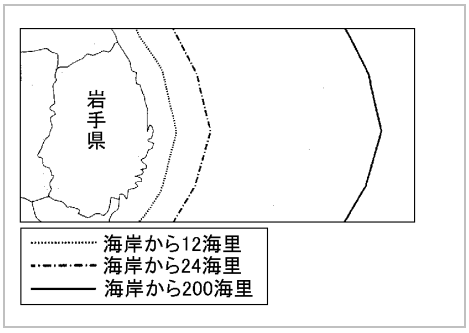


[解答]

[解説]

排他的経済水域 200海里(かいり)は海岸から 200 海里までの範囲であり，その中の地下資源・水産資源はその国のものである。ただし海岸から 12 海里までは領海(りょうかい)であり，その国の統治権(とうちけん)が全面的に及ぶので，排他的経済水域には含まれない。

[問題]

排他的経済水域において沿岸国に認められた権利を，2 つ選んで記号を書け。

ア　水産資源の管理

イ　鉱産資源の開発

ウ　上空飛行の独占

エ　沿岸国以外の航行の禁止

(秋田県)

[解答欄]

[解答]ア，イ

[問題]

　領海とそのまわりの経済水域の外側にあり，どこの国の船や漁船でも自由に航行や操業ができる水域を何というか書け。

(福井県)

[解答欄]

[解答]公海

[問題]

　次のア～エのうち，国家や国家のもつ権利について述べた文として，正しいものをすべて選び，その符号を書け。

ア　沿岸国の領海の外側には，その国の主権がおよぶ排他的経済水域がある。

イ　公海においては，どの国の船でも漁をし，自由に航行することができる。

ウ　国家の 3 つの要素とは，国民，領域，主権をいう。

エ　国家の領空は，領土と領海の上空であり，大気圏内とされている。

(石川県)

[解答欄]

[解答]イ，ウ，エ

[解説]

アは誤り。領海には主権が及ぶが，排他的経済水域には主権は及ばない。水産資源の管理や海底の鉱産資源の開発ができるのみである。

イ，ウ，エは正しい。

【】国際法・国際司法裁判所

[国際法]

[問題]

国家と国家の関係を円滑に保つために必要なルールとして，条約や，長年の慣行が法になったものがある。国家と国家の関係を定めるこれらのルールは，一般に何法と呼ばれるか。

(香川県)

[解答欄]

| |
|---|
| |

[解答]国際法

[解説]

国家がたがいに主権(しゅけん)を尊重し合っていくために，国際社会には守らなければならないルール(国際法(こくさいほう))がある。国際法は，国と国とが結ぶ条約(じょうやく)や，長い間の慣行(かんこう)から法となった国際慣習法(かんしゅうほう)(例えば，公海自由(こうかいじゆう)の原則)からなりたっている。

[国際法]
国際法 ─ 国際慣習法
　　 ─ 条約

※入試出題頻度：「国際法○」「国際慣習法と条約からなる△」

[問題]

次の文章中の①，②に適語を入れよ。

独立した国家は，他国に支配されたり干渉されたりせず，国の政治や外交について自ら決める権利である(　①　)をもつ。国家間のきまりである(　②　)には，国と国とが結ぶ条約や，公海自由の原則のように長年の慣行で守られている国際慣習法がある。

(秋田県)

[解答欄]

| | |
|---|---|
| ① | ② |

[解答]① 主権　② 国際法

[問題]

次の文中の①，②に適語を入れよ。

国際法は，国家が互いに主権を尊重し合っていくために，国際社会において守らなければならないルールであり，長年の慣行から法となった国際(　①　)法と，国家間で結ばれる(　②　)などから成っている。

(愛媛県改)

[解答欄]

| | |
|---|---|
| ① | ② |

[解答]① 慣習　② 条約

[問題]

国際法に関して述べた文として誤っているものを，ア～エから 1 つ選べ。

ア　国際法は，国際社会での平和と秩序を守るための国家間のきまり，または合意である。

イ　国際法には，子どもの権利条約のように，個人の権利を守るものがある。

ウ　国際法には，南極条約のように二国間で合意される条約がある。

エ　国際法は，大きく国際慣習法と条約の二種類に分けられる。

(徳島県)

[解答欄]

[解答] ウ

[解説]

ウが誤り。条約には，2 国間で結ばれるものと，多国間で結ばれるものがある。南極条約は，南極地域の平和的利用や領有権凍結等を定めた多国間条約である。

[国際司法裁判所]

[問題]

次の文中の X にあてはまる国際連合の機関を答えよ。

オランダのハーグにある(　X　)は，国際法にしたがい，国家間の紛争解決をめざす機関である。日本は，固有の領土である竹島の不法占拠を平和的手段により解決するために，竹島問題を(X)にゆだねることを韓国に提案したことがある。

(島根県)

[解答欄]

[解答]国際司法裁判所

[解説]

国と国との間の争いを法に基づいて解決するために，国際連合には国際司法裁判所(こくさいしほうさいばんしょ)が置かれている。本部はオランダのハーグにある。国際司法裁判所で裁判を始めるには争っている当事国の同意が必要なため，全ての争いが裁判によって解決されるわけではない(国内の裁判所であれば，当事者一方の訴えで裁判を始めることができる)。

[国際司法裁判所]
本部：オランダのハーグ
当事国の同意が必要

島根県の竹島(たけしま)は敗戦後のどさくさの中で韓国(かんこく)に不法に占拠(せんきょ)され現在に至っている。

日本政府は，韓国に抗議を続ける一方で，1954 年，1962 年，2012 年の 3 回にわたって竹島問題を国際司法裁判所の判断に委(ゆだ)ね，平和的に解決するという提案を行ってきたが，韓国はこれを拒否し続けている。国際司法裁判所での裁判を始めるためには両当事国の同意が必要なため，裁判はできないままである。

※入試出題頻度：「国際司法裁判所○」「オランダのハーグ△」「当事国の同意が必要○」

[問題]

国際司法裁判所の本部があり風車とチューリップが有名であるのは何という国か。

(福井県)

[解答欄]

| |
|---|
| |

[解答]オランダ

[問題]

国際司法裁判所について述べた文として，最も適当なものを，次のア～エから 1 つ選び，その符号を書け。

ア　オランダのハーグに本部が置かれ，争っている当事国の同意により裁判が始まる。

イ　オランダのハーグに本部が置かれ，争っている一方の国の訴えにより裁判が始まる。

ウ　スイスのジュネーブに本部が置かれ，争っている当事国の同意により裁判が始まる。

エ　スイスのジュネーブに本部が置かれ，争っている一方の国の訴えにより裁判が始まる。

(新潟県)

[解答欄]

| |
|---|
| |

[解答]ア

[問題]

次の文は，国際社会のルールについて述べたものである。文中の①，②の(　　)内からそれぞれ適語を選べ。

国際法は，条約と国際慣習法の 2 種類に大別される。①(条約／国際慣習法)の例としては，公海自由の原則がある。国家間の争いを法に基づいて解決するために，国際連合には国際司法裁判所が設置されているが，裁判を開始するには②(安全保障理事会の承認／当事国による同意)が必要である。

(岩手県)

[解答欄]

| | |
|---|---|
| ① | ② |

[解答]① 国際慣習法　② 当事国による同意

[問題]

次の文中の X に当てはまる内容を，「争っている当時国」という語句を使って，簡潔に書け。

国際司法裁判所で裁判を始めるには，(　　X　　)が必要な場合があるため，裁判にならないことがある。

(山梨県)

[解答欄]

[解答]争っている当事国の同意

[問題]

国家と国際法について述べた文として最も適当なものを，次のア～エから 1 つ選び，記号で答えよ。

ア　国家の支配する領域は，領土・領空・領海からなり，領海には排他的経済水域が含まれる。

イ　主権をもつ国家は，国内での国家の決定について他国から干渉されない。

ウ　公海自由の原則は，長い間の慣行が法になった慣習法で，国際法には含まれない。

エ　国際司法裁判所では，当事国のどちらか一方の国が訴えることで裁判が開始される。

(島根県)

[解答欄]

[解答]イ

[解説]

アは誤り。排他的経済水域は領海に含まれない。

ウは誤り。公海自由の原則など長い間の慣行が法になった慣習法も国際法の一部である。

エは誤り。国際司法裁判所で裁判を始めるには，争っている当事国の同意が必要である。

【】領土をめぐる問題

[問題]

わが国は，1956 年に日ソ共同宣言に調印して，ソ連との国交を回復した。しかし，日ソ間の領土問題は解決しなかった。日ソ間の領土問題は，ソ連からロシアに引き継がれたが，現在も未解決である。わが国の政府が，ロシア政府に対して返還を求めている，わが国固有の領土である北方領土は，(　①　)群島，色丹島，(　②　)島・択捉島からなっている。

(1) ①，②のそれぞれに当てはまることばを書け。

(2) 下線部択捉島の位置を，右の略地図のア～エから選べ。

(北海道)

[解答欄]

| | | |
|---|---|---|
| (1)① | ② | (2) |

[解答](1)① 歯舞　② 国後　(2) イ

[解説]

太平洋戦争末期の 1945 年 8 月 15 日に日本は無条件降伏を行ったが，そのわずか 1 週間前の 8 月 8 日，ソ連はまだ有効期限内であった日ソ中立条約を一方的に破棄し，日本に宣戦布告して千島列島を占拠した。日本は，北方領土(歯舞群島，色丹島，国後島，択捉島の 4 島)は日本固有の領土であるとして，ロシアに対し返還を要求している。

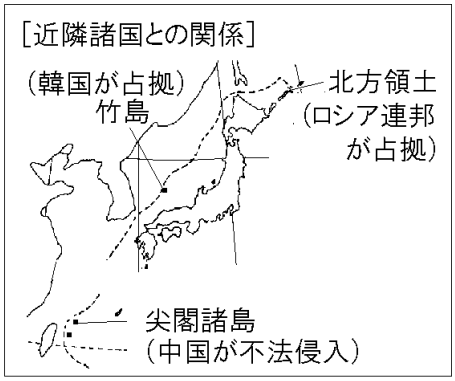


1905 年，明治政府は竹島を島根県に編入し国際法的にも日本の領土になった。しかし日本の敗戦後，GHQ は竹島を沖縄や小笠原諸島と同様に，日本の行政権から外した。これを口実に 1952 年に韓国は竹島(韓国側は「独島」とよんでいる)の領有権を主張し，海岸警備隊による不法占拠を現在も続けている。日本政府は，韓国に抗議を続ける一方で，1954 年，1962 年，2012 年の 3 回にわたって竹島問題を国際司法裁判所の判断に委ね，平和的に解決するという提案を行ってきたが，韓国はこれを拒否し続けている。国際司法裁判所での裁判を始めるためには両当事国の同意が必要なため，裁判はできないままである。

尖閣諸島は日本の領土であるが，1960 年代に，石油などの資源が周辺の海底にある可能性が注目され，1970 年代にはいると，中国などが領有権を主張するようになった。

さらに，近年，中国は領海内に巡視船による不法侵入をくり返している。

※入試出題頻度：「北方領土・ロシア△」「竹島・韓国△」「尖閣諸島・中国△」

[問題]

現在，日本が領土問題を抱えている地域とその相手国の組み合わせとして正しいものを，右のア～エのうちから 1 つ選び，記号で答えよ。

(沖縄県)

| | 竹島 | 北方領土 |
|---|---|---|
| ア | 中国 | 北朝鮮 |
| イ | 北朝鮮 | ロシア |
| ウ | 韓国 | 北朝鮮 |
| エ | 韓国 | ロシア |

[解答欄]

| |
|---|
| |

[解答]エ

[問題]

右図の A，B，C は日本の領土であるにもかかわらず，外国が不法占拠，あるいは領海内への不法侵入をくり返している地域である。これについて，次の各問いに答えよ。

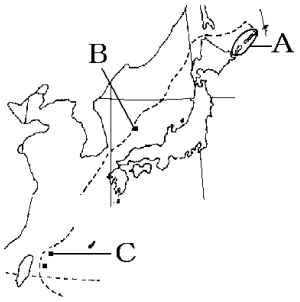


(1) ①図の A の島々を何というか。②A を不法占拠している国はどこか。

(2) ①図の B の島を何というか。②B を不法占拠している国はどこか。

(3) 図の C の島は日本が実効支配しているが，ある国が，領有権を主張して島の領海内に巡視船による不法侵入をくり返している。①この島を何というか。②不法侵入をくり返している国の名前を答えよ。

(補充問題)

[解答欄]

| | | | |
|---|---|---|---|
| (1)① | ② | (2)① | ② |
| (3)① | ② | | |

[解答](1)① 北方領土　② ロシア　(2)① 竹島　② 韓国　(3)① 尖閣諸島　② 中国

【】国際連合

【】発足・加盟国数の変化・国連分担金

[国際連合の発足]

[問題]

国家どうしの戦争を防ぎ，世界の平和を維持することを最大の目的として 1945 年に結成された国際機関の名を，漢字 4 字で書け。

(岐阜県)

[解答欄]

| |
|---|
| |

[解答]国際連合

[解説]

国際連盟(こくさいれんめい)が第二次世界大戦を防げなかった反省から，世界の平和と安全を実現するため，1945年に51か国が国際連合(こくさいれんごう)憲章(けんしょう)を採択(さいたく)し，国際連合が成立した。国際連合は総会・安全保障理事会(あんぜんほしょうりじかい)・経済社会理事会・事務局などからなり，本部はアメリカのニューヨークに置かれている。

※入試出題頻度：「国際連合○」「国際連合憲章△」「平和及び安全を維持する△」「本部はニューヨーク◎」

[国際連合の発足]
国際連盟：第二次世界大戦を防げなかった
↓
世界の平和と安全を維持するため
1945年 国際連合　国際連合憲章
本部は ニューヨーク

[問題]

略称である「国連」を，省略せずに①漢字 4 字で書け。②また，その本部が置かれている都市を，次の[　　]から 1 つ選べ。

[ ロンドン　ニューヨーク　パリ　ワシントン ]

(長野県)

[解答欄]

| | |
|---|---|
| ① | ② |

[解答]① 国際連合　② ニューヨーク

[問題]

次の各問いに答えよ。

(1) 国際連合が発足する際に採択されたものは何か。

(2) 国際連合が発足したのは何年か。次から 1 つ選べ。

[ 1920 年　1933 年　1945 年　1956 年 ]

(高知県改)

[解答欄]

| (1) | (2) |
|---|---|

[解答](1) 国際連合憲章　(2) 1945 年

[問題]

国際連合の設立の目的をふまえて，次の資料中の X に共通してあてはまる語句を書け。

(資料)国際連合憲章(一部)

･･･寛容を実行し，且つ，善良な隣人として互いに(　X　)に生活し，国際の(X)及び安全を維持するためにわれらの力を合わせ，共同の利益の場合を除く外は武力を用いないことを原則の受諾と方法の設定によって確保し，･･･

(長崎県)

[解答欄]

| |
|---|
| |

[解答]平和

[問題]

国際連合が発足した理由を，「国際連盟」「反省」「平和」の 3 つの語句を用いて説明せよ。

(福島県)

[解答欄]

| |
|---|
| |

[解答]国際連盟が第二次大戦を防げなかった反省を生かして，再び戦争をおこすことなく，世界の平和を維持しようとしたから。

[加盟国数の変化]

[問題]

右のグラフは，1945 年～1966 年における，世界の 6 州別の国際連合加盟国数の推移を示したものである。次の(1)，(2)の問いに答えよ。

(1) グラフの 1957 年から 1963 年にかけて大きな変化がみられる。その特徴について簡潔に書け。

(2) (1)のような変化があらわれた理由を簡潔に書け。

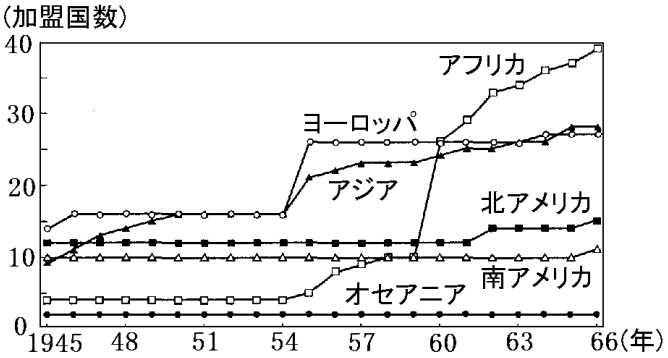

(長崎県)

[解答欄]

| |
|---|
| (1) |
| (2) |

[解答](1) アフリカの加盟国が大幅に増えたこと。　(2) 多くの植民地が独立したから。

[解説]

第二次世界大戦後，アジアで，多くの国が独立したために 1945～1955 年の間の国連加盟国数が増加している。

1960 年は「アフリカの年」といわれ，アフリカで多くの独立国が生まれた。これによって，1957～1963 年の間のアフリカ諸国の国連加盟国数が大幅に増加している。

[加盟国数の変化]
発足時:51か国
1945～55年: 独立したアジアの国々が加盟
60年代:独立したアフリカの国々が加盟
90年代:ソ連崩壊→多くの国が独立→加盟
現在:193か国

1991 年にソ連が崩壊し，多くの国が生まれ，これらの国が国連に加盟した。

スイスは永世中立国の立場から国際協調重視へと方針を転換し，2002 年に国際連合に新しく加盟した。2022 年現在の国連加盟国数は 193 か国である。

※入試出題頻度：加盟国数が増えた理由(「戦後，アジアで大国が独立した△」「1960 年，アフリカで独立国が生まれた○」「1991 年，ソ連が解体○」)

[問題]

高橋さんは，国際連合のことを学習する中で見つけた右の資料をきっかけにして，下の文章をまとめた。これに関する後の各問いに答えよ。

(国際連合の加盟国数の推移)

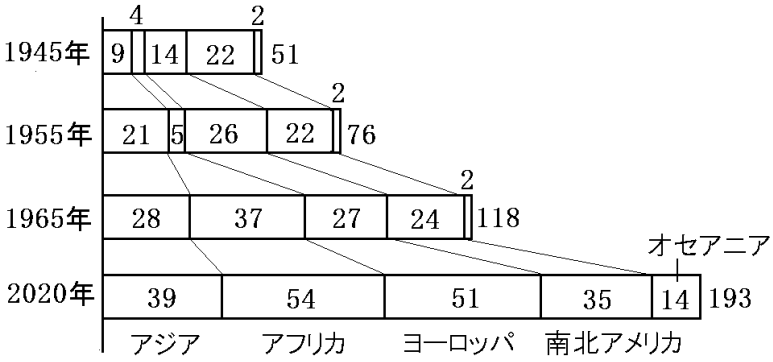


世界平和の維持を最大の目的とする国際連合の加盟国数は次第に増加してきた。1955～1965 年の間にアフリカで加盟国数が増えたのは(　①　)ためである。また，1965～2020 年の間にヨーロッパの加盟国数が増えた理由の 1 つは，1991 年に(　②　)が解体したためである。

(1) 文章中の①に当てはまる内容を，「植民地」という語句を使って，簡潔に書け。

(2) 文章中の②に当てはまる国の名前を書け。

(山梨県)

[解答欄]

| (1) | (2) |
|---|---|

[解答](1) 多くの植民地が独立した　(2) ソ連

[問題]

次の資料は，アジア，アフリカ，ヨーロッパ，南北アメリカ，オセアニアの各地域における，国際連合の加盟国数の変化を表している。このうち，アフリカについて表しているものを，資料中の A～D の中から 1 つ選び，その記号を書け。

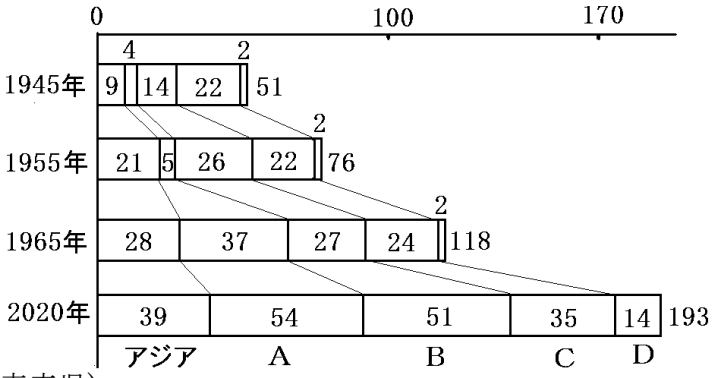


(青森県)

[解答欄]

[解答]A

[解説]

1960 年は「アフリカの年」といわれ，アフリカで多くの独立国が生まれ，国連加盟国数が増加した。図で 1955 年～1965 年の間に加盟国数が 5 か国から 37 国に増加した A がアフリカである。B はヨーロッパ・旧ソ連，C は南北アメリカ，D はオセアニアである。

[問題]

右の資料で，アフリカ州の加盟国数は 1959 年から 1969 年の間に，ヨーロッパ州の加盟国数は 1989 年から 1999 年の間に大幅に増えていることがわかる。それはなぜか。当時の国際情勢をふまえ，それぞれの州について，簡潔に書け。

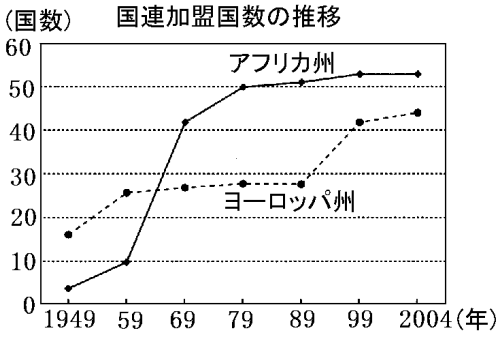


(和歌山県)

[解答欄]

| |
|---|
| アフリカ州： |
| ヨーロッパ州： |

[解答]アフリカ州：多くの植民地が独立したから。
ヨーロッパ州：ソ連が解体して多くの国が生まれたから。

[問題]
　現在の国連加盟国数として正しいものを次の[　　]から選べ。
[ 103　153　193　253 ]
(神奈川県)
[解答欄]

[解答]193

[問題]
　永世中立国の立場から国際協調重視へと方針を転換し，2002 年 9 月，国際連合に新しく加盟した国の名前を答えよ。
(沖縄県)
[解答欄]

[解答]スイス

[国連分担金]
[問題]
　K さんは，国連予算の分担率の上位 6 か国を調べ，次の表をつくった。表中の X には安全保障理事会の常任理事国があてはまる。X にあてはまる国名を書け。
　国連予算分担率(2022～24 年)

| 順位 | 国　名 | 分担率(%) |
|---|---|---|
| 1 | アメリカ合衆国 | 22.00 |
| 2 | (　X　) | 15.25 |
| 3 | 日本 | 8.03 |
| 4 | ドイツ | 6.11 |
| 5 | イギリス | 4.38 |
| 6 | フランス | 4.32 |

(埼玉県改)
[解答欄]

[解答]中国(中華人民共和国)

[解説]
安全保障理事会の常任理事国は，アメリカ，イギリス，フランス，ロシア，中国の 5 か国である。したがって，X は中国かロシアである。中国の GDP はアメリカに次いで世界 2 位である。ロシアは経済低迷が続いており，GDP は韓国と同じ程度である。国連の分担金は各国の経済的な水準や支払い能力に応じて決められるので，X は中国と判断できる。
(統計修正)「世界国勢図会 2023/2024」P28

[問題]
右のグラフは，国際連合の通常予算の分担率について，アメリカ，中国，ドイツ，日本の推移を示したものであり，グラフ中のア～エは，これらの 4 つの国のいずれかである。このうち，日本に当てはまるものを，ア～エから 1 つ選び，その符号を書け。なお，国際連合の通常予算は，加盟国全体で合意された分担率に応じて，各加盟国が支払う分担金によってまかなわれている。

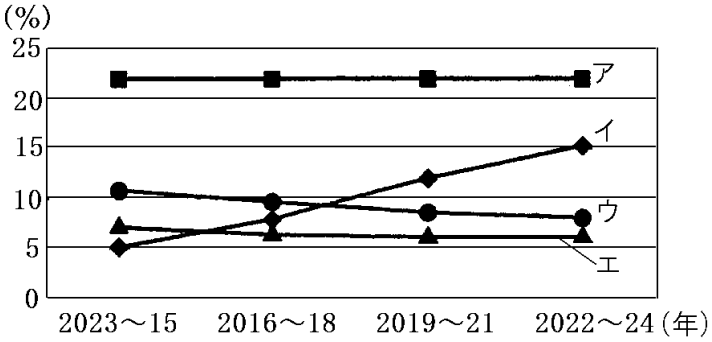


(新潟県)
[解答欄]

[解答]ウ
[解説]
アはアメリカ，イは中国，ウは日本，エはドイツである。

【】総会・経済社会理事会

[総会]

[問題]

国際連合で，すべての加盟国からなり，1 国が 1 票の議決権をもつ機関は何か。

(福井県)

[解答欄]

[解答]総会

[解説]

総会(そうかい)は全加盟国で構成されており，毎年 9 月から開かれる。国の大小にかかわらず，主権平等の原則によって，1 国 1 票の投票権をもっている。議決は多数決で行われる(通常の問題では，出席し投票する国の過半数の賛成が必要である。重要事項については，出席し投票する国の 3 分の 2 以上の賛成が必要である。)

[総会]
全加盟国で構成
主権平等の原則
→1国1票の投票権
議決は多数決

※入試出題頻度：「総会○」「全加盟国で構成△」「主権平等の原則○→1 国 1 票○」「議決は多数決△」

[問題]

総会は，国際連合の中心的な審議機関である。次のア～エのうち，総会の仕組みとして適切なものを全て選び，その記号を書け。

ア　全ての加盟国で構成される。

イ　常任理事国と非常任理事国で構成される。

ウ　一国が一票の投票権をもつ。

エ　一国でも反対すると決定できない。

(広島県)

[解答欄]

[解答]ア，ウ

[解説]

イは安全保障理事会についての説明である。

エは誤り。総会の議決には，通常の問題では，出席し投票する国の過半数の賛成が必要である。重要事項については，出席し投票する国の 3 分の 2 以上の賛成が必要である。

[問題]

国際連合の中の総会についての説明として誤っているものを，次のア～エから 1 つ選び，記号で答えよ。

ア　5 つの常任理事国がおかれており，これらの国々は決定に際して拒否権を持つ。

イ　国際連合加盟国には 1 国 1 票の投票権がある。

ウ　国際連合の中心的な機関で，全加盟国によって構成されている。

エ　毎年 1 回，定期的に開催されている。

(鳥取県)

[解答欄]

[解答]ア

[解説]

アは安全保障理事会についての説明である。

[問題]

国際連合について説明した次の文の下線部ア～エの中に，1 か所誤りがある。誤りをア～エから選び，正しいことばを書け。

国際連合は，ア)第二次世界大戦が終わった 1945 年に設立され，本部はアメリカ合衆国のイ)ニューヨークに置かれている。国際連合は，すべての加盟国に 1 票の議決権が認められているウ)経済社会理事会や，国際司法裁判所，事務局などの主要な機関と，ユネスコなどのいろいろな機関から構成されている。国際連合を構成する機関の中でも，アメリカ合衆国などの常任理事国と任期 2 年の非常任理事国で構成されているエ)安全保障理事会は，世界の平和と安全の維持に大きな役割をになっている。

(北海道)

[解答欄]

[解答]ウ，総会

[解説]

ウが誤り。すべての加盟国に 1 票の議決権が認められるのは総会である。

[問題]

次の資料に示された議案の可決に最低限必要な票数を書け。ただし，193 か国の全てが出席し投票するものとする。

資料：国連総会の議案議案(通常議案)

「世界の水問題の解決について」

(群馬県)

[解答欄]

[解答]97 票

[解説]

「通常議案」なので，出席し投票する国(193 か国)の過半数の賛成が必要である。193 か国の過半数は，193÷2＝96.5 より 97 である。

[問題]

右の表は，1945 年と 2019 年における，国際連合の加盟国数を，地域別に示したものである。表から，1945 年と比べて，2019 年の総会における，地域別に見たときの影響力は，南北アメリカが最も低下していると考えられる。表から考えられる，1945 年と比べて，2019 年の総会における南北アメリカの影響力が低下している理由を，総会における加盟国の投票権に関連づけて，簡単に書け。

| | 1945 年 | 2019 年 |
|---|---|---|
| 南北アメリカ | 22 か国 | 35 か国 |
| ヨーロッパ | 14 | 43 |
| アジア | 9 | 47 |
| アフリカ | 4 | 54 |
| オセアニア | 2 | 14 |
| 合計 | 51 | 193 |

(静岡県)

[解答欄]

[解答]総会の投票権は 1 国 1 票であり，全加盟国に占める南北アメリカの割合が下がっているから。

[経済社会理事会]

[問題]

次の[　　]の国際連合の主な機関のうち，ILO や WHO などの専門機関と協力し合って活動するとともに，専門機関の活動を調整することができる機関はどれか。1 つ選べ。

[ 経済社会理事会　信託統治理事会　国際司法裁判所　事務局 ]

(山口県)

[解答欄]

[解答]経済社会理事会

[解説]

経済社会理事会は経済・社会・文化・人権などに関する問題を処理する。経済社会理事会の専門機関として，国連教育科学文化機関(ユネスコ)(UNESCO)，国際労働機関(ILO)，世界保健機関(WHO)などがある。

※入試出題頻度：「経済社会理事会△」

【】安全保障理事会・PKO

[安全保障理事会]

[問題]

国際連合におけるおもな機関の 1 つで，世界の平和と安全を維持することを目的として，アメリカ，イギリス，フランス，ロシア，中国の 5 か国の常任理事国と 10 か国の非常任理事国とで構成される機関の名を書け。

(岐阜県)

[解答欄]

[解答]安全保障理事会

[解説]

国際連合は，国際連盟の失敗に対する反省から，侵略国に対して加盟国全体で武力制裁を含む制裁措置を行う集団安全保障のしくみがとられている。平和と安全の維持にあたっているのは安全保障理事会で，アメリカ，イギリス，フランス，ロシア，中国の 5 か国が常任理事国で，非常任理事国は 10 か国である(任期は 2 年)。常任理事国は拒否権を持ち，重要な問題は 1 か国でも反対すると議決できない。

[安全保障理事会]
- 常任理事国：アメリカ，イギリス，フランス，ロシア，中国
- 非常任理事国：10か国（任期は2年）
- 集団安全保障

※入試出題頻度：「安全保障理事会◎」「常任理事国○：アメリカ，イギリス，フランス，ロシア，中国の5か国◎」「非常任理事国は10か国△」「集団安全保障△」

[問題]

安全保障理事会の(　X　)は，アメリカなど 5 か国である。この 5 か国は，拒否権により安全保障理事会の決定に大きな影響力をもっている。文中の X に適語を入れよ。

(岡山県)

[解答欄]

[解答]常任理事国

[問題]

国際連合は，総会・安全保障理事会などの機関からなる。フランスはアメリカや(　X　)とともに安全保障理事会の常任理事国である。文中の X に入る国の組み合わせとして適切なものを，次のア～エから 1 つ選んで，その符号を書け。

ア　中国，イタリア，ドイツ　　イ　イタリア，スイス，ロシア

ウ　中国，イギリス，ロシア　　エ　イギリス，スイス，ドイツ

(兵庫県)

[解答欄]

[解答]ウ

[問題]

現在の国際連合の加盟国数と安全保障理事会の常任理事国の正しい組み合わせはどれか，ア～エから 1 つ選べ。

| | 加盟国数 | 安全保障理事会の常任理事国 |
|---|---|---|
| ア | 93 か国 | 日本・アメリカ・イギリス・フランス・中国 |
| イ | 193 か国 | 日本・アメリカ・イギリス・フランス・中国 |
| ウ | 93 か国 | アメリカ・イギリス・フランス・ロシア・中国 |
| エ | 193 か国 | アメリカ・イギリス・フランス・ロシア・中国 |

(京都府)

[解答欄]

[解答]エ

[問題]

安全保障理事会に 2 年間の任期で参加する国のことを何というか。

(秋田県)

[解答欄]

[解答]非常任理事国

[問題]

安全保障理事会について述べた文として最も適当なものを，次のア～エのうちから 1 つ選び，その符号を書け。

ア　常任理事国 5 か国と非常任理事国 5 か国で構成されている。

イ　常任理事国 5 か国と非常任理事国 10 か国で構成されている。

ウ　常任理事国 10 か国と非常任理事国 5 か国で構成されている。

エ　常任理事国 10 か国と非常任理事国 10 か国で構成されている。

(千葉県)

[解答欄]

[解答]イ

[問題]

　国際連合は，国連憲章にもとづいた安全保障理事会の決定により，侵略などをした国に対して制裁を加えることができる。このようにして国際社会の平和と安全の維持を図ることは，何と呼ばれるか。次の[　　]から１つ選べ。

[ 集団的自衛権　平和維持活動　集団安全保障　人間の安全保障 ]

(香川県)

[解答欄]

[解答]集団安全保障

[拒否権]

[問題]

　常任理事国には，重要な議題に関して１国でも反対すると，安全保障理事会として議決できないという権限が与えられている。この権限を何というか。その用語を書け。

(新潟県)

[解答欄]

[解答]拒否権

[解説]

安全保障理事会は，常任理事国5か国と非常任理事国10か国で構成されている。安全保障理事会の議決は9理事国以上の多数決で行われるが，重要問題の議決には，常任理事国のうち1か国でも反対すれば議決されない。これを拒否権という。

[安全保障理事会の議決]
9理事国以上の賛成が必要
ただし，常任理事国は 拒否権 を持ち，
1国でも反対すれば議決できない

※入試出題頻度：「拒否権◎」「常任理事国のうち１国でも反対すれば議決できない◎」「拒否権を持つ常任理事国が反対したから◎」

[問題]

国際連合の安全保障理事会は，①常任理事国と非常任理事国から構成され，常任理事国には，②重要な問題に関する決議の成立を阻止する権利が与えられている。

(1) 下線部①は，全部で何か国あるか。

(2) 下線部②について，この権利を何というか。

(石川県)

[解答欄]

| | |
|---|---|
| (1) | (2) |

[解答](1) 5 か国　(2) 拒否権

[問題]

次の文章中の①，②に適語を入れよ。

安全保障理事会は，常任理事国 5 か国，非常任理事国 10 か国で構成され，平和に関する決議をおこなうことができる。その決議において，①(常任理事国／常任理事国と非常任理事国)のすべての国は(　②　)と呼ばれる権限をもつため，1 か国でも反対すると決議ができなくなる。

(香川県)

[解答欄]

| | |
|---|---|
| ① | ② |

[解答]① 常任理事国　② 拒否権

[問題]

国際連合による平和維持活動は，主に安全保障理事会の決議によって行われる。安全保障理事会の決議について述べた文として，正しいものを，次のア～エから 1 つ選べ。

ア　常任理事国の過半数の賛成が必要である。

イ　すべての常任理事国の賛成が必要である。

ウ　すべての非常任理事国の賛成が必要である。

エ　常任理事国の過半数と，非常任理事国の過半数の賛成が必要である。

(宮城県)

[解答欄]

| |
|---|
| |

[解答]イ

[問題]

安全保障理事会の常任理事国 5 か国が持っている拒否権とはどういうものか。「採決において,」という書き出しで説明せよ。

(福島県)

[解答欄]

| |
|---|
| |

[解答]採決において，常任理事国のうちの 1 国でも反対すると議決できないこと。

[問題]

次の表は，国際連合の安全保障理事会における，国際平和の維持に関する，ある重要な議題についての投票結果を示したものであり，この議題は決定されなかった。この議題が決定されなかったのはなぜか。その理由を書け。

| | 国の数 | 内　訳 | |
|---|---|---|---|
| | | 常任理事国 | 非常任理事国 |
| 賛成 | 13 か国 | 4 か国 | 9 か国 |
| 反対 | 1 か国 | 1 か国 | なし |
| 棄権 | 1 か国 | なし | 1 か国 |

(新潟県)

[解答欄]

| |
|---|
| |

[解答]拒否権を持つ常任理事国が反対したから。

[問題]

平和への取り組みに主要な責任を負っているのが安全保障理事会である。次の表は，2017 年 4 月に安全保障理事会で否決となったある決議案に賛成した国と反対した国と棄権した国の内訳を示したものである。安全保障理事会を構成する 15 か国のうち，賛成した国が 10 か国であったにもかかわらずこの決議案が否決となった理由を簡潔に書け。

| 賛　　成 | 反　対 | 棄　権 |
|---|---|---|
| アメリカ合衆国，イギリス，イタリア，ウクライナ，ウルグアイ，エジプト，スウェーデン，セネガル，日本，フランス | ボリビア，ロシア | エチオピア，カザフスタン，中国 |

(大阪府)

[解答欄]

| |
|---|
| |

[解答]常任理事国であるロシアが拒否権を発動したから。

[問題]

わが国は，1956 年に国際連合への加盟を実現した。ひとしさんは，わが国がそれ以前にも国際連合への加盟を求めていたが認められなかったことを知り，右の資料を作成した。資料は，1952 年 9 月に行われた安全保障理事会における，わが国の加盟についての投票結果を示している。

| | 国数 |
|---|---|
| 賛成 | 10 か国 |
| 反対 | 1 か国 |

賛成が多数を占めたにもかかわらず，わが国の加盟が認められなかったのはなぜか。資料をもとに，常任理事国だけがもつ権限(権利)にふれて，その理由を書け。

(三重県)

[解答欄]

[解答]常任理事国は拒否権をもっており，常任理事国の中の 1 か国(ソ連)が拒否権を発動したから。

[解説]

1951 年にサンフランシスコ平和条約によって主権を取り戻した日本は，国連加盟を求めたが，ソ連が拒否権を発動したために加盟ができなかった。1956 年に日ソ共同宣言を行った後，ソ連の拒否権発動の障害がなくなって，ようやく国連加盟を果たした。

[問題]

国際連合の安全保障理事会の説明として正しいものを，次のア～エから 1 つ選び，符号で答えよ。

ア　常任理事国と非常任理事国で構成され，常任理事国には拒否権が認められている。

イ　常任理事国は，アメリカ，イギリス，フランス，日本，中国の 5 か国で構成される。

ウ　非常任理事国は常任理事国により選出され，任期 2 年の 5 か国で構成される。

エ　国連平和維持活動を行うユネスコやユニセフなどのいろいろな専門機関がある。

(宮崎県)

[解答欄]

[解答]ア

[解説]

アは正しい。

イは誤り。日本は常任理事国になっていない。

ウは誤り。非常任理事国は 10 か国で，総会の選挙で選ばれる。

エは誤り。ユネスコやユニセフなどの専門機関は経済社会理事会のもとにおかれている。

[PKO]

[問題]

国連の重要なはたらきの１つは，世界の平和と安全を維持することである。国連は地域紛争に際して，当事者間で停戦合意が結ばれた場合に，停戦状態の監視などの活動をおこなっている。国連のこのような活動は，一般に何とよばれるか。次から１つ選べ。

[ NGO　NPO　PKO　WHO ]

(香川県)

[解答欄]

[解答]PKO

[解説]

国際平和の維持にあたる国連の機関は安全保障理事会である。しかし，東西の対立がきびしかった冷戦期には，拒否権がひんぱんに発動されたため安全保障理事会は十分に機能しなかった。これにかわって必要に応じた便宜的措置として生まれたのが，国連の平和維持活動(PKO)である。当初は，紛争当事国の同意を前提として小規模の平和維持軍(PKF)を派遣し，停戦の監視，兵力分離，非武装地帯の維持，平和回復後の選挙監視などの任務にあたった。

[PKO(平和維持活動)]
紛争地域での停戦や
選挙の監視など
日本でも1992年に
PKO協力法(国際平和協力法)
→カンボジアへ派遣

日本でも PKO への人的国際貢献が議論され，1992 年に PKO 協力法(国際平和協力法)が制定された。これをうけて，まずカンボジアへはじめて自衛隊が派遣された。

※入試出題頻度 :「PKO(平和維持活動)◎」「日本 : PKO 協力法→カンボジアへ自衛隊派遣△」

[問題]

美咲さんは，国際連合がカンボジアで行った停戦の監視などの活動に，わが国が 1992 年から 1993 年にかけて協力したという記事を見つけた。右の写真は，そのときの自衛隊の様子を撮影したものである。わが国の自衛隊が協力した，このような国際連合の活動をアルファベット 3 文字の略称で答えよ。

(岡山県)

[解答欄]

[解答]PKO

[問題]

世界の平和と安全を維持する役割を果たしている国際連合は，紛争が起こった地域において，停戦や選挙を監視するなどの活動を行っている。この活動を何というか。日本語で答えよ。

(新潟県)

[解答欄]

[解答]平和維持活動

[問題]

1992 年 6 月の PKO 協力法の成立を受けて，日本の自衛隊が初めて平和維持活動に出かけた場所として正しいものを次から 1 つ選べ。

[ カンボジア　コソボ　東ティモール　イスラエル ]

(島根県)

[解答欄]

[解答]カンボジア

[問題]

PKO の活動として適切なものはどれか。次のア～エから 1 つ選び，記号で書け。

ア　紛争地域での停戦や選挙の監視などをおこなう活動

イ　予防接種を広めたり，保健の大切さを伝えたりする活動

ウ　発展途上国に小学校を建てるなど，教育を広める活動

エ　青年海外協力隊員を派遣し，技術協力をおこなう活動

(山梨県)

[解答欄]

[解答]ア

[解説]

国際連合は，紛争地域に平和維持軍(PKF)を派遣して，停戦の監視などの平和維持活動(PKO)を行っている。イは WHO，ウはユネスコ，エは ODA による活動である。

[問題]

次のうち誤っているものはどれか。

ア　国連の安全保障理事会は，5 か国の常任理事国と，10 か国の非常任理事国から構成されている。

イ　国連の安全保障理事会の常任理事国と非常任理事国には，拒否権が認められている。

ウ　国連は紛争当事国の同意や要請により，停戦の監視や選挙の監視などの平和維持活動を行う。

エ　日本では，1992 年に国連平和協力法(PKO 協力法)が制定された。

(神奈川県)

[解答欄]

[解答]イ

[解説]

イが誤り。常任理事国のみに拒否権が認められている。

【】専門機関など

[UNESCO(ユネスコ)]

[問題]

　世界の文化遺産及び自然遺産の保護に関する条約に基づいて，世界遺産の保護や修復等を行っている国際連合の専門機関の略称として適切なものを，次の[　　]から１つ選べ。

[ UNHCR　UNESCO　UNCTAD　UNICEF ]

(兵庫県)

[解答欄]

[解答]UNESCO

[解説]

UNESCO(国連教育科学文化機関)は，教育・科学・文化を通じて，各国間の相互理解や協力を推進する機関である。発展途上国での初等教育の普及や，世界遺産の登録や保護などによって，人類共通の遺産を保護し次の世代のために残す活動を行っている。

[ UNESCO(ユネスコ)(国連教育科学文化機関) ]
発展途上国での初等教育の普及
世界遺産の登録や保護

※入試出題頻度：「UNESCO(ユネスコ)(国連教育科学文化機関)◎」「発展途上国での初等教育の普及△」「世界遺産○：人類共通の遺産として保護し次の世代のために残す△」

[問題]

　国際連合の専門機関の１つで，貴重な自然や建造物などを世界遺産として登録し，その保護などに取り組んでいる国連教育科学文化機関の略称を，カタカナ４字で書け。

(北海道)

[解答欄]

[解答]ユネスコ

[問題]

　ユネスコ(UNESCO)のおもな活動の説明として最も適当なものを次のア～エから１つ選べ。

ア　武力紛争などで他国にのがれた難民を保護する活動をしている。

イ　おもに発展途上国で医療・衛生への取り組みをしている。

ウ　子どもの心身の健やかな成長を守る活動をしている。

エ　世界遺産の決定や文化財保護，識字教育などの活動をしている。

(福島県)

[解答欄]

| |
|---|
| |

[解答]エ

[解説]

アは国連難民高等弁務官事務所(UNHCR)，イは世界保健機関(WHO)，ウは国連児童基金(UNICEF)，エは国連教育科学文化機関(UNESCO) の活動である。

[問題]

国際機関等の活動について説明した次の文中の①について，(　　)の中から適切なものを選べ。また，②に入る適語を書け。

右の資料の白川郷・五箇山の合掌造り集落群は，国連の専門機関である①(UNICEF／UNESCO／WHO)により，1995 年に(　②　)として登録され保護が図られている。



(富山県)

[解答欄]

| | |
|---|---|
| ① | ② |

[解答]① UNESCO　② 世界遺産

[問題]

ユネスコが世界の貴重な文化財などを，世界遺産に登録するのはなぜか。「次世代」，「共通」の語句を用いて 20 字以上 30 字以内で説明せよ。

(奈良県)

[解答欄]

| |
|---|
| |

[解答]人類の共通の財産を守り，次世代に受け継いでいくため。

[UNICEF(ユニセフ)]

[問題]

戦争などで被害を受けた地域や発展途上国で，子どもたちの医療や食料などの援助をすることを主な目的とする国際連合の機関は，次のうちのどれか。

[ WHO　UNICEF　ILO　UNESCO ]

(岡山県)

[解答欄]

| |
|---|
| |

[解答]UNICEF

[解説]

UNICEF（国連児童基金)は，総会によって設立された機関の１つで，本部がニューヨークにあり，戦争などで被害を受けた地域や発展途上国で，児童の医療や食料などの援助をすることを主な目的としている。IAEA は国際原子力機関，ILO は国際労働機関，UNESCO は国連教育科学文化機関の略称である。

[ UNICEF(ユニセフ)（国連児童基金） ]
発展途上国の
児童の生活向上

※入試出題頻度：「UNICEF(ユニセフ)（国連児童基金)◎」
「発展途上国などで児童の医療や食料などの援助△」

[問題]

国際連合の組織の中には，飢えなどで苦しんでいる子どもたちを助けるための活動をしている機関がある。その名称をカタカナで答えよ。

(埼玉県)

[解答欄]

[解答]ユニセフ

[問題]

次の文中のＸにあてはまる国際連合の機関の略称として適当な語をアルファベットの大文字で書け。

国連児童基金(　Ｘ　)は，発展途上国の子どもたちへの支援などに取り組んでおり，世界各地で，教育などの支援活動をしている。

(千葉県)

[解答欄]

[解答]UNICEF

[問題]

ユニセフについての説明として，正しいものを次のア～エから１つ選び，記号で答えよ。

ア　紛争地域における停戦の監視など平和維持活動を行っている。
イ　難民に国際的な保護を与える活動を行っている。
ウ　子供たちの命と健康を守ることを中心とした活動を行っている。
エ　教育・科学・文化の分野から国際平和を目指した活動を行っている。

(沖縄県)

[解答欄]

[解答]ウ

[解説]

アは平和維持活動(PKO)，イは国連難民高等弁務官事務所(UNHCR)，エは国連教育科学文化機関(ユネスコ：UNESCO)の活動である。

[WHO(世界保健機関)]

[問題]

　健康向上を目的とした活動を行う専門機関の略称を，次から 1 つ選べ。

[ WHO　PKO　NPO　NATO ]

(埼玉県)

[解答欄]

[解答]WHO

[解説]

WHO(世界保健機関)は，「すべての人に健康を」を目標とし，医療・衛生への取り組みを行っている。PKO は国連平和維持活動，NPO は非営利組織，NATO は北大西洋条約機構の略称。

※入試出題頻度：「WHO(世界保健機関)◎」

[WHO(世界保健機関)]
医療・衛生への取り組み

[問題]

　1948 年に設立された，世界の各国民の健康の保持と公衆衛生の向上を目的とする国際連合の専門機関を何というか。アルファベットで答えよ。

(和歌山県)

[解答欄]

[解答]WHO

[問題]

　世界の人々のくらしを向上させるため，人々の健康の維持と増進に奉仕する活動を行っている国際連合の専門機関を何というか，漢字 6 字で書け。

(福井県)

[解答欄]

[解答]世界保健機関

[問題]

　国際連合の専門機関の１つである WHO は，(　　X　　)仕事をしている。X にあてはまるものを次のア～エから１つ選べ。

ア　世界のすべての人々に，より高い水準の健康をもたらす

イ　世界で起こっている争いの解決を行い，平和と安全を維持する

ウ　教育・科学・文化を通じて国家間の協力を促進し，世界平和をはかる

エ　国際法にもとづき，国家間の紛争を解決するための裁判を行う

(和歌山県)

[解答欄]

[解答]ア

[解説]

アは WHO(世界保健機関)。イは安全保障理事会，ウはユネスコ，エは国際司法裁判所。

[UNHCR・難民]

[問題]

　政治的理由などで，自国にいると迫害を受けるため，他国に逃れた人々を何というか。

(福井県)

[解答欄]

[解答]難民

[解説]

紛争や迫害などにより，住んでいた土地を離れて周辺国などへ逃げこむ難民(なんみん)が発生することがある。国連難民高等弁務官事務所(UNHCR)は難民の保護や支援を行っている。

[難民]
地域紛争など→難民の発生
国連の UNHCR

※入試出題頻度：「難民◎」「UNHCR(国連難民高等弁務官事務所)○」

[問題]

次の X に当てはまる言葉を，漢字で書け。

紛争地域では，住んでいた土地を離れて周辺国などへと逃げる(　X　)が発生している。そこで，国連(X)高等弁務官事務所(UNHCR)では，各国にそうした人々の受け入れを求める活動をしている。

(岐阜県)

[解答欄]

[解答]難民

[問題]

難民とは，どのような人々のことをいうか。難民となるに至った理由も含めて，簡潔に書け。

(和歌山県)

[解答欄]

[解答]紛争や迫害などにより，住んでいた土地を離れて周辺国などへ逃げこんだ人々。

[問題]

武力紛争や政治的迫害などが原因で難民となった人々を保護・救援するために設立された国際連合の機関は次のうちのどれか。

[ ASEAN　UNHCR　NATO　ILO ]

(栃木県)

[解答欄]

[解答]UNHCR

[問題]

難民に対して支援活動をしている国際機関に UNHCR(国連難民高等弁務官事務所)がある。かつてその最高責任者として活躍し，文化勲章を受章した人物を，次の中から 1 人選べ。

[ 田中耕一　緒方貞子　湯川秀樹　向井千秋 ]

(青森県)

[解答欄]

[解答]緒方貞子

[WTO(世界貿易機関)など]
[問題]
　貿易の自由化を促進するとともに，貿易に関する争いを解決するための国際機関は次の[　　]のどれか。
[ NGO　PKO　WTO　WHO ]
(三重県)
[解答欄]

[解答]WTO
[解説]
WTO(世界貿易機関)は，自由貿易を発展させ，国と国の貿易に関することがらを取り決めたり，貿易に関する争い(貿易摩擦)を解決したりすることを目的としている。日本は，世界貿易機関(WTO)を中心に自由貿易政策を進める一方で，自由貿易協定(FTA)のように数か国間で協定を結ぶ動きも進めてきた。TPP も地域経済統合の動きの 1 つであり，協定に参加する国の間で，関税を削減・撤廃しあい，自由貿易を促進しようとするものである。

[WTO(世界貿易機関)]
自由貿易の発展
貿易摩擦の解決

※入試出題頻度：「WTO(世界貿易機関)○」「FTA(自由貿易協定)△」

[問題]
　貿易摩擦などの問題を国家間で話し合って解決するために重要な役割を果たしており，WTO という略称で呼ばれている国際機関の名称を書け。
(愛媛県)
[解答欄]

[解答]世界貿易機関

[問題]

次の各問いに答えよ。

(1) 次の説明文は，国際経済の結びつきについて述べたものである。説明文中の(　　)にあてはまる語句を書け。

国や地域の間で，貿易を行ううえでの規制の削減や，物品の輸入の際にかかる(　　)の引き下げを行い，経済交流や協力関係をより活発にするために，協定を結ぶ動きがみられる。

(2) 1995 年に設立された，貿易に関連する様々なルールづくりと，そのルールを守らせる役割をもつ，国際機関を何というか。

(和歌山県)

[解答欄]

| | |
|---|---|
| (1) | (2) |

[解答](1) 関税　(2) 世界貿易機関(WTO)

[問題]

日本は，世界貿易機関(WTO)を中心に自由貿易政策を進める一方で，自由貿易協定(FTA)のように数か国間で協定を結ぶ動きも進めてきた。TPP も地域経済統合の動きの 1 つであり，協定に参加する国の間で，自由貿易を促進しようとするものである。自由貿易を促進するために必要なこととして最も適切なものを，次のア～エから 1 つ選び，記号で答えよ。

ア　高い関税をかける。

イ　政府開発援助(ODA)を拡大する。

ウ　関税を削減・撤廃する。

エ　政府開発援助(ODA)を縮小する。

(鳥取県)

[解答欄]

| |
|---|
| |

[解答]ウ

[問題]

貿易の拡大を目的に特定の国や地域の間で結ぶ自由貿易協定の略称を，アルファベット 3 字で書け。

(福井県)

[解答欄]

| |
|---|
| |

[解答]FTA

[問題]

次のア～エのうち，FTA について述べたものはどれか。1 つ選び，その記号を書け。

ア　国際的な活動をする民間の団体のことである。

イ　自由貿易の促進を目的につくられた機関のことである。

ウ　貿易の拡大を目的に特定の国や地域の間で結ぶ協定のことである。

エ　発展途上国のために先進国がおこなう資金や技術の援助のことである。

(岩手県)

[解答欄]

[解答] ウ

[問題]

1990 年代になって，FTA を結ぶ動きが世界各地で広がってきている。FTA を結ぶおもな目的は何か。「関税」「貿易」の 2 つの語句を用いて，「加盟国間で,」の後に続けて書け。

(福島県)

[解答欄]

[解答]加盟国間で，関税をなくして貿易を活発にすること。

[その他の機関]

[問題]

労働条件の改善や労働問題の解決などを目的とする専門機関を何というか。次の中から 1 つ選べ。

[ WHO　IMF　FAO　ILO ]

(和歌山県)

[解答欄]

[解答]ILO

[問題]

　原子力の平和的利用を促進するとともに，原子力が軍事的利用に転用されることを防止するための国連に関連する組織の略称として正しいものはどれか。

[ PKO　IAEA　ODA　UNESCO ]

(神奈川県)

[解答欄]

| |
|---|
| |

[解答]IAEA

[問題]

　次の①～⑤の略称をアルファベットで書け。

① 世界保健機関　② 国連児童基金　③ 国連教育科学文化機関

④ 国連難民高等弁務官事務所　⑤ 世界貿易機関

(補充問題)

[解答欄]

| | | | |
|---|---|---|---|
| ① | ② | ③ | ④ |
| ⑤ | | | |

[解答]① WHO　② UNICEF　③ UNESCO　④ UNHCR　⑤ WTO

【】国連全般

[問題]

国際連合について述べた文として，正しいものはどれか。

ア　国際連合が発足後，加盟国数はほとんど増加していない。

イ　安全保障理事会は，10 か国の常任理事国と 5 か国の非常任理事国とで構成されている。

ウ　本部はジュネーブに置かれ，世界の平和を維持することを最大の目的としている。

エ　総会は，すべての加盟国からなり，各国は平等に 1 票ずつの投票権をもっている。

(鹿児島県)

[解答欄]

[解答]エ

[解説]

アは誤り。国連発足時の加盟国は 51 か国。現在は 193 か国(2022 年現在)である。

イは誤り。常任理事国は 5 か国，非常任理事国は 10 か国である。

ウは誤り。国連本部はニューヨークにある。

[問題]

国際連合について述べた次の文のうち，誤っているものはどれか。

ア　第二次世界大戦が終結した年に，国際平和や安全の維持などを目指して発足した。

イ　安全保障理事会を構成する 15 の理事国には，拒否権が認められている。

ウ　総会では，加盟国に対して平等に 1 国 1 票の投票権を認めている。

エ　停戦の監視などのために，平和維持活動(PKO)をおこなうことがある。

(長崎県)

[解答欄]

[解答]イ

[解説]

イが誤り。拒否権が認められているのはアメリカ，イギリス，フランス，ロシア，中国の 5 常任理事国のみである。

[問題]

国際連合について，誤っているものを，次のア～エから１つ選んで記号で答えよ。

ア　アジアやアフリカの加盟国は発足時に比べて著しく増え,総会での発言力を強めている。

イ　安全保障理事会の常任理事国はアメリカ合衆国，ロシア，中国，ドイツ，イギリスである。

ウ　WHO は専門機関の１つであり，世界の人々の健康増進に取り組むなどの活動を行っている。

エ　世界人権宣言や子どもの権利条約を採択するなど,国際的な人権保障に取り組んでいる。

(島根県)

[解答欄]

[解答]イ

[解説]

ドイツは常任理事国ではない。常任理事国はアメリカ合衆国，フランス，イギリス，ロシア，中国である。

[問題]

次のうち，国際連合について述べた文として誤っているものを１つ選び，記号を書け。

ア　紛争国間の停戦の監視などの平和維持活動を行っている。

イ　総会では，すべての加盟国が一国一票の平等な議決権をもっている。

ウ　世界の平和と国際協調を主な目的として，第一次世界大戦の直後に発足した。

エ　安全保障理事会は,非常任理事国と拒否権を認められている常任理事国とで構成される。

(大阪府)

[解答欄]

[解答]ウ

[解説]

ウが誤り。第一次世界大戦の直後に発足したのは国際連盟である。

【】地域主義

[問題]

グローバル化がすすむ世界では，経済，外交，環境，安全保障など様々な分野で，共通の問題を抱えている近隣の国どうしが，相互の主権に配慮しながら，結びつきを強める動きが活発になっている。このような国際協調の動きを何というか。

(山梨県)

[解答欄]

[解答]地域主義(リージョナリズム)

[解説]

今日では，資源・エネルギー・人口と食料などの問題は，もはや 1 国だけでは解決ができない地球的規模の問題になっている。こうした状況の下で，経済・環境・安全保障などで，同じ問題をかかえている一定地域の国家がまとまりをつくって，そこで協調や協力を強めようとする動きが出てきているが，これを地域主義(リージョナリズム)という。

[地域主義(リージョナリズム)]
EU(ヨーロッパ連合)
ASEAN(東南アジア諸国連合)
APEC(アジア太平洋経済協力会議)
TPP11(環太平洋経済連携協定)
USMCA(米国・メキシコ・カナダ協定)
MERCOSUR(南米南部共同市場)
AU(アフリカ連合)

その代表例は EU(ヨーロッパ連合)である。共通の通貨(ユーロ)が導入され，ヨーロッパ全体が 1 つの国内市場のようになってきている。また，外交や安全保障の分野においても，共通の政策をとる努力がなされている。さらに，EU に大統領，議会，政府をおいて，1 つの国のようにしようという動きもすすみ，そのために EU の憲法をつくろうという努力も続けられている。

アジアにおいては，1967 年に ASEAN(東南アジア諸国連合)が東南アジア地域の経済，社会の発展につとめることを目的に設立された。現在では 10 か国が加盟しており，事務局はインドネシアのジャカルタに置かれている。近年，ASEAN に日本，中国，韓国を加えた「ASEAN＋3」という会合が開かれ協力を深めている。アジア太平洋地域には，1989 年にオーストラリアの提唱ではじまった APEC(アジア太平洋経済協力会議)があり，アメリカ，日本，オーストラリア，中国，韓国，ASEAN 諸国，ロシアなど 21 か国が参加している。アジア太平洋地域では，TPP11(環太平洋経済連携協定)が 2018 年に調印された。また，北アメリカでは，USMCA(米国・メキシコ・カナダ協定)，南アメリカでは，MERCOSUR(南米南部共同市場)，アフリカでは，AU(アフリカ連合)が作られている。

※入試出題頻度：「地域主義(リージョナリズム)△」「EU(ヨーロッパ連合)○」
「ASEAN(東南アジア諸国連合)◎」「APEC アジア太平洋経済協力会議◎」
「TPP11(環太平洋経済連携協定)△」「USMCA(米国・メキシコ・カナダ協定)△」
「MERCOSUR(南米南部共同市場)△」「AU(アフリカ連合)△」

[問題]

今日の世界では，国家どうしの地域的な協力や統合の動き(地域主義)が進展しているが，1993 年にそれまでの組織が発展する形で発足し，共通の通貨であるユーロを導入するなど，経済の分野を中心に国家間の統合を進めている組織は何と呼ばれるか。その呼び名を書け。
(香川県)

[解答欄]

| |
|---|
| |

[解答]ヨーロッパ連合(EU)

[問題]

次の文章中の①，②に適語を入れよ。

現在では，貿易の自由化が進んだことなどによって，経済のグローバル化が進展し，人や物，お金が国境を越えて活発に行き交うようになっている。例えば，ヨーロッパ連合(EU)では，一部の加盟国は自国の通貨を廃止して共通通貨である(　①　)を導入し，ヨーロッパが 1 つの市場のようになっている。EU のように，経済，環境などの分野で，同じ課題を抱えている国どうしが特定の地域でまとまりを作り，協調や協力を強めようとする動きを(　②　)主義という。
(岐阜県改)

[解答欄]

| | |
|---|---|
| ① | ② |

[解答]① ユーロ　② 地域

[問題]

右の略地図中の■■■で示した国がまとまり，協力関係を強めようとしている組織の略称として最も適当なものを，次の[　　]から 1 つ選べ。

[ ASEAN　APEC　UNESCO　G20 ]
(島根県)

[解答欄]

| |
|---|
| |

[解答]ASEAN

[問題]

ASEAN とは世界のどの地域の国々が設立した組織か。次から 1 つ選べ。

[ ヨーロッパ　西アジア　東南アジア　アフリカ ]

(岐阜県)

[解答欄]

[解答]東南アジア

[問題]

国際社会では，さまざまな地域で国際協力の体制がみられる。図中の■で示された国と地域からなる政府間協力の枠組みを，次の[　　]から 1 つ選べ。

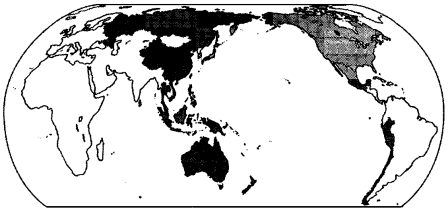

[ APEC　AU　ASEAN　EU ]

(山口県)

[解答欄]

[解答]APEC

[問題]

太郎さんは，アジア太平洋経済協力会議が 1989 年に発足したことを知った。アジア太平洋経済協力会議の略称をアルファベット大文字 4 字で書け。

(京都府)

[解答欄]

[解答]APEC

[問題]

地域主義，地域統合の動きの 1 つに APEC の開催がある。APEC は何の略称のことか，次の中から 1 つ選べ。

[ 東南アジア諸国連合　ヨーロッパ連合　アジア太平洋経済協力会議
　北米自由貿易協定 ]

(鳥取県)

[解答欄]

[解答]アジア太平洋経済協力会議

[問題]

次の表は，生徒が地域主義(地域統合)についてまとめたレポートの一部である。表中のⅠ～Ⅳにあてはまる地域として最も適当なものを，あとの[　　]のうちからそれぞれ１つずつ選べ。

| 地域 | Ⅰ | Ⅱ | Ⅲ | Ⅳ |
|---|---|---|---|---|
| 地域主義(地域統合) | ASEAN | APEC | USMCA | MERCOSUR |

[ 北アメリカ　南アメリカ　アジア・太平洋　東南アジア ]

(千葉県)

[解答欄]

| | | |
|---|---|---|
| Ⅰ | Ⅱ | Ⅲ |
| Ⅳ | | |

[解答] Ⅰ　東南アジア　Ⅱ　アジア・太平洋　Ⅲ　北アメリカ　Ⅳ　南アメリカ

[問題]

次の文章は，日本が他の国々と経済的な連携を深めるために，結ばれた協定についてまとめたものである。文章中のＸに共通してあてはまる最も適当な語を，アルファベットの大文字３字で書け。

当初は太平洋を囲む国々を中心とした 12 か国で(　Ｘ　)協定の発効を目指していたが，2017 年にアメリカ合衆国が離脱した。しかし，2018 年に日本も含めた 11 か国が合意して(X)協定を新たに調印し，貿易の自由化など経済的なつながりを加盟国内で強めている。

(千葉県)

[解答欄]

| |
|---|
| |

[解答]TPP

[問題]

次の文は，環太平洋経済連携協定(TPP)についてまとめたものである。空欄に適する語句を漢字２字で書け。

TPP 締結によって，貿易がいっそう促進され，日本製品の輸出が拡大し，海外製品を安く輸入できることが見込まれる一方，輸入農作物に課される(　　)を減らしていくことで，日本の農業が弱体化することも心配される。

(福井県)

[解答欄]

[解答]関税

[問題]

21 世紀に入ると，広大な国土と多くの人口や資源を持つ，ブラジル，ロシア連邦，インド，中国，南アフリカ共和国の 5 か国は，急速に経済成長した。これらの経済成長のいちじるしい国々は，何と呼ばれているか。

(千葉県)

[解答欄]

[解答] BRICS

【】国際社会のさまざまな動き

【】地球環境問題

[地球温暖化]

[問題]

二酸化炭素は(酸性雨／地球温暖化／オゾン層の破壊／ダイオキシンの発生)の主な原因といわれている。文中の(　　)内より適語を選べ。

(岩手県)

[解答欄]

[解答]地球温暖化

[解説]

石油や石炭などの化石燃料の大量消費は，地球温暖化につながる温室効果ガスの二酸化炭素を排出する。地球温暖化によって，多くの生物が生きていけなくなったり，農作物が育たなくなったり，干ばつや洪水などの自然災害が起こったりするなど，多くの被害が予想されている。

[地球温暖化]
化石燃料の大量消費
↓
二酸化炭素などの温室効果ガスが増加
↓
地球温暖化→海水面の上昇など

また，北極圏や南極大陸の氷がとけて海水面が上昇し，海抜の低い島国(ツバルやモルディブなど)が水没することも心配されている。

※入試出題頻度：「地球温暖化○」「温室効果ガス(二酸化炭素)○」「海面の上昇△」

[問題]

右の写真は，インド洋にある島の１つである。この島は，(　　)の影響によって海面の上昇が進むと，水没する可能性があるといわれている。(　　)にあてはまることばとして最も適切なものを，次から１つ選べ。



[ 酸性雨　オゾン層の破壊　砂漠化　地球温暖化 ]

(岐阜県)

[解答欄]

[解答]地球温暖化

[問題]

　地球温暖化のおもな原因とされ地球の表面から出る熱の放射をさまたげる性質をもつ二酸化炭素などの気体を総称して何というか。

(岡山県)

[解答欄]

[解答]温室効果ガス

[問題]

　モルディブなどサンゴ礁の国々では，地球温暖化の影響によって海面が上昇し，水没の危機に直面している。地球温暖化の主な原因として考えられるのは何か。

(青森県)

[解答欄]

[解答]二酸化炭素の増加

[問題]

　次の会話文は，気候変動について話し合った内容の一部である。文中の X にあてはまる内容を簡潔に書け。

山本：大気中の温室効果ガスの濃度が高くなることが地球温暖化の一因と言われているね。地球温暖化は現在も進行していて，様々なところに影響が表れていると聞いたことがあるよ。

中村：環境省によると，地球温暖化の影響で，南極の氷がとけるなどして(　X　)が進んでいるそうだよ。海抜の低い国や地域では，(X)が進むことで，高潮や浸水による被害が大きくなるそうで，将来的に水没してしまう危険性も指摘されているね。

(山梨県)

[解答欄]

[解答]海面の上昇

[問題]

　地球温暖化が深刻な問題とされるのは，どのような理由によるものと考えられるか，地球温暖化が進行することによって，南太平洋やインド洋などにある国土全体の標高が低い島国で生じるおそれのある問題にふれて書け。

(三重県)

[解答欄]

[解答]海面が上昇することにより，国土全体の標高が低い島国では，国土が水没するおそれがあるから。

[地球サミット]

[問題]

1992 年にブラジルで開かれ持続可能な開発の実現にむけた取組みについて話し合われた会議を何というか。

(福井県)

[解答欄]

[解答]国連環境開発会議(地球サミット)

[解説]

地球環境問題は 1 国だけでは解決できない問題であり，国際社会の協力が不可欠である。

1992 年には国連環境開発会議(地球サミット)がブラジルのリオデジャネイロで開催され，地球環境を保全しながら，持続可能な開発のためにはどうすればよいかが討議された。すなわち，現在の世代の幸福と将来の世代の幸福とを両立させることのできる持続可能な社会を実現させるためにはどうすればよいかについて話し合いが行われた。そして，気候変動枠組条約や生物多様性条約などが調印された。

[国連環境開発会議(地球サミット)]
1992年 ブラジルのリオデジャネイロで開催
持続可能な社会
気候変動枠組条約 が調印された

※入試出題頻度：「国連環境開発会議(地球サミット)◎」「ブラジルのリオデジャネイロ△」「持続可能な開発(社会)◎」「気候変動枠組条約○」

[問題]

1992 年の，環境と開発に関する国連会議(地球サミット)では，「( X )な開発」をめざす宣言が採択された。現在の世代の幸福と将来の世代の幸福とを両立させることのできる「(X)な社会」の実現に向けて，企業は利潤の獲得だけでなく，環境にも配慮した活動が求められている。X に入る適切な語を答えよ。

(山口県)

[解答欄]

[解答]持続可能

[問題]

　地球サミットについて述べた文として，最も適当なものを，次のア～エから 1 つ選び，その符号を書け。

ア　持続可能な開発や社会の実現のための具体的取組について話し合われた。

イ　先進国の国別に温室効果ガスの排出削減目標が定められた。

ウ　核保有国以外の国々による核兵器の保有を禁止することが合意された。

エ　植民地支配の反対や民族独立，平和共存などの方針が確認された。

(新潟県)

[解答欄]

[解答]ア

[解説]

イの「温室効果ガスの排出削減目標が定められた」のは京都会議である。

[問題]

　地球サミットで結ばれた条約名と開催地の組み合わせとして，正しいものはどれか。

ア　気候変動枠組条約，洞爺湖

イ　ラムサール条約，リオデジャネイロ

ウ　ラムサール条約，洞爺湖

エ　気候変動枠組条約，リオデジャネイロ

(鹿児島県)

[解答欄]

[解答]エ

[問題]

　環境問題など地球規模の問題が深刻化する中，「持続可能な社会」という言葉で表される，(　　X　　)ような社会をつくることが求められている。X に適当な言葉を書き入れて文を完成させよ。ただし，「世代」「よりよい生活」2 つの言葉を含めること。

(愛媛県)

[解答欄]

[解答]将来の世代に，よりよい生活を引き継いでいける

[京都議定書]

[問題]

1997 年の気候変動枠組み条約第 3 回締約国会議で採択された，二酸化炭素などの温室効果ガスの排出削減を先進工業国に義務づけた文書を何というか。

(山口県)

[解答欄]

| |
|---|
| |

[解答]京都議定書

[解説]

1997 年には，気候変動枠組条約の締約国会議(COP)として京都で開催された地球温暖化防止京都会議で，先進国に温室効果ガス(二酸化炭素)の排出削減を義務づける京都議定書(きょうとぎていしょ)が採択(さいたく)された。これによって，削減義務がある先進国では二酸化炭素の排出量が減少したが，削減義務のない発展途上国(特に中国)の排出量が大きく増加し，世界全体として増えた。

[京都議定書]
1997年 地球温暖化防止京都会議
京都議定書
(先進国に温室効果ガスの排出削減を義務づけた)

先進諸国側が「途上国の中にも急速な工業化でたくさんの温室効果ガスを排出している国があるので，これらの国も排出削減を行うべきである」と主張したのに対し，発展途上国側は「温室効果ガスを排出して温暖化の原因をつくったのは先進国だから，先進国が排出量を削減すべきである。私たち途上国も工業化して豊かになる権利があるはずだ」と主張し，先進国と発展途上国との間で利害対立が起きた。また，アメリカが京都議定書を離脱(りだつ)した。

※入試出題頻度：「京都市△」「京都議定書◎」

「先進国に温室効果ガス(二酸化炭素)の排出削減を義務づける○」「アメリカが離脱△」

[問題]

①の(　　)内より適語を選べ。また，②の(　　)内に適語を入れよ。

1997 年に地球温暖化の問題について，①(京都議定書／パリ協定)が採択され，その中で，先進国に(　②　)の削減を義務づけることが定められた。

(福岡県)

[解答欄]

| | |
|---|---|
| ① | ② |

[解答]① 京都議定書　② 温室効果ガス(二酸化炭素)

[問題]

1997 年に，地球温暖化防止のための国際会議がわが国で開かれ，二酸化炭素などの排出量を削減することが決められた。この会議が開催された都市名を，漢字で書け。

(大分県)

[解答欄]

| |
|---|
| |

[解答]京都市

[問題]

気候変動枠組に基づく条約締約国会議の略称として最も適切なものを次から 1 つ選べ。

[ PKO　WTO　COP　APEC ]

(長野県)

[解答欄]

| |
|---|
| |

[解答]COP

[問題]

次の文中の①，②の(　　)内からそれぞれ適語を選べ。

1992 年開催の①(地球／自然)サミットで結ばれた②(気温／気候)変動枠組み条約を受け，1997 年には地球温暖化防止京都会議が開かれた。

(山梨県)

[解答欄]

| | |
|---|---|
| ① | ② |

[解答]① 地球　② 気候

[問題]

次の文の①～③の(　　)内より適語を選べ。

国際社会がはじめて環境問題を取り上げたのは，1972 年に開催された国連人間環境会議である。その後，1992 年には，環境と開発に関する国連会議(国連環境開発会議)が開催された。この会議は①(ユネスコ／地球サミット)とも呼ばれており，地球環境を保全しながら②(規制緩和の拡大／持続可能な開発)を進めるためにはどうすればよいかを討議した。そして，1997 年に開かれた地球温暖化防止京都会議では，③(二酸化炭素などの排出量の削減／オゾン層の破壊の防止)についての各国の数値目標が定められた。

(愛媛県)

[解答欄]

| | | |
|---|---|---|
| ① | ② | ③ |

[解答]① 地球サミット　② 持続可能な開発　③ 二酸化炭素などの排出量の削減

[問題]

1997 年に, 京都で開催された会議で決められた地球温暖化防止策のおもな内容はどのようなことか。簡単に書け。

(岩手県)

[解答欄]

[解答]二酸化炭素などの温室効果ガスの排出削減を先進工業国に義務づけたこと。

[問題]

次の A と B は京都議定書に関連したことを述べた文である。それぞれの文が正しいか誤りかの組み合わせとして最も適当なものを，下のア～エから 1 つ選んで記号で書け。

A　京都議定書は，地球温暖化防止京都会議で採択され温室効果ガス排出量の削減目標を定めている。

B　二酸化炭素排出量が世界有数のアメリカ合衆国は，京都議定書を離脱した。

ア　A も B も正しい。

イ　A は正しい。B は誤り。

ウ　A は誤り。B は正しい。

エ　A も B も誤り。

(福井県)

[解答欄]

[解答]ア

[先進工業国と発展途上国の立場の相違]

[問題]

右の表は，世界全体の二酸化炭素排出量について，京都議定書で二酸化炭素排出量の削減義務がある国の排出量の合計と，その他の国の排出量の合計とに分けて，1990 年と 2008 年とを比較したものである。世界全体の二酸化炭素排出量を削減するには，京都議定書による取り組みだけでは不十分だと言われるのはなぜか。その理由を，表から二酸化炭素排出量の変化を読み取って，説明せよ。

| | 二酸化炭素排出量(百万 t) | |
|---|---|---|
| | 1990 年 | 2008 年 |
| 削減義務がある国 | 8785 | 7980 |
| その他の国 | 11567 | 20368 |
| 世界計 | 20352 | 28348 |

(熊本県)

[解答欄]

[解答]二酸化炭素排出量は，削減義務がある国では減少しているが，その他の国では大きく増加しており，世界全体として増えているから。

[解説]

京都議定書によって，削減義務がある先進国では二酸化炭素の排出量が減少したが，削減義務のない発展途上国(特に中国)の排出量が大きく増加し，世界全体として増えた。

先進諸国側が「途上国の中にも急速な工業化でたくさんの温室効果ガスを排出している国があるので，これらの国も排出削減を行うべきである」と主張したのに対し，発展途上国側は「温室効果ガスを排出して温暖化の原因をつくったのは先進国だから，先進国が排出量を削減すべきである。私たち途上国も工業化して豊かになる権利があるはずだ」と主張し，先進国と発展途上国との間で利害対立が起きた。

※入試出題頻度:「先進国にだけ排出削減義務を課すのではなく発展途上国にも削減義務を課すべきである○」「これまで二酸化炭素を多く排出して地球温暖化の原因を作ったのは先進国だから，まず先進国が排出削減を行うべきである○」

[問題]

温室効果ガスの 1 つに二酸化炭素がある。次の図は，2018 年における，二酸化炭素の排出量の多い上位 4 か国を示したものである。次のア～カのうち，A，B に当たる国名の組み合わせとして最も適しているものはどれか。1 つ選べ。

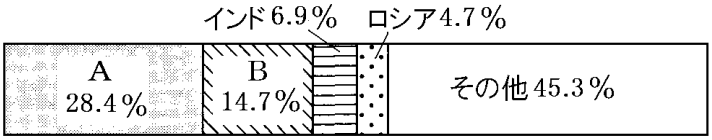


ア　A　アメリカ合衆国　　B　中国

イ　A　アメリカ合衆国　　B　日本

ウ　A　中国　　B　アメリカ合衆国

エ　A　中国　　B　日本

オ　A　日本　　B　アメリカ合衆国

カ　A　日本　　B　中国

(大阪府)

[解答欄]

[解答]ウ

(統計修正)「世界国勢図会 2021/2022」P453

[問題]

資料Ⅰは，2018 年における二酸化炭素の総排出量と国・地域別の排出量の割合を表したものであり，資料Ⅱは，2018 年におけるアメリカ合衆国，インド，中国，日本，ロシアの一人当たりの二酸化炭素排出量を表したものである。資料中の A～D は，それぞれアメリカ合衆国，インド，中国，日本のいずれかの国を表している。次の(会話)は，あゆみさんとさとるさんが資料を見ながら交わした会話の一部である。資料中の A～D に当てはまる国の名前を答えよ。

（資料Ⅰ）

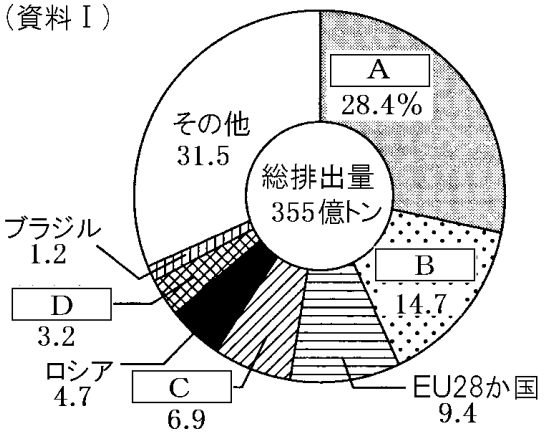


（資料Ⅱ）

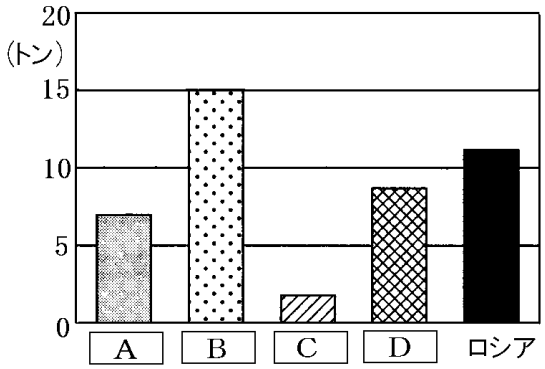


(会話)

あゆみ：資料Ⅰで一番大きな割合を占めている(　A　)は，資料Ⅱの一人当たりの二酸化炭素排出量でみると一番ではないね。なぜだろう。

さとる：人口がとても多いからではないかな。資料Ⅱで一人当たりの二酸化炭素排出量が一番多い(　B　)は，2020 年にパリ協定から離脱したのだけれど，2021 年には復帰したというニュースを見たよ。

あゆみ：そうなんだね。パリ協定の内容と，1997 年に(　D　)の都市で開催された会議で決定した内容とは何が違うんだろう。

さとる：1997 年に開催された会議では，先進国には二酸化炭素をはじめとする温室効果ガスの削減義務があったけれど，(　A　)や(　C　)などの発展途上国には削減義務がなかったんだ。パリ協定は，先進国も発展途上国もすべての国に温室効果ガスの削減を義務づけているよね。

(高知県)

[解答欄]

| | | |
|---|---|---|
| A | B | C |
| D | | |

[解答]A 中国　B アメリカ合衆国　C インド　D 日本

[問題]

地球温暖化を防ぐためにはすべての国が二酸化炭素の排出量を削減する義務を負うべきだという意見に対して，発展途上国が反対している理由を，「工業」「二酸化炭素」の 2 つの言葉を用い，「発展途上国は,」に続けて，簡単に書け。

(愛媛県)

[解答欄]

| |
|---|
| |

[解答]発展途上国は，先に工業が発展し多くの二酸化炭素を排出してきた先進国に，排出量を削減する義務があると考えているから。

[問題]

温室効果ガスの排出削減をめぐり，先進国と発展途上国の間には主張の対立が見られる。次の条件 1，2 にしたがって，パリ協定が採択されるまでの対立について，先進国と発展途上国の立場から，相手がどうすべきと主張していたか説明せよ。

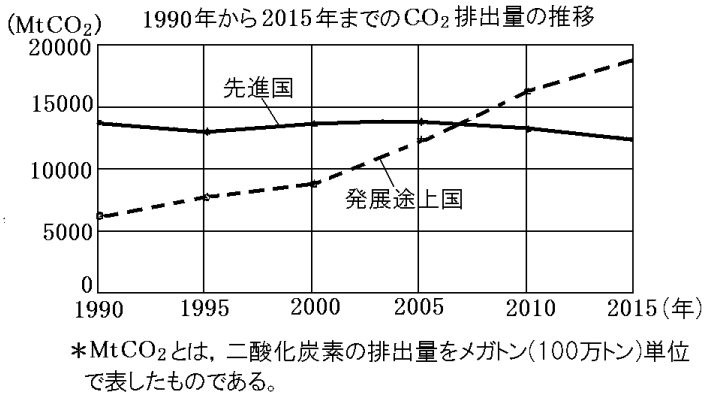


条件 1：グラフをふまえること。

条件 2：京都議定書の内容をふまえること。

(北海道)

[解答欄]

| |
|---|
| 先進国の立場： |
| 発展途上国の立場： |

[解答]先進国の立場：発展途上国は $CO_2$ 排出量が増加しているので，京都議定書のように先進国にだけ排出削減義務を課すのではなく，発展途上国にも削減義務を課すべきである。

発展途上国の立場：先進国はこれまで $CO_2$ を多く排出してきたので，京都議定書のように先進国にだけ排出削減義務を課し，先進国は排出削減し続けるべきである。

[パリ協定]

[問題]

地球環境問題の解決には，国際協力が必要である。1997 年に温室効果ガスの排出量の削減目標を定めた京都議定書が採択された。京都議定書は，先進国と発展途上国との間で温室効果ガスの排出量の削減に対する考え方に違いがあるなど，課題が指摘されていた。この課題を解決するために，ある合意が 2015 年に多くの国家間で採択され，先進国も発展途上国も温室効果ガスの排出削減に取り組むことが決められた。この合意は何と呼ばれるか。その呼び名を書け。

(香川県)

[解答欄]

| |
|---|
| |

[解答]パリ協定

[解説]

2015 年にはパリ協定が採択(さいたく)され，途上国を含むすべての参加国が自主的に削減目標を決め，平均気温の上昇をおさえる対策をすすめることで合意した。

2015年 パリ協定
すべての参加国が自主的に削減目標を決める

※入試題頻度：「パリ協定◎」「途上国を含むすべての参加国が自主的に削減目標を決める○」

[問題]

次の文章中の①，②に適語を入れよ。

1997 年に(　①　)市で開かれた，気候変動枠組条約の締約国会議で，先進国に温室効果ガスの排出削減を義務づける(①)議定書が採択された。しかし，先進国と途上国の間の利害対立などの課題があり，(①)議定書後の枠組みについて議論が続いていた。そこで，2015 年に(　②　)協定が採択された。(②)協定では，途上国を含むすべての参加国が自主的に削減目標を決め，平均気温の上昇をおさえる対策をすすめることで合意した。

(埼玉県)

[解答欄]

| | |
|---|---|
| ① | ② |

[解答]① 京都　② パリ

[問題]

Kさんは，環境問題に対する国際社会の取り組みについて調べ，次の文章を作成した。この文章中の①，②の(　　)内より適するものを選べ。

1997年の第3回気候変動枠組条約締約国会議で京都議定書が採択されたが，当時世界で最も多くの温室効果ガスを排出していた①(a アメリカ　b 中国　c ロシア)が早期に離脱するといった課題があった。2015年には，②(d 温室効果ガスの削減目標の提出をすべての国に義務づける　e 温室効果ガスの排出量の削減を先進国に義務づける)等の内容を盛りこんだパリ協定が採択された。

(神奈川県)

[解答欄]

| | |
|---|---|
| ① | ② |

[解答]① a　② d

[問題]

次のX，Yの文は，地球環境問題への取り組みについて述べたものである。正しければ○を，間違っていれば×をかけ。

X：地球サミットで，地球温暖化を防止することを目的に気候変動枠組条約が調印された。

Y：パリ協定で，温室効果ガスの排出量の削減を先進国のみに義務付けた。

(福島県)

[解答欄]

| | |
|---|---|
| X | Y |

[解答]X ○　Y ×

[問題]

2015年に開催された，国連気候変動枠組条約締約国会議で採択されたパリ協定について説明したものとして，最も適切なものを，次のア～エから1つ選び，記号で答えよ。

ア　先進国に対して，温室効果ガスの削減目標を義務づけた。

イ　先進国に対して，フロンガスの削減目標を義務づけた。

ウ　すべての国に対して，温室効果ガスの削減目標を義務づけた。

エ　すべての国に対して，フロンガスの削減目標を義務づけた。

(鳥取県)

[解答欄]

| |
|---|
| |

[解答]ウ

[問題]

気候変動枠組条約第 21 回締約(締結)国会議で話し合われた「パリ協定」からの離脱を表明した国を次の[　　]のうちから 1 つ選べ。

[ 中国　ロシア　インド　アメリカ ]

(沖縄県)

[解答欄]

[解答]アメリカ

[問題]

N さんは，世界の地球温暖化対策を説明するために，次の A～C のカードを作成した。A～C のカードを，年代の古いものから順に並べ，その符号を書け。

カード A：京都議定書(先進国に温室効果ガスの排出量の削減を義務付け)

カード B：地球サミット(気候変動枠組条約・生物多様性条約の調印)

カード C：パリ協定(世界の平均気温上昇を産業革命以前に比べ 2℃未満に抑制)

(新潟県)

[解答欄]

[解答]B→A→C

[問題]

国際社会では，現在も地球温暖化を防ぎ，先進国と発展途上国が共存しながら持続可能な社会をつくっていくための議論が続けられている。温室効果ガスの削減をめざしたしくみの 1 つとして考えられている「排出量取引」について，「目標」「売買」の語を用いて，簡潔に説明せよ。

(和歌山県)

[解答欄]

[解答]温室効果ガスの排出量が目標を下まわった国と，上まわった国との間で，排出量の枠を売買するしくみ。

[問題]

次の資料は，2015 年に採択されたパリ協定にあわせ，政府が消費者に呼びかけを開始した内容の一部である。政府のこの取り組みが，パリ協定の目標達成につながるのはなぜだと考えられるか。

(資料)

再配達防止プロジェクト：宅配便できるだけ 1 回で受け取りませんか

(石川県)

[解答欄]

[解答]再配達を減らすことで，車両から排出される二酸化炭素を削減することができるから。

[持続可能な開発目標(SDGs)]

[問題]

世界が直面しているさまざまな課題を解決するために，2015 年に国際連合で採択された，2030 年までに達成することを目指した 17 の目標を何というか。

(高知県)

[解答欄]

[解答]持続可能な開発目標(SDGs)

[解説]

持続可能な開発目標(SDGs)(Sustainable Development Goals の略)は，2015 年に国連総会で採択された，持続可能な開発のための 17 の国際目標である。具体的には，

「貧困をなくそう」「飢餓(きが)をゼロに」「すべての人に健康と福祉を」「質の高い教育をみんなに」「ジェンダー平等を実現しよう」「気候変動に具体的な対策を」などである。

※入試出題頻度：「持続可能な開発目標 SDGs◎」

[問題]

世界の国々は，貿易や投資などで結び付きを深めているが，依然としてさまざまな課題を抱えている。そのため，国際連合は，2015 年に「(　①　)な開発目標」である SDGs を採択して，「質の高い教育をみんなに」や「気候変動に具体的な対策を」，「平和と公正をすべての人に」など，すべての加盟国が 2030 年までに達成すべき 17 の目標を設定した。気候変動への具体的な対策の一つとして，2015 年に温室効果ガスの削減に向けた新たな国際的な枠組みである(　②　)協定が採択された。

(栃木県)

[解答欄]

| | |
|---|---|
| ① | ② |

[解答]① 持続可能　② パリ

【】資源・エネルギー問題

[日本のエネルギー事情]

[問題]

次の各問いに答えよ。

(1) 石油，石炭，天然ガスなどを何燃料というか。

(2) (1)を燃料とする発電方法は何か。

(3) 石油ショック後，日本は石油にかわる代替エネルギーの中心を何においてきたか。

(補充問題)

[解答欄]

| | | |
|---|---|---|
| (1) | (2) | (3) |

[解答](1) 化石燃料　(2) 火力発電　(3) 原子力

[解説]

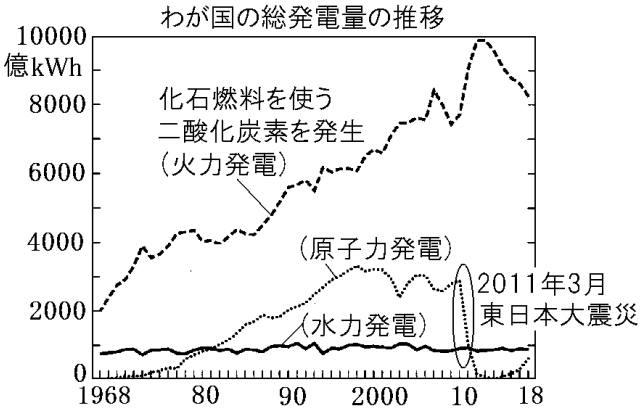


戦後すぐのころは，山が多く水資源の豊富なわが国の特色を生かした水力発電が主力であった。しかし，水力発電のためのダムを建設できる場所には限りがあるため，その後，石油・石炭・天然ガスなどの化石燃料を使った火力発電が主力になった。1966 年に，最初に原子力発電所が茨城県東海村に建設されたが，原子力発電が大きく伸びるきっかけになったのは，70 年代初めにおきた石油危機で石油価格が高騰したことである。原子力発電には，地球温暖化の原因となる二酸化炭素を排出しないという長所がある。しかし，事故が起きたときには放射能汚染を引き起こす危険性がある。2011 年 3 月の東日本大震災による大津波で，東京電力の福島第一原子力発電所の原子炉が損傷して放射能物質の流失がおこった。図のように，原子力発電の発電量が 2011 年以降，大幅に減少したのは，この事故によって原子力発電の安全性に疑問が持たれ，全国の原子力発電所の運転が停止されたためである。

※入試出題頻度：この単元はときどき出題される。

[問題]

原子力発電について，次の文の X にあてはまる語句を入れよ。

原子力発電は，地球温暖化の原因となる二酸化炭素排出量が少ない，コストが安い，巨大なエネルギーを生み出すことができるなどのメリットがある反面，無事故で運用したとしても放射能などの安全性に対する疑問や(　X　)の処理の問題もある。

(沖縄県)

[解答欄]

[解答]放射性廃棄物

[再生可能エネルギー]

[問題]

　太陽光と同じく再生可能エネルギーといわれるものとして最も適するものを，次の[　　]の中から１つ選べ。

[ 石油　地熱　天然ガス　石炭 ]

(神奈川県)

[解答欄]

[解答]地熱

[解説]

現在のエネルギー源の中心は，石油・石炭・天然ガスなどの化石燃料であるが，数十年のうちに枯渇すると予想されている。また，原子力発電の燃料となるウランも数十年で枯渇すると予想されている。

[再生可能エネルギー を使った発電]
太陽光発電，風力発電，地熱発電
長所：資源が枯渇しない，二酸化炭素を発生しない
短所：費用が高い，自然条件に左右される

これに対し，太陽光発電・風力発電・地熱発電・水力発電・バイオマス発電など再生可能エネルギーを利用した発電の場合，資源が枯渇することはない。しかも，石油などの化石燃料のように，地球温暖化をもたらす二酸化炭素を発生させることもない。しかし，現在の技術では発電などの費用が高い点や，太陽光発電や風力発電は電力の供給が自然条件に左右される点，地熱発電は周辺の自然や観光施設との共存といった点が課題である。

※入試出題頻度：「再生可能エネルギー○」「太陽光発電，風力発電，地熱発電○」「枯渇しない，二酸化炭素を発生しない△」「費用が高い，自然条件に左右される△」

[問題]

　再生可能なエネルギー源にあたるものを，次の[　　]からすべて選べ。

[ 太陽光　石油　風力　バイオマス　天然ガス　石炭 ]

(岐阜県)

[解答欄]

[解答]太陽光，風力，バイオマス

[問題]

右の資料は，自然エネルギーを用いた発電設備の写真である。利用する自然エネルギーは何か。



(徳島県)

[解答欄]

[解答]太陽光

[問題]

穀物から作られるバイオ燃料は，石油にかわる燃料として注目され研究や開発が進められている。食料用としていた穀物がバイオ燃料に使われた場合，食料用の穀物の生産量と需要が変わらないとすると，食料用の穀物の供給量と価格は，それぞれどのように変化するか。

(新潟県)

[解答欄]

[解答]供給量は減り，価格は上昇する。

【】南北問題・フェアトレードなど

[南北問題と南南問題]

[問題]

　先進国と発展途上国との経済格差，およびそこから生じる諸問題を何というか。

(兵庫県)

[解答欄]

[解答]南北問題

[解説]

先進工業国の多くは北半球に位置し，世界の人口の８割を占める発展途上国の多くは南半球に位置している。このことから，先進工業国と発展途上国の経済格差の問題を南北問題とよんでいる。

［南北問題･南南問題］
南北問題：先進工業国と発展途上国の経済格差
南南問題：発展途上国内の経済格差

発展途上国の中でも，産油国や新興工業国と最貧国といわれる国々との間にも大きな格差がある。このような発展途上国の中における経済格差の問題を南南問題という。

※入試出題頻度：「南北問題◎：先進工業国と発展途上国との間の経済格差の問題○」「南南問題○：発展途上国の間で格差が広がっている問題△」

[問題]

　南北問題について，正しいことを述べているのはどれか。

ア　資本主義国の国内に見られる，宗教的対立の問題である。

イ　発展途上国の間に見られる，政治的対立の問題である。

ウ　先進工業国と発展途上国との間に見られる，経済格差の問題である。

エ　先進工業国の間に見られる，民族対立の問題である。

(栃木県)

[解答欄]

[解答]ウ

[問題]

　南北問題とは何か，「経済」という語を用いて，書け。

(山形県)

[解答欄]

[解答]先進工業国と発展途上国との間の経済格差の問題。

[問題]

　世界的課題について述べた文として最も適当なものを，次のア～エから 1 つ選んで記号で書け。

ア　発展途上国は工業が発展していないため，深刻な地球環境問題は存在しない。

イ　栄養不足人口の割合が高い国は，アフリカに多い。

ウ　WTO は，食糧生産などによる飢餓撲滅を目的とする国連の専門機関である。

エ　南北問題は，南の先進工業国と北の発展途上国との間の経済格差が原因である。

(福井県)

[解答欄]

[解答]イ

[解説]

アは誤り。例えば，地球温暖化による被害は，工業が発展していない発展途上国にも及ぶ。

イは正しい。特に，サハラ砂漠より南のアフリカで栄養不足人口の割合が高い。

ウは誤り。WTO は世界貿易機関である。飢餓撲滅を目的とする国連の専門機関は WFP(国連世界食糧計画)である。

エは誤り。「北の先進工業国と南の発展途上国との間の経済格差」が正しい。

[問題]

　先進工業国と発展途上国との間の経済格差から生まれるさまざまな問題を(　A　)問題といい, 1960 年ころから国際社会の重要な課題とされるようになった。1970 年代以降になると，同じ発展途上国の中でも，工業化が進展してきた国・地域や石油などの資源をもつ国と，資源や産業をもたず経済的な発展の遅れている国との間に新たな経済格差が生まれた。この経済格差を(　B　)問題という。A，B にあてはまることばの組み合わせとして正しいものを，ア～エから選べ。

ア　A 東西，B 南南　　イ A 南南，B 南北　　ウ A 南北，B 南南　　エ A 南北，B 東西

(北海道)

[解答欄]

[解答]ウ

[問題]

発展途上国の中でも，産油国やアジア NIES とよばれる新興工業国と，資源にめぐまれない国々との経済格差が目立つようになってきた。このことを何というか，漢字 4 字で書け。
(鹿児島県)

[解答欄]

[解答]南南問題

[問題]

国際社会における課題として，南南問題がある。南南問題とは，どのような問題か。「格差」という語を用いて，簡潔に説明せよ。
(山口県)

[解答欄]

[解答]発展途上国の間で格差が広がっている問題。

[フェアトレード]

[問題]

貧困問題を解決するために企業が行っている次の文のような取り組みを何というか。最も適当なものを，下の[　　]の中から 1 つ選べ。

先進国の人々が，発展途上国で生産された農産物や製品を生産者の労働に見合う適正な価格で継続的に購入することにより，生産者の自立した生活を支える取り組みが行われている。

[ フェアトレード　ユニバーサルデザイン　ボランティア　メディアリテラシー ]
(福島県)

[解答欄]

[解答]フェアトレード

[解説]

発展途上国の貧困問題の解決のためには，援助だけでなく，人々の自立をうながし，支える取り組みも必要である。例えば，途上国の人々が生産した農産物や製品を，その労働に見合う公正な価格で取引し，先進国の人々がそれを購入することで生産者の生活を支えるフェアトレード(公正貿易)が注目されている。

[ フェアトレード ]
農作物などを労働に見合う公正な価格で買い取る

※入試出題頻度：「フェアトレード◎：農作物などを適正な価格で買い取る取り組み○」

[問題]

発展途上国の農産物や製品を，発展途上国の人々の労働に見合う適正な価格で取り引きすることで，経済的自立を目指す運動が行われている。この運動を何というか，カタカナで書け。

(青森県)

[解答欄]

[解答]フェアトレード

[問題]

次のア～エの文のうち，フェアトレードについて説明しているものはどれか。最も適当なものを 1 つ選び，その符号を書け。

ア　発展途上国を中心として，世界各国の社会・経済発展に貢献するために，様々な技術指導や教育に従事する隊員を派遣する制度のことをいう。

イ　一人一人の人間に着目し，人権侵害，貧困などの様々な問題から人々を守り，全ての人々が人間らしく安心して生きることができる社会を目指す考え方のことをいう。

ウ　発展途上国でつくられた農作物や製品を適正な価格で取り引きし，先進国の人々が継続して購入することで，発展途上国の生産者の生活を支えようとするしくみのことをいう。

エ　国際的な人権保障の実現など，様々な課題について，国境を越えて活動する非営利の民間組織のことをいう。

(千葉県)

[解答欄]

[解答]ウ

[解説]

アは日本の ODA の一環である「青年海外協力隊」，イは「人間の安全保障」，ウは「フェアトレード」，エは「NGO」のことである。

[問題]

南北問題の解決に向けた活動として，「フェアトレード」が注目されている。このフェアトレードとはどのようなものか。「発展途上国」，「価格」の 2 つの語句を用いて書け。

(新潟県)

[解答欄]

[解答]発展途上国でつくられた商品を，公正な価格で取引すること。

[マイクロクレジット]

[問題]

　発展途上国などにおいて，所得の低い人々が事業を始める際，金融機関が少額のお金を貸し出すしくみを何というか。

(山口県)

[解答欄]

[解答]マイクロクレジット

[解説]

貧しい人々に新しい事業を始めるための少額のお金を貸し出すマイクロクレジット(少額融資)の取り組みは，女性に現金収入を得る機会をあたえるなど，大きな成果を上げるようになっている。

[マイクロクレジット]
貧しい人々に新しい事業を始めるための少額のお金を貸し出す

※入試出題頻度:「マイクロクレジット○:貧しい人々に新しい事業を始めるための少額のお金を貸し出す△」

[問題]

　発展途上国の人々の自立を支援するための制度の1つであるマイクロクレジットとは，どのような制度か，「無担保」または「低金利」という語句を使い，簡単に書け。

(北海道)

[解答欄]

[解答]事業を始めたい人に，無担保(低金利)で少額の融資を行う制度。

[食品ロスの削減]

[問題]

　貧困や食料問題について述べた次の説明文の①，②の(　　)内からそれぞれ適語を選べ。

　世界全体としては，人々が十分に食べられるだけの食料が生産されているにもかかわらず，世界人口のおよそ9人の1人が栄養不足によって飢餓状態にある。その一方で，先進国には，食料が偏って配分されてしまい，①(人口減少／食品ロス)という問題が発生している。「貧困」や「飢餓」の問題を改善するために活動しているのが②(WHO／WFP)である。「飢餓のない世界」を目指して行う世界117の国と地域への支援は，命を救い，生活を変えるための幅広い活動が含まれる。

(佐賀県)

[解答欄]

| | |
|---|---|
| ① | ② |

[解答]① 食品ロス　② WFP

[問題]

修一さんの班は，「飢餓をゼロに」を考える中で，自分たちにもできる食品ロスの削減に向けた取組について，資料を用いて，次のように発表をした。次の文中の下線部に関して，消費者が資料のような取組に協力すると，なぜ小売店は食品ロスを削減することができるのか，資料を参考に，簡潔に書け。

資料Ⅰ




※「てまえどり」は，購入して
すぐに食べる場合に
商品棚の手前にある食品
を積極的に選ぶこと。

資料Ⅱ　小売店で見られる食品の陳列

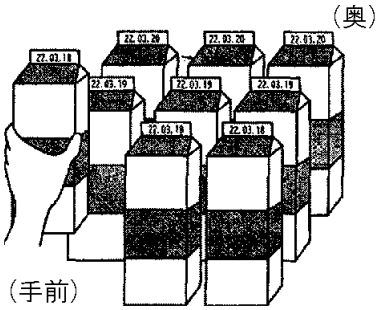


私たちは，スーパーマーケットやコンビニエンスストアなどの小売店で食品を購入するときは，<u>小売店が食品をできる限り廃棄しなくてもすむ</u>よう，資料のような取組に協力するべきだと考えました。

(群馬県)

[解答欄]

| |
|---|
| |

[解答]賞味期限(消費期限)が近い食品を先に売ることで，賞味期限切れとなって廃棄される食品を減らすことができるから。

【】ODA と NGO

[ODA(政府開発援助)]

[問題]

日本政府は，発展途上国を中心に資金援助や技術協力などを行っており，援助の総額は世界でもトップクラスにある。このような，政府の行う援助や協力を何というか，次の[　　]の中から適切なものを 1 つ選べ。

[ NGO　UNESCO　WHO　ODA ]

(茨城県)

[解答欄]

[解答]ODA

[解説]

第二次世界大戦後の日本の外交は，平和主義と国際貢献(こくさいこうけん)を重視してきた。国際貢献については，発展途上国に対する資金援助や技術協力などを行う ODA(政府開発援助(せいふかいはつえんじょ))を行っている。青年海外協力隊(せいねんかいがいきょうりょくたい)も日本のODAの一環である。

[ODA(政府開発援助)]
発展途上国に対する
資金援助や技術協力
青年海外協力隊もODAの一環

※入試出題頻度：「ODA(政府開発援助)◎」「海外青年協力隊△」

[問題]

右の資料は，南アジアのある国の政府が，2004 年に，日本からの経済協力 50 周年を記念して発行した切手シートの一部である。この切手のデザインには，技術協力を行っている日本の青年海外協力隊員や専門家の姿，また，日本の資金協力で建設された水力発電所やトンネルが採用されている。このような発展途上国の経済や福祉の向上のために先進国が行う資金や技術の支援を何というか。

(徳島県)

[解答欄]

[解答]ODA(政府開発援助)

[問題]

ODA について，正しく述べているのはどれか。

ア　発展途上国に対して，資金の提供に加え，農業技術や教育などの援助を行っている。

イ　貿易の自由化を促進するため，関税をなくすなど，経済関係の強化をめざしている。

ウ　地球温暖化を防ぐため，先進国に対して温室効果ガスの削減を義務付けている。

エ　各国の貴重な自然や文化を世界遺産として登録し，保護する活動をしている。

(栃木県)

[解答欄]

[解答]ア

[問題]

ODA の説明としてあてはまらないものを，次のア～エの中から 1 つ選べ。

ア　2 国間 ODA と国際機関向けの資金協力の 2 種類に大別される。

イ　紛争地域での停戦の監視などの平和維持活動を行っている。

ウ　貧しい国々に住む人々の生活をよくすることを目的としている。

エ　国際協力機構の青年海外協力隊の活動も ODA の 1 つである。

(福島県)

[解答欄]

[解答]イ

[解説]

イが誤り。イは平和維持活動(PKO)である。

エは正しい。教育や農業技術などの支援のために派遣されている青年海外協力隊も ODA の 1 つである。

[問題]

青年海外協力隊の隊員は，現在，アジアやアフリカなどの(先進工業国／発展途上国／国際原子力機関／国際労働機関)に派遣され農業技術や教育などの援助をおこなっている。文中の(　　)内より適語を選べ。

(茨城県)

[解答欄]

[解答]発展途上国

[問題]

次の文の①，②の(　　)内より適語を選べ。

発展途上国を支援するために政府が行う援助を①(NGO／ODA)といい，日本は，資金協力と技術協力を行っている。技術協力の１つとして，教育や農業技術などの支援のために派遣されている②(オンブズマン／青年海外協力隊)がある。

(千葉県)

[解答欄]

| | |
|---|---|
| ① | ② |

[解答]① ODA　② 青年海外協力隊

[問題]

世界には，食料が豊富な国や，内戦や砂漠化などで食料不足が続いている国がある。主に地球の北側にある(　①　)とよばれる国々と，それより南側に位置し，南アジアやアフリカなどにある(　②　)とよばれる国々の間では，経済格差などの南北問題がある。これらの問題を解決していくために，各国では，(　③　)開発援助(ODA)だけでなく，非(③)組織(NGO)など民間の組織がさまざまな活動を行っている。

(1) ①，②に入る語句を次から１つずつ選べ。

[ 社会主義国　資本主義国　先進工業国　発展途上国 ]

(2) ③にあてはまる最も適切な語句を，漢字２字で書け。

(長野県)

[解答欄]

| | | |
|---|---|---|
| (1)① | ② | (2) |

[解答](1)① 先進工業国　② 発展途上国　(2) 政府

[問題]

今日，日本の国際貢献の１つとして，資金援助や技術援助を行うODA(政府開発援助)がある。これは，どのような問題を解決するのに役立っているのか。説明せよ。

(佐賀県)

[解答欄]

| |
|---|
| |

[解答]先進国と発展途上国の経済格差の問題。

[問題]

日本の ODA は，資金や物資の提供だけでなく，青年海外協力隊の派遣や研修生の受け入れなどを通した人材育成にも力を入れている。日本は，このような人材育成を通して，途上国がどのようにして発展していくことを期待しているのか,「知識・技術」という語句を使って書け。

(石川県)

[解答欄]

[解答]日本で知識・技術を学んで，発展途上国が自分たちの力で発展していくこと。

[NGO(非政府組織)]

[問題]

飢餓や貧困の問題，環境破壊や人権侵害などの問題に対して，国境や国籍の違いをこえて自主的に活動している民間団体は，一般に何とよばれるか。次の[　　]から 1 つ選べ。

[ GHQ　ODA　PKO　NGO ]

(香川県)

[解答欄]

[解答]NGO

[解説]

NGO は非政府組織の略称で，政府にたよらない民間の非営利組織のことである。NGO の中には国連を介して，国際的なネットワークをつくり, 軍縮・開発援助・環境保護・人権擁護(ようご)・飢餓(きが)の救済・学術など，多様な領域で活動しているものもある。

[ NGO(非政府組織) ]
民間の非営利組織
貧困，環境破壊，人権侵害などに対して自主的に活動

NPO(民間非営利団体)も同じような意味に使われるが，NGO は国際的な活動をする組織に対して使われ，NPO は国内で活動する組織に対して使われることが多い。

※入試出題頻度：「NGO○」

[問題]

近年，国際社会において，食糧問題や環境問題，さらには地震による被害からの復興などに取り組む「非政府組織」の活動が注目されている。この「非政府組織」の略称を，アルファベットの大文字 3 字で書け。

(神奈川県)

[解答欄]

| |
|---|
| |

[解答]NGO

[問題]

①～③に入る略号を[　　]内からそれぞれ選べ。

日本をはじめ，各国政府は(　①　)とよばれる国際協力を行っている。これには，国際連合の組織である(　②　)などに協力する援助と，相手国に直接，資金協力などを行う援助がある。また近年，(　③　)とよばれる民間団体も，活発に援助活動を行っている。

[ NGO　ODA　UNICEF ]

(宮城県)

[解答欄]

| ① | ② | ③ |
|---|---|---|

[解答]① ODA　② UNICEF　③ NGO

[問題]

国際社会の動きについて述べた文として，最も適当なものを，次のア～エから 1 つ選んで記号で答えよ。

ア　国際連合の平和維持活動(PKO)は，現在紛争地域がないため行われていない。

イ　政府開発援助(ODA)には日本は消極的であり，その額は先進国中最低である。

ウ　政府だけではなく，非政府組織(NGO)など民間の国際組織の活動も増えている。

エ　環境問題の解決に向けては，各国の利害対立はほとんど見られない。

(島根県)

[解答欄]

| |
|---|
| |

[解答]ウ

【】新しい戦争・核軍縮など

[地域紛争・テロリズム]

[問題]

次の各問いに答えよ。

(1) 新しい戦争と呼ばれるものの1つで，旧ユーゴスラビアの民族紛争に代表されるような紛争を何というか。

(2) 政治的・社会的な目的を果たすために暴力的な行為を行うことをカタカナ 5 文字で何というか。

(補充問題)

[解答欄]

| | |
|---|---|
| (1) | (2) |

[解答](1) 地域紛争　(2) テロリズム

[解説]

冷戦終結後，従来とは異なる形の「新しい戦争」が見られるようになった。1 つは，1990 年代に起こった旧ユーゴスラビアの民族紛争(ふんそう)などに代表される地域紛争である。もう 1 つの「新しい戦争」は，アメリカで 2001 年に起こった同時多発テロのようなテロリズムである。

[新しい戦争]
地域紛争：難民が発生←UNHCRが難民の保護
テロリズム：2001年に起きた同時多発テロなど

※入試出題頻度：この単元はたまに出題される。

[問題]

1992 年～95 年の間，旧ユーゴスラビアのボスニア・ヘルツェゴビナで発生した紛争の原因として最も顕著なものを次のア～エから 1 つ選び，記号で答えよ。

ア　政治体制のちがい　　イ　民族問題　　ウ　領土問題　　エ　経済の格差

(沖縄県)

[解答欄]

[解答]イ

[解説]

冷戦の終結によって，米ソ超大国(ちょうたいこく)の支配が崩(くず)れはじめると，それまで冷戦の下で抑えられてきた地域的な民族・宗教・領土紛争(ふんそう)などが頻発(ひんぱつ)するようになった。旧ソ連領のチェチェンの民族紛争，旧ユーゴスラビアのボスニア・ヘルツェゴビナ紛争，コソボ問題などの地域紛争で，対立する民族間で悲惨な大量虐殺(たいりょうぎゃくさつ)などがおこった。迫害を受けた民族の人々の中には，難民(なんみん)となって他国に逃れる者もあった。

[核拡散防止条約]

[問題]

1968 年に核保有国以外の国々が核兵器を持つことを禁じた条約が締結された。この条約名を何というか。

(大分県)

[解答欄]

[解答]核拡散防止条約

[解説]

戦争を防ぐためには，軍縮を進めることが必要である。特に，一度に多くの人々の命をうばう核兵器や化学兵器，生物兵器などの大量破壊兵器の廃絶が重要である。そのために，1968 年に，核保有国以外の国が核兵器を持つことを禁止する核拡散防止条約が採択された。

※入試出題頻度：「核拡散防止条約○：核保有国以外の国々が核兵器を持つことを禁止△」

[問題]

1968 年に多国間で調印された核拡散防止条約の内容を，「核保有国」「禁止」の語句を用いて説明せよ。

(福島県)

[解答欄]

[解答]核保有国以外の国々が核兵器を持つことを禁止する。

[問題]

次のア～エのうち，誤っているものを 1 つ選び，記号で書け。

ア　新たな核保有国の増加を阻止するため，多くの国は核拡散防止条約に加盟している。

イ　日本は核兵器を「もたず，つくらず，もちこませず」という非核三原則をかかげている。

ウ　1998 年に，インドとバングラデシュが核実験を実施した。

エ　冷戦中でも，アメリカと旧ソ連は，条約を結んで核兵器を削減しようとした。

(山梨県)

[解答欄]

[解答]ウ

[解説]

ウが誤り。1998 年に核実験を行ったのは，パキスタンとインドである。

[人間の安全保障]

[問題]

　人口爆発が起きている発展途上国では，栄養不足人口の割合が高い。その原因は，自然災害，内戦などによる食糧不足にあり，解決のためには(伝統文化の尊重／内政不干渉／人間の安全保障／帝国主義)の視点が重要である。文中の(　　)内から適語を選べ。

(栃木県)

[解答欄]

[解答]人間の安全保障

[問題]

　紛争・貧困・飢餓・人権侵害・感染症の広がりなど，近年各地で多発する深刻な脅威から国家をこえて世界の人々の生活や安全を守ろうとする，新しい安全保障の考え方を何というか。

(佐賀県)

[解答欄]

[解答]人間の安全保障

[問題]

　人間の安全保障について，正しく説明しているものを，次のア～エの中から１つ選べ。

ア　国家が，軍事力によって自国の国土と国民を守るという考え方。

イ　人間一人一人に着目して，その生命や尊厳を守るという考え方。

ウ　人々が，仕事上の責任を果たしつつ，仕事と生活の調和を実現するという考え方。

エ　政府や君主が行使する政治権力を，憲法によって制限しようとする考え方。

(滋賀県)

[解答欄]

[解答]イ

【FdData 入試版のご案内】
詳細は，[FdData 入試ホームページ]に掲載（[Shift]＋左クリック→新規ウィンドウ）
姉妹品：[FdData 中間期末ホームページ]（[Shift]＋左クリック→新規ウィンドウ）

◆印刷・編集
この PDF ファイルは，FdData 入試を PDF 形式に変換したサンプルで，印刷はできないように設定しております。製品版の FdData 入試は Windows パソコン用のマイクロソフト Word(Office)の文書ファイルで，印刷・編集を自由に行うことができます。

◆FdData 入試の特徴
FdData 入試は，公立高校入試問題の全傾向を網羅することを基本方針に編集したワープロデータ(Word 文書)です。 入試理科・入試社会ともに，過去に出題された公立高校入試の問題をいったんばらばらに分解して，細かい単元ごとに再編集して作成しております。

◆サンプル版と製品版の違い
ホームページ上に掲載しておりますサンプルは，製品の Word 文書を PDF ファイルに変換したもので印刷や編集はできませんが，製品の全内容を掲載しており，どなたでも自由に閲覧できます。問題を「目で解く」だけでもある程度の効果をあげることができます。
しかし，FdData 入試がその本来の力を発揮するのは印刷や編集ができる製品版においてです。また，製品版は，すぐ印刷して使える「問題解答分離形式」，編集に適した「問題解答一体形式」，暗記分野で効果を発揮する「一問一答形式」の 3 形式を含んでいますので，目的に応じて活用することができます。
※FdData 入試の特徴(QandA 方式)（[Shift]＋左クリック→新規ウィンドウ）

◆FdData 入試製品版(Word 版)の価格(消費税込み)
※以下のリンクは[Shift]キーをおしながら左クリックすると，新規ウィンドウが開きます
社会地理，社会歴史，社会公民：各 6,800 円(統合版は 16,200 円)（[Shift]＋左クリック）
理科 1 年，理科 2 年，理科 3 年：各 6,800 円(統合版は 16,200 円)（[Shift]＋左クリック）
※Windows パソコンにマイクロソフト Word がインストールされていることが必要です。
(Mac の場合はお電話でお問い合わせください)。

◆ご注文は，メール(info2@fdtext.com)，または電話(092-811-0960)で承っております。
※注文→インストール→編集･印刷の流れ （[Shift]＋左クリック）
※注文メール記入例 （[Shift]＋左クリック）

【Fd 教材開発】 Mail： info2@fdtext.com Tel ：092-811-0960