【FdData 高校入試：中学社会歴史：大正】

[第一次世界大戦／日本の参戦と二十一か条の要求／ロシア革命／
ベルサイユ条約・国際連盟／国際協調・民主主義の拡大／アジアの民族運動／
大正デモクラシーと政党内閣の成立／社会運動／普通選挙法の成立／
大正時代の文化／FdData 入試製品版のご案内]

[FdData 入試ホームページ]掲載の pdf ファイル(サンプル)一覧]
※次のリンクは[Shift]キーをおしながら左クリックすると，新規ウィンドウが開きます
社会： [社会地理]，[社会歴史]，[社会公民]
理科： [理科 1 年]，[理科 2 年]，[理科 3 年]
数学： [数学 1 年]，[数学 2 年]，[数学 3 年]
※全内容を掲載しておりますが，印刷はできないように設定しております

【】第一次世界大戦とその後の国際社会

【】第一次世界大戦

[三国同盟と三国協商]

[問題]

ヨーロッパで勢力を拡大したドイツに対抗するために，日露戦争後，ロシアとイギリスとフランスの協力関係が成立した。この関係を何というか。

(山口県)

[解答欄]

[解答]三国協商

[解説]

19 世紀末にドイツが強国になると，ともにドイツと国境を接するフランスとロシアは同盟を結んでドイツに対抗(たいこう)した。また，ドイツは海軍を増強して世界各地に進出しようとしたため，イギリスと対立することになった。イギリスは，ロシアの東アジアへの進出を警戒(けいかい)して日英同盟を結んだが，ロシアが日露戦争に敗れると，ロシアと協商を結んで関係を改善した。イギリスはさらにフランスとも協商を結び，三国協商(さんごくきょうしょう)が成立した。

[三国同盟と三国協商]
三国同盟：ドイツ・オーストリア・イタリア
三国協商：イギリス・フランス・ロシア

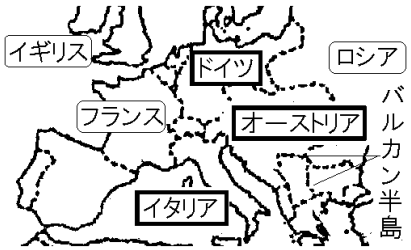

その一方で，ドイツはオーストリアと同盟関係にあり，さらにイタリアも加わって三国同盟（さんごくどうめい）が結ばれた。こうして 20 世紀初めのヨーロッパの国際関係は，ドイツ，オーストリア，イタリアの三国同盟とイギリス，ロシア，フランスの三国協商の両方が軍事力を増強しながら対立する，緊張した状態にあった。

※入試出題頻度：「三国同盟○：ドイツ・オーストリア・イタリア○」

「三国協商○：イギリス・フランス・ロシア○」

(頻度記号：◎(特に出題頻度が高い)，○(出題頻度が高い)，△(ときどき出題される))

[問題]

次の図は第一次世界大戦前のヨーロッパの国際情勢を表したものである。図中の A，B に当てはまる国の名前を，それぞれ書け。

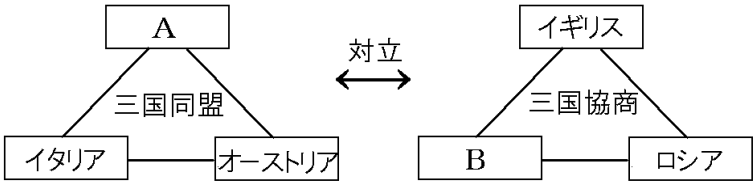

(山梨県)

[解答欄]

A	B

[解答]A ドイツ　B フランス

[問題]

三国協商国を▤，三国同盟国を■であらわした図として正しいものを次のア～エより 1 つ選び，記号で答えよ。

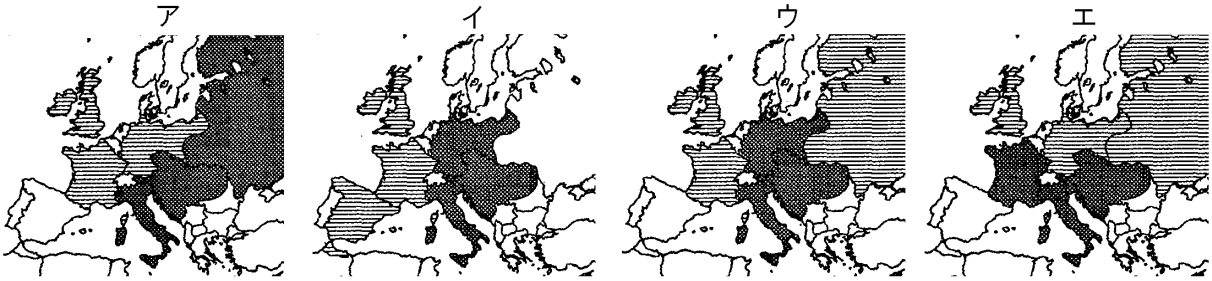

(沖縄県)

[解答欄]

[解答]ウ

[問題]

イタリアは 1882 年に三国同盟を結んだ。イタリアの同盟国を 2 つ書け。

(福井県)

[解答欄]

[解答] ドイツ，オーストリア

[バルカン半島]

[問題]

第一次世界大戦の背景には，当時，「ヨーロッパの火薬庫」と呼ばれていた(　X　)半島における諸民族の独立運動や列強の対立があった。文中の X に当てはまる語を書け。

(栃木県)

[解答欄]

[解答]バルカン

[解説]

三国同盟(ドイツ，オーストリア，イタリア)と三国協商(イギリス，フランス，ロシア)の対立は，しだいにバルカン半島が対立の中心になっていった。民族の対立もからんで，バルカン半島は「ヨーロッパの火薬庫(かやくこ)」と呼ばれるようになった。

[バルカン半島]
列強の利害と民族の対立
↓
ヨーロッパの火薬庫

※入試出題頻度：「バルカン半島(地図)○」「ヨーロッパの火薬庫○」「列強の対立と民族の対立△」

[問題]

第一次世界大戦前のバルカン半島は，列強の利害対立と，民族や宗教の争いが複雑にからみあい紛争が絶えなかったことから，何と呼ばれていたか。

(山口県)

[解答欄]

[解答]ヨーロッパの火薬庫

[問題]

第一次世界大戦の原因の１つとなった民族紛争が続いたのは，①何という半島か。②①は略地図中のア～エのどこか。③また，①の半島はヨーロッパの何と呼ばれていたか。

(山形県改)

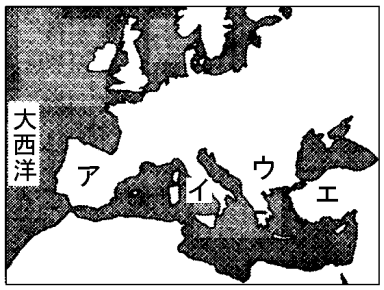

[解答欄]

①	②	③

[解答]① バルカン半島　② ウ　③ ヨーロッパの火薬庫

[第一次世界大戦の勃発]

[問題]

次の各問いに答えよ。

(1) 1914 年，自国の皇位継承者夫妻が暗殺されたのを機に，セルビアに宣戦した国の国名を書け。

(2) (1)の事件が起こった都市の名前を答えよ。

(3) (1)によって始まった世界規模の戦争を何というか。

(秋田県改)

[解答欄]

(1)	(2)	(3)

[解答](1) オーストリア　(2) サラエボ　(3) 第一次世界大戦

[解説]

1914 年(大正 3 年)，バルカン半島のサラエボという都市で，オーストリアの皇位継承者夫妻がセルビアの青年に暗殺されるというサラエボ事件が起こった。オーストリアはセルビアに宣戦布告し，ドイツ，オスマン帝国などの同盟国がオーストリアにつき，イギリス，フランス，ロシアなどの連合国がセルビアについて，第一次世界大戦が始まった。(第一次世界大戦行く銃士(1914)) イタリアは領土をめぐってオーストリアと対立して，三国同盟から離脱し，連合国側に立って参戦した。

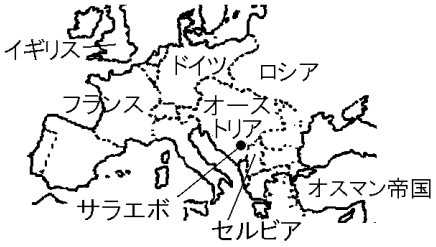

[第一次世界大戦]

1914年 サラエボ事件

(オーストリア の皇位継承者夫妻が セルビア の青年に暗殺される)

↓

第一次世界大戦 が始まる

同盟国：ドイツ，オーストリア，オスマン帝国

連合国：イギリス，フランス，ロシア，イタリア，アメリカ，日本

日本は日英同盟(にちえいどうめい)を理由に連合国側に立って参戦し，最初は中立の立場をとっていたアメリカも 1917 年に連合国側に加わった。
※入試出題頻度：「サラエボ(事件)(地図)〇」「オーストリア(の皇位継承者夫妻)〇がセルビア(の青年)〇によって暗殺される」「第一次世界大戦〇」「同盟国：ドイツ・オーストリア・オスマン帝国△」「連合国：イギリス・フランス・ロシア・イタリア・アメリカ・日本△」

[問題]
　次の文章は，第一次世界大戦の始まりについて述べたものである。文章中の①，②の(　　)内からそれぞれ適語を選べ。
　1914 年，オーストリアの皇太子夫妻が，サラエボで①(セルビア／ルーマニア)の青年によって暗殺される事件が起こった。これがきっかけとなり，オーストリア，ドイツ，トルコなどの②(枢軸国／同盟国)側とイギリス，フランス，ロシアなどの連合国側との間で，第一次世界大戦が始まった。
(千葉県)
[解答欄]

①	②

[解答]① セルビア　② 同盟国

[問題]
　第一次戦争が始まったときの状況として，正しいものを，次のア～オから 1 つ選び，その符号を書け。
ア　オーストリア，ロシアなどの国々と，フランス，イギリス，ドイツなどの国々が戦った。
イ　ロシア，フランスなどの国々と，イギリス，ドイツ，オーストリアなどの国々が戦った。
ウ　フランス，イギリスなどの国々と，ドイツ，オーストリア，ロシアなどの国々が戦った。
エ　イギリス，ドイツなどの国々と，オーストリア，ロシア，フランスなどの国々が戦った。
オ　ドイツ，オーストリアなどの国々と，ロシア，フランス，イギリスなどの国々が戦った。
(新潟県)
[解答欄]

[解答]オ

[総力戦・新兵器]

[問題]

次の各問いに答えよ。

(1) 第一次世界大戦のように，各国がその国の国民，経済，科学技術，資源などをすべて使い果たして戦う戦争を何というか。

(2) 第一次世界大戦で使用された新兵器を 2 つあげよ。

(補充問題)

[解答欄]

(1)	(2)

[解答](1) 総力戦　(2) 戦車，飛行機(潜水艦，毒ガス)

[解説]

第一次世界大戦では，戦車，飛行機，潜水艦，毒ガスなどの新兵器が使われた。戦いは各国がその国の国民，経済，科学技術，資源などをすべて使い果たして戦う総力戦になった。働き手が不足したため，女性も兵器工場などで働いた。また，イギリスやフランスは，植民地の人々も兵士として動員した。戦争は 4 年と長期にわたり，戦死者数は約 850 万人とそれまでに例を見ない悲惨なものになった。

[総力戦･新兵器]
新兵器：戦車，飛行機，潜水艦，毒ガス
総力戦：女性も兵器工場などで働いた

※入試出題頻度：「新兵器：戦車，飛行機，潜水艦，毒ガス○」「総力戦○」「女性も兵器工場などで働いた△」

[問題]

C 班は第一次世界大戦とその影響に着目し，以下のようにレポートをまとめた。資料Ⅰ，Ⅱはレポート作成のために準備したものである。これらの資料をふまえて，次のレポートの(X)に適する内容を書け。なお，「不足」という語句を必ず使用すること。

(資料Ⅰ)戦時中に，工場で働く女性たち

(資料Ⅱ男性普通選挙権および女性参政権が認められた年)

国名	男性	女性	国名	男性	女性
ドイツ	1871	1918	イギリス	1918	1918
アメリカ	1870	1920	日本	1925	1945

(第一次世界大戦はどのような戦争であったか)

・大戦の特徴

各国が国力を総動員したため，総力戦と呼ばれた。

新兵器の戦車や飛行機，毒ガス，潜水艦などが投入されたため，戦死者が莫大な数になった。

・社会への影響

男性が前線にかり出されたことで(　　X　　)

(福井県)

[解答欄]

[解答]労働力が不足して女性が工場などに動員されたため，女性の社会進出が進み，女性参政権が認められるようになった。

【】日本の参戦と二十一か条の要求

[日本の参戦]

[問題]

第一次世界大戦について，日本が連合国側として参戦する理由とした同盟は何か。

(青森県)

[解答欄]

[解答]日英同盟

[解説]

日本は，中国への権益(けんえき)をのばすために，日英同盟(にちえいどうめい)を根拠(こんきょ)に連合国側にたって，1914 年，中国の山東半島(さんとうはんとう)(山東省)にあるドイツの拠点(きょてん)を攻撃(こうげき)し占領(せんりょう)した。

※入試出題頻度：「日英同盟を根拠に◎」「連合国側に立って参戦○」「山東半島(地図)のドイツ△」

[問題]

次の文中の①，②の(　　)内からそれぞれ適語を選べ。

日本は，日露戦争の前に結ばれていた①(三国協商／日英同盟)を理由に第一次世界大戦に参戦した。アメリカは②(最初から／途中から)参戦した。

(兵庫県)

[解答欄]

①	②

[解答]① 日英同盟　② 途中から

[問題]

日本はある国との同盟を理由に第一次世界大戦に参戦した。次の各問いに答えよ。

(1) ある国とはどこか。国名を答えよ。

(2) (1)の国を地図中の a～d から 1 つ選び，記号で答えよ。

(3) 日本は連合国側，同盟国側のいずれの側に立って参戦したか。

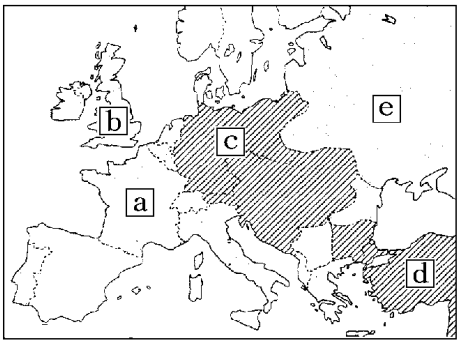

(沖縄県・愛媛県)

[解答欄]

(1)	(2)	(3)

[解答](1) イギリス　(2) b　(3) 連合国側

[問題]

次の文は，第一次世界大戦が始まったときの日本の動きについて述べたものである。文中の X に適当な言葉を書き入れて文を完成させよ。ただし，「日英同盟」「連合国側」の 2 つの言葉を用い，日本の立場を明らかにして書くこと。

ロシアなどの連合国側とドイツなどの同盟国側との間で大きな戦争が始まると，
日本は，(　　X　　)。

(愛媛県)

[解答欄]

[解答]日英同盟を理由に，連合国側に加わった

[問題]

一次世界大戦において，日本が属していた陣営の国々を■で示した地図として最も適当なものを，次のア～エの中から 1 つ選べ。

(福島県)

[解答欄]

[解答]イ

[解説]日本は連合国側(イギリス・フランス・ロシア・イタリアなど)に加わって参戦した。

[問題]

次の各問いに答えよ。

(1) 日本は，第一次世界大戦で主にどの国と戦ったか。

(2) (1)の国の中国における勢力範囲を右図のア～エから選べ。

(3) 日本が参戦した目的を「権益」という語句を使って説明せよ。

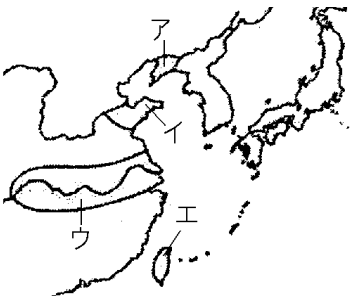

(補充問題)

[解答欄]

(1)	(2)	(3)

[解答](1) ドイツ　(2) イ　(3) 中国における権益をのばすため。

[二十一か条の要求]

[問題]

1915 年に，日本政府が次の資料の内容を含む文書を中国政府に提出した。この文書を何というか。その名称を書け。

一，中国政府は，ドイツが山東省にもっているいっさいの権利を日本にゆずる。

一，日本の旅順・大連の租借の期限，南満州鉄道の期限を 99 か年延長する。

(新潟県)

[解答欄]

[解答]二十一か条の要求

[解説]

日本は，日英同盟を理由に連合国側にたって，第一次世界大戦に参戦し，ドイツが中国にもつ権益である山東省(さんとうしょう)の拠点(きょてん)を攻撃し占領した。

[二十一か条の要求]
ドイツが山東省にもつ権益を日本へ譲る
旅順･大連，南満州鉄道の租借期限の延長

さらに，1915 年，日本は，第一次世界大戦で欧米列強のアジアへの影響力が弱まっていたのを機に，中華民国(ちゅうかみんこく)の袁世凱(えんせいがい)に対して，二十一か条の要求を出し，これを認めさせた。

二十一か条の要求の内容は，次のような内容であった。

一　中国政府は，ドイツが山東省(さんとうしょう)にもっているいっさいの権益を日本にゆずる。

一　日本の旅順(りょじゅん)・大連(だいれん)の租借(そしゃく)の期限，南満州鉄道の期限を 99 か年延長する。

第一次世界大戦後，中国はドイツ権益の返還を主張したが，パリの講和会議で山東省のドイツ権益を日本が引き継ぐことが認められた。これに対し，中国の反日感情が爆発し，1919 年，五・四運動が起こった。その後，1921 年に開催されたワシントン会議の中で，中国の独立と領土保全を内容とする条約が結ばれたが，日本も協調外交の立場から，山東省の権益を中国に返還することに同意した。

※出題頻度：「二十一か条の要求○」「ドイツが山東省にもつ権益○」「旅順・大連△」「南満州鉄道△」

[問題]

次の資料は，日本が中国政府に提出した「二十一か条の要求」の一部を要約したものである。①，②に適語を入れよ。ただし，①は第一次世界大戦で日本が戦った国である。

一，中国政府は，(　①　)が(　②　)省にもっているいっさいの権利を日本にゆずる。

一，日本の旅順・大連の租借の期限，南満州鉄道の利権の期限を 99 か年延長する。

(徳島県改)

[解答欄]

①	②

[解答]① ドイツ　② 山東

[問題]

次は，1915 年に，日本が中国に示した要求の一部である。これについて(1)，(2)に答えよ。

一　中国政府は，ドイツが(　A　)省にもっているいっさいの権益を日本にゆずる。

一　日本の(　B　)・大連の租借の期限，(　C　)鉄道の期限を 99 か年延長する。

(1) この要求を何というか。

(2) 資料の A～C にあてはまる語句をそれぞれ書け。

(補充問題)

[解答欄]

(1)	(2)A	B	C

[解答](1) 二十一か条の要求　(2)A 山東　B 旅順　C 南満州

[問題]

第一次世界大戦に日本が参戦した目的を，資料Ⅰ，資料Ⅱを参考にして，簡潔に書け。

(資料Ⅰ) 井上馨が大隈重信にあてた手紙

今回のヨーロッパにおける大戦は，日本の国運の発展に対する大正新時代の天佑(天の助け)であって，日本国はただちに国をあげて一致団結して，この天佑を享受しなければならない。

※1914 年 8 月 8 日の手紙。

※井上馨は長州藩出身の有力政治家。大隈重信は当時の内閣総理大臣。

(資料Ⅱ)二十一か条の要求

一　中国政府は，ドイツが山東省にもっているいっさいの利権を日本にゆずること。

一　日本の旅順・大連の租借の期限，南満州鉄道の利権の期限を 99 か年延長すること。

(群馬県)

[解答欄]

[解答]ヨーロッパで戦争が行われている間に，中国で勢力を伸ばすこと。

【】ロシア革命

[問題]

次の文中の①，②に適語を入れよ。

第一次世界大戦中の 1917 年，右図の(　①　)を指導者とする(　②　)革命がおこり，社会主義の政府が成立した。

(鹿児島県改)



[解答欄]

①	②

[解答]① レーニン　② ロシア

[解説]

戦争が長引くにつれ，ロシア国内では国民の生活が苦しくなり，労働者のストライキや兵士の反乱が続き，かれらの代表会議(ソビエト)が各地に設けられた。こうした中，1917 年にレーニンを指導者とするロシア革命(かくめい)が起こった。1918 年，ロシアはドイツと単独(たんどく)で講和(こうわ)した。(引く否(ひくいな)(1917)とレーニン，ロシア革命)

[ロシア革命]
1917年 ロシア革命(レーニン)
1918年 ロシアはドイツと単独で講和
1918年～ シベリア出兵
(ロシア革命の影響が及ぶことをおそれたから)

ロシア革命の影響が及ぶことをおそれた日本，アメリカ，イギリス，フランスはシベリア出兵を行った。革命政府は，内戦と列強の干渉(かんしょう)戦争を切り抜け，1922 年，ソビエト社会主義共和国連邦(しゃかいしゅぎきょうわこくれんぽう)(略称はソ連)が世界で初めての社会主義国として成立した。(「ソビエト」はロシア語で「会議」という意味である。)

※入試出題頻度：「レーニン○」「ロシア革命○」「シベリア出兵○」「社会主義の影響が拡大するのをおそれたから△」

[問題]

次の文中の①，②にあてはまることばをそれぞれ書け。

第一次世界大戦中に起きた(　①　)革命の影響がおよぶことをおそれた日本，アメリカ，イギリスなどの各国は(　②　)出兵を行った。

(福島県)

[解答欄]

①	②

[解答]① ロシア　② シベリア

[問題]

次の各問いに答えよ。

(1) ロシア革命に対して，イギリス，フランス，アメリカ，日本は軍隊を送って干渉を行った。これを何というか。

(2) イギリス，フランス，アメリカ，日本が(1)を行った理由を「影響」という語句を使って簡単に説明せよ。

(福島県改)

[解答欄]

(1)	(2)

[解答](1) シベリア出兵　(2) 社会主義の影響が拡大するのをおそれたから。

[問題]

次のア～エのことがらを，年代の古い順に並べ，符号で書け。

ア　日本，アメリカ，イギリス，フランスは，シベリア出兵を開始した。

イ　オーストリアがセルビアに宣戦し，第一次世界大戦が起こった。

ウ　ロシアでレーニンの指導のもと，ロシア革命がおこった。

エ　ソビエト社会主義共和国連邦が成立した。

(岐阜県改)

[解答欄]

[解答]イ→ウ→ア→エ

[解説]

イ(第一次世界大戦 1914 年)→ウ(ロシア革命 1917 年)→ア(シベリア出兵 1918 年)→エ(ソビエト社会主義共和国連邦成立 1922 年)

【】ベルサイユ条約・国際連盟

[ベルサイユ条約]

[問題]

第一次世界大戦後のパリ講和会議において結ばれたある条約によって，ドイツは巨額の賠償金や軍備縮小を求められた。この条約は何と呼ばれるか。その呼び名を書け。

(香川県)

[解答欄]

[解答]ベルサイユ条約

[解説]

1918 年(大正 7 年)にドイツが降伏(こうふく)し，1919 年にフランスのパリで講和(こうわ)会議が開かれ，ベルサイユ条約(じょうやく)が結ばれた。この条約で，イギリスとフランスは，ドイツに巨額の賠償金(ばいしょうきん)や軍備縮小(ぐんびしゅくしょう)を課した。また，ドイツは植民地(しょくみんち)を失い，領土(りょうど)を縮小(しゅくしょう)された。中国の山東省(さんとうしょう)の利権(りけん)は日本が引き継ぐことが決められた。講和会議では，アメリカのウィルソン大統領により民族自決(みんぞくじけつ)の原則も唱(とな)えられ，東ヨーロッパで多くの小国が独立した。しかし，アジアやアフリカでは植民地支配が続いたため，民族独立を求める運動が高まった。

[ベルサイユ条約]
1919年パリで講和会議
ドイツに巨額の賠償金，
軍備縮小，領土削減
ウィルソン：民族自決を提唱
↓
東ヨーロッパ：多くの小国が独立

※入試出題頻度：「パリ(講和会議)(地図)◎」「ベルサイユ条約◎」「ウィルソン：民族自決○」「東ヨーロッパで多くの小国が独立△」

[問題]

第一次世界大戦後に(　X　)で講和会議が開かれ，ベルサイユ条約が結ばれ，日本はドイツ領だった南洋諸島を統治することとなった。文中の X に適語を入れよ。

(鹿児島県)

[解答欄]

[解答]パリ

[問題]

次の各問いに答えよ。

(1) 第一次世界大戦の講和会議が開かれたフランスの都市はどこか。

(2) 第一次世界大戦の講和会議で結ばれた条約は何か。

(岩手県)

[解答欄]

(1)	(2)

[解答](1) パリ　(2) ベルサイユ条約

[問題]

　次の[　　]から，第一次世界大戦の敗戦国をすべて選べ。

[アメリカ合衆国　ドイツ　フランス　スイス　オーストリア]

(熊本県)

[解答欄]

[解答] ドイツ，オーストリア

[問題]

　ベルサイユ条約によって，ドイツに対して取り決められた内容として適切でないものを，次のア～エから 1 つ選び，記号で答えよ。

ア　国際連盟への加盟

イ　領土の割譲

ウ　賠償金の支払い

エ　軍備の制限

(山形県)

[解答欄]

[解答]ア

[問題]

　ベルサイユ条約の内容として適切でないものを次のア～エから 1 つ選び，記号を書け。

ア　ドイツは，ばく大な賠償金を課せられた。

イ　日本は，ドイツから山東半島の利権を引きついだ。

ウ　ドイツは，海外の植民地をすべて失った。

エ　日英同盟が解消された。

(富山県)

[解答欄]

[解答]エ

[解説]
日英同盟の解消が決められたのは，ワシントン会議で結ばれた四か国条約である。

[問題]
　パリ講和会議では，(　X　)の考えがよびかけられ，東ヨーロッパの諸民族は独立を認められた。しかし，アジアやアフリカの植民地支配は続いたため，これらの地域では，それぞれの民族のことは，自分たちで決める権利があるという(X)の主張が活発になった。文中の X に適語を入れよ。
(千葉県)
[解答欄]

[解答]民族自決

[問題]
　第一次世界大戦について述べたものとしてあてはまらないものは，次のア～エのうちのどれか。1 つ選んで，その記号を書け。
ア　この戦争は，オーストリアの皇位継承者夫妻がサラエボでセルビアの青年に暗殺され，国際的な緊張が高まるなかで始まった。
イ　この戦争において，わが国は，ドイツ，イタリアなどの枢軸国の一員として，アメリカ，イギリスなどの連合国と戦った。
ウ　この戦争中に，ロシア革命がおこり，ロシアの革命政府はドイツと講和条約を結んでこの戦争から離脱した。
エ　この戦争の講和条約として結ばれたベルサイユ条約によって，ドイツは植民地を失い，巨額の賠償金を要求された。
(香川県)
[解答欄]

[解答]イ

[問題]
　パリ講和会議で，中国は第一次世界大戦中に日本が受け入れさせた要求の取り消しを求めたが，拒絶されたことで民衆の抗議運動が起こった。この要求のうちドイツに関わるものを書け。
(石川県)

[解答欄]

[解答]ドイツが持っていた山東省の権益を日本が引き継ぐこと。

[国際連盟の誕生]

[問題]

次の文中の①，②に適語を入れよ。

1920 年，アメリカの(　①　)大統領の提案にもとづいて，世界平和を守るための組織として(　②　)が設立された。

(山口県改)

[解答欄]

①	②

[解答]① ウィルソン　② 国際連盟

[解説]

1920 年(大正 9 年)，アメリカ大統領のウィルソンの提案にもとづき，世界平和と国際協調のための組織として国際連盟(こくさいれんめい)がつくられた。本部はスイスのジュネーブにおかれ，日本は，イギリス・フランス・イタリアとともに 4 常任理事国(じょうにんりじこく)の 1 つになった。しかし，アメリカ自身が議会の反対で参加しなかったうえ，ドイツやソビエト政府が除外(じょがい)されていた。さらに，紛争(ふんそう)を解決するための手段(強制力)も限られていたため，世界平和を保つためには力不足であった。新渡戸稲造(にとべいなぞう)が国際連盟本部の事務局次長として活躍した。

(ウィルソン)

[国際連盟] 1920年
ウィルソン の提案
本部はスイスの ジュネーブ
事務局次長に新渡戸稲造
常任理事国：イギリス，フランス，イタリア，日本
アメリカ･ドイツ･ソ連は不参加
紛争を解決するための手段も限られていた

(新渡戸稲造)

※入試出題頻度：「ウィルソン○」「国際連盟○」「スイスのジュネーブ○」「新渡戸稲造△」「常任理事国：イギリス・フランス・イタリア・日本△」「アメリカ・ドイツ・ソ連が加入していなかった△」「紛争を解決するための手段も限られていた△」

[問題]

国際連盟が設立された理由を「第一次世界大戦」ということばを使い，簡単に書け。

(北海道)

[解答欄]

[解答]第一次世界大戦の反省から，世界平和を守るために設立された。

[問題]

①国際連盟の本部が置かれた都市の名前を答えよ。
②また，①の都市がある国の位置を示しているものは，右の地図のア～エのどれか。
(長崎県改)

[解答欄]

①	②

[解答]① ジュネーブ　② エ

[問題]

設立間もない国際連盟で，事務局の次長をつとめた右の人物はだれか。
次の[　　]から１つ選べ。
[陸奥宗光　福沢諭吉　新渡戸稲造　小村寿太郎]
(新潟県)

[解答欄]

[解答]新渡戸稲造

[問題]

国際連盟の設立についての説明として適当でないものを，ア～エから１つ選べ。
ア　提唱国のイギリスは，不参加であった。
イ　本部は，スイスのジュネーブに置かれた。
ウ　日本は，常任理事国であった。
エ　ドイツは当初，加盟が認められなかった。
(大分県)

[解答欄]

[解答]ア

[解説]

アが誤り。「提唱国のアメリカは，不参加であった」が正しい。

[問題]

1920 年に，世界平和と国際協調を目指して国際連盟が設立された。次の資料は，アメリカ，イギリス，イタリア，ドイツ，日本，フランスの国際連盟への加盟状況を示したものである。資料の中のア～エには，アメリカ，ドイツ，日本，フランスのいずれかが当てはまる。ア～エのうち，日本，ドイツに当てはまるものはどれか。それぞれ 1 つずつ選び，記号で答えよ。

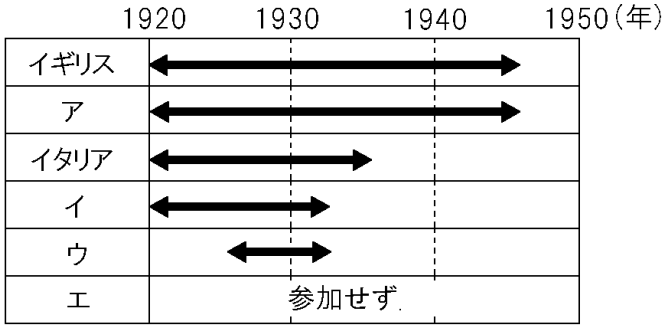

注　加盟期間は↔で示している。

(静岡県)

[解答欄]

日本：	ドイツ：

[解答]日本：イ　ドイツ：ウ

[解説]

アはフランス，イは日本(日本は最初から参加していたが，満州事変後に脱退)，ウはドイツ(敗戦国のドイツは最初加盟できなかったが，後に加盟したが，ナチスが政権をにぎった後に脱退)，エはアメリカである。

[問題]

国際連盟とアメリカの関わりについて，当時のアメリカ大統領名を明らかにし，「議会の反対」という語句を使って書け。

(鹿児島県改)

[解答欄]

[解答]アメリカ大統領ウィルソンが国際連盟の設立を提案したが，アメリカは議会の反対で加盟しなかった。

【】国際協調・民主主義の拡大

[ワシントン会議]

[問題]

次の文の①，②の(　　)内より適語を選べ。

ヨーロッパを中心に 4 年余り続いた戦争の中で，飛行機や船舶などの開発が一段と進み，各国の軍備も増強された。戦後，世界平和と国際協調をうたう①(国際連合／国際連盟)が発足した。このような国際協調の時代の中で，中国，太平洋地域の問題や海軍の軍縮について話し合うため，②(ロンドン／ワシントン)で国際会議が開かれた。

(埼玉県)

[解答欄]

①	②

[解答]① 国際連盟　② ワシントン

[解説]

アメリカは，第一次世界大戦で力を弱めたヨーロッパ諸国にかわって世界経済の中心になった。また政治面でも，アジア・太平洋地域での発言力を強めた。1921 年から 22 年にかけて，アメリカの呼びかけでワシントン会議が開かれ，海軍の軍備を制限し(ワシントン海軍軍縮条約)，太平洋地域の現状維持と，中国の独立と領土の保全を確認した。日本は，ベルサイユ条約で山東省のドイツ権益を引きついだが，ワシントン会議の結果，これを中国に返還した。また，この会議で日英同盟は解消された。やがてドイツも国際連盟への加盟を認められるなど，1920 年代は国際協調の時代になった。

[ワシントン会議]
海軍の軍備を制限
→軍事費の減少
太平洋地域の現状維持
中国の独立と領土保全
山東省のドイツ権益を返還
日英同盟の廃止

※入試出題頻度：「ワシントン会議○」「海軍の軍縮条約△→軍事費の減少△」「太平洋地域の現状維持△」「中国の独立と領土保全△」「山東省のドイツ権益を返還△」「日英同盟の廃止△」

[問題]

次の文章中の①にあてはまる適当な語を書け。また，②の(　　)内から適語を選べ。

第一次世界大戦後，アメリカの呼びかけで 1921 年から翌年にかけて(　①　)会議が開かれ②(ソ連／朝鮮／ドイツ／中国)の主権尊重と領土の保護が確認された。この結果，日本が得た山東省の権益が，(②)に返還された。

(千葉県)

[解答欄]

①	②

[解答]① ワシントン　② 中国

[問題]

次の文章中の①，③に適語を入れよ。また，②の(　　)内より適語を選べ。

第一次世界大戦後，国際連盟が設立され，(　①　)会議が開かれるなど，②(軍備拡張／環境保護／領土拡大／国際協調)を目指す気運が高まった。(①)会議は，わが国やアメリカ，イギリスなど 9 か国が参加して，海軍の軍備の制限や日英同盟の解消などについて話し合いが行われた。また，大戦中にわが国が獲得した(　③　)省の旧ドイツ権益を中国に返還することが決められた。

(長崎県改)

[解答欄]

①	②	③

[解答]① ワシントン　② 国際協調　③ 山東

[問題]

ワシントン会議が開かれ，右図の①(P／Q)の地域の権益を中国に返還することや②(三国協商／日英同盟)の廃止が決定され，アジア・太平洋地域における新しい国際関係の枠組みが定まることになった。

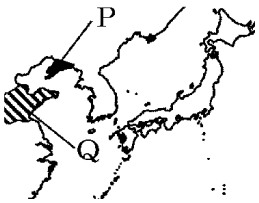

(兵庫県改)

[解答欄]

①	②

[解答]① Q　② 日英同盟

[問題]

次の文章中の①には当てはまることばを，②には当てはまる内容を「海軍」ということばを用いて書け。

第一次世界大戦が終わると，日本は不景気となり，造船業界の市場も縮小した。1921 年から翌年にかけて開催されたワシントン会議では，日露戦争前に結ばれた(　①　)同盟を解消するだけでなく，日本など 5 か国の(　　②　　)ことなどが取り決められた。この取り決めにより，さらに経営が苦しくなった造船所もあった。

(岡山県)

[解答欄]

①	②

[解答]① 日英　② 海軍の軍備を縮小する

[問題]

右のグラフは，ワシントン会議の開催以降 1920 年代に，日本の軍事費の割合が低くなったことを示している。ワシントン会議において，日本を含めた各国は，国際平和の実現のためにどのようなことを行ったのか。グラフを参考に，「国際協調」のことばを用いて，簡潔に説明せよ。

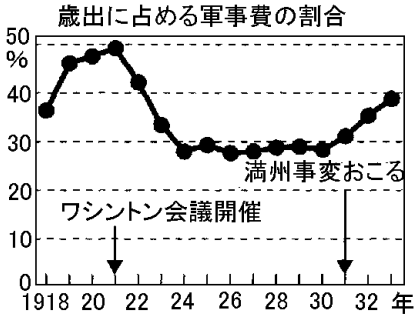

(岐阜県)

[解答欄]

[解答]海軍の軍縮条約を結ぶなど，国際協調をはかった。

[民主主義の拡大]

[問題]

ドイツでは，1919 年に，20 歳以上の男女の普通選挙権や労働者の団結権などを認めた民主的な憲法が制定された。この憲法を何というか，答えよ。

(岡山県)

[解答欄]

[解答]ワイマール憲法

[解説]

ドイツは 1919 年，ワイマール憲法を基礎とする共和国になった。この憲法は，20 歳以上の男女の普通選挙(ふつうせんきょ)，国民主権のほか，国民が人間らしく生きる権利(社会権)を定めており，当時，世界で最も民主的な憲法であった。しかし，敗戦による混乱が続き，巨額の賠償金(ばいしょうきん)の支払いのために紙幣を刷りすぎたために，極端なインフレーションが発生した。

[民主主義の高まり]
ドイツ：1919年に ワイマール憲法
20歳以上の男女の普通選挙，社会権
賠償金→紙幣の刷りすぎ→極端なインフレ
イギリス：初の労働党内閣，女性に参政権
アメリカ：1920年代に世界一の経済力

イギリスでは，第一次世界大戦中に，工場で働くなどして女性も総力戦に貢献したことで，1918 年に女性に参政権が与えられた。また，1924 年に労働者の支持を受けた労働党が初めて内閣を組織した。一方，アメリカは総力戦で消耗したヨーロッパ諸国に代わって発展し，1920 年代に世界一の経済力を持つようになった。

※出題頻度：「ドイツでワイマール憲法○」「満 20 歳以上の男女の選挙権△」
「巨額の賠償金で経済が混乱△→ドイツで極端なインフレ△」
「イギリス：女性に参政権△，初の労働党内閣△」「アメリカ：世界一の経済力△」

[問題]

次の各問いに答えよ。

(1) 第一次世界大戦後，ドイツでは民主的な新たな憲法がつくられたが，この憲法を何というか。

(2) (1)の憲法で選挙権はどのような人にあたえられたか。

(補充問題)

[解答欄]

(1)	(2)

[解答](1) ワイマール憲法　(2) 20 歳以上の男女

[問題]

第一次世界大戦後の様子として間違っている文を，次のア～エの中から 1 つ選べ。

ア　世界経済の中心は，ヨーロッパからアメリカに移り，アメリカが繁栄した。

イ　イギリスでは，女性の参政権が実現し，また，1924 年に初の労働党内閣が成立した。

ウ　普通選挙による議会政治が普及し，女性の選挙権がすべての国で認められた。

エ　ドイツでは，社会権を定めたワイマール憲法が制定された。

(補充問題)

[解答欄]

[解答]ウ

[解説]

ウが誤り。例えば，日本で女性の選挙権が認められたのは第二次世界大戦後である。

[問題]

次のア～エのうち，世界ではじめて憲法に社会権の規定を設けた国の，憲法制定当時のようすについて述べたものはどれか。1 つ選び，その記号を書け。

ア　世界初の国際平和維持機構である国際連盟への加盟が，議会の反対により見送られた。

イ　第一次世界大戦の敗北により，植民地や領土の一部を失い多額の賠償金が課せられた。

ウ　共産党による独裁体制がしかれ重工業中心の工業化と農業の集団化がすすめられた。

エ　議会の第一党の党首が首相となり，党員を中心とした本格的な政党内閣がつくられた。

(岩手県)

[解答欄]

[解答]イ

[解説]
世界ではじめて社会権の規定が設けられたのは，第一次世界大戦後のドイツのワイマール憲法である。アはアメリカ，イはドイツ，ウはソ連，エはイギリスのことを述べている。

[問題]
　次の文章中のXに共通してあてはまる適切な内容を，下の[　　]の中から1つ選べ。
　ヨーロッパでは，第一次世界大戦前から女性の(　X　)を求める動きが見られた。大戦中には，男性が戦争に動員されたため労働力が不足し，女性がさかんに職場へ進出するようになった。これらを背景に，イギリスでは1918年に女性の(X)が実現した。
[団結権　プライバシーの権利　生命・身体の自由　参政権]
(青森県)
[解答欄]

[解答]参政権

[問題]
　第一次世界大戦の末期以降，欧米の多くの国では，女性の要求にこたえ，女性の参政権が認められるようになった。欧米の多くの国で，女性の要求を無視できなくなった理由を，第一次世界大戦が長期化したことによってつくられた戦争の体制に関連づけて，簡単に書け。
(静岡県)
[解答欄]

[解答]総力戦となり，工場での武器づくりなど，女性の力が必要とされたから。

【】アジアの民族運動

[三・一独立運動]

[問題]

日本の植民地支配に対して，第一次世界大戦後の 1919 年に朝鮮でおきた民族運動を何というか。

(佐賀県)

[解答欄]

[解答]三・一独立運動

[解説]

日本の植民地支配のもとに置かれていた朝鮮では，1919 年 3 月 1 日，ソウル(右の地図)で独立をめざす知識人や学生らが日本からの独立を宣言する文章を発表し，人々は「独立万歳」をさけんでデモ行進を行った。これに刺激されて独立運動は，朝鮮全土に広がった。これを三・一独立運動という。日本は軍隊を動員してこれを鎮圧した。

[三・一独立運動]
1919年，朝鮮で起こる

※入試出題頻度：「三・一独立運動○」

[問題]

三・一独立運動の運動のきっかけとなった日本からの独立宣言が発表された都市はどこか。地図のア～エから 1 つ選べ。

(長崎県)

[解答欄]

[解答]イ

[解説]

日本からの独立宣言が発表された都市はソウル(地図のイ)である。

[五・四運動]

[問題]

中国では，日本の二十一か条の要求の取り消しを求める運動が高まり，帝国主義の侵略に反対する国民運動へと発展した。これを何というか，次から選べ。

[二・二六事件　三・一独立運動　五・一五事件　五・四運動]

(鳥取県)

[解答欄]

[解答]五・四運動

[解説]

1919 年, ベルサイユ条約でドイツの中国における権益(けんえき)を日本が引き継ぐことが認められたため，中国の反日感情が爆発した。1919 年 5 月 4 日の北京(ぺきん)での学生集会をきっかけに，中国国内で反日・反帝国主義運動がおこった。

[五・四運動]
1919年, 中国の北京で起こる
→孫文が国民党を結成

これを五・四運動という。(行く行く(1919)排日(はいにち)五・四運動)
この運動をきっかけに，孫文(そんぶん)は中国国民党を結成し，1921 年に結成された中国共産党とともに，民族の独立と国家の統一をめざす運動をくり広げた。日本は，ベルサイユ条約で山東省のドイツの権益を引きついだが，ワシントン会議の結果，これを中国に返還し，中国との経済関係を重視する政策をとった。
※入試出題頻度：「五・四運動○」「孫文△」

[問題]

次の各問いに答えよ。

(1) パリ講和会議で日本の中国における権益の拡大が認められたことから，1919 年に中国で起こった運動を何というか。

(2) (1)の運動をきっかけに，中国国民党を結成し，民族の独立と国家の統一をめざす運動を行った中心人物は誰か。

(3) 1921 年に結成され，中国国民党と協力し，(1)の運動を行った党は何か。

(補充問題)

[解答欄]

(1)	(2)	(3)

[解答](1) 五・四運動　(2) 孫文　(3) 中国共産党

[問題]

五・四運動は，パリ講和会議で決定した内容に不満をもつ学生たちの抗議運動をきっかけとしておこった。この抗議運動がおこった都市は，右の地図のア～エのどれか。

(長崎県)

[解答欄]

[解答]ア

[解説]
1919 年 5 月 4 日の北京(図のア)での学生集会をきっかけに五・四運動が起きた。

[問題]
　次のア～ウは，第一次世界大戦中から大戦後にかけておきたことがらである。年代の古い順に並べ，符号で書け。
ア　ワシントン会議が開かれ，中国の独立と領土の保全を決めた。
イ　中国国内で，帝国主義の侵略に反対する五・四運動がおきた。
ウ　日本が，中国に二十一か条の要求を認めさせた。
(岐阜県)
[解答欄]

[解答]ウ→イ→ア
[解説]
ウ(二十一か条の要求 1915 年)→イ(五・四運動 1919 年)→ア(ワシントン会議 1921 年)

[インドの民族運動]
[問題]
　民族自決の考え方にもとづいて，世界の各地で独立運動が高まった。インドの独立運動の指導者だった右の資料の人物の名前を，カタカナで書け。

(長野県)
[解答欄]

[解答]ガンディー
[解説]
第一次世界大戦の当時，インドはイギリスの植民地であった。イギリスは多くのインド人兵士を戦場に動員する見返りとして，インドに自治をあたえると約束した。しかし，大戦後，イギリスはその約束を守らなかったどころか，民族運動を力でおさえこもうとした。そのため，ガンディーの指導によって，暴力的な手段には訴えないが，イギリスの支配には従わないという，非暴力・不服従の抵抗運動が高まった。

[インドの民族運動]
インド：イギリスの植民地
完全な自治を求める運動
ガンディー の 非暴力・不服従

※入試頻度：「イギリスの植民地△」「ガンディー◎：非暴力・不服従◎，自治を求める△」

[問題]

次の文章中の①～④に適語を入れよ。



右の写真の人物は，(　①　)の植民地支配に対抗してインドで活動した(　②　)である。(②)は，祖国の独立を目指して，非(　③　)・不(　④　)を提唱するとともに，国産品の使用をすすめるなどの運動を展開した。

(千葉県・沖縄県)

[解答欄]

①	②	③	④

[解答]① イギリス　② ガンディー　③ 暴力　④ 服従

[問題]

20 世紀の初め，インドでは，民族運動がさかんになった。この運動は，どのような考え方にもとづき，何を目指して行われたか。「ガンディー」「イギリス」の 2 つの語句を用いて書け。

(新潟県)

[解答欄]

[解答]ガンディーの非暴力・不服従の考えにもとづき，イギリスからの完全な自治をめざした。

【】大正デモクラシーの時代

【】大正デモクラシーと政党内閣の成立

[第一次護憲運動]

[問題]

次の文中の①，②の(　　)内からそれぞれ適語を選べ。

1912 年に①(藩閥／政党)に支持された桂太郎内閣が成立した。これに対して憲法に基づく政治を守ろうという②(自由民権／護憲)運動が起こり，民衆もこれを支持して運動が盛り上がったため，桂内閣は退陣に追いこまれた。

(福島県)

[解答欄]

①	②

[解答]① 藩閥　② 護憲

[解説]

日露戦争前後の日本では，藩閥(はんばつ)・官僚勢力と，立憲政友会(りっけんせいゆうかい)とが交互に政権を担当した。しかし 1912 年(大正元年)，立憲政友会の内閣がたおされ，藩閥の桂太郎(かつら)が首相になると，一部の議員や新聞，知識人は，藩閥をたおし，憲法に基づく政治を守ることをスローガンとする運動を起こした(第一次護憲(ごけん)運動)。民衆もこれを支持して運動が盛り上がったため，桂内閣は退陣(たいじん)した。

[第一次護憲運動]
↓
桂太郎内閣の退陣

※入試出題頻度：「第一次護憲運動○」「桂太郎○」

[問題]

第一次護憲運動が起こるきっかけの 1 つとなったできごとはどれか，次のア～エから最も適当なものを 1 つ選び，その記号を書け。

ア　立憲政友会の内閣が倒され，藩閥や官僚に支持された，桂太郎内閣が成立した。

イ　閣僚のほとんどが立憲政友会の党員で組織する，原敬内閣が成立した。

ウ　加藤高明内閣のもとで，満 25 歳以上の男子に選挙権を与える普通選挙法が成立した。

エ　近衛文麿内閣のもとで，議会の承認なしに労働力や物資を動員する国家総動員法が制定された。

(三重県)

[解答欄]

[解答]ア

[問題]

右の写真は，多くの民衆が桂太郎首相の退陣を求めて国会議事堂をとりまいているようすである。この運動を何というか。



(茨城県)

[解答欄]

[解答]第一次護憲運動

[問題]

次の文の①，②の(　　)内より適語を選べ。

陸軍出身の①(原敬／桂太郎)が藩閥の後押しを受けて 3 度目の組閣を行ったが，その政治姿勢に対して，②(憲法の制定／議会の重視)を求める運動がおこり，翌年内閣は総辞職した。

(千葉県)

[解答欄]

①	②

[解答]① 桂太郎　② 議会の重視

[大戦景気]

[問題]

右の資料は，1914 年と 1919 年の日本国内の生産総額を示したものである。資料の生産総額の変化にみられる経済状況を表す言葉として最も適切なものを，次の[　　]から 1 つ選べ。

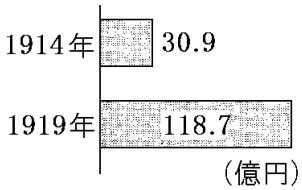

[高度経済成長　金融恐慌　世界恐慌　大戦景気]

(奈良県)

[解答欄]

[解答]大戦景気

[解説]

1914 年(大正 3 年)に第一次世界大戦が始まると，ヨーロッパ各国からアジアやアフリカなどへの輸出が減少したため，綿織物(めんおりもの)などの日本製品の輸出先(ゆしゅつさき)がアジア，アフリカに広がり，連合国への武器などの輸出も急増した。これによって，日本の輸出が急増して輸入(ゆにゅう)を上回る貿易黒字(ぼうえきくろじ)になり，好景気(こうけいき)になった(大戦景気(たいせんけいき))。

[大戦景気]
輸出が急増して輸入を上回る
欧米からの輸入がとだえた
→重化学工業が発達
工業生産額が農業生産額を上回る
成金

また，欧米からの輸入がとだえたため国内の重化学工業が発展し，工業国としての基礎が築かれた。第一次世界大戦が始まった1914年には，工業生産額は農業生産額とほぼ等しかったが，大戦景気により，工業生産額は農業生産額を大幅に上回るようになった。また，造船・海運・鉄鋼業などで，にわかに巨額の利益をあげた成金と呼ばれる人々が生まれた。しかし，戦争が終わってヨーロッパ各国がアジア市場にもどってくると，輸出は減少に転じた。

（成金の風刺画）

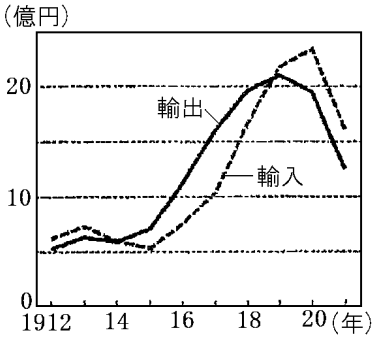

※入試出題頻度：「大戦景気○」「輸出が急増して輸入を上回る○」「欧米からの輸入がとだえたため重化学工業が発達△」「工業生産額が農業生産額を上回る△」「成金△」

[問題]

第一次世界大戦中の大戦景気について，次のア～オから間違っているものを１つ選べ。

ア　連合国への武器などの輸出が急増した。

イ　戦場となったヨーロッパにかわってアジア，アフリカ地域への輸出が増えたため，輸出額が輸入額を上回った。

ウ　工業生産高は大きくなったが，まだ農業生産高を越えることはなかった。

エ　重化学工業が発展し，工業国としての基礎が築かれた。

オ　造船･海運･鉄鋼業などでにわかに巨額の利益をあげた成金と呼ばれる人々が生まれた。

(補充問題)

[解答欄]

[解答]ウ

[問題]

次の文は，大戦景気について説明したものである。文中の①，②の(　　)内からそれぞれ適語を選べ。

第一次世界大戦が始まり日本は好景気となった。中国を中心としたアジアへの①(綿織物／鉄鉱石)の輸出が大きく増加した。さらに，欧米からの輸入がとだえたことにより，国内の②(重化学工業／農業)が発展し，国内の産業にしめる割合が大きくなった。

(岩手県)

[解答欄]

①	②

[解答]① 綿織物　② 重化学工業

[問題]

右の資料は，大戦景気によって，にわかに大金持ちになった「成金」を描いた風刺画である。大戦景気のころの日本の様子を述べた文として誤っているものを，次のア～エから１つ選び，記号で書け。

ア　機械の動力源として電力が普及した。

イ　薬品や化学肥料の国産化が進んだ。

ウ　家庭電化製品や自動車などが広まった。

エ　海運業や造船業が発展をとげた。

(山梨県)

[解答欄]

[解答]ウ

[解説]

ウは昭和(戦後)の高度経済成長期のことである。

[問題]

1914 年, オーストリアの皇太子夫妻がセルビアの青年に暗殺され, これをきっかけとして, 第一次世界大戦が始まった。日本も参戦し，日本経済は大きく変化したが，下の 2 つの資料からどのようなことがわかるか，簡潔に書け。

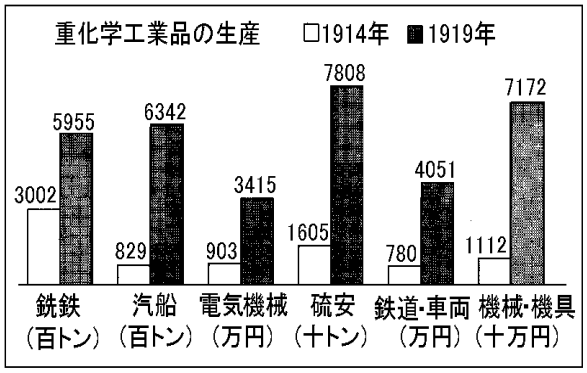

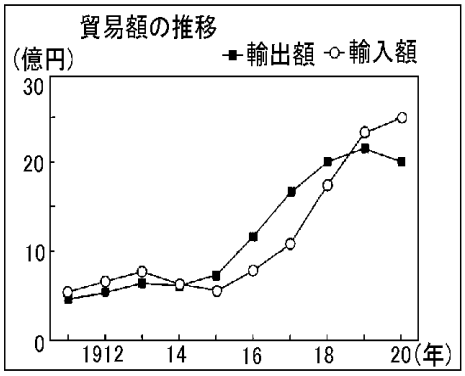

(佐賀県)

[解答欄]

[解答]重化学工業が飛躍的に成長し，貿易額が急増していることがわかる。また，大戦中は輸出額が輸入額を上回っていることもわかる。

[問題]

第一次世界大戦中，わが国は空前の好景気となった。このとき，わが国では貿易と産業の面でそれぞれ具体的にどのような変化が生じたか，簡潔に書け。

(栃木県)

[解答欄]

[解答]輸出が輸入を上回り，重化学工業が発展した。

[問題]

右のグラフは，大正時代のわが国の貿易額の推移を示したものである。このグラフを見ると，1914～1918年ごろは輸出超過であったことがわかる。それはなぜか。その理由を，当時の世界情勢とあわせて「商品」「アジア」の2つの言葉を用いて書け。

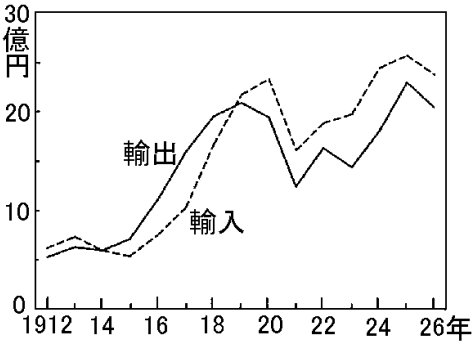

(香川県)

[解答欄]

[解答]第一次世界大戦によって，ヨーロッパ列強が後退したアジア市場への日本の商品の輸出が増加したため。

[問題]

第一次世界大戦の頃の日本の様子を述べた次の文X，Yについて，その正誤の組み合わせとして適切なものを，あとのア～エから1つ選んで，その符号を書け。

X　大戦中に，工業製品の輸出が拡大し，工業生産額が農業生産額を上回った。

Y　三井・三菱・住友は鉱山や工場の払い下げを受けて，財閥となった。

ア：X一正，Y一正　　イ：X一正，Y－誤

ウ：X一誤，Y一正　　エ：X－誤，Y一誤

(兵庫県)

[解答欄]

[解答]イ

[解説]

Xは大正時代の第一次世界大戦のころである。Yは明治時代である。

[米騒動]

[問題]

シベリア出兵がはじまった 1918 年に，米の値段が大幅に上昇したことを原因として，米の安売りを求める民衆の運動が富山県の漁村でおこり，全国に広がった。その影響で当時の内閣は退陣に追い込まれたが，この全国に広がった民衆の運動は何と呼ばれるか。その呼び名を書け。

(香川県)

[解答欄]

[解答]米騒動

[解説]

1918 年(大正 7 年)，シベリア出兵(しゅっぺい)を見こした米の買い占めによって，米は大幅な値上がりを続けた。富山県(とやまけん)の漁村の主婦たちが，米の県外への積み出しを実力で止め，安売りを求める事件が起きた。

[米騒動]
シベリア出兵を見こした米の買い占め
↓
米の値段がおおはばに上がる
↓
米騒動(富山県→全国)

新聞でこれが報道されると，全国各地で米の安売りを求めて民衆が集まり，米屋・金貸し・大商店におしかけるなどはげしい行動を起こした。これを米騒動(こめそうどう)という。(行く人は(1918)やる米騒動)

※入試出題頻度：「米騒動◎」「富山県(地図)△」「シベリア出兵を見こした米の買い占めによって，米の値段がおおはばに上がったため○」

[問題]

次の文中の①，②に適語を入れよ。

(　①　)革命の影響を防ぐために，シベリア出兵が行われた。この出兵を予想した商人が米を買い占めたため，米価が急上昇した。その結果，(　②　)とよばれる民衆の運動が起こった。

(群馬県)

[解答欄]

①	②

[解答]① ロシア　② 米騒動

[問題]

次の文章中の①～③に適語を入れよ。

ロシア革命の国内への影響をおそれたわが国の政府は，(　①　)へ軍隊を送った。(①)出兵の直前，一部の商人らの米の買い占めにより米価が急激に上がったため，(　②　)県で最初に米の安売りを求める運動がおこった。この運動が新聞で報道されると全国に広がり，各地で民衆が米屋や精米会社をおそう(　③　)へと発展した。

(北海道)

[解答欄]

①	②	③

[解答]① シベリア　② 富山　③ 米騒動

[問題]

米騒動がおきた原因を，「シベリア出兵」ということばを使い，簡単に説明せよ。

(北海道)

[解答欄]

[解答]シベリア出兵を見こした商人の米の買い占めによって米価が上昇したから。

[本格的政党内閣の成立]

[問題]

米騒動の後，はじめての本格的な政党内閣の首相になった，立憲政友会の総裁はだれか。答えよ。

(山口県)

[解答欄]

[解答]原敬

[解説]

1918年(大正7年)の米騒動(こめそうどう)の結果，藩閥の寺内正毅(てらうちまさたけ)内閣が倒れて，同年，立憲政友会(りっけんせいゆうかい)の原敬(はらたかし)(右の写真)を首相とする最初の本格的政党内閣ができた。本格的な政党内閣といわれるのは，大部分の大臣を衆議院の第一党である立憲政友会の党員が占めていたからである。原敬は「平民宰相(へいみんさいしょう)」として国民の人気が高かったが，普通選挙は時期尚早(じきしょうそう)として，選挙権の納税条件を引き下げただけであった。

[本格的政党内閣の成立]
1918年 米騒動
↓
原敬 内閣 (立憲政友会)
(最初の本格的政党内閣)
大部分の大臣を立憲政友会の党員が占めていたから

※入試出題頻度：「原敬◎」「立憲政友会○」「最初の本格的な政党内閣○」
「大部分の大臣を衆議院の第一党である立憲政友会の党員が占めていたから◎」

[問題]

陸軍出身の寺内正毅首相が辞職すると，1918 年 9 月，原敬が内閣を組織した。原内閣は，陸軍，海軍，外務の 3 大臣以外はすべて，衆議院第一党の(　X　)の党員で組織する，初めての本格的な政党内閣であった。原敬は，藩閥とは縁のない盛岡藩出身で，華族の爵位をもたず，軍人出身でもない初めての首相であることから，「平民宰相」とよばれた。文中の X に適する政党名を答えよ。

(埼玉県)

[解答欄]

[解答]立憲政友会

[問題]

次の文中の①の(　　)内より適語を選べ。また，②，③の(　　)内に適語を入れよ。

1918 年に起こった米騒動により寺内正毅内閣が退陣すると，衆議院第一党の①(立憲政友会／友愛会／立志社／立憲改進党)総裁の(　②　)を首相とし，陸軍，海軍，外務の 3 大臣以外はすべて立憲政友会の党員で組織する，本格的な(　③　)内閣が成立した。

(福島県改)

[解答欄]

①	②	③

[解答]① 立憲政友会　② 原敬　③ 政党

[問題]

原敬内閣には，それまでの内閣と比べて，どのような違いがあったか。その特色を書け。

(山形県)

[解答欄]

[解答]本格的な政党内閣であったこと。

[問題]

米騒動の直後，原敬を首相とする初の本格的な政党内閣が誕生した。原敬を首相とする内閣が，本格的な政党内閣とよばれる理由は何か，資料１および資料２から読み取れることをもとに，書け。

〈資料１〉原敬を首相とする初の政党内閣の構成（1918年）

	所属政党等
内閣総理大臣	立憲政友会
外務大臣	外務官僚
内務大臣	立憲政友会
大蔵大臣	立憲政友会
陸軍大臣	軍人
海軍大臣	軍人
司法大臣	立憲政友会
文部大臣	立憲政友会
農商務大臣	立憲政友会
逓信大臣	立憲政友会

（「日本議会史録２」，ほかから作成）

〈資料２〉原内閣が組閣されたときの衆議院の政党別議員数（1918年）

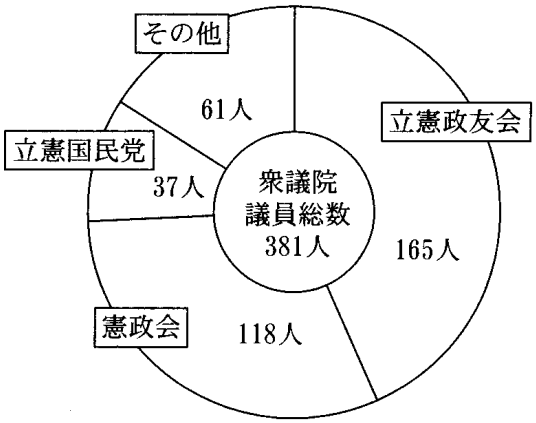

（「原敬と立憲政友会」，ほかから作成）

注：資料２は，原内閣が成立した後，最初に召集された第41会通常帝国議会における各会派所属議員数を示す。

(三重県)

[解答欄]

[解答]内閣を構成する大臣のうち，外務，陸軍，海軍以外の大臣を，衆議院の第一党である立憲政友会の党員が占めているから。

[問題]

次の資料は，「原敬日記」の一部である。資料をふまえて，原敬の行ったことに関する説明として，最も適切なものを，あとのア～エから 1 つ選び，記号で答えよ。

(資料)

しだいに選挙権を拡張していくことには，何の異議もない。また，いずれ国内情勢がふさわしい状況に至れば，いわゆる普通選挙の実施もそこまで心配することではない。しかし，階級制度打破というような，現在の社会組織に対して打撃を試みようとする考えから，納税資格を撤廃するというようなことは，非常に危険なことだ。この民衆の要求通りに現代の組織を破壊するような勢いを与えれば，実に国家の基礎を危険にするものである。

＊「原敬日記大正 9 年 2 月 20 日」より作成

ア　原敬は，選挙権を直接国税 15 円以上を納める 25 歳以上の男性に拡張した。

イ　原敬は，社会主義の動きに対して，重い刑罰を科する治安維持法を成立させた。

ウ　原敬は，米騒動で示された民衆の力を背景に，普通選挙法を成立させた。

エ　原敬は，階級制度打破という考えを不安に思い，納税資格を撤廃しなかった。

(鳥取県)

[解答欄]

[解答]エ

[解説]

アは誤り。アは明治時代の最初の選挙資格である。

イとウは誤り。普通選挙は 1925 年に加藤高明内閣によってつくられた。また，このとき，同時に治安維持法がつくられた。

エが正しい。普通選挙は時期尚早（じきしょうそう）として，選挙権の納税条件を引き下げただけであった。

[大正デモクラシーの思想]

[問題]

デモクラシーの理念が，わが国で高まりをみせた大正時代に，民本主義を唱え，普通選挙によって民意を政治に反映させることなどを主張した人物はだれか。

(香川県)

[解答欄]

[解答]吉野作造

[解説]

第一次護憲運動に始まり，政党政治の発展をみた大正時代は，民主主義(デモクラシー)が唱えられ，自由主義の風潮が高まった時期であった。このような風潮を大正デモクラシーという。吉野作造は民本主義を唱え，男子普通選挙や，政党が内閣を組織する政党内閣制の実現を説いた。美濃部達吉は「主権は国家にあり，天皇は国家の最高機関として憲法に従って統治する」という天皇機関説を唱えた。

[大正デモクラシー]
吉野作造 の 民本主義
美濃部達吉 の天皇機関説

吉野作造　美濃部達吉

※入試出題頻度：「大正デモクラシー◎」「吉野作造◎：民本主義○」
「美濃部達吉△：天皇機関説△」

[問題]

次の文の①，②の(　　)内より適語を選べ。

政治学者の吉野作造は，①(民本主義／民主主義)を唱えて，普通選挙によって民意を政治に反映することを主張した。また，憲法学者の②(原敬／美濃部達吉)は，議会中心の政治に即して憲法を解釈し，政党内閣制に理論的根拠をあたえた。このような考え方は，政党政治や普通選挙を実現し，民衆の思想や運動を発展させようとする風潮を育てた。

(茨城県)

[解答欄]

①	②

[解答]① 民本主義　② 美濃部達吉

[問題]

大正デモクラシーの風潮に影響をあたえた吉野作造が主張した考え方は何か。①[　　]から 1 つ選べ。②また，その考え方は，どのような制度や政治が実現することを目指したものか。右の資料を参考にして，簡潔に書け。

[民本主義　社会主義　帝国主義　三民主義]

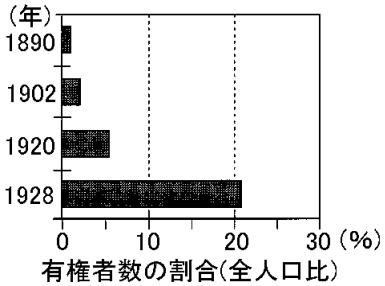

(奈良県)

[解答欄]

①	②

[解答]① 民本主義　② 普通選挙によって民意を政治に反映させること。

[問題]

普通選挙や政党政治をめざした大正時代の風潮をカタカナで何というか。

(愛媛県)

[解答欄]

[解答]大正デモクラシー

[問題]

次の文章中の①～④に適語を入れよ。

大正時代は，(　①　)がとなえられ，自由主義の風潮が高まった時期であったが，このような風潮を大正(①)という。(　②　)(人物名)は普通選挙によって民意を政治に反映させるべきとする(　③　)主義を唱え，美濃部達吉は「主権は国家にあり，天皇は国家の最高機関として憲法に従って統治する」という(　④　)説を唱えた。

(補充問題)

[解答欄]

①	②	③	④

[解答]① デモクラシー　② 吉野作造　③ 民本　④ 天皇機関

【】社会運動

[労働運動・農民運動]

[問題]

大正時代には，農村で，(　X　)料の引き下げを要求する(X)争議がおこった。文中の X にあてはまる語句を答えよ。

(福井県)

[解答欄]

[解答]小作

[解説]

第一次世界大戦中の経済の発展によって労働者が大幅に増加して，労働争議(ろうどうそうぎ)もしきりに起こった。1920 年(大正 9 年)には日本で最初のメーデーが行われ，その翌年には労働組合の全国組織として日本労働総同盟(にほんろうどうそうどうめい)が誕生した。

[労働運動･農民運動]
労働者の増加→労働争議
1920年に 最初のメーデー
農村では，小作争議
日本農民組合

農村でも，小作料の減額などを求める小作争議がしきりに起こり，1922 年に日本農民組合が結成され，農民運動を指導した。ロシア革命の影響で共産主義への関心が急速に広がると，1922 年には日本共産党が非合法に結成された。
※入試出題頻度：「メーデー△」「労働争議△」「小作争議○」「日本農民組合△」

[問題]
　米騒動がおこったころ，デモクラシーの風潮の中，日本国内にはさまざまな社会運動がおきている。次のア～エのうち，当時の社会運動の説明として，誤っているものを 1 つ選び，記号を書け。
ア　農村では，小作料の引き下げを要求する小作争議がひんぱんにおこり，小作人の権利を守る全国組織がつくられた。
イ　女性の参政権を求める運動が本格的にくり広げられるようになってきた。
ウ　労働者は団結して，第 1 回メーデーを開き，ストライキなどの労働争議をおこした。
エ　足尾銅山から流れ出る鉱毒により，田畑が被害を受け，公害反対運動がおこった。
(富山県)
[解答欄]

[解答]エ
[解説]
エは明治時代。

[問題]
　次の各問いに答えよ。
(1) 1920 年，最低賃金制や 8 時間労働制などを求めて，労働者の集会が初めて開かれた。この集会を何というか。カタカナで答えよ。
(2) 小作人が地主などに対して，小作料の減額を要求して起こした争議を何というか。
(補充問題)
[解答欄]

(1)	(2)

[解答](1) メーデー　(2) 小作争議

[問題]

次の文章中の①，②の(　　)内からそれぞれ適語を選べ。

第一次世界大戦後，小作争議が増加し，1922(大正 11)年に小作人の権利を守るための全国組織である①(立志社／全国水平社／日本農民組合)がつくられた。小作争議の他にもさまざまな社会運動が広がる中で，1925(大正 14)年に②(独占禁止法／地方自治法／治安維持法／国家総動員法)が制定されたことにより，その後，社会運動はさらなる制約を受けるようになっていった。

(大阪府)

[解答欄]

①	②

[解答]① 日本農民組合　② 治安維持法

[問題]

1920 年代，農村では小作争議が急増した。次の資料は，その頃の小作人による収入と支出の報告を要約したものの一部である。小作争議により，小作人が地主に求めたことは何か。資料を参考にして，簡潔に書け。

(資料)

・収入 85 円・支出 111 円

・支出の内訳：小作料 46 円　肥料・苗代 18 円　農具・その他 47 円

(奈良県)

[解答欄]

[解答]小作料を引き下げること。

[部落解放運動]

[問題]

差別を受けていた部落の人々は，差別からの解放，人間としての平等を実現させようと団結を強め，全国的な組織を結成した。この組織を何というか，その名称を書け。

(三重県)

[解答欄]

[解答]全国水平社

[解説]

差別からの解放を求めてきた被差別部落の人々は，1922 年(大正 11 年)に京都で全国水平社を結成し，「全国に散在する部落の人々よ，団結せよ。･･･人の世に熱あれ，人間に光あれ。」という水平社宣言を発表した。

[部落解放運動]
1922年 京都で 全国水平社 を結成
水平社宣言
「人の世に熱あれ，人間に光あれ。」

北海道では，差別に苦しむアイヌ民族の解放運動も起こり，1930(昭和 5)年には北海道アイヌ協会が結成され，アイヌ民族の社会的地位の向上を訴えた。

※入試出題頻度：「全国水平社○」「部落解放運動△」「人の世に熱あれ，人間に光あれ△」

[問題]

次は，部落解放を求めて結成された組織の宣言文の一部である。後の各問いに答えよ。

「全国に散在する(　①　)の人々よ，団結せよ。われわれが人間を尊敬することによって，自らを解放しようとする運動をおこしたのは当然である。･･･人の世に熱あれ，人間に(　②　)あれ。」

(1) この組織を何というか。

(2) 文中の①，②に適語を入れよ。

(3) 1930 年には北海道(　X　)協会が結成され，(X)民族の社会的地位の向上を訴えた。文中の X に適語を入れよ。

(補充問題)

[解答欄]

(1)	(2)①	②	(3)

[解答](1) 全国水平社　(2)① 部落　② 光　(3) アイヌ

[女性運動の台頭]

[問題]

次の文は女性解放をめざして結成された青鞜社の宣言文の一部である。この宣言文を記した人物名を書け。

元始，女性は実に太陽であった。真正の人であった。今，女性は月である。

(福島県)

[解答欄]

[解答]平塚らいてう

[解説]

大正時代，女性差別からの解放をめざす運動もさかんになり，平塚らいてうを中心にして青鞜社という女性だけで構成された文学団体が結成され，「元始，女性は実に太陽であった。今，女性は月である。･･･」という青鞜社の宣言が出された。平塚らいてうは，1920 年に，市川房枝らとともに新婦人協会を設立し，女性の地位向上を求める運動をくり広げた。

[女性運動]
平塚らいてうの青鞜社
「元始，女性は実に太陽であった。
今，女性は月である。･･･」
1920年 新婦人協会

※入試出題頻度：「平塚らいてう○」「青鞜社△」「新婦人協会△」

[問題]

次の文中の①～③に適語を入れよ。

大正時代，女性差別からの解放をめざす運動もさかんになった。(　①　)は，「元始，女性は実に太陽であった。今，女性は月である。･･･」という宣言を出して(　②　)社を結成した。(①)は，1920 年に，市川房枝らとともに(　③　)協会を設立し，女性の政治活動の自由，女子高等教育の拡充，男女共学，母性保護などを求める運動をくり広げた。

(和歌山県改)

[解答欄]

①	②	③

[解答]① 平塚らいてう　② 青鞜　③ 新婦人

[問題]

平塚らいてうは「元始，女性は実に太陽であった。」ではじまる雑誌「青鞜」を発刊し，(　　)を求める運動を行った。文中の(　　)にあてはまる言葉をかけ。

(熊本県)

[解答欄]

[解答]女性の地位向上

[問題]

青鞜社が発刊した雑誌「青鞜」に掲載された内容にあたるものを，次のア～エから１つ選び，記号で答えよ。

ア　我が国においては，日本国憲法に個人の尊重と法の下の平等がうたわれ男女平等の実現に向けた様々な取り組みが，国際社会における取組とも連動しつつ，…(略)

イ　元始，女性は実に太陽であった。真正の人であった。今，女性は月である。他によって生き，他の光によってかがやく，病人のように青白い顔の月である。

ウ　広ク会議ヲ興シ，万機公論ニ決スヘシ。

エ　人間は生まれながらにして，自由で平等な権利を持っている。

(鳥取県)

[解答欄]

[解答]イ

[社会運動全般]

[問題]

大正時代の社会運動についての記述として適切でないものを，次のア～エから１つ選べ。

ア　全国水平社が結成され差別からの解放をめざす運動が広がった。

イ　農村では，小作争議がひんぱんにおこり，小作人の権利を守る全国組織ができた。

ウ　政党は解散して，大政翼賛会に合流し，労働組合も解散させられた。

エ　平塚らいてうは，女性の政治参加獲得のための本格的な運動に取り組んだ。

(長野県)

[解答欄]

[解答]ウ

[解説]

ウは昭和の日中戦争時である。

[問題]

　大正デモクラシーの時期のできごととして正しくないものを，次のア～エから 1 つ選び，その記号を書け。

ア　新婦人協会が結成された。

イ　普通選挙法が成立した。

ウ　自由民権運動が起こった。

エ　日本最初のメーデーが開かれた。

(奈良県)

[解答欄]

[解答]ウ

[解説]

ウは明治時代の 1874 年に民撰議院設立建白書の提出に端を発した，国会開設を求める全国的な政治運動。

【】普通選挙法の成立

[関東大震災]

[問題]

1923 年 9 月 1 日に発生した東京，横浜を中心とする地域に壊滅的な被害を与えた災害を何というか。

(補充問題)

[解答欄]

[解答]関東大震災

[解説]

1923 年 9 月 1 日，関東大震災(かんとうだいしんさい)が起こり，死者・行方不明者が 11 万人に達した。多くの死者を出したのは地震によって火事が発生したためである。この混乱の中で,「井戸に毒を入れた」「暴動を起こす」などのデマが広まり，多くの朝鮮人，中国人，社会主義者が殺された。

1923年 関東大震災
火事→犠牲者が増えた。
デマによる朝鮮人等の虐殺

※入試出題頻度：「関東大震災△」

[普通選挙法の制定]

[問題]

衆議院議員総選挙のあった 1924 年と 1928 年を比べると，有権者数が約 4 倍に増加している。その理由は，この間に(X)法が成立し，納める税の額に関係なく 25 歳以上の男子に選挙権が与えられたためである。文中の X に適する語句を答えよ。

総選挙の年	有権者数(人)
1924	3288405
1928	12405056

(山梨県)

[解答欄]

[解答]普通選挙

[解説]

原敬(はらたかし)内閣の後,ふたたび非政党内閣が続いたが，1924 年(大正 13 年)，政党勢力は，男子普通選挙の実施などを主張して第二次護憲運動を起こし，憲政会(けんせいかい)の加藤高明(かとうたかあき)内閣が成立した。1925 年(大正 14 年),加藤高明内閣は,普通選挙法(ふつうせんきょほう)を成立させた。

[普通選挙法の制定]
1924年 第二次護憲運動→加藤高明内閣
1925年 普通選挙法
満25歳以上の男子に選挙権
憲政の常道

普通選挙法は，それまでの納税額による選挙権の制限を撤廃(てっぱい)したところに特徴があり，満 25 歳以上の男子に選挙権が与えられた。(普選は制限解く符号(1925))

加藤内閣以後，1932 年に五・一五事件で犬養毅(いぬかいつよし)内閣がたおれるまでの 8 年間，憲政会(けんせいかい)(後の立憲民政党)と立憲政友会とが交互に政権を担当した。二大政党の党首が内閣を組織するこの慣例(かんれい)を，「憲政(けんせい)の常道(じょうどう)」という。

※入試出題頻度：「第二次護憲運動△」「加藤高明○」「憲政会△」「普通選挙法○」

「満 25 歳以上の男子◎：納税額による制限がなくなった○」「憲政の常道△」

[問題]

1925 年に成立した普通選挙法における有権者の資格について，正しく説明しているのはどれか。

ア　直接国税の納税額にかかわらず，20 歳以上の男女に選挙権が与えられた。

イ　直接国税の納税額にかかわらず，25 歳以上の男性に選挙権が与えられた。

ウ　直接国税の納税額 3 円以上で，25 歳以上の男性に選挙権が与えられた。

エ　直接国税の納税額 10 円以上で，25 歳以上の男性に選挙権が与えられた。

(栃木県)

[解答欄]

[解答]イ

[問題]

次の文章中の①，②の(　　)内からそれぞれ適語を選べ。

1925 年に成立した普通選挙法によって，納税額による資格の制限が撤廃され，①(20／25)歳以上の②(男子／男女)に選挙権が与えられた。

(高知県)

[解答欄]

①	②

[解答]① 25　② 男子

[問題]

1925 年に普通選挙法が制定されたが，普通選挙制の実施による最初の総選挙のときの有権者数は，1920 年の総選挙のときの有権者数に比べ約 4 倍に増えた。その理由を「納税額」「25 歳以上」の 2 つの言葉を用いて，簡単に書け。

(愛媛県)

[解答欄]

[解答]納税額による制限がなくなり，25 歳以上のすべての男子が選挙権を持つことになったから。

[問題]

次のグラフのように 1928 年の衆議院議員総選挙で有権者の割合が高まったのは，1925 年に選挙法が改正されたからである。この選挙法改正の背景として最も適当なものを，ア～エの中から 1 つ選べ。

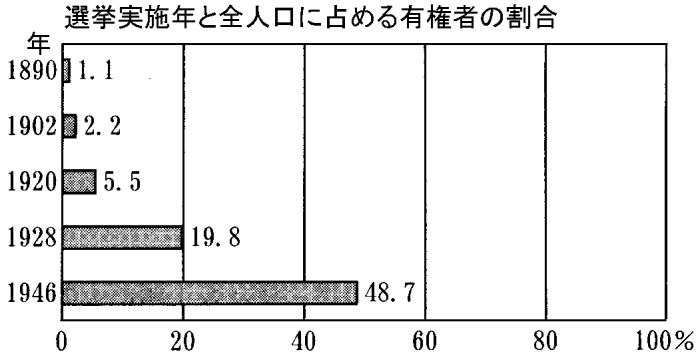

ア　全国に広がった憲政擁護運動によって桂太郎内閣が退陣に追いこまれた。

イ　政党勢力による第二次護憲運動によって加藤高明内閣が成立した。

ウ　田中正造が足尾銅山の鉱毒にかかわる活動をさかんに行っていた。

エ　アメリカからはじまった恐慌が世界中に広がった。

(福島県)

[解答欄]

[解答]イ

[解説]

アは 1913 年，イは 1924 年，ウは 1890～1901 年ごろ，エは 1929 年。

[問題]

次の各問いに答えよ。

(1) 1925 年，選挙資格における財産上の制限を撤廃する法律が成立した。何という法律か。

(2) (1)の法律によって，選挙権の資格はどのようになったか。「満～歳以上の･･･」という形で答えよ。

(3) (1)の法律が制定されたときの内閣総理大臣は誰か。

(4) (3)の内閣総理大臣が所属した政党名を答えよ。

(補充問題)

[解答欄]

(1)	(2)	(3)
(4)		

[解答](1) 普通選挙法　(2) 満 25 歳以上の男子　(3) 加藤高明　(4) 憲政会

[治安維持法]

[問題]

第二次護憲運動後，25 歳以上の男子に選挙権をあたえる普通選挙法が制定されたが，同時に，ある法律が制定され，共産主義に対する取りしまりが強められた。この法律名を書け。(青森県)

[解答欄]

[解答]治安維持法

[解説]

普通選挙法の実施によって共産主義者が勢力をのばすことを恐れた政府は，同時に，治安維持法(ちあんいじほう)を制定して，天皇を中心とする国の組織や私有財産制度の廃止をめざす共産主義の取りしまりを強化した。(いく人殺(1925)した治安維持法)

[治安維持法]
共産主義の取りしまり

※入試出題頻度：「治安維持法◎」「共産主義の取りしまり△」

[問題]

1925 年に，日本で普通選挙法が成立した。①その同じ年に日本で制定され，第二次世界大戦直後に廃止された法律の名称を答えよ。②また，その法律が制定された目的として，適切なものを，次のア～エから 1 つ選び，記号で答えよ。

ア　共産主義の運動の活発化を取りしまるため。

イ　労働者の団結権や争議権を認めるため。

ウ　国民を強制的に戦争に動員できるようにするため。

エ　満 20 歳になった男子に兵役を義務づけるため。

(鳥取県)

[解答欄]

①	②

[解答]① 治安維持法　② ア

[問題]

　共産主義をとりしまる治安維持法が，普通選挙法と同時に制定されたのはなぜか。簡潔に書け。

(佐賀県)

[解答欄]

[解答]納税額による制限がなくなって貧しい人も選挙権を得たため，労働者・農民の政党から当選者が出ることで，共産主義が広がることを警戒したから。

[問題]

　大正時代にあった次のア～ウのできごとを，古い順に並べて記号で答えよ。

ア　男子普通選挙の実現

イ　第一次護憲運動

ウ　本格的な政党内閣の成立

(島根県)

[解答欄]

[解答]イ→ウ→ア

[解説]

イ(第一次護憲運動 1912 年)→ウ(原敬内閣 1918 年)→ア(男子普通選挙 1925 年)

[問題]

　次のア～エを古い順に並べかえ，符号で書け。

ア　本格的な政党内閣である，原敬内閣が成立した。

イ　シベリア出兵による米の買い占めから米価が急上昇し，米騒動が起こった。

ウ　第一次護憲運動により，桂太郎内閣が総辞職に追いこまれた。

エ　加藤高明内閣は治安維持法を制定し，共産主義に対する取りしまりを強めた。

(大分県)

[解答欄]

[解答]ウ→イ→ア→エ

[解説]

ウ(第一次護憲運動 1912 年)→イ(米騒動 1918 年)→ア(原敬内閣 1918 年)
→エ(治安維持法 1925 年)

【】大正時代の文化

[文化・生活]

[問題]

　大正時代の日本で開始されたものを次の[　　]から１つ選べ。

[ラジオ放送　義務教育　太陽暦　郵便制度]

(福井県)

[解答欄]

[解答]ラジオ放送

[解説]

新聞では発行部数が100万部をこえるものも現れるようになった。また，週刊誌や月刊の総合雑誌の発行部数も急速にのび,1冊1円の文学全集(円本)や，さらに低価格の岩波文庫などが出版され，文化の大衆化に大きな役割を果たした。さらに，1925年に始まったラジオ放送は,またたく間に全国に普及した。ガス，電気，水道などの普及によって，都市では，西洋風の生活様式が流行した。住宅の一部に西洋間を設けガラス窓を採用した文化住宅(ぶんかじゅうたく)が流行し，カレーライス，トンカツ，コロッケなどの洋食(ようしょく)が広まった。洋服は，まず男性に普及したが，バスガールや電話交換手(でんわこうかんしゅ)など，働く女性が増加し，女性にも広がり始めた。

[大正時代の文化･生活]
ラジオ放送の開始
100万部をこえる新聞，雑誌，円本
文化住宅，電気ガス水道の普及
洋食，洋服
女性の進出：バスガールや電話交換手

※入試出題頻度：「ラジオ放送の開始○」「新聞・雑誌・円本△」「電気ガス水道の普及△」「文化住宅△」「洋食△」「女性の進出(バスガールや電話交換手)△」

[問題]

　大正時代の社会の様子を表した文として適切でないものを，次のア～エから１つ選べ。

ア　ラジオ放送が始まり，スポーツや映画などの娯楽が人々の間でさかんになった。

イ　女性の社会進出が進み，教師やバスの車掌などの職業につく女性の数が増えた。

ウ　冷蔵庫や洗濯機，テレビなどの家庭電化製品が急速に普及し，自家用車も増加した。

エ　大都市の郊外には洋風の文化住宅が建てられコロッケなどの洋風料理が普及した。

(山形県)

[解答欄]

[解答]ウ

[解説]

ウは戦後(昭和時代)の高度成長期の様子である。

[問題]

大正時代に，日本の都市を中心に広まったものとして適当でないものを，次のア～エから1つ選んで記号で答えよ。

ア 文化住宅　　イ カレーライス　　ウ ラジオ　　エ テレビ

(島根県)

[解答欄]

[解答]エ

[問題]

次の文中の①～④に適語を入れよ

・1925年に始まった(　①　)放送は，またたく間に全国に普及した。また，100万部をこえる新聞があらわれた。

・都市では，西洋風の生活様式が流行した。住宅の一部に西洋間を設けガラス窓を採用した(　②　)住宅が流行し，カレーライス，トンカツ，コロッケなどの(　③　)が広まった。

・バスガールや電話交換手など，新しい職業への(　④　)の進出も進んだ。

(補充問題)

[解答欄]

①	②	③	④

[解答]① ラジオ　② 文化　③ 洋食　④ 女性

[問題]

日本で大正時代に文化の大衆化が進んだ要因として考えられることを1つ書け。

(山形県)

[解答欄]

[解答]ラジオ放送の開始(新聞の普及)

[文学]

[問題]

「羅生門」「地獄変」「蜘蛛の糸」などのすぐれた文学作品を書いた人物は誰か。

(補充問題)

[解答欄]

[解答]芥川龍之介

[解説]

右図の芥川龍之介(あくたがわりゅうのすけ)は，「羅生門(らしょうもん)」「地獄変(じごくへん)」「蜘蛛(くも)の糸」「鼻」などの知性的な作品で人々に新鮮な印象をあたえた。白樺派(しらかば)の志賀直哉(しがなおや)は人道主義の理想をかかげ，武者小路実篤(むしゃのこうじさねあつ)らとともに雑誌「白樺(しらかば)」を創刊(そうかん)した。

(芥川龍之介)

[大正の文学]
芥川龍之介「羅生門」
志賀直哉：白樺派
小林多喜二：プロレタリア文学

また，小林多喜二(たきじ)(「蟹工船(かにこうせん)」)などのプロレタリア文学もおこった。

※入試出題頻度：「芥川龍之介○」「志賀直哉△：白樺派△」「小林多喜二○：プロレタリア文学△」

[問題]

次の各問いに答えよ。

(1) 知性的な作品で人々に新鮮な印象をあたえた，右の写真の人物の名を答えよ。

(2) 「蟹工船」などの作品を発表し，プロレタリア文学を推し進めた人物の名を答えよ。

(3) 人道主義の理想をかかげ，武者小路実篤らとともに雑誌「白樺」を創刊した人物は誰か。

(補充問題)

[解答欄]

(1)	(2)	(3)

[解答](1) 芥川龍之介　(2) 小林多喜二　(3) 志賀直哉

[その他の分野]

[問題]

　次の選択肢のうち，人物とその人物に関係する内容が適切でないものを１つ選び記号で書け。

ア　西田幾多郎－哲学

イ　竹久夢二－美術

ウ　岸田劉生－洋楽

エ　山田耕筰－職業オーケストラ

(補充問題)

[解答欄]

[解答]ウ

[解説]

大正時代，学問では，東洋と西洋の哲学(てつがく)を統一しようとした哲学者の西田幾多郎(にしだきたろう)や，民芸(みんげい)運動を起こした柳宗悦(やなぎむねよし)など，独創的(どくそうてき)な研究者が現れた。美術では，洋画の岸田劉生(きしだりゅうせい)や竹久夢二(たけひさゆめじ)など，音楽では，多くの童謡(どうよう)を作った野口雨情(のぐちうじょう)や，日本初の職業オーケストラを作った洋楽の山田耕筰(やまだこうさく)，邦楽の宮城道雄(みやぎみちお)などが活躍した。

[その他の分野]
学問：西田幾多郎(哲学)
美術：岸田劉生，竹久夢二
音楽：山田耕筰(職業オーケストラ)

※出題頻度：「西田幾多郎(哲学)△」「岸田劉生(美術)△」「竹久夢二(美術)△」「山田耕筰(職業オーケストラ)△」

【FdData 入試版のご案内】
詳細は，[FdData 入試ホームページ]に掲載（[Shift]＋左クリック→新規ウィンドウ）
姉妹品：[FdData 中間期末ホームページ]（[Shift]＋左クリック→新規ウィンドウ）

◆印刷・編集
この PDF ファイルは，FdData 入試を PDF 形式に変換したサンプルで，印刷はできないように設定しております。製品版の FdData 入試は Windows パソコン用のマイクロソフト Word(Office)の文書ファイルで，印刷・編集を自由に行うことができます。

◆FdData 入試の特徴
FdData 入試は，公立高校入試問題の全傾向を網羅することを基本方針に編集したワープロデータ(Word 文書)です。 入試理科・入試社会ともに，過去に出題された公立高校入試の問題をいったんばらばらに分解して，細かい単元ごとに再編集して作成しております。

◆サンプル版と製品版の違い
ホームページ上に掲載しておりますサンプルは，製品の Word 文書を PDF ファイルに変換したもので印刷や編集はできませんが，製品の全内容を掲載しており，どなたでも自由に閲覧できます。問題を「目で解く」だけでもある程度の効果をあげることができます。
しかし，FdData 入試がその本来の力を発揮するのは印刷や編集ができる製品版においてです。また，製品版は，すぐ印刷して使える「問題解答分離形式」，編集に適した「問題解答一体形式」，暗記分野で効果を発揮する「一問一答形式」の 3 形式を含んでいますので，目的に応じて活用することができます。
※FdData 入試の特徴(QandA 方式)（[Shift]＋左クリック→新規ウィンドウ）

◆FdData 入試製品版(Word 版)の価格(消費税込み)
※以下のリンクは[Shift]キーをおしながら左クリックすると，新規ウィンドウが開きます
社会地理，社会歴史，社会公民：各 6,800 円(統合版は 16,200 円)（[Shift]＋左クリック）
理科 1 年，理科 2 年，理科 3 年：各 6,800 円(統合版は 16,200 円)（[Shift]＋左クリック）
※Windows パソコンにマイクロソフト Word がインストールされていることが必要です。
(Mac の場合はお電話でお問い合わせください)。

◆ご注文は，メール(info2@fdtext.com)，または電話(092-811-0960)で承っております。
※注文→インストール→編集･印刷の流れ （[Shift]＋左クリック）
※注文メール記入例 （[Shift]＋左クリック）

【Fd 教材開発】 Mail： info2@fdtext.com Tel ：092-811-0960