【】国名・地形

[国名]

[問題 1]

次の各問いに答えよ。

(1) 地図中の A～O の国名を答えよ。

(2) 地図中の A，C，K の首都名を答えよ。

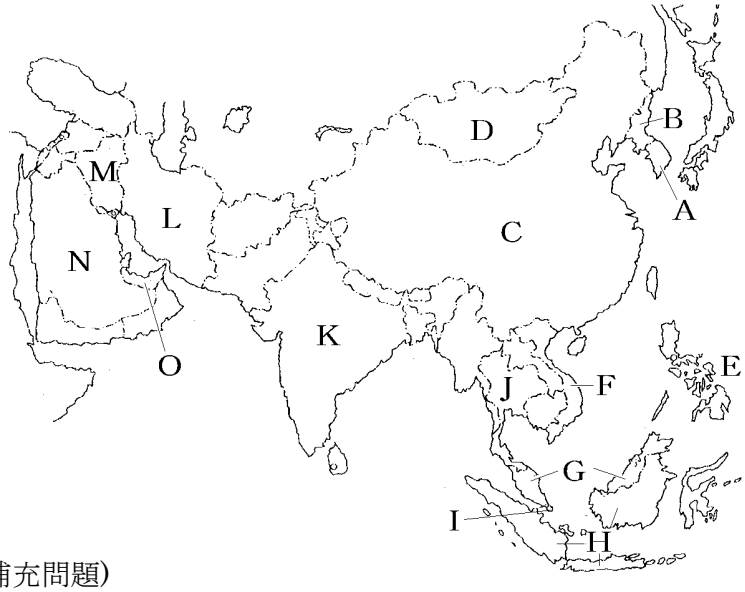

(補充問題)

[問題 2]

次の資料はアジア州を細かく区分している。A～E の地域名を答えよ。

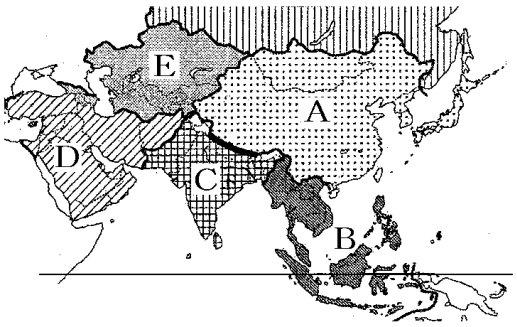

(補充問題)

[地形]

[問題 3]

次の地図の A の山脈，B の高原，C～G の河川，H の半島，I の海洋の名称を答えよ。

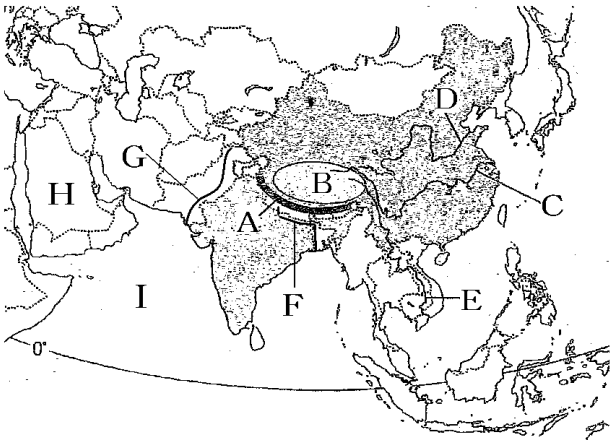

(補充問題)

[問題 4]

図に表したア～エの緯線のうち，赤道にあたるものを 1 つ選び，その記号を書け。

(和歌山県)

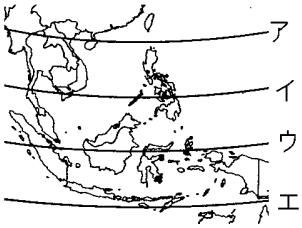

[問題 5]

資料の▒の地域は高くけわしい山々がつらなる造山帯に属する。大地の動きがさかんで，しばしば(　X　)が起きる。火山活動も活発で，噴火による災害がもたらされることもある。文中の X に適語を入れよ。

(福井県)

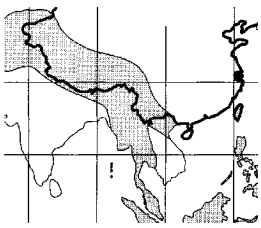

【】気候

[季節風(モンスーン)]

[問題 6]

ASEAN 諸国の米の生産に，大きな影響を与えている風の名称を書け。

(宮城県)

[問題 7]

インドに雨をもたらす夏の季節風(モンスーン)の風向は，右の略地図中にア～エで示した矢印のうちのどれか。1 つ選んで，その記号を書け。

(香川県)

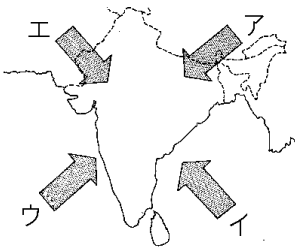

[問題 8]

次の文中の①～③に適語を入れよ。

アジアの東部と南部では夏と冬で風のふく向きが逆になる。この風を(　①　)という。インドシナ半島やインド半島で，(①)の影響によって雨がよく降る季節を(　②　)といい，雨があまり降らない季節を(　③　)という。

(補充問題)

[問題 9]

次の文中の①の(　　)の中から適当なものを１つ選べ。また，②に当てはまる山脈名を書け。

右図の X の都市周辺では，夏に①(インド洋／大西洋／チベット高原)からの湿った季節風が，▨で示した(　②　)山脈にぶつかり，大量の雨を降らせる。

(熊本県)

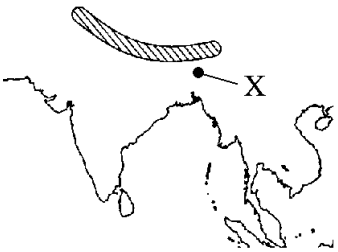

[問題 10]

インドのある地域では雨季には南西の季節風が吹く。下線の季節風について述べた文として適切なものを，ア～エから１つ選べ。

ア　南西から北東に向かってふく風で，風向きは年中一定である。

イ　北東から南西に向かってふく風で，風向きは年中一定である。

ウ　南西から北東に向かってふく風で，乾季は雨季と風向きが変わる。

エ　北東から南西に向かってふく風で，乾季は雨季と風向きが変わる。

(岐阜県)

[問題 11]

モンスーンについて，正しく説明しているものを，次のア～エから１つ選べ。

ア　台風が発生すると吹く，強い風。

イ　１年を通して西から東へ吹く風。

ウ　冷害の原因となる，夏に北東から吹く冷たい風。

エ　季節によって向きが変わり，夏は海洋から，冬は大陸から吹く風。

(滋賀県)

[雨温図など]

[問題 12]

グラフの①～③は，地図中のいずれかの都市の気温と降水量を示している。それぞれあてはまる都市名を書け。

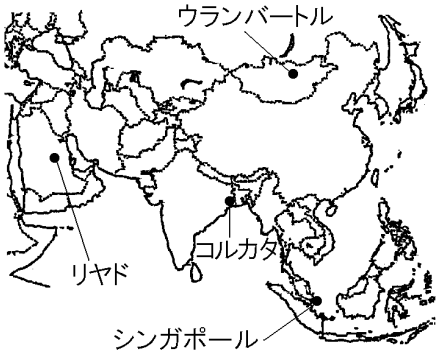

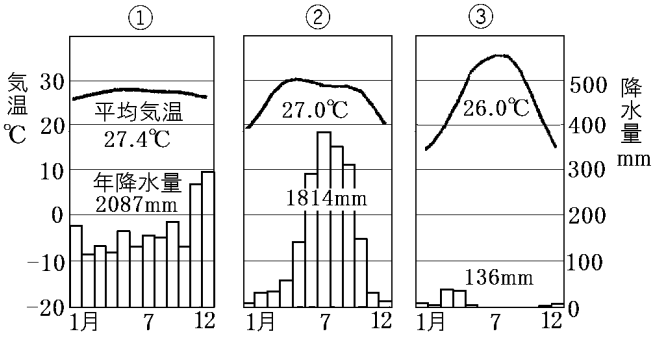

(補充問題)

[問題 13]

地図中の A～D の 4 つの都市のうち，C の都市の雨温図を，次のア～エから 1 つ選んで記号で書け。

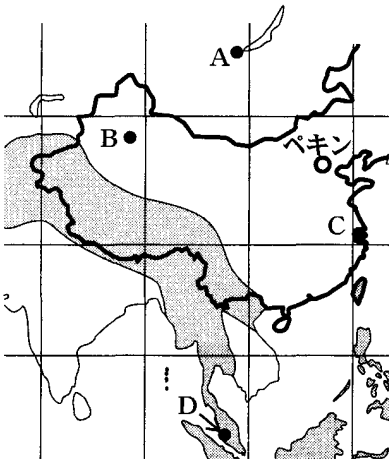

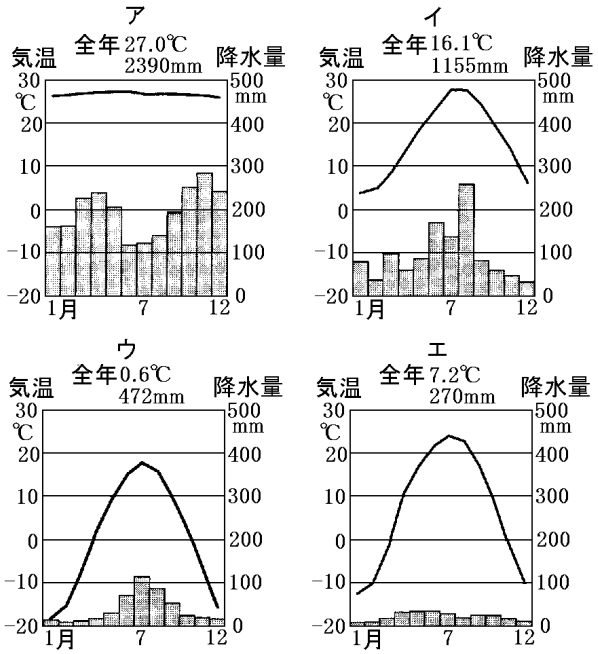

(福井県)

[問題 14]

次の各問いに答えよ。

(1) 地図中のア～エのうちから，赤道を示す緯線を選び，記号で答えよ。

(2) 地図中 X の都市の雨温図をア～エから 1 つ選び，記号で答えよ。

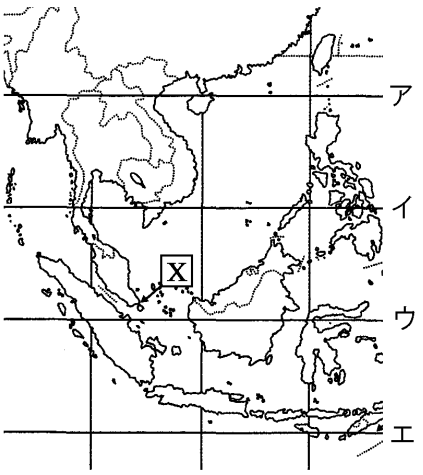

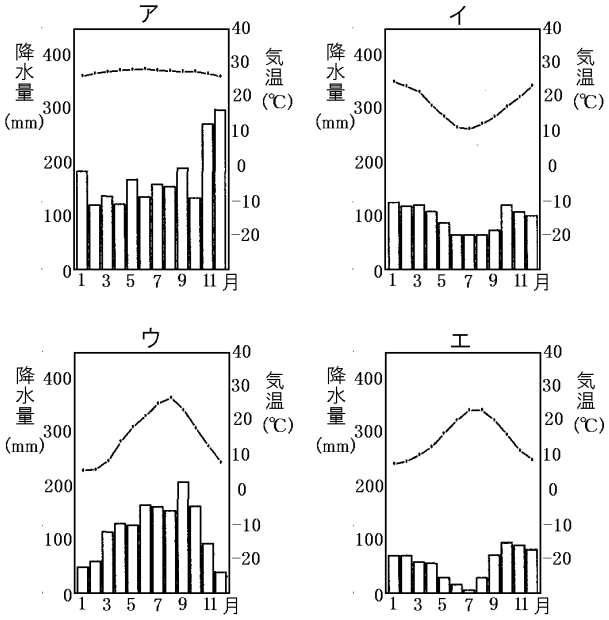

(沖縄県)

[問題 15]

右のグラフは，バンコクとシンガポールの雨温図である。また，下の文は，バンコクとシンガポールの気候について述べたものである。①には気候帯の名称を，②にはバンコクの１年間の降水量の変化の特徴を表す内容をそれぞれ書け。

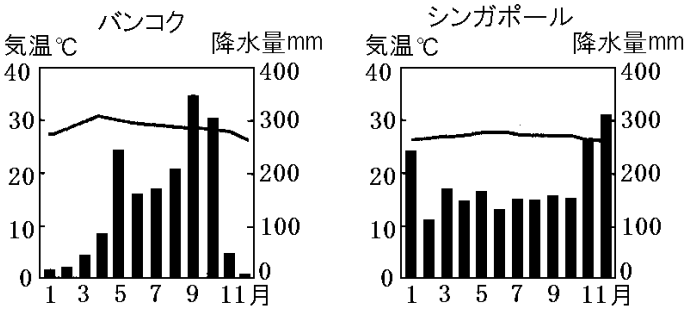

バンコクとシンガポールは，ともに(　①　)に属し，１年を通して気温は高く季節の変化がみられない。バンコクは，シンガポールに比べて(　　②　　)という特徴がある。

(福島県)

[問題 16]

右の資料は，バンコクの気温と降水量をあらわしたグラフである。資料をみて，バンコクの気候として，最も適切なものを，次の[　　]から１つ選べ。

[地中海性気候　温帯湿潤気候　ステップ気候
　サバナ気候]

(宮城県)

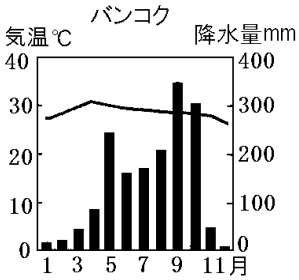

[問題 17]

右の略地図中の◎は，X 国の首都の位置を示している。X 国の首都の雨温図を表したグラフとして適切なものを，次のア～エから１つ選べ。

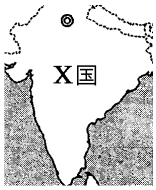

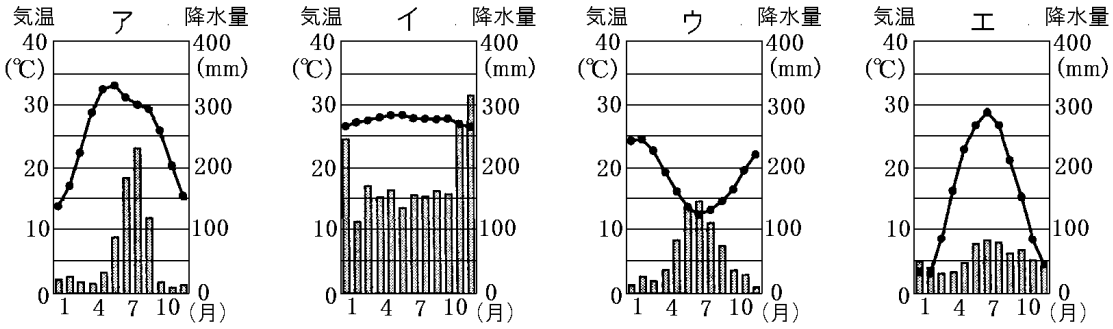

(山形県)

【】東アジア

[中国の人口]

[問題 18]

中国で，つい最近まで行われていた 1 夫婦に子どもは 1 人という政策を何というか。

(沖縄県)

[問題 19]

中国では，政府が 1970 年代末から「一人っ子政策」を進めた。「一人っ子政策」の目的を，「人口」ということばを使って簡潔に説明せよ。

(北海道)

[問題 20]

右の資料は，インドと中国における人口の推移を示している。①ア，イから中国のグラフを選べ。②また，そのように判断した理由を，中国が行った人口政策に着目し，簡潔に書け。

(群馬県)

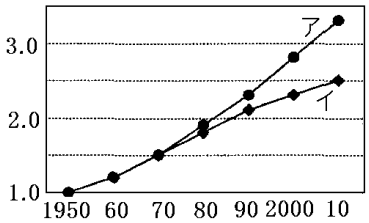

※ 1950年における，インド，中国のそれぞれの人口を1として示している

[問題 21]

次の文は，中国，インドのいずれかの国の人口政策について説明したものであり，ア～ウは，2015 年における中国，インドおよび日本のいずれかの人口ピラミッドである。①文の説明にあてはまる国を中国，インドから，②さらにその国の人口ピラミッドをア～ウから，それぞれ 1 つずつ選べ。

人口増加をおさえるために 1979 年から「一人っ子政策」がとられたが，様々な課題が生じたために，現在ではこの政策が見直され，2016 年以降すべての夫婦が 2 人まで子どもを育てられるようになった。

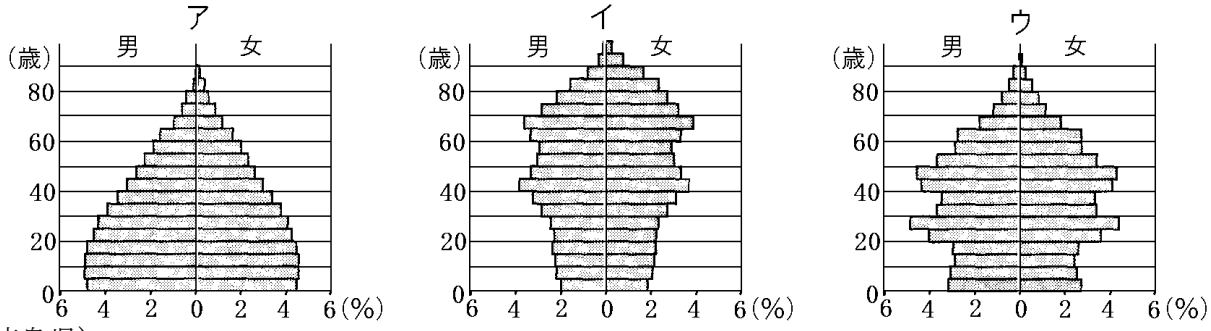

(徳島県)

[問題 22]

右の図は，中国の年齢別人口構成について，1980 年から 2020 年までの推移と，2030 年から 2050 年までの将来推計を示したものである。中国の年齢別人口構成の変化が,「世界の工場」とよばれるようになった中国の製造業に与える影響として今後どのようなことが考えられるか，図から読み取れることを根拠として書け。

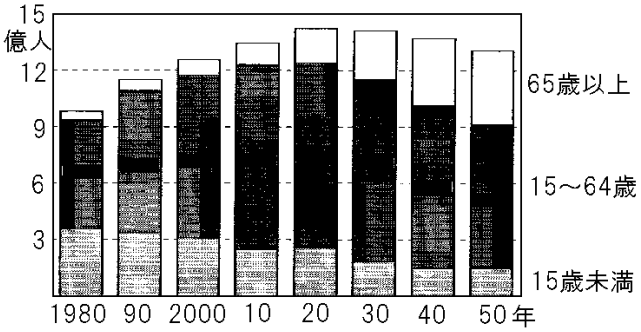

(熊本県)

[問題 23]

中国の人口は何億人か。次から選べ。

[6.3 億人　10.3 億人　14.3 億人　26.3 億人]

(補充問題)

[多民族国家]

[問題 24]

中国の人口の約 9 割は，(　X　)族(民族)で，約 1 割が少数民族である。文中の X に適語を入れよ。

(熊本県)

[問題 25]

タイなど東南アジアに多くくらす，現地の国籍をとって定住した中国人を何というか。

(福井県)

[問題 26]

中国の民族について，次の各問いに答えよ。

(1) 中国の全人口の 9 割をしめている民族は何か。

(2) (1)の民族以外(55 の民族)をまとめて何というか。

(3) (2)は中国の東部と西部のどちらに多く住んでいるか。

(4) 東南アジアなどに移り住み，現地の国籍をとって定着した中国系の人々を何というか。

(補充問題)

[問題 27]

右の地図は，中国の民族のおもな分布を示したものである。▒で示した民族の多くが信仰している宗教を何というか。答えよ。

(山口県)

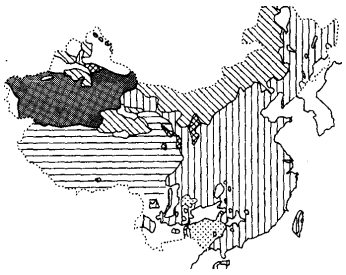

[中国の農業]

[問題 28]

右図の X の地域で主に栽培されている農産物名を答えよ。

(沖縄県)

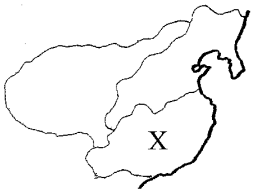

[問題 29]

次のア～エは図に示す①～④のいずれかの地域の様子を述べたものである。このうち，③の地域について述べた文を，次のア～エの中から 1 つ選び，記号を書け。

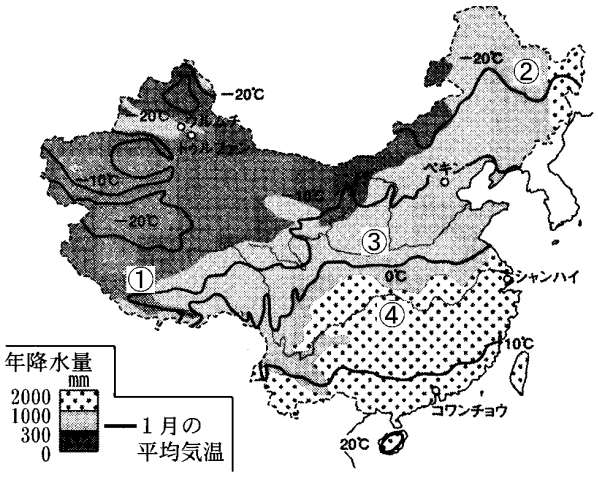

ア　広大な高原地帯が広がっており，人口密度が低い。雨が極端に少なく，遊牧が行われている。

イ　日本と同じく四季がはっきりしており，雨が多いので米の栽培がさかんである。

ウ　広大な平野が広がっており，冬の寒さが厳しい。石炭や鉄鉱石などの資源の開発が早くから行われてきた。

エ　雨が少なく小麦の栽培がさかんな地域で，小麦を使ったメンやマントウなどが食べられている。古代王朝の中心でもあった。

(佐賀県)

[問題 30]

右の略地図中の●で示された地域は，中国が世界第１位の生産量をあげている，ある穀物の主要な生産地域を表している。この穀物の説明として適切なものを，次のア～エの中から１つ選び，その記号を書け。

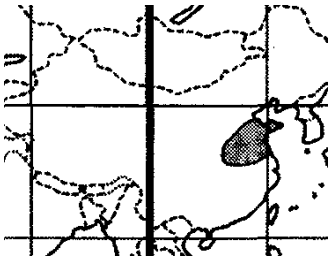

ア　アジア州で生産されるほか，ブラジルではバイオ燃料の原料として盛んに生産されている。

イ　アジア州とヨーロッパ州で約８割が生産され，世界各地で人々の主食の原料となっている。

ウ　アジア州や南アメリカ州などの熱帯地域で，輸出作物として大規模に生産されている。

エ　アジア州の降水量が多い平野部を中心として，世界の約９割が生産されている。

(和歌山県)

[問題 31]

次の文は，中国における農業の様子について述べたものである。文中の①～③に適する語句を下の[　　]からそれぞれ選べ。

東北・華北など降水量の少ない北部では(　①　)が中心，華中・華南など降水量の多い南部では(　②　)が中心，乾燥した西部(内陸部)では(　③　)が中心となっている。

[稲作　畑作　牧畜]

(千葉県)

[問題 32]

次の文は，地図中のペキンからホンコンへ鉄道で旅行したえりかさんが書いたものである。資料はそのルートを示している。文中の①～④の(　　)内からそれぞれ適語を選べ。

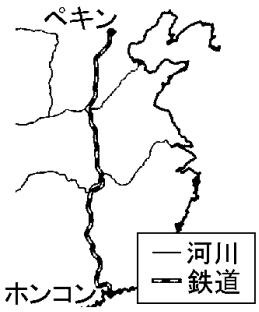

出発した当初は，周辺の農地ではパンやめん類の主原料となる穀物の①(米／小麦)が栽培されていた。その後，中国の二大河川のうちの１つである②(黄河／長江)を渡った。さらに，もう１つの③(黄河／長江)を渡って南下を続けると，農地では穀物の④(米／小麦)が栽培されていた。

(高知県)

[問題 33]

図Ⅰは，中国の行政地区ごとに，生産量が最も多い穀物の品目を示したものである。米の生産量が多い行政地区について，その大部分にみられる気候の特徴を，図Ⅱから読み取り，簡潔に述べよ。

(山口県)

図Ⅰ　穀物生産の地域によるちがい

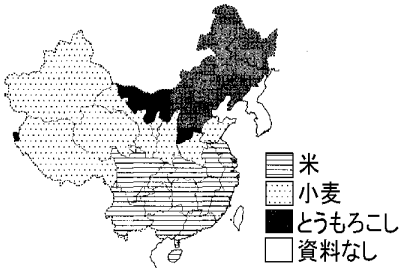

図Ⅱ　年降水量の分布

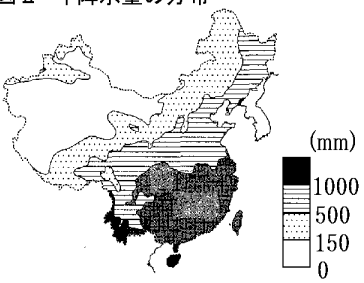

[問題 34]

中国の農業について説明した次の文中のXにあてはまることばを，漢字2字で書け。

南部では高温多湿のため米の栽培が，北部では小麦の栽培がさかんである。西部の内陸部では降水量が極端に少ないため(　X　)が中心的な農業であるが，一部ではオアシス農業や畑作も行われている。

(岡山県)

[経済特区]

[問題 35]

中国では，1970 年代に沿海部に(　X　)特区を設けて外国企業を誘致して以来，沿海部を中心に一人あたり国内総生産が高くなった。しかし，沿海部と内陸部との格差が問題となっている。文中のXに適語を入れよ。

(栃木県)

[問題 36]

右図の▲で示した5つの地域は，1980 年と 1988 年に外国企業を優遇する法律が適用される行政地域に指定された。このような行政地域を何というか，書け。

(熊本県)

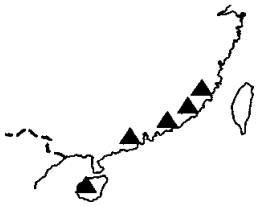

[問題 37]

次の文は，次郎さんが，中国の工業の特色について調べ，説明したものである。(　　)にあてはまる内容を，「経済特区」と「受け入れる」の語句を使って書け。

中国は，(　　)など，工業化を進めてきたが，沿岸の都市部と内陸の農村部との経済格差が，大きくなっているという課題がある。

(福岡県)

[問題 38]

シェンチェンは，イギリスの植民地であったホンコンに隣接する都市であり，1979 年に中国で最初の経済特区が設けられた。中国がシェンチェンなどに経済特区を設けた理由を，「外国企業」という語を用いて説明せよ。

(山口県)

[問題 39]

次の資料Ⅰは 2020 年の中国の総生産額上位 3 つの A～C の地域を示したものである。資料Ⅱは，資料Ⅰの A～C の地域の都市の人口について示したものである。A および B の地域と比較して，C の地域には，どのような特徴があるか。資料Ⅰと資料Ⅱからわかることにふれて，簡単に書け。

資料Ⅰ

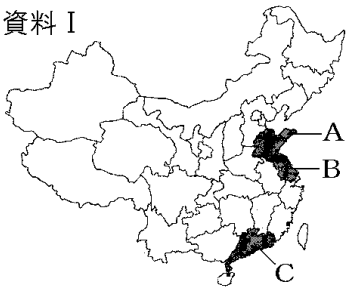

資料Ⅱ　中国の総生産額上位3つのA～Cの地域の都市の人口

地域	地域内の都市の総人口に占める割合（%）	
	都市に戸籍がある人	他の場所から来て都市に半年以上滞在している人
A	52.4	47.2
B	51.6	48.0
C	34.3	65.0

（2020 年）

(岩手県)

[中国：沿海部と内陸部の経済格差]

[問題 40]

図中のア～エの地域のうち，近年，経済発展がめざましく，外国企業が最も多く進出している地域を選び，記号で答えよ。

(山口県)

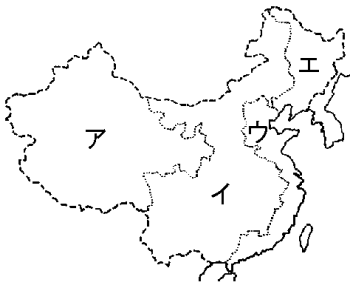

[問題 41]

右の図は，中国の行政区別の 1 人当たり国内総生産が 6 万元以上の行政区を■の色で示し，外国企業の進出を受け入れた沿海部の重点開発地区を□で示したものである。

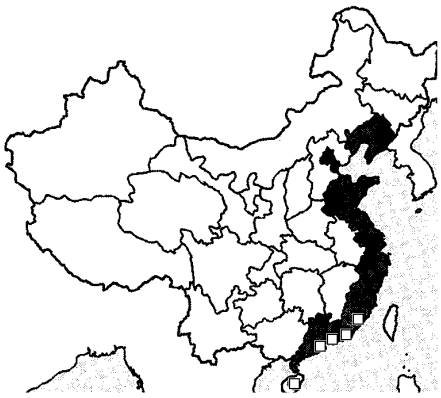

(1) これらの重点開発地区を何というか。

(2) 図に関して説明した次の文中の①～③の(　　)内からそれぞれ適語を選べ。

中国では，沿海部にある行政区の 1 人当たり国内総生産が内陸部にある行政区に比べて①(高／低)いので，出かせぎ労働者が②(沿海／内陸)部から③(沿海／内陸)部へ移動している。

(茨城県)

[問題 42]

中国の工業について述べたものとして最も適当なものを，次のア～エの中から 1 つ選び，記号を書け。

ア　工業がさかんな沿海部と農業が中心の内陸部との経済格差が大きく，また近年は，急速な工業発展によって大気汚染などの公害が問題となっている。

イ　複数の国を流れる河川の水運と豊富な地下資源を利用し，19 世紀の後半から急速に工業を発展させた。

ウ　地下資源には恵まれていないが，原料を輸入し製品を輸出する加工貿易によって，第二次世界大戦後，急速な経済成長を果たした。

エ　豊富な地下資源に恵まれ 20 世紀に世界最大の工業国となり，南部や西部の新しい工業地域で先端技術産業が発達した。

(佐賀県)

[問題 43]

中国の地域の特色について調べ，大まかに資料の A 地域・B 地域に分けた。特色について述べた文として誤っているものを，次のア～エから 1 つ選んで記号で書け。

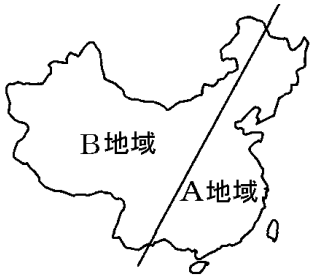

ア　少数民族の分布地域は A 地域で多く，B 地域で少ない。

イ　工業のさかんな地域は A 地域で多く，B 地域で少ない。

ウ　米や小麦の収穫量は A 地域で多く，B 地域で少ない。

エ　人口は A 地域で多く，B 地域で少ない。

(福井県)

[中国の貿易]

[問題 44]

中国の輸出額上位 3 品目を表しているものを次の資料中のア～エの中から 1 つ選べ。

	第 1 位	第 2 位	第 3 位
ア	大豆	機械類	肉類
イ	石油製品	機械類	ダイヤモンド
ウ	石炭	パーム油	機械類
エ	機械類	衣類	繊維品

(青森県)

[問題 45]

次の資料から，中国の経済がどのように変化したと考えられるか。「～ので，･･･と考えられる。」という形式で答えよ。

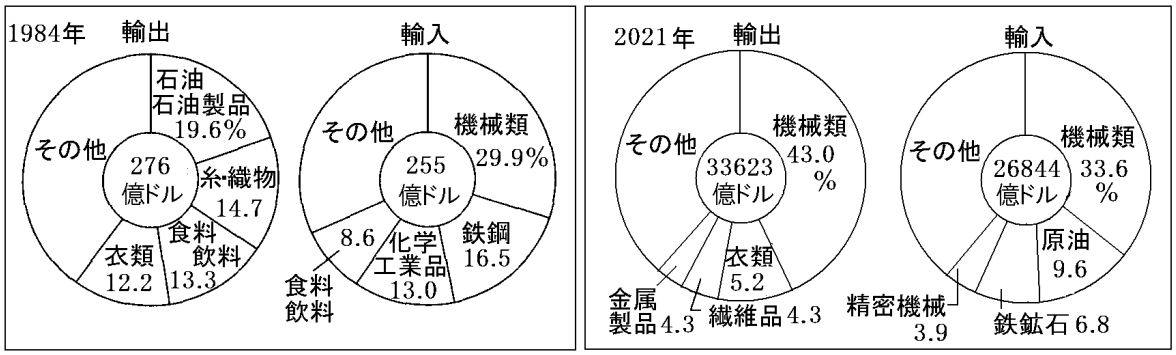

(佐賀県)

[中国の都市]

[問題 46]

中国の首都であるペキンの位置を，図のア～エから選べ。

(群馬県)

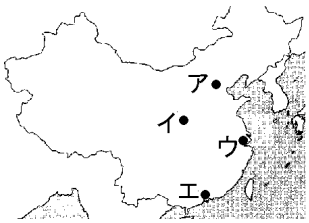

[問題 47]

長江河口付近に位置し，中国有数の商工業都市である都市 X の名前を，次の中から 1 つ選べ。

[ペキン　ホンコン　チョンチン　ウルムチ　シャンハイ]

(福島県)

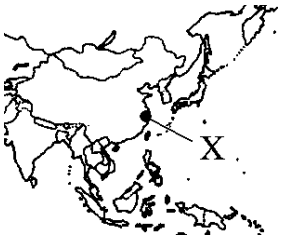

[アジア NIES の国々]

[問題 48]

シンガポール，韓国，台湾，香港は，1970 年代から工業生産が飛躍的に伸びた国や地域である。シンガポール，韓国，台湾，香港をさすアジアにおける新興工業経済地域は，一般に何と呼ばれるか。

(香川県)

[問題 49]

マレー半島の先に隣接する A 国は，韓国，香港，台湾とともにアジア NIES(新興工業経済地域)とよばれ，工業が急成長した国の 1 つである。その国名を答えよ。

(沖縄県)

[問題 50]

次の文の①，②の(　　)内より適語を選べ。

大韓民国とシンガポールは，20 世紀後半，急速な工業化を達成し，台湾，①(ホンコン／ベトナム)とともに，②(ASEAN／アジア NIES)とよばれている。

(北海道)

【】東南アジア

[東南アジアにおける宗教の分布]

[問題 51]

地図中の で示した国々に住んでいる人々の多くは，ある宗教を信仰している。この宗教は何か。次の[　　]のうちから 1 つ選べ。

[イスラム教　キリスト教　ヒンドゥー教　仏教]

(宮城県)

[問題 52]

資料の は，東南アジアでの何という宗教の分布を示しているか。

(福井県)

[問題 53]

夕夏さんは，インドネシアの宗教について調べ，次の資料を作成した。資料の(　　)に入る内容として最も適切なものを，後のア～エから 1 つ選び，記号で答えよ。

(資料)インドネシアの宗教

インドネシアで約 9 割の人が信仰する宗教は，酒や豚肉を口にせず，年に約 1 か月の間，昼間の断食を実行するという決まりがある。また，この宗教は，(　　)という特徴がある。

ア　主に東南アジアや東アジアに広がっている

イ　特定の民族や地域と強く結びついて信仰されている

ウ　1 日に 5 回，聖地の方角を向いてお祈りをする

エ　聖書を読むことを大切にし，日曜日には教会に行く

(宮崎県)

[問題 54]

次の文は，たかしさんが，東南アジアから大分の大学に留学しているメガワテイさんから聞いたことがらである。後の各問いに答えよ。

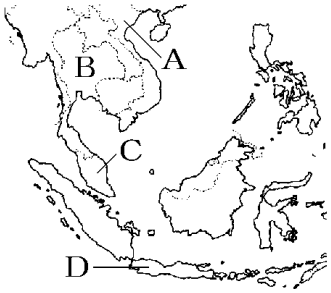

メガワテイさんの国は，赤道が通り，熱帯の気候で，人口が 2 億人を超えます。彼女が日本に来て，学生食堂で困ったことがあったそうです。彼女の国では，大半の人々が，(　　)教を信仰しており，彼女もその教えで豚肉を食べなかったので，学生食堂での日替わりメニューが，トンカツ定食やカツ丼だったりすると別の物を注文したということでした。

(1) 文中の(　　)に最も適当な語句を書け。

(2) メガワテイさんは，どの国の出身か。あてはまる国を，略地図中の A～D から 1 つ選び，符号を書け。

(大分県)

[問題 55]

フィリピンでは，キリスト教を信仰する人が国民の大半を占めている。16 世紀にフィリピンを植民地としてキリスト教を布教し，アジアでの貿易の拠点をおいた国は，次の[　　]のうちのどれか。

[インド　エジプト　スペイン　アメリカ合衆国]

(岡山県)

[問題 56]

次のグラフは，カンボジア，フィリピン，マレーシアのいずれかの国における宗教別人口割合を示したものである。グラフ中の A～C にあてはまる国名を答えよ。

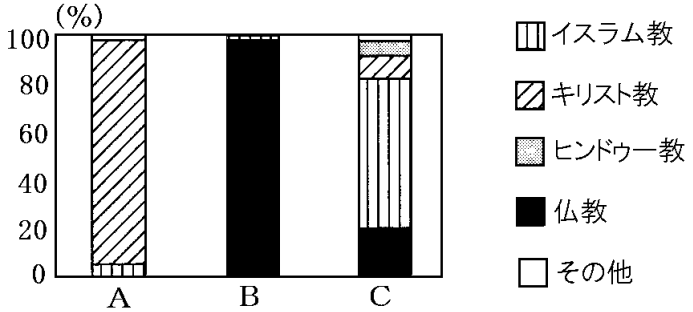

(鳥取県)

[問題 57]

次の文章中の①～④に適語を入れよ。

東南アジアは，インドと中国の間にあって，古くからさまざまな宗教の影響を受け，タイでは(　①　)教，インドネシアでは(　②　)教が主に信仰されている。この地域には，豊かな資源を求めて，16 世紀ごろから(　③　)・ポルトガルが，続いてオランダ・イギリス・フランスが進出し，タイ以外は 19 世紀末ごろまでには，つぎつぎに植民地となった。(③)の植民地であったフィリピンでは，主として(　④　)教が信仰されている。

(大分県改)

[ASEAN]

[問題 58]

東南アジアの■の国々のうち，10 か国で構成されている，地域協力を目的とした組織を，次の[　　]から 1 つ選べ。

[APEC　ASEAN　EU　OPEC]

(福井県)

[問題 59]

次の各問いに答えよ。

(1) 東南アジア各国の地域協力を進めていくことを目的として 1967 年に結成された組織を何というか。①アルファベットで書け。②また，正式名称を日本語で書け。

(2) (1)の組織は輸入品にかける(　X　)をお互いに無くすなど, 加盟国間の貿易や人の交流をさらに活発にしようとしている。X に適語を入れよ。

(補充問題)

[問題 60]

次の文章の(　　)に入る語句として適切なものを，下の[　　]から 1 つ選べ。

EU のように，地域の国々が政治や経済などの協力を強めようとする動きは世界各地でみられる。(　　)は太平洋沿岸地域の経済の協力関係をより活発にする取り組みであり，日本も加盟している。

[APEC　ASEAN　WTO　NAFTA]

(兵庫県)

[東南アジアの稲作]

[問題 61]

東南アジア地域では，温暖な気候を利用し，主食である米を年に 2 回栽培するところも見られる。このように同じ耕地で年に 2 回同じ作物を栽培し，収穫することを何というか。

(佐賀県)

[問題 62]

東南アジアの国々の農業について述べた文として，最も適切なものを，次のア～エから 1 つ選び，記号で答えよ。

ア　牛や豚の飼育とともに小麦などを栽培する，混合農業がさかんに行われている。

イ　稲作がさかんに行われ，米を 1 年に 2 回収穫できる地域もある。

ウ　らくだや羊を飼育しながら草や水を求めて移動する，遊牧がさかんに行われている。

エ　標高の高い場所では，リャマやアルパカの放牧がさかんに行われている。

(宮城県)

[問題 63]

次の文章中の①，②の(　　)内からそれぞれ適語を選べ。

東南アジアでは，大きな川の流域などで稲作が盛んである。同じ土地で年に 2 回米を作る①(二毛作／二期作)ができる地域もある。以前は人々が牛や馬を使って農作業をしていたため，農村の人口密度は②(高い／低い)状態が続いていたが，1960 年代に入り，機械化が進むと，農村の必要な労働力や人口密度が変化していった。

(岐阜県)

[問題 64]

右の略地図中の■■■は，熱帯のうち，降水量の少ない時期がある地域を示している。次の各問いに答えよ。

(1) 熱帯に見られる，1 年の中で降水量の少ない時期を何というか。

(2) この地域のうち，大河の流域などにおいては，二期作による農業も行われている。「二期作」とは何か，説明せよ。

(石川県)

[問題 65]

右図のタイについて述べた，次の文中の①にあてはまる語句を書け。②は(　　)内より適語を選べ。

海洋から内陸に向けて吹く(　①　)の影響を受けて降水量が多い平野部では，②(稲／畑)作がさかんである。

(新潟県改)

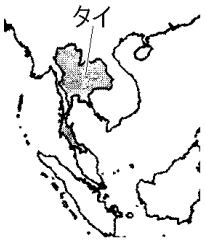

[問題 66]

右のグラフの a～c は，図中の X～Z のいずれかの都市の月別平均気温を表したものである。Z に当てはまる気温のグラフと，Z の周辺で栽培がさかんな農作物の組み合わせとして最も適当なのは，ア～カのうちではどれか。

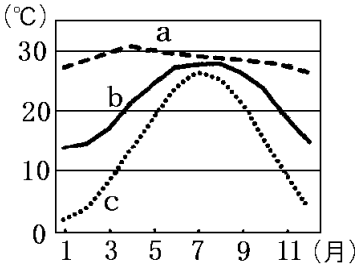

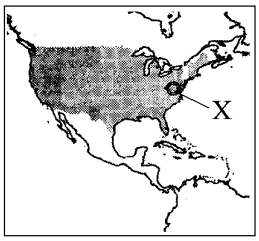

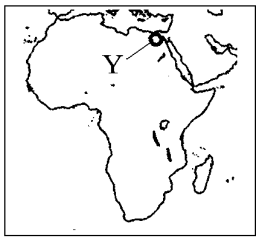

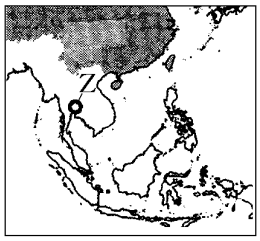

ア　気温：a，農作物：小麦　　イ　気温：a，農作物：米

ウ　気温：b，農作物：小麦　　エ　気温：b，農作物：米

オ　気温：c，農作物：小麦　　カ　気温：c，農作物：米

(岡山県)

[米の生産国と輸出国]

[問題 67]

次の表は，米の生産量と輸出量の世界上位 5 か国をあらわしている。表中の X，Y は，A～D 国のうちのどれか。

	生産国(2021 年)	輸出国(2021 年)
1	中国	X
2	X	Y
3	バングラデシュ	ベトナム
4	インドネシア	パキスタン
5	ベトナム	アメリカ

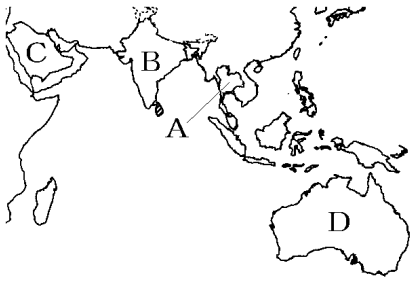

(福島県)

[問題 68]

次の資料は，ある農産物の生産量と輸出量の順位を示したものである。①～③にあてはまる語句を次の[　　]からそれぞれ選べ。

[(　①　)に関する統計]

	(　②　)量	(　③　)量
1 位	中国	インド
2 位	インド	タイ
3 位	バングラデシュ	ベトナム
4 位	インドネシア	パキスタン
5 位	ベトナム	アメリカ

[米　小麦　輸出　生産]

(福井県)

[東南アジアのプランテーション]

[問題 69]

東南アジアの国々では，かつては，大規模な農園で，生ゴムやパーム油の原料となる作物が栽培されていた。第 2 次世界大戦前まで，主にヨーロッパ人が経営していたこのような大規模農園を何というか。

(佐賀県)

[問題 70]

右の略地図の X の国に関して，表は，ある果実の 2021 年の日本の輸入量およびおもな輸入先の国と割合を示したものである。ある果実の名を，次の[　　]から 1 つ選べ。

輸入量（千t）	おもな輸入先の国と割合	
	国	割合(%)
1109	X	76
	エクアドル	12

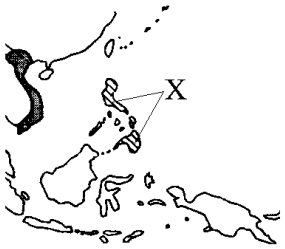

[メロン　オレンジ　パイナップル　バナナ]

(北海道)

[問題 71]

次の文中の①～③に適語を入れよ。

マレーシアとインドネシアでは，マーガリン等を作るためのパーム油の原料となる(　①　)の農園が開かれた。タイやインドネシアなどのマングローブが広がる海岸では，日本に輸出するために(　②　)の養殖場がつくられ，フィリピンでは(　③　)農園が開かれてきた。

(補充問題)

[問題 72]

東南アジアの一部では，人口増加による農地開発や，日本への大量な輸出のために，「ある資源」が減少し，深刻な環境破壊が起きている。「ある資源」とは何か。

(徳島県)

[外国企業の進出と工業化]

[問題 73]

日本企業が東アジアや東南アジアへ進出し，生産をおこなっている理由を「労働力」という言葉を用いて，簡単に書け。

(香川県)

[問題 74]

次の各問いに答えよ。

(1) 日本企業がタイに多く進出しているのはなぜか。右の資料をみて，「賃金」の語句を用い，「日本と比べて」に続けて書け。

(2) タイやベトナムなどで，外国企業を受け入れて工業化を図るために作られた団地を何というか。

	賃金(月)
日本	29 万 400 円
タイ	3 万 871 円

(補充問題)

[問題 75]

次の表は，インドネシア，タイ，ベトナム，マレーシアのいずれかの国の人口，1 人あたりの国内総生産(GDP)，進出日本企業数を示したものである(2018 年)。タイとベトナムにあてはまるものとして，最も適切なものを，表中のア～エからそれぞれ選べ。

	人口(千人)	1 人当たり GDP(ドル)	進出企業数	
			2000 年	2018 年
ア	31,528	11,373	1,107	1,009
イ	69,428	7,274	1,558	2,574
ウ	267,671	3,893	817	1,333
エ	95,546	2,563	195	1,156

(鳥取県改)

[輸出品の変化]

[問題 76]

次の資料はタイの輸出品のグラフである。タイの輸出品はどのように変化したか。次の文の①，②にあてはまる語句を下の[　　]からそれぞれ選べ。

タイの輸出品は，かつては(　①　)が中心だったが，現在では(　②　)が多くなった。

[工業製品　鉱産資源　農産物]

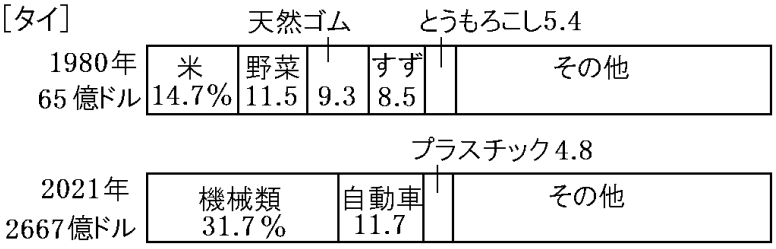

(補充問題)

[問題 77]

外国企業の進出もあり，タイやマレーシアでは次の資料に見られるような変化があった。タイやマレーシアの輸出品目と輸出総額の変化の特徴について，資料をもとに答えよ。

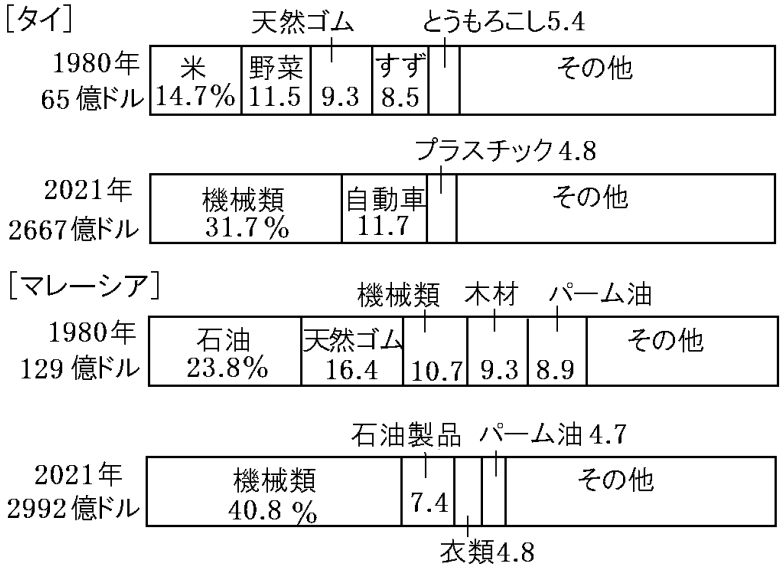

(鹿児島県)

[急速な都市化と課題]

[問題 78]

東南アジアで課題となっている都市問題に関しての説明として誤っているものをア～エから１つ選べ。

ア　急激な人口増加により，激しい交通渋滞や通勤ラッシュが起こっている。

イ　急ごしらえの住宅で電気・水道などが通っていない場所がある。

ウ　低所得者層の集まる，生活環境の悪いスラムができ，治安が悪化している。

エ　都市部に集まる人々は１人暮らしの高齢者が多く，福祉問題が課題になっている。

(補充問題)

【】南アジア

[宗教など]

[問題 79]

地図中の X の国では，(　　)教を信仰する人が人口の 8 割を占め，牛を神聖な動物として大切にしている。文中の(　　)に適語を入れよ。

(栃木県)

[問題 80]

次の文章は，しょうたさんが，インドについてまとめたレポートの一部である。文章中の①，②の(　　)内からそれぞれ適語を選べ。

インドでは，最も多くの人々が①(ヒンドゥー教／仏教)を信仰しており，この国の社会や人々の暮らしに大きな影響をあたえている。また，(①)では，水で身体をきよめる②(断食／沐浴)とよばれる儀式が重視されている。

(千葉県)

[問題 81]

インドの国民の 80%以上はヒンドゥー教徒である。次のア～エのうち，ヒンドゥー教徒の生活のようすとしてあてはまらないものはどれか。1 つ選んで，その記号を書け。

ア　牛を肉として食べることはないが，乳や糞は利用する。

イ　ある都市の方向に向かって，1 日に 5 回礼拝する。

ウ　ガンジス川を聖なる川として信仰している。

エ　カースト制度とよばれる身分制度が受けつがれている。

(香川県)

[問題 82]

多くのインド人は牛肉を食べない。それはなぜか，その理由を，インドの宗教と関連づけて簡潔に説明せよ。

(宮城県)

[問題 83]

インドで，社会での地位や職業の決定に大きな影響をあたえている，古くから残る身分制度のことを何というか。

(沖縄県)

[インドの農業]

[問題 84]

右の地図は，インドとその周辺の年間降水量を示している。次の文は，インドの気候と農作物の関係について説明したものである。①にあてはまる語句として適当なものを，あとのア～エの中から 1 つ選べ。また，②にあてはまる農作物の名前を書け。

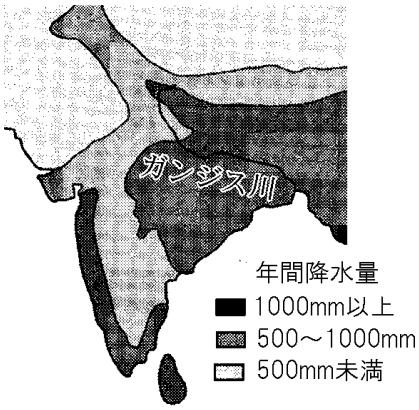

インドでは，(　①　)の影響を受けた雨季が見られ，ガンジス川下流域は年間降水量が多く主食となる(　②　)の栽培が盛んである。

ア　海からふく季節風

イ　海からふく偏西風

ウ　陸からふく季節風

エ　陸からふく偏西風.

(福島県)

[問題 85]

次の資料を参考にして，下の文中の①，②に適語を入れよ。

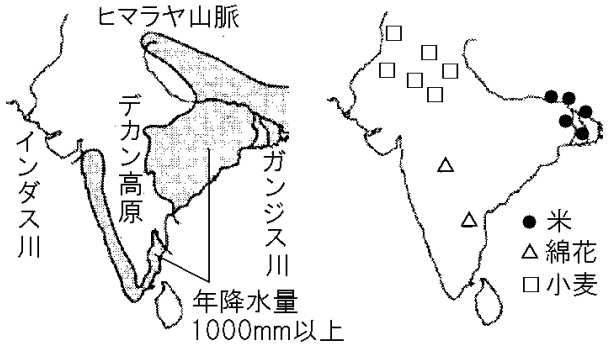

年降水量が 1000mm 以上の(　①　)流域では米，年降水量が 1000mm 未満の地域では小麦の栽培がさかんである。また，デカン高原では(　②　)が栽培されている。

(富山県)

[問題 86]

インドにおける米と小麦の主な栽培地域と年降水量との関係を，次の資料を参考にして簡潔に書け。

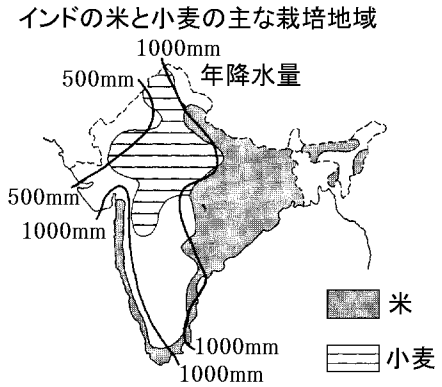

(群馬県)

[インドの新しい産業]

[問題 87]

シンさんの国では，内陸部の都市などに，アメリカのコンピューター関連の企業が進出している。その進出の要因としては，まず，アメリカが夜の時に，シンさんの国では昼なので，インターネットを利用したデータのやりとりにより，技術開発が 24 時間体制で行えることがあげられる。次に，世界で 7 番目の広大な国土の大部分が，イギリスにより植民地支配されていたこともあって，英語が主要な言語の 1 つとなっていることもある。さらに，人口が多く，技術者を安い賃金で雇用できることなども関係している。シンさんの国はどこか。国名を書け。

(大分県)

[問題 88]

右図のベンガルールでは，アメリカ合衆国との結びつきが強い(石油／鉄鋼／ICT)関連の産業がさかんである。(　　)内より適語を選べ。

(熊本県)

[問題 89]

インドの情報技術産業は，インドの全国的な公用語の 1 つが(英語／スペイン語)であることを背景に欧米などの企業と結びつきながら発展を続けている。文中の(　　)内より適語を選べ。

(岐阜県)

[問題 90]

最近，インドではアメリカなどの企業がおこなうソフトウェア開発などの仕事が増えている。

(1) このような産業を何産業というか。アルファベットを使ってかけ。

(2) 欧米の情報専門会社が進出した右の地図中の X の都市名を答えよ。

(3) このような仕事がインドで増えた理由を，言語の面から簡単に書け。

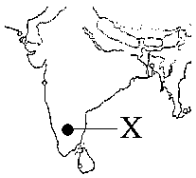

(補充問題)

[問題 91]

アメリカの ICT 企業とインドの ICT 企業が効率的に仕事を行うことができるのはなぜだと考えられるか。

(広島県)

[問題 92]

アメリカの企業 A 社は，夜の時間にインドのコールセンターB 社に電話をつなぐことにより，A 社への電話に 24 時間対応ができる。これはどのようなことを利用した仕組みか。右の資料を参考に，「言語」と「時差」の点から簡単に説明せよ。

(補充問題)

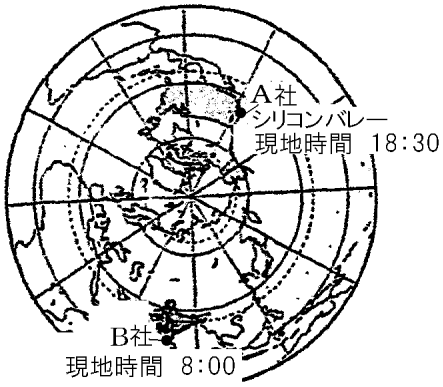

[問題 93]

インドでは情報技術産業が発展した。その理由について，インド国内のことを述べた内容として適切なものを，次のア～エから 1 つ選び，記号で答えよ。

ア　南シナ海沿岸に経済特区を設け，外国の企業を受け入れたため。

イ　ASEAN に加盟したことにより，周辺の国々から出かせぎ労働者が流入したため。

ウ　北緯 37 度より南のサンベルトとよばれる地域で，高度な技術の開発が進められたため。

エ　古くからの身分制度の影響を受けにくい新しい産業であり，人々に広く受け入れられたため。

(山形県)

[問題 94]

インドの産業について述べた次の文 X，Y について，その正誤の組み合わせとして適切なものを，あとのア～エから 1 つ選んで，その符号を書け。

X　理数教育の水準の高さなどを背景とし，ベンガルールを中心に ICT 産業が発展している。

Y　自動車産業の分野では，日本をはじめとする外国の企業が進出している。

ア：X－正，Y－正　　イ：X－正，Y－誤り

ウ：X－誤，Y－正　　エ：X－誤，Y－誤

(兵庫県)

[問題 95]

次の文章は，インドについて述べたものである。文章中の①～④の(　　)の中から当てはまる語句を 1 つずつ選べ。

人口の約 8 割を占める①(仏教／イスラム教／ヒンドゥー教)の人々が沐浴を行うインド東部の②(インダス川／ガンジス川／ユーフラテス川)下流域は，降水量が多く，③(コーヒー栽培／綿花栽培／稲作)がさかんである。近年インドでは④(再生可能エネルギー産業／情報技術産業／石油化学産業)が，南部の都市ベンガルールを中心にめざましい成長をとげている。その背景には，理系の教育水準が高いことや英語を話せる技術者が多いことなどがあげられる。

(山梨県)

[問題 96]

次のア～エのうち，インドについて述べている文として適切なものを 2 つ選び，その符号を書け。

ア　この国は，ASEAN に加盟している国の 1 つである。

イ　この国では，降水量の多いガンジス川流域で稲作がさかんに行われている。

ウ　この国は，日本が室町時代のときに，イギリスの植民地であった。

エ　この国では，ベンガルールなどの都市で ICT 関連産業が発展している。

(石川県)

【】西アジア・中央アジア

[西アジアの宗教]

[問題 97]

略地図の▨の地域で，最も多くの人が信仰している宗教は何か。次の[　　]から 1 つ選べ。

[キリスト教　イスラム教　仏教　ヒンドゥー教]

(鹿児島県)

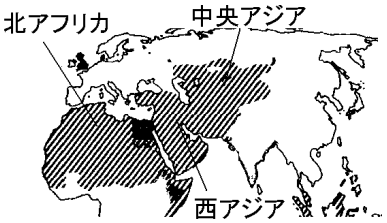

[問題 98]

右の資料に示された A 国で最も信者の多い宗教と，その宗教と関わりのある食生活の特徴として最も適当なものを，次のア～エから 1 つ選んで記号で書け。

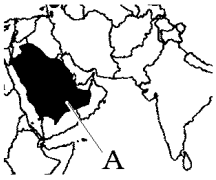

ア　イスラム教で，信者は牛肉を食べない。

イ　イスラム教で，信者は豚肉を食べない。

ウ　ヒンドゥー教で，信者は牛肉を食べない。

エ　ヒンドゥー教で，信者は豚肉を食べない。

(福井県)

[問題 99]

西アジアでは，イスラム教が広く信仰されている。①イスラム教の聖地メッカの場所を右の地図の P，Q から選べ。②また，イスラム教の特徴を次の文 R，S から選べ。

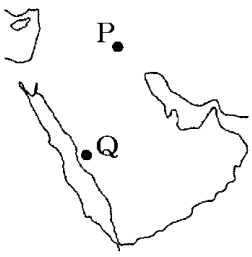

R 牛は神聖な動物とされ食べることが禁止されている。

S 聖典のコーランには，生活上のルールが示されている。

(長崎県)

[ペルシャ湾沿岸の石油]

[問題 100]

右図の A 湾周辺の国々では，原油が多く産出されている。A 湾を何というか。

(栃木県)

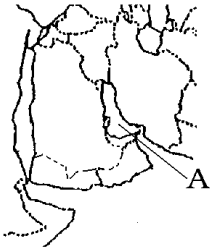

[問題 101]

図中の▨の国では，ある宗教の信者が人口の大部分を占めている。①その宗教名を書け。②また，この国には，産出量が世界有数である資源がある。それは何か，次の[　　]の中から 1 つ選べ。

[石炭　銅鉱　金　石油]

(香川県改)

[問題 102]

次の各問いに答えよ。

(1) 日本の石油輸入先が集中する地域を次の[　　] から 1 つ選べ。

[南アジア　西アジア　東南アジア　東アジア]

(2) (1)の地域が最も多く属する気候帯を次の[　　] から 1 つ選べ。

[熱帯　冷帯　乾燥帯　温帯]

(長野県)

[問題 103]

国際市場における石油(原油)価格の安定などのため，1960 年に設立された石油輸出国機構の略称をアルファベット 4 字で書け。

(大阪府)

[問題 104]

次の各問いに答えよ。

(1) 日本への石油輸出が 1 位と 2 位の国はどこか。

(2) 世界一高いビルがあり，リゾート地としても有名なアラブ首長国連邦の都市の名前を答えよ。

(3) 内陸で産出される石油を港まで運ぶための送油管をカタカナで何というか。

(4) 西アジアでは，資源をめぐっての利害対立や部族紛争などの内戦で，周辺に避難してくる人々がいる。この人々を何というか。

(補充問題)

[中央アジア]

[問題 105]

次の各問いに答えよ。

(1) 中央アジアでは，世界的に埋蔵量が少なく貴重な希少金属が産出される。この希少金属をカタカナで何というか。

(2) 中央アジアには，中国とヨーロッパを結んだ古代の交易路の歴史遺産が多く，観光客が増えている。この交易路を何というか。

(補充問題)