【FdData 中間期末：中学社会地理】

[地球上の位置②]

◆パソコン・タブレット版へ移動

[北緯と南緯・東経と西経]

[問題](要点把握)

次の下線部A～Hで誤っているものを1つ選び，正しい語句に直せ。

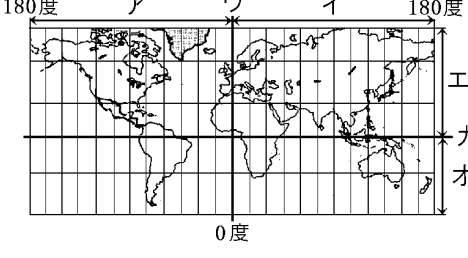


図のように，ウのA本初子午線を基準にして，西側(ア)をB西経，東側(イ)をC東経で表す。

また, カの D 赤道を基準にして, 北側(エ)を E 北緯, 南側(オ)を F 南緯で表す。この区分によれば, 日本の位置は G 北緯(エ)と東経(イ)で表すことができる。また, オーストラリアは H 南緯と西経で表すことができる。

[解答]H 南緯と東経
※出題頻度：この単元はしばしば出題される。

[問題](1 学期期末)

図の A～D の国のうち，西経と南緯を組み合わせた地域にある国の記号を記入せよ。

[解答]D

[問題](1 学期期末)

次の各問いに答えよ。

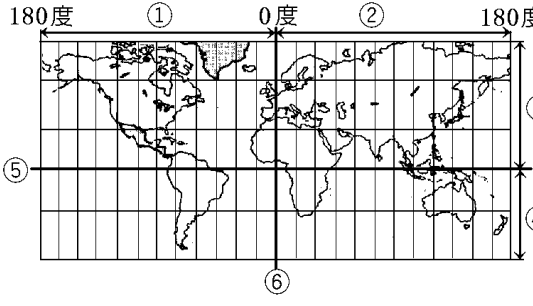


(1) ①～④にあてはまる語句を次の[　　]からそれぞれ選べ。

[ 西経　東経　北緯　南緯 ]

(2) 緯線，経線の基準となる⑤，⑥にあてはまる語句を書け。

(3) 日本, アメリカ, オーストラリアは, それぞれ，次のア～エのどの区分に入るか。

ア　北緯と西経で表す

イ　北緯と東経で表す

ウ　南緯と西経で表す

エ　南緯と東経で表す

[解答](1)① 西経　② 東経　③ 北緯　④ 南緯　(2)⑤ 赤道　⑥ 本初子午線

(3)日本 : イ　アメリカ : ア　オーストラリア : エ

[ある地点の緯度と経度]

[問題](1 学期期末)

　次の地図中のX地点の地球上の位置はどのように表わされるか。緯度と経度を使って答えよ。

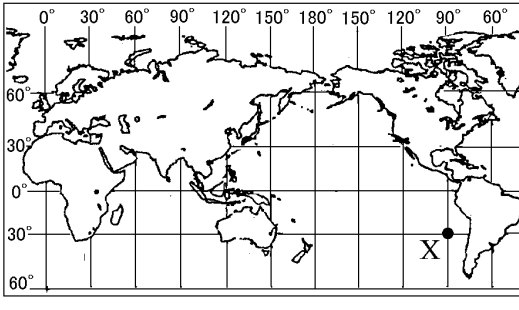


[解答]南緯 30 度，西経 90 度

※出題頻度:「地図の～地点の経度と緯度を求めよ◎」

[問題](1 学期期末)

次の地図中の X，Y を北緯，南緯，東経，西経を用いて表せ。

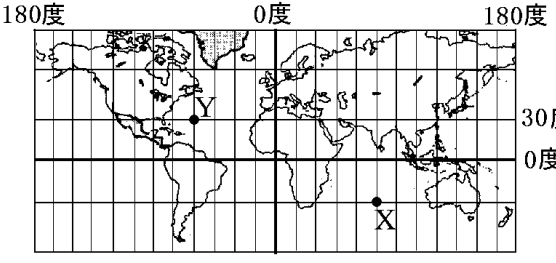


[解答]X：東経 75 度，南緯 30 度

Y：西経 60 度，北緯 30 度

[問題](1 学期中間)

図中のア，イの地点の緯度と経度を，それぞれ答えよ。

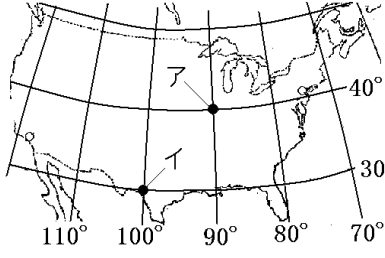


[解答]ア　北緯 40 度，西経 90 度

イ　北緯 30 度，西経 100 度

[問題](入試問題)

北緯 9 度，東経 38 度の地点として最も適切なものを，次の地図中の A～D の中から 1 つ選び，その記号を書け。

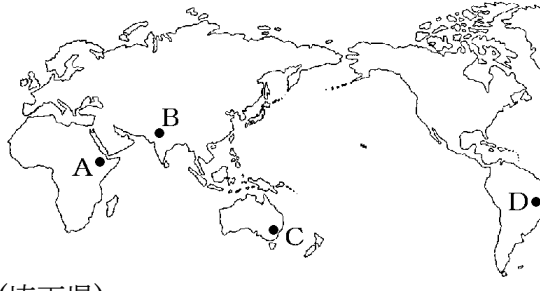


(埼玉県)

[解答] A

[地球の反対側(対蹠点)]

[問題](入試問題)

　日本から最も遠い地球の正反対側は，次の略地図中の A～D のどこになるか，1 つ選び，その記号を書け。

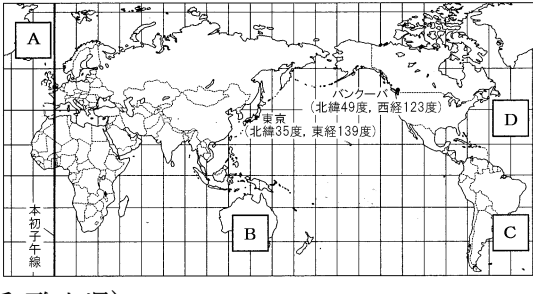


(和歌山県)

[解答]C

※出題頻度:「X 地点と地球上の正反対の地点(対蹠点)の経度と緯度を答えよ○」

[問題](入試問題)

　北緯 30 度，東経 165 度の地点 X がある。地点 X と地球上で正反対の地点 Y の緯度と経度を答えよ。

(山形県)

[解答]南緯 30 度，西経 15 度

[地図帳のさくいん]

[問題](1 学期期末)

　地図帳で，世界の国や都市などを見つけるには，「さくいん」が便利である。「ヒューストン」という都市をひいてみると「57E4S」と書いてあった。この部分は次の地図のどこにあたるか。当てはまる範囲を塗りつぶせ。

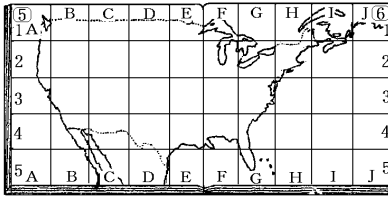


[解答]

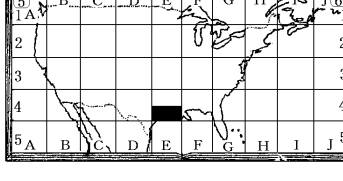


※出題頻度：この単元はよく出題される。

[問題](1 学期中間)

次の図はある地図帳の 60 ページで，東西の位置をアルファベットで，南北の位置を数字で表している。a，b の都市の位置を，「60A2N」のような形で，それぞれ表せ。

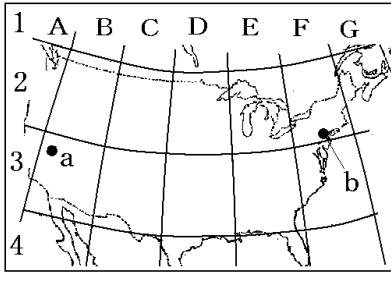


[解答]a：60B3N　b：60F2S

[問題](1 学期期末)

　地図帳巻末の「さくいん」でニューヨークを引くと，「26C2S」と書かれていた。それぞれの数字・アルファベットの意味をすべて答えよ。

[解答]26 : 地図帳のページ　C : 経線間の位置　2 : 緯線間の位置　S : C2 区間の南側

【各ファイルへのリンク】

社会地理

[世界 1]　[世界 2]　[日本 1]　[日本 2]

社会歴史

[古代]　[中世]　[近世]　[近代]　[現代]

社会公民

[現代社会]　[人権]　[三権]　[経済]

理科 1 年

[光音力]　[化学]　[植物]　[地学]

理科 2 年

[電気]　[化学]　[動物]　[天気]

理科 3 年

[運動]　[化学]　[生殖]　[天体]　[環境]

【FdData 中間期末製品版のご案内】
この PDF ファイルは, FdData 中間期末を PDF 形式(スマホ用)に変換したサンプルです。製品版の FdData 中間期末は Windows パソコン用のマイクロソフト Word(Office)の文書ファイル(A4 版)で, 印刷・編集を自由に行うことができます。
◆FdData 中間期末の特徴
中間期末試験で成績を上げる秘訣は過去問を数多く解くことです。FdData 中間期末は, 実際に全国の中学校で出題された試験問題をワープロデータ(Word 文書)にした過去問集です。各教科(社会・理科・数学)約 1800～2100 ページと豊富な問題を収録しているため, 出題傾向の 90%以上を網羅しております。
FdData 中間期末を購入いただいたお客様からは,「市販の問題集とは比べものにならない質の高さですね。子どもが受け

た今回の期末試験では，ほとんど同じような問題が出て今までにないような成績をとることができました。」,「製品の質の高さと豊富な問題量に感謝します。試験対策として，塾の生徒に FdData の膨大な問題を解かせたところ，成績が大幅に伸び過去最高の得点を取れました。」などの感想をいただいております。

◆サンプル版と製品版の違い

ホームページ上に掲載しておりますサンプルは，製品の全内容を掲載しており，どなたでも自由に閲覧できます。問題を「目で解く」だけでもある程度の効果をあげることができます。しかし，FdData 中間期末がその本来の力を発揮するのは印刷ができる製品版においてです。印刷した問題を，鉛筆を使って一問一問解き進むことで，大きな学習効果を得ることができます。さらに，製品版は，すぐ印

刷して使える「問題解答分離形式」，編集に適した「問題解答一体形式」，暗記分野で効果を発揮する「一問一答形式」(理科と社会)の 3 形式を含んでいますので，目的に応じて活用することができます。

FdData 中間期末の特徴(QandA 方式)

◆FdData 中間期末製品版の価格

社会地理，歴史，公民：各 7,800 円

理科 1 年，2 年，3 年：各 7,800 円

数学 1 年，2 年，3 年：各 7,800 円

ご注文は電話，メールで承っております。

FdData 中間期末(製品版)の注文方法

※パソコン版ホームページは，Google などで「fddata」で検索できます。

※Amazon でも販売しております。
（「amazon　fddata」で検索）

【Fd 教材開発】電話：092-811-0960

メール： info2@fdtext.com