【FdData 中間期末：中学社会地理】

[アフリカの地形・気候]

◆パソコン・タブレット版へ移動

[重要な地形]

[問題](要点把握)

次の下線部A～Gで誤っているものを2つ選び，正しい語句に直せ。

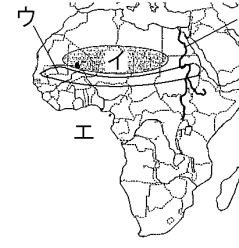

エジプトを流れるA ナイル川(右図ア)は長さが世界一の川で，その流域では，かつてB エジプト文明が栄えた。アフリカ大陸北部に広がるC サハル砂漠(イ)は世界最大の砂漠である。(②)砂漠の南側を東西に長くのびる乾燥地域をD サヘル(ウ)という。

E 人口増加にともなう食料不足を補うため過剰耕作や過剰放牧を行ったためF 砂漠化が進行した。G ギアナ湾(エ)の沿岸部ではかつて，ヨーロッパ人が進出し，奴隷・金・象牙・穀物などが取り引きされた。

[解答]C サハラ砂漠，G ギニア湾
※出題頻度：「ナイル川◎」「エジプト文明△」「サハラ砂漠◎」「サヘル：砂漠化○」「ギニア湾○」
(頻度記号：◎(特に出題頻度が高い)，○(出題頻度が高い)，△(ときどき出題される))

[問題](2 学期中間)

次の各問いに答えよ。

(1) 地図の A の川，B の砂漠，C の湾の名前を答えよ。

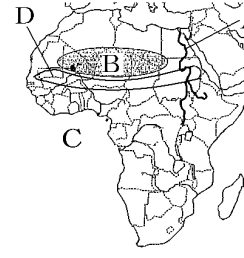

(2) B の砂漠の南側の D では砂漠化が進行している。この地域を何というか。

[解答](1)A ナイル川　B サハラ砂漠
C ギニア湾　(2) サヘル

[問題](2 学期中間)

次の各問いに答えよ。

(1) エジプトを流れる長さが世界一の川は何か。

(2) (1)の川の流域で，古代に栄えた文明を何というか。

(3) アフリカ大陸北部に広がる砂漠は何か。

(4) (3)の砂漠の南側を東西に長くのびる乾燥地域を何というか。

(5) (4)では(　①　)化という環境問題が起きている。その原因は人口増加にともなう食料不足を補うために過剰耕作や(　②　)を行ったためである。①，②に適語を入れよ。

[解答](1) ナイル川　(2) エジプト文明

(3) サハラ砂漠　(4) サヘル

(5)① 砂漠化　② 過剰放牧

[その他の地形]

[問題](後期中間)

次の地図中の A～F の地形名を答えよ。

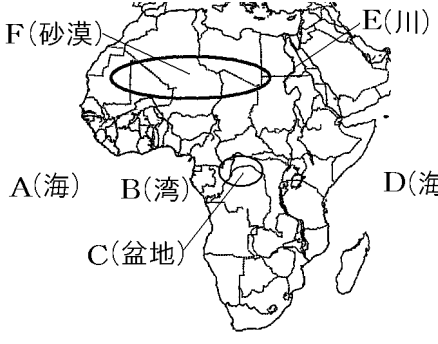

[解答]A 大西洋　B ギニア湾

C コンゴ盆地　D インド洋

E ナイル川　F サハラ砂漠

[問題](1 学期期末)

次の地図中の A～P の地形名を答えよ。

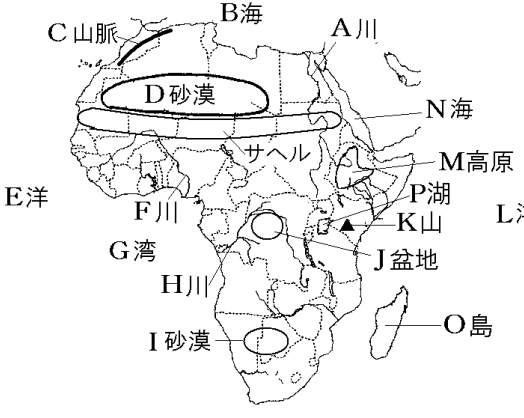

[解答]A ナイル　B 地中　C アトラス

D サハラ　E 大西　F ニジェール

G ギニア　H コンゴ　I カラハリ

J コンゴ　K キリマンジャロ

L インド　M エチオピア　N 紅

O マダガスカル　P ビクトリア

[赤道・本初子午線の位置]

[問題](後期中間)

　右の略地図中の①～④の緯線のうち，赤道にあたるものを1 つ選び，番号で答えよ。

[解答]③

※出題頻度：「赤道の位置◎」

「本初子午線の位置○」

[問題](2 学期中間)

　次の図で赤道と本初子午線を示している線はどれか。図中の①～⑧のうちから，最も適当なものをそれぞれ１つずつ選び，その番号を書け。

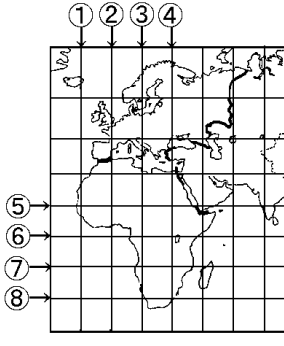

[解答]赤道：⑥　本初子午線：②

[アフリカの気候]

[問題](要点把握)

次の下線部 A〜I で誤っているものを 2 つ選び，正しい語句に直せ。

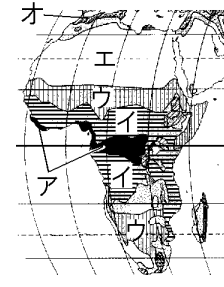

アフリカの気候帯は赤道を中心として南北にほぼ対称に，A <u>熱帯</u>(赤道付近)→B <u>乾燥帯</u>(サハラ砂漠など)→C <u>温帯</u>(地中海沿岸など)と分布している。さらに，図で詳しく見てみると，赤道直下のコンゴ盆地やギニア湾岸などの地域は，熱帯の中でも 1 年中雨が多い D <u>熱帯雨林気候</u>(図のアの地域)になっている。その周辺の熱帯の地域は，雨季と乾季がある E <u>ステップ気候</u>(イ)となっている。

大陸の東部のエチオピア高原は，赤道付近でも，F 高山気候に属するすずしい地域である。乾燥帯には，サヘルのようにわずかに雨が降り草原が広がる G サバナ気候(ウ)と，雨がほとんど降らない H 砂漠気候(エ)がある。アフリカ北西部の地中海沿岸はI 温帯(地中海性気候)(オ)である。また，アフリカの南端は温帯の気候になっている。

[解答]E サバナ気候，G ステップ気候
※出題頻度:「熱帯→乾燥帯→温帯○」「熱帯雨林気候△」「サバナ気候△」「ステップ気候△」「砂漠気候△」

[問題](3 学期)

　次の図で A→B→C と移動すると，気候は熱帯→(　①　)帯→(　②　)帯と変化する。文中の①，②に適語を入れよ。

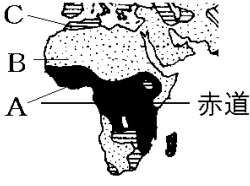

[解答]① 乾燥　② 温

[問題](2 学期中間)

右の図のA～Eの示す気候区を次の[　　]からそれぞれ選べ。

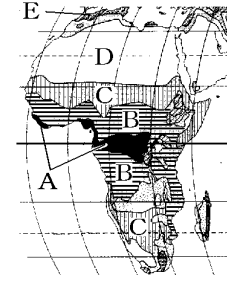

[サバナ気候　ステップ気候　地中海性気候　熱帯雨林気候　砂漠気候　温帯湿潤気候]

[解答]A 熱帯雨林気候　B サバナ気候　C ステップ気候　D 砂漠気候　E 地中海性気候

[問題](3 学期)

右図で A→B と移動すると，気候はどのように変わるか。次から選べ。

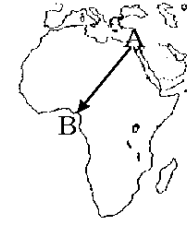

ア：サバナ→砂漠→
　　熱帯雨林→ステップ

イ：砂漠→ステップ→サバナ→熱帯雨林

ウ：サバナ→砂漠→熱帯雨林→温暖湿潤

エ：砂漠→サバナ→温暖湿潤→熱帯雨林

[解答]イ

[雨温図]

[問題](要点把握)

次の下線部A～Hで誤っているものを1つ選び，正しい語句に直せ。

赤道直下のアはA<u>熱帯</u>である。A帯の年平均気温は20℃台で，年間降水量も多いので，B<u>アの雨温図はc</u>と判断できる。イはエジプトでC<u>乾燥帯の砂漠気候</u>である。C気候では，ほとんど雨が降らないので，D<u>イの雨温図はb</u>とわかる。地中海沿岸のウとアフリカ南端のエはE<u>温帯</u>の気候である。E帯の年平均気温は大体10℃台なので，F<u>ウとエの雨温図はaかd</u>である。

エは南半球にあるので，G7 月は冬で，12 月が夏である。したがって H エの雨温図は a と判断できる。

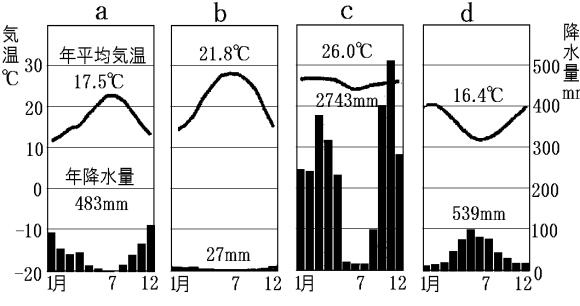

[解答]H エの雨温図は d

※出題頻度：雨温図の問題の出題頻度は高い。

[問題](2 学期中間)

次の A～C のグラフは，略地図中の X～Z の都市のものである。A～C のグラフは，それぞれ X～Z のどの都市にあてはまるか。

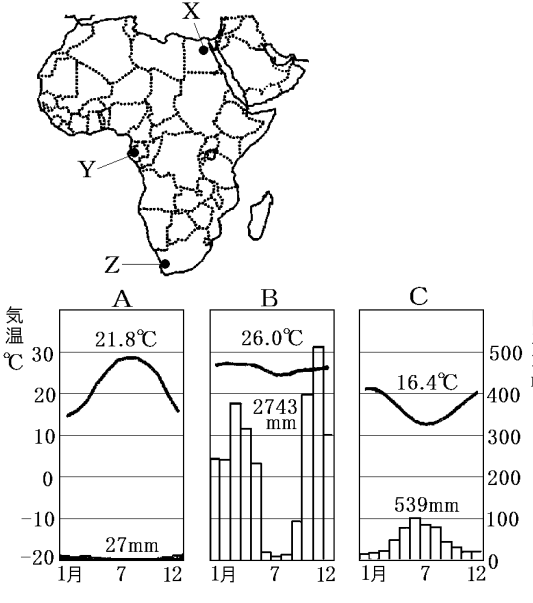

[解答]A : X　B : Y　C : Z

[問題](3 学期)

右の地図中の都市 A の気候は，地中海性気候である。都市 A の雨温図として最も適切なものを次のア～エから 1 つ選び，記号で答えよ。

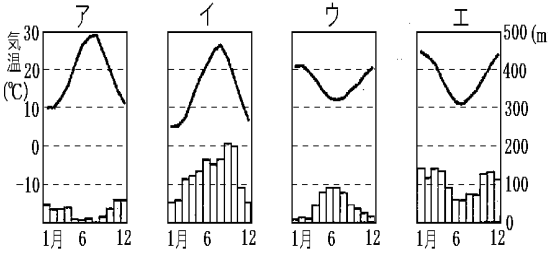

[解答]ウ

[問題](入試問題)

右の略地図中のローマとケープタウンは，同じ気候に属しており，次の文は，ケープタウンの気温と降水量の特色について説明したものである。

正しい文になるように，文中の①，②の(　　)内からそれぞれ適語を選べ。

ケープタウンの1月と7月の平均気温を比較すると，7月の平均気温の方が，1月の平均気温より①(低く／高く)なる。また，1月と7月の降水量を比較すると，7月の降水量の方が，1月の降水量より②(少なく／多く)なる。

(徳島県)

[解答]① 低く　② 多く

[問題](入試問題)

下のグラフは，A国の首都(略地図中の○)と，そことほぼ同緯度にあるB市(略地図中の●)の月別平均気温を示している。A国の首都の気温がB市の気温よりも低い理由を，簡潔に説明せよ。ただし，どちらの都市にも海流や風の影響はないものとする。

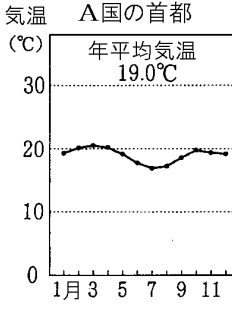

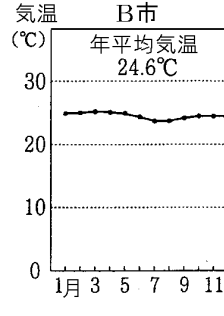

(宮城県)

[解答]A 国の首都の標高が，B 市よりも高いため。

【各ファイルへのリンク】

社会地理

[世界 1]　[世界 2]　[日本 1]　[日本 2]

社会歴史

[古代]　[中世]　[近世]　[近代]　[現代]

社会公民

[現代社会]　[人権]　[三権]　[経済]

理科 1 年

[光音力]　[化学]　[植物]　[地学]

理科 2 年

[電気]　[化学]　[動物]　[天気]

理科 3 年

[運動]　[化学]　[生殖]　[天体]　[環境]

【FdData 中間期末製品版のご案内】
この PDF ファイルは, FdData 中間期末を PDF 形式(スマホ用)に変換したサンプルです。製品版の FdData 中間期末は Windows パソコン用のマイクロソフト Word(Office)の文書ファイル(A4 版)で, 印刷・編集を自由に行うことができます。
◆FdData 中間期末の特徴
中間期末試験で成績を上げる秘訣は過去問を数多く解くことです。FdData 中間期末は, 実際に全国の中学校で出題された試験問題をワープロデータ(Word 文書)にした過去問集です。各教科(社会・理科・数学)約 1800～2100 ページと豊富な問題を収録しているため, 出題傾向の 90%以上を網羅しております。
FdData 中間期末を購入いただいたお客様からは,「市販の問題集とは比べものにならない質の高さですね。子どもが受け

た今回の期末試験では，ほとんど同じような問題が出て今までにないような成績をとることができました。」,「製品の質の高さと豊富な問題量に感謝します。試験対策として，塾の生徒に FdData の膨大な問題を解かせたところ，成績が大幅に伸び過去最高の得点を取れました。」などの感想をいただいております。

◆サンプル版と製品版の違い

ホームページ上に掲載しておりますサンプルは，製品の全内容を掲載しており，どなたでも自由に閲覧できます。問題を「目で解く」だけでもある程度の効果をあげることができます。しかし，FdData 中間期末がその本来の力を発揮するのは印刷ができる製品版においてです。印刷した問題を，鉛筆を使って一問一問解き進むことで，大きな学習効果を得ることができます。さらに，製品版は，すぐ印

刷して使える「問題解答分離形式」，編集に適した「問題解答一体形式」，暗記分野で効果を発揮する「一問一答形式」(理科と社会)の 3 形式を含んでいますので，目的に応じて活用することができます。

FdData 中間期末の特徴(QandA 方式)

◆FdData 中間期末製品版の価格

社会地理，歴史，公民：各 7,800 円

理科 1 年，2 年，3 年：各 7,800 円

数学 1 年，2 年，3 年：各 7,800 円

ご注文は電話，メールで承っております。

FdData 中間期末(製品版)の注文方法

※パソコン版ホームページは，Google などで「fddata」で検索できます。

※Amazon でも販売しております。
（「amazon　fddata」で検索）

【Fd 教材開発】電話：092-811-0960

メール： info2@fdtext.com