【FdData 中間期末：中学社会地理】

[東海の農業]

◆パソコン・タブレット版へ移動

[愛知県渥美半島の施設園芸農業]

[問題](要点把握)

次の下線部A～Hで誤っているものを2つ選び，正しい語句に直せ。

右の地図XのA渥美半島では，第二次世界大戦後にB豊川用水が完成したことで水不足が解消し，大消費地向けに野菜や花などを栽培するC園芸農業がさかんになった。D菊の栽培では，温室の中で電灯を照らすE電照栽培が行われ，日照時間を延ばすことで成長を抑えるF促成栽培が行われている。

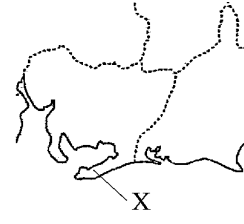

このように温室などを利用したCを特にG輸送園芸農業という。愛知県の菊の生産量はH全国第１位である。

[解答]F抑制栽培，G施設園芸農業

※出題頻度：「渥美半島(地図)△」「豊川用水△」「菊(愛知県が日本１位)の電照栽培△」「抑制栽培◎」「施設園芸農業◎」

[問題](3 学期)

次の各問いに答えよ。

(1) 右の地図中の X の半島の名前を答えよ。

(2) X の半島のかんがい用に，1968 年に完成した用水を答えよ。

(3) (1)では菊の生産がさかんである。菊の栽培とかかわりの深い農業に関する語句として誤っているものを次の次の[　　]から 1 つ選べ。

[施設園芸農業　電照栽培　抑制栽培　促成栽培]

[解答](1) 渥美半島　(2) 豊川用水

(3) 促成栽培

[問題](前期中間)

次の各問いに答えよ。

(1) 菊の生産が第１位である都道府県の名前を答えよ。

(2) 菊の栽培が盛んなのは(1)の県の何という半島か。

(3) (2)では，ビニールハウス内に電気をつけて菊の開花を遅らせている。①このような開花時期を遅らせる方法を何栽培というか。②また，夜間に照明を当てて栽培することを何栽培というか。

(4) ビニールハウスや温室などを使った園芸農業を何というか。

(5) (2)の半島には大きな川がないため以前は水不足に苦しんできたが，戦後，用水が引かれたことで水不足が解消した。何という用水か。

[解答](1) 愛知県　(2) 渥美半島

(3)① 抑制栽培　② 電照栽培

(4) 施設園芸農業　(5) 豊川用水

[静岡県の茶・みかん]

[問題](要点把握)

次の下線部A～Gで誤っているものを2つ選び，正しい語句に直せ。

茶は，A温暖で霜が降りることが少なく，B日当たりと水はけのよい場所が栽培に適している。こうした特徴をもつ図のXのC静岡県のD牧ノ原などの台地では，明治時代から茶の栽培が盛んになった。静岡県の茶の生産はE日本2位である。静岡と同じように畑作が中心のF鹿児島県も茶の生産量が多い。静岡県の沿岸部では，温暖な気候を生かして，日当たりの良い南向きの斜面でのGりんごの栽培(1位和歌山県，2位愛媛県に

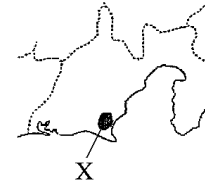

ついで日本３位)や，温室を利用したいちごやメロンの生産が行われている。

[解答]E日本1位，Gみかん

※出題頻度：「茶：静岡県が全国1位○，鹿児島が2位△」「温暖で日当たりと水はけが良い場所△」「みかん：静岡県が全国3位△」

[問題](3 学期)

次の各問いに答えよ。

(1) 次のグラフの A，B が示している農産物名を答えよ。

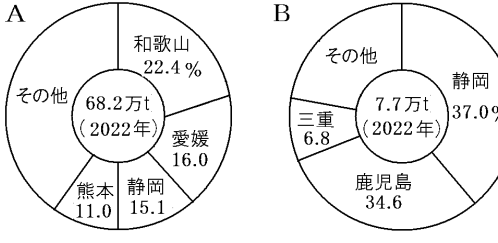

(2) 磐田原や牧ノ原には茶畑が広がっている。この地域が茶の生産に向いている自然条件を，次のア～エから 2 つ選び，記号で答えよ。

ア　夏でも涼しい

イ　気温差が大きく霜がよく降りる

ウ　水はけがよい

エ　斜面の日当たりがよい

[解答](1)A みかん　B 茶　(2) ウ，エ

[問題](2 学期中間)

次の文章中の①～⑤に適語を入れよ。

茶は, 温暖で霜が降りることが少なく, 日当たりと水はけの(　①　)場所が栽培に適している。こうした特徴をもつ静岡県の(　②　)や磐田原などの台地では, 明治時代から茶の栽培が盛んになった。静岡県の茶の生産は日本(　③　)位である。静岡と同じように畑作が中心の(　④　)県が静岡県に次ぐ生産をあげている。気候が温暖な駿河湾沿岸の丘陵地などでは(　⑤　)(果実)が栽培されている。また, 温室を利用したいちごやメロンの生産もさかんである。

[解答]① よい　② 牧ノ原　③ 1
④ 鹿児島　⑤ みかん

[漁業]

[問題](後期期末)

次の各問いに答えよ。

(1) 右図の，日本有数の漁港Pの港名を答えよ。

(2) (1)の漁港でさかんな漁業を次の[　　]から１つ選べ。

[遠洋漁業　沿岸漁業　栽培漁業　養殖漁業]

[解答](1) 焼津港　(2) 遠洋漁業

※出題頻度：「焼津港△」「遠洋漁業△」

【各ファイルへのリンク】

社会地理

[世界 1]　[世界 2]　[日本 1]　[日本 2]

社会歴史

[古代]　[中世]　[近世]　[近代]　[現代]

社会公民

[現代社会]　[人権]　[三権]　[経済]

理科 1 年

[光音力]　[化学]　[植物]　[地学]

理科 2 年

[電気]　[化学]　[動物]　[天気]

理科 3 年

[運動]　[化学]　[生殖]　[天体]　[環境]

【FdData 中間期末製品版のご案内】
この PDF ファイルは, FdData 中間期末を PDF 形式(スマホ用)に変換したサンプルです。製品版の FdData 中間期末は Windows パソコン用のマイクロソフト Word(Office)の文書ファイル(A4 版)で, 印刷・編集を自由に行うことができます。
◆FdData 中間期末の特徴
中間期末試験で成績を上げる秘訣は過去問を数多く解くことです。FdData 中間期末は, 実際に全国の中学校で出題された試験問題をワープロデータ(Word 文書)にした過去問集です。各教科(社会・理科・数学)約 1800～2100 ページと豊富な問題を収録しているため, 出題傾向の 90%以上を網羅しております。
FdData 中間期末を購入いただいたお客様からは,「市販の問題集とは比べものにならない質の高さですね。子どもが受け

た今回の期末試験では，ほとんど同じような問題が出て今までにないような成績をとることができました。」,「製品の質の高さと豊富な問題量に感謝します。試験対策として，塾の生徒に FdData の膨大な問題を解かせたところ，成績が大幅に伸び過去最高の得点を取れました。」などの感想をいただいております。

◆サンプル版と製品版の違い

ホームページ上に掲載しておりますサンプルは，製品の全内容を掲載しており，どなたでも自由に閲覧できます。問題を「目で解く」だけでもある程度の効果をあげることができます。しかし，FdData 中間期末がその本来の力を発揮するのは印刷ができる製品版においてです。印刷した問題を，鉛筆を使って一問一問解き進むことで，大きな学習効果を得ることができます。さらに，製品版は，すぐ印

刷して使える「問題解答分離形式」，編集に適した「問題解答一体形式」，暗記分野で効果を発揮する「一問一答形式」(理科と社会)の 3 形式を含んでいますので，目的に応じて活用することができます。

FdData 中間期末の特徴(QandA 方式)

◆FdData 中間期末製品版の価格

社会地理，歴史，公民：各 7,800 円

理科 1 年，2 年，3 年：各 7,800 円

数学 1 年，2 年，3 年：各 7,800 円

ご注文は電話，メールで承っております。

FdData 中間期末(製品版)の注文方法

※パソコン版ホームページは，Google などで「fddata」で検索できます。

※Amazon でも販売しております。
（「amazon　fddata」で検索）

【Fd 教材開発】電話：092-811-0960

メール： info2@fdtext.com