【FdData 中間期末：中学社会地理】

[東北の地形]

◆パソコン・タブレット版へ移動

[奥羽山脈など]

[問題](要点把握)

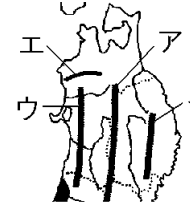

次の下線部 A～F で誤っているものを１つ選び，正しい語句に直せ。

東北地方の中央部を南北に走っている右図のアはA奥羽山脈である。その西側のウにB出羽山地，東側のイにC北上高地がある。図中のエはD白神山脈で，E ぶなの原生林があり，1993年にF世界自然遺産に登録された。

[解答]D 白神山地

※「白神山地・ブナの原生林・世界遺産」が出てこない教科書もある。
※出題頻度：「奥羽山脈◎」「北上高地△」「出羽山地△」「白神山地○：ぶなの原生林△，世界自然遺産△」
(頻度記号：◎(特に出題頻度が高い)，○(出題頻度が高い)，△(ときどき出題される))

[問題](入試問題)

次の図は，右図の①－②の断面図である。図中のA，B，Cの山脈・山地・高地名を答えよ。

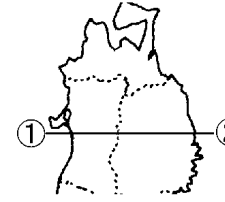

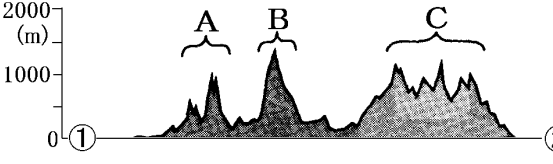

(愛知県改)

[解答]A 出羽山地　B 奥羽山脈

C 北上高地

[問題](2 学期期末)

右の地図を見て，次の各問いに答えよ。

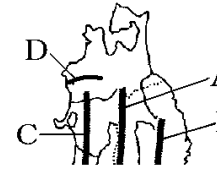

(1) A～D の山脈・山地・高地の名前を答えよ。

(2) D には広い(　①　)の原生林があり，その面積は世界最大級である。1993 年に(　②　)に登録された。文中の①，②に適語を入れよ。

[解答](1)A 奥羽山脈　B 北上高地　C 出羽山地　D 白神山地　(2)① ぶな　② 世界自然遺産(世界遺産)

[三陸海岸：リアス海岸]

[問題](要点把握)

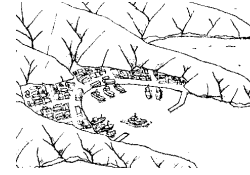

次の下線部 A～G で誤っているものを 2 つ選び，正しい語句に直せ。

地図 X の A 三陸海岸の南部では，図のように，狭くて深い湾が複雑に入り組んだ B フィヨルド海岸という地形が見られる。B 海岸の湾内は C 波が静かであるため魚介類の D 養殖に適している。また，湾の水深が深いので入り江は E 漁港などに適している。しかし，地震の際に F 高潮の被害が大きくなる危険がある。2011 年に起きた G 東日本大震災では F により壊滅的な打撃を受けた。

[解答]B リアス海岸，F 津波

※出題頻度：「三陸海岸◎」「リアス海岸◎」「津波の被害△，東日本大震災△」「波が静か→養殖△」

[問題](1 学期期末)

次の各問いに答えよ。

(1) 右図 A の海岸の名前を答えよ。

(2) (1)の海岸の南部には複雑な海岸線が見られる。これを何というか。

(3) (2)の海岸の特徴として，誤っているものを次のア～ウから選び，記号で答えよ。ただし，全て正しい場合はエと答えよ。

ア　水深が深いため，漁港に適している。

イ　波が穏やかなため，養殖に適している。

ウ　津波の影響を受けやすく，大きな被害を出しやすい。

[解答](1) 三陸海岸　(2) リアス海岸
(3) エ

[問題](後期中間)

次の文章中の①～⑤に適語を入れよ。

右図 X の(　①　)の南部の海岸線は，狭くて深い湾が複雑に入り組んだ(　②　)という地形になっている。(②)の湾内は波が静かなので魚介類の(　③　)に適している。しかし，地震の際には(　④　)の被害が大きくなる。2011 年に起きた(　⑤　)大震災では(④)により壊滅的な打撃を受けた。

[解答]① 三陸海岸　② リアス海岸
③ 養殖　④ 津波　⑤ 東日本

[平野と川など]

[問題](2 学期期末)

次の地図中の A～D の地形名を答えよ。

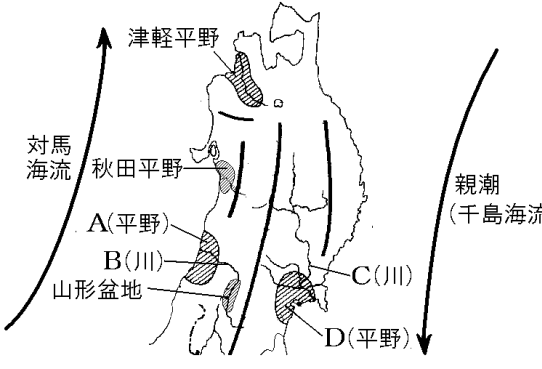

[解答]A 庄内平野　B 最上川

C 北上川　D 仙台平野

※出題頻度:「最上川△・庄内平野○」「北上川△・仙台平野△」「山形盆地△」「津軽平野△」「千島海流(親潮)△」「対馬海流△」

[問題](1 学期期末など)

次の略地図中の A～L の地形名，M, N の海流名を答えよ。

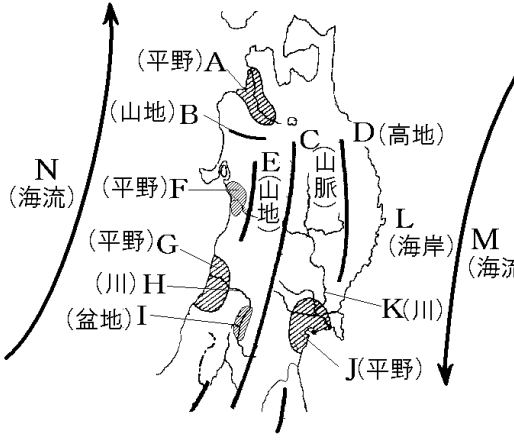

[解答]A 津軽平野　B 白神山地

C 奥羽山脈　D 北上高地　E 出羽山地

F 秋田平野　G 庄内平野　H 最上川

I 山形盆地　J 仙台平野　K 北上川

L 三陸海岸　M 千島海流(親潮)

N 対馬海流

【各ファイルへのリンク】

社会地理

[世界 1]　[世界 2]　[日本 1]　[日本 2]

社会歴史

[古代]　[中世]　[近世]　[近代]　[現代]

社会公民

[現代社会]　[人権]　[三権]　[経済]

理科 1 年

[光音力]　[化学]　[植物]　[地学]

理科 2 年

[電気]　[化学]　[動物]　[天気]

理科 3 年

[運動]　[化学]　[生殖]　[天体]　[環境]

【FdData 中間期末製品版のご案内】
この PDF ファイルは, FdData 中間期末を PDF 形式(スマホ用)に変換したサンプルです。製品版の FdData 中間期末は Windows パソコン用のマイクロソフト Word(Office)の文書ファイル(A4 版)で, 印刷・編集を自由に行うことができます。
◆FdData 中間期末の特徴
中間期末試験で成績を上げる秘訣は過去問を数多く解くことです。FdData 中間期末は, 実際に全国の中学校で出題された試験問題をワープロデータ(Word 文書)にした過去問集です。各教科(社会・理科・数学)約 1800～2100 ページと豊富な問題を収録しているため, 出題傾向の 90%以上を網羅しております。
FdData 中間期末を購入いただいたお客様からは,「市販の問題集とは比べものにならない質の高さですね。子どもが受け

た今回の期末試験では，ほとんど同じような問題が出て今までにないような成績をとることができました。」,「製品の質の高さと豊富な問題量に感謝します。試験対策として，塾の生徒に FdData の膨大な問題を解かせたところ，成績が大幅に伸び過去最高の得点を取れました。」などの感想をいただいております。

◆サンプル版と製品版の違い

ホームページ上に掲載しておりますサンプルは，製品の全内容を掲載しており，どなたでも自由に閲覧できます。問題を「目で解く」だけでもある程度の効果をあげることができます。しかし，FdData 中間期末がその本来の力を発揮するのは印刷ができる製品版においてです。印刷した問題を，鉛筆を使って一問一問解き進むことで，大きな学習効果を得ることができます。さらに，製品版は，すぐ印

刷して使える「問題解答分離形式」，編集に適した「問題解答一体形式」，暗記分野で効果を発揮する「一問一答形式」(理科と社会)の 3 形式を含んでいますので，目的に応じて活用することができます。

FdData 中間期末の特徴(QandA 方式)

◆FdData 中間期末製品版の価格

社会地理，歴史，公民：各 7,800 円

理科 1 年，2 年，3 年：各 7,800 円

数学 1 年，2 年，3 年：各 7,800 円

ご注文は電話，メールで承っております。

FdData 中間期末(製品版)の注文方法

※パソコン版ホームページは，Google などで「fddata」で検索できます。

※Amazon でも販売しております。
（「amazon　fddata」で検索）

【Fd 教材開発】電話：092-811-0960

メール： info2@fdtext.com