【FdData 中間期末：中学社会地理】

[北海道：観光産業]

◆パソコン・タブレット版へ移動

[知床半島]

[問題](要点把握)

次の下線部 A～E で誤っているものを 1 つ選び，正しい語句に直せ。

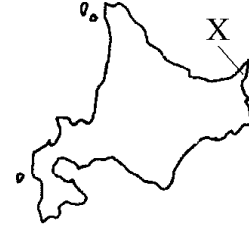

2005 年に A 世界自然遺産に登録され，豊かな自然環境などに多くの観光客を引きつけている右図の X は B 知床半島である。B 五湖周辺では，C 観光客が植物を踏み荒らさないように高架木道を設けるなど，D 生態系の保存と観光の両立をめざした E エコツーリングの取り組みが進められている。

[解答]E エコツーリズム

※出題頻度：「知床半島◎」「世界自然遺産○」「エコツーリズム◎：生態系の保存と観光の両立をめざす△」
「高架木道：観光客が植物を踏み荒らさないようにするため△」

[問題](1 学期中間)

　次のア～エは知床半島についての説明である。その説明として誤っているものを１つ選んで，その符号を書け。

ア　美しい自然環境の保全が守られ、原生的な自然環境が残されている。

イ　知床五湖周辺では，観光客が植物を踏み荒らさないように高架木道を設けている。

ウ　生態系の保存と観光の両立をめざしたエコツーリズムの取り組みが進められている。

エ　多くの野生生物が生息する貴重な生態系が評価され，ラムサール条約に登録された。

[解答]エ

[問題](2 学期期末)

次の各問いに答えよ。

(1) 豊かな自然環境や温泉，流氷などにより多くの観光客を引きつけている右図の X の半島の名前を答えよ。。

(2) (1)は 2005 年にユネスコによって何に登録されたか。漢字 6 字で答えよ。

(3) 右の写真は，(1)に設置された高架木道である。なぜこのような木道が設置されたのか，理由を簡単に書け。

(4) (1)では，(3)のように，エコツーリズムが進められている。エコツーリズムは何をめざした取り組みか。「生態系」「観光」の語句を使って簡単に説明せよ。

[解答](1) 知床半島　(2) 世界自然遺産 (3) 観光客が植物を踏み荒らさないようにするため。(4) 生態系の保存と観光の両立をめざした取り組み。

[問題](2 学期中間)

次の文章中の①～④に適語を入れよ。

2005 年に世界(　①　)に登録され，豊かな自然環境などに多くの観光客を引きつけている右図のXは(　②　)半島である。(②)五湖周辺では，観光客が植物を踏み荒らさないように高架木道を設けるなど，生態系の保存と(　③　)の両立をめざした(　④　)ツーリズムの取り組みが進められている。

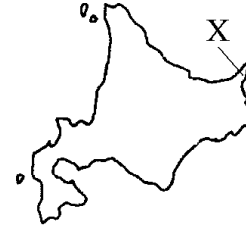

[解答]① 自然遺産(遺産)　② 知床
③ 観光　④ エコ

[雪まつり・流氷など]

[問題](要点把握)

次の下線部 A～F で誤っているものを 1 つ選び，正しい語句に直せ。

北海道には，夏のすずしさや，冬の雪や流氷を求めて，多くの観光客が訪れる。毎年 2 月に A 札幌市(右図のア)で開かれる B さっぽろ雪まつりには，200 万人をこえる人が訪れる。C ニセコ(イ)では，南半球の D オーストラリアなどから，北海道の細かい雪質を求めてスキーをしに訪れる観光客が増えている。E ベーリング海(ウ)沿岸では，1 月から 3 月にかけて F 流氷を見るための観光船が運行される。

[解答]E オホーツク海

※出題頻度：「さっぽろ雪まつり△」「ニセコ：オーストラリアなどからスキー客△」「オホーツク海の流氷〇」

[問題](1 学期中間)

次の各問いに答えよ。

(1) 毎年 200 万人近くの観光客を集める「雪まつり」で有名な北海道最大の都市はどこか。地図中のア～エから 1 つ選び，①記号と②都市名を答えよ。

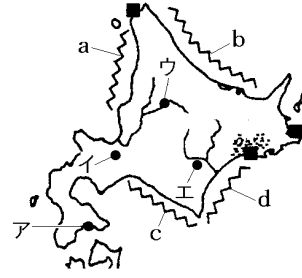

(2) ①毎年冬になるとおしよせる図のような氷のかたまりを何というか。②①がおしよせるのは，地図中の a～d のどこか。③②は何という海か。

(3) ニセコのスキー場などでは，南半球で日本とは季節が反対になる国からの観光客も増加している。何という国か。

[解答](1)① イ　② 札幌市　(2)① 流氷　② b　③ オホーツク海　(3) オーストラリア

【各ファイルへのリンク】

社会地理

[世界 1]　[世界 2]　[日本 1]　[日本 2]

社会歴史

[古代]　[中世]　[近世]　[近代]　[現代]

社会公民

[現代社会]　[人権]　[三権]　[経済]

理科 1 年

[光音力]　[化学]　[植物]　[地学]

理科 2 年

[電気]　[化学]　[動物]　[天気]

理科 3 年

[運動]　[化学]　[生殖]　[天体]　[環境]

【FdData 中間期末製品版のご案内】
この PDF ファイルは, FdData 中間期末を PDF 形式(スマホ用)に変換したサンプルです。製品版の FdData 中間期末は Windows パソコン用のマイクロソフト Word(Office)の文書ファイル(A4 版)で, 印刷・編集を自由に行うことができます。
◆FdData 中間期末の特徴
中間期末試験で成績を上げる秘訣は過去問を数多く解くことです。FdData 中間期末は, 実際に全国の中学校で出題された試験問題をワープロデータ(Word 文書)にした過去問集です。各教科(社会・理科・数学)約 1800～2100 ページと豊富な問題を収録しているため, 出題傾向の 90%以上を網羅しております。
FdData 中間期末を購入いただいたお客様からは,「市販の問題集とは比べものにならない質の高さですね。子どもが受け

た今回の期末試験では，ほとんど同じような問題が出て今までにないような成績をとることができました。」,「製品の質の高さと豊富な問題量に感謝します。試験対策として，塾の生徒に FdData の膨大な問題を解かせたところ，成績が大幅に伸び過去最高の得点を取れました。」などの感想をいただいております。

◆サンプル版と製品版の違い

ホームページ上に掲載しておりますサンプルは，製品の全内容を掲載しており，どなたでも自由に閲覧できます。問題を「目で解く」だけでもある程度の効果をあげることができます。しかし，FdData 中間期末がその本来の力を発揮するのは印刷ができる製品版においてです。印刷した問題を，鉛筆を使って一問一問解き進むことで，大きな学習効果を得ることができます。さらに，製品版は，すぐ印

刷して使える「問題解答分離形式」，編集に適した「問題解答一体形式」，暗記分野で効果を発揮する「一問一答形式」(理科と社会)の 3 形式を含んでいますので，目的に応じて活用することができます。

FdData 中間期末の特徴(QandA 方式)

◆FdData 中間期末製品版の価格

社会地理，歴史，公民：各 7,800 円

理科 1 年，2 年，3 年：各 7,800 円

数学 1 年，2 年，3 年：各 7,800 円

ご注文は電話，メールで承っております。

FdData 中間期末(製品版)の注文方法

※パソコン版ホームページは，Google などで「fddata」で検索できます。

※Amazon でも販売しております。
（「amazon　fddata」で検索）

【Fd 教材開発】電話：092-811-0960

メール： info2@fdtext.com