【FdData 中間期末：中学歴史】

[縄文時代と弥生時代の比較]

◆パソコン・タブレット版へ移動

[問題](前期期末)

次の表について，後の各問いに答えよ。

期間	約１万2000年前～B.C.4C ころ	B.C.4C ころ～3C ころ
建物	(　①　)(地面を掘り下げてつくる)	(　②　)(米をしまっておく倉庫)
土器	(　③　)土器 飾りが多く，縄目模様で黒褐色	(　④　)土器 薄手でかたく赤喝色
生活	狩りや採集 a ごみ捨て場 b 儀式	大陸から(　⑤　)が伝わる→農耕 c 鉄器，青銅器が伝わる。
遺跡	(　⑥　)遺跡(青森県)	(　⑦　)遺跡(佐賀県)

(1) 表中の①～④にあてはまる語句を次のイラスト・写真を参考に答えよ。

①の参考



②の参考



③の参考

④の参考

(2) (1)で答えた②は，なぜ床を高くしたのか。簡単に説明せよ。

(3) 表中の⑤が伝わってきたことにより，農耕が始まった。⑤にあてはる語句を漢字2字で答えよ。

(4) 表中の⑥，⑦の遺跡名を答えよ。

(5) 表中の下線部aを何というか。

(6) 下線部 b には，さまざまな種類がある。

A

B

次のア～ウにあてはまるものは何か。

ア　右の写真Aの人形

イ　大人になったことを示す(歯を抜く)

ウ　死者の霊の災いを防ぐための埋葬のしかた。

(7) 下線部Cの一種である，右の写真Bの青銅器は何か。

[解答](1)① たて穴住居　② 高床倉庫　③ 縄文　④ 弥生　(2) ねずみや湿気を防ぐため。　(3) 稲作　(4)⑥ 三内丸山　⑦ 吉野ヶ里　(5) 貝塚　(6)ア 土偶　イ 抜歯　ウ 屈葬　(7) 銅鐸

[問題](2 学期中間)

次の文を読み，後の各問いに答えよ。

Ⅰ　今から約 1 万年前に氷期が終わり，ほぼ現在の日本列島ができた。人々は，表面に縄目の文様がついた(　①　)土器を作り，(　②　)と呼ばれる住居で暮らした。

Ⅱ　紀元前 4 世紀ごろ，大陸から渡来した人々により(　③　)が伝えられた。青銅器や鉄器などの金属器も同時期に伝わり，(　④　)という土器も作られた。

(1)　文中の①～④にあてはまる語句を答えよ。

(2) 文Ⅱの時代と関係ないものを次のA～Dから1つ選び，記号で答えよ。



[解答](1)① 縄文　② たて穴住居
③ 稲作　④ 弥生土器　(2) C

[問題](1 学期中間)

次の写真をみて，次の各問いに答えよ。

A



B



(1) A，B の土器の名称を，それぞれ答えよ。

(2) 次の①～③の文は，A，B のどちらの土器が使われていたころの様子か。A か B で答えよ。

① 木の実やけもの，鳥，魚などが豊富で，農耕や牧畜はあまり発達していなかった。

② 大陸から九州北部に稲作が伝えられた。

③　たて穴住居の近くには高床の倉庫もつくられた。

(3) A, B の土器が使われていたころの遺跡を，次の[　　]からそれぞれ選べ。

[三内丸山遺跡　吉野ヶ里遺跡　岩宿遺跡]

[解答](1)A 縄文土器　B 弥生土器
(2)① A　② B　③ B　(3)A 三内丸山遺跡　B 吉野ヶ里遺跡

[問題](前期期末)

次の①～⑤の文が，縄文時代のことを表しているなら「J」を，弥生時代のことを表しているなら「Y」を，縄文と弥生の両方の時代を表しているなら「JY」を，縄文と弥生のどちらの時代でもないなら「X」を解答欄に書け。

① 住居はたて穴住居という形のものだった。

② 土偶が使われていた。

③ 大陸から九州北部に稲作が伝わり，東日本にまで広がった。

④ 磨製石器はまだ使われていなかった。

⑤ 代表的な遺跡の１つに吉野ヶ里遺跡がある。

[解答]① JY　② J　③ Y　④ X
⑤ Y

[問題](1 学期中間)

次の A，B の絵は，縄文と弥生の 2 つの時代の人々の生活のようすを示している。後の各問いに答えよ。

A

B

(1) 次の①，②は，A と B のどちらの時代に関係が深いか。

① 土偶　　② 銅鐸

(2) A, B の時代に使われていた土器の名をそれぞれ書け。

(3) A から B の時代にかけて，食料を得る方法はどのように変わったか。上の絵を参考にして簡潔に説明せよ。

[解答](1)①A　②B　(2)A 縄文土器
B 弥生土器　(3) 狩り，漁，採集から稲作へと変わった。

[問題](後期中間)

次の A，B の図を見て，次の各問いに答えよ。

A



B

(1) A，B は次の[　　]のどちらの遺跡か。

[三内丸山遺跡　吉野ヶ里遺跡]

(2) A，B に正しくあてはまるのは，それぞれ次のア～エのどれか。1 つずつ選べ。

ア　佐賀県の縄文時代の遺跡

イ　青森県の縄文時代の遺跡

ウ　青森県の弥生時代の遺跡

エ　佐賀県の弥生時代の遺跡

(3) 食生活に関して，両方の特徴を簡単に説明せよ。

(4) 集落の建築物に関して，縄文時代と弥生時代を比較して，両方の特徴を簡単に説明せよ。

[解答](1)A 吉野ヶ里遺跡　B 三内丸山遺跡　(2)A エ　B イ　(3) 縄文時代には狩り，漁，採集であったが，弥生時代には稲作が中心になった。

(4) 縄文時代はたて穴住居に住んでいたが，弥生時代はたて穴住居の近くに高床倉庫をつくり米をたくわえた。

【各ファイルへのリンク】

社会地理

[世界 1]　[世界 2]　[日本 1]　[日本 2]

社会歴史

[古代]　[中世]　[近世]　[近代]　[現代]

社会公民

[現代社会]　[人権]　[三権]　[経済]

理科 1 年

[光音力]　[化学]　[植物]　[地学]

理科 2 年

[電気]　[化学]　[動物]　[天気]

理科 3 年

[運動]　[化学]　[生殖]　[天体]　[環境]

【FdData 中間期末製品版のご案内】
このPDFファイルは,FdData 中間期末を PDF 形式(スマホ用)に変換したサンプルです。製品版の FdData 中間期末は Windows パソコン用のマイクロソフト Word(Office)の文書ファイル(A4 版)で,印刷・編集を自由に行うことができます。
◆FdData 中間期末の特徴
中間期末試験で成績を上げる秘訣は過去問を数多く解くことです。FdData 中間期末は,実際に全国の中学校で出題された試験問題をワープロデータ(Word 文書)にした過去問集です。各教科(社会・理科・数学)約 1800～2100 ページと豊富な問題を収録しているため,出題傾向の90%以上を網羅しております。
FdData 中間期末を購入いただいたお客様からは,「市販の問題集とは比べものにならない質の高さですね。子どもが受け

た今回の期末試験では，ほとんど同じような問題が出て今までにないような成績をとることができました。」,「製品の質の高さと豊富な問題量に感謝します。試験対策として，塾の生徒に FdData の膨大な問題を解かせたところ，成績が大幅に伸び過去最高の得点を取れました。」などの感想をいただいております。

◆サンプル版と製品版の違い

ホームページ上に掲載しておりますサンプルは，製品の全内容を掲載しており，どなたでも自由に閲覧できます。問題を「目で解く」だけでもある程度の効果をあげることができます。しかし，FdData 中間期末がその本来の力を発揮するのは印刷ができる製品版においてです。印刷した問題を，鉛筆を使って一問一問解き進むことで，大きな学習効果を得ることができます。さらに，製品版は，すぐ印

刷して使える「問題解答分離形式」，編集に適した「問題解答一体形式」，暗記分野で効果を発揮する「一問一答形式」(理科と社会)の 3 形式を含んでいますので，目的に応じて活用することができます。

FdData 中間期末の特徴(QandA 方式)

◆FdData 中間期末製品版の価格

社会地理，歴史，公民：各 7,800 円

理科 1 年，2 年，3 年：各 7,800 円

数学 1 年，2 年，3 年：各 7,800 円

ご注文は電話，メールで承っております。

FdData 中間期末(製品版)の注文方法

※パソコン版ホームページは，Google　などで「fddata」で検索できます。

※Amazon でも販売しております。

（「amazon　fddata」で検索）

【Fd 教材開発】電話：092-811-0960

メール： info2@fdtext.com