【FdData 中間期末：中学歴史】
[大化の改新・白村江の戦い・壬申の乱]
◆パソコン・タブレット版へ移動

[大化の改新]
[問題](要点把握)
　次の下線部 A～L で誤っているものを 2 つ選び，正しい語句に直せ。
　聖徳太子の死後，A 蘇我氏は聖徳太子の一族をほろぼして大きな力をふるった。そこで，B 中兄大皇子(のちの C 天智天皇)と D 中臣鎌足(のちに E 藤原鎌足)は，F645 年に G 蘇我氏(蘇我蝦夷・蘇我入鹿の親子)をほろぼして実権をにぎり，改革を始めた。B 皇子は，H 大化という年号を定め，翌年，I 全国の土地と人々を国家のものとし，天皇がそれを支配するという J 公地・公人の方針を打ち出した。

また，都は難波(大阪府)に移された(K 難波宮)。この一連の改革を L 大化の改新という。

[解答]B 中大兄皇子，J 公地・公民
※出題頻度：「大化の改新◎」「中大兄皇子◎」「中臣鎌足◎」「蘇我氏○」「公地・公民◎」

[問題](1 学期期末)

次の文章中の①～③に適語を入れよ。

7 世紀の中ごろになると，蘇我氏の独裁的な政治に対する不満が高まってきた。(　①　)(のちの天智天皇)は，中臣鎌足(のちの藤原鎌足)らとともに 645 年，蘇我氏を倒し，一連の政治改革を始めた。この改革を(　②　)という。この改革では，豪族が支配していた土地と人々を国家が直接支配する(　③　)の方針が打ち出された。また，都は難波宮に移された。

[解答]① 中大兄皇子　② 大化の改新　③ 公地・公民

[問題](1 学期中間)

次の各問いに答えよ。

(1) 聖徳太子の死後，勢いをふるった豪族は何氏か。

(2) 645 年，(1)の豪族をほろぼし，後に即位して天皇(天智天皇)になった人物は誰か。

(3) (2)に協力して政治改革を進めた人物で，後の藤原氏の祖先にあたる人物は誰か。

(4) (2)や(3)の人物が行った政治改革を何というか。

(5) (4)で，全国の土地と人々を国家のものとする方針が示されたが，これを何というか。

[解答](1) 蘇我氏　(2) 中大兄皇子

(3) 中臣鎌足　(4) 大化の改新

(5) 公地・公民

[問題](後期中間)

次の文を読んで,後の各問いに答えよ。

(　①　)年,(　②　)と中臣鎌足らはa蘇我氏をほろぼした。そして,b公地・公民の命令を出すなど,天皇中心の国づくりをめざすc改革に着手した。

(1) 上の文の①には数字,②にはあてはまる人物名を入れよ。

(2) ②の人物は後に即位して何天皇になったか。

(3) 下線部aに関し,ほろぼされた蘇我氏一族の代表的人物2人を書け。

(4) 下線部bの内容を「土地」「人々」「国家」の言葉を使って説明せよ。。

(5) 下線部cの改革を何というか。

(6) (5)の改革で移された都を何というか。

(7) 中臣鎌足が，蘇我氏を倒した功績により与えられた姓(名字)は何か。漢字2字で書け。

(8) ①の年に日本で初めて定められた年号を何というか。

[解答](1)① 645　② 中大兄皇子

(2) 天智天皇　(3) 蘇我蝦夷，蘇我入鹿

(4) 全国の土地と人々を国家のものとすること。　(5) 大化の改新　(6) 難波宮

(7) 藤原

(8) 大化

[白村江の戦い]

[問題](要点把握)

次の下線部 A～I で誤っているものを 2 つ選び，正しい語句に直せ。

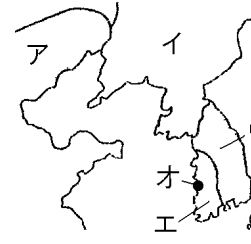

大化の改新の政治改革が行われていたころ，朝鮮半島では，A 新羅(右図ウ)が B 唐(ア)と結んで C 百済(エ)をほろぼした。D 中大兄皇子は C 国を助けるために大軍を送ったが，E 伯村江の戦いでA国とB国の連合軍に敗れた。D 皇子は，A 国や B 国の侵攻に備え，大宰府を守るために F 水城と大野城を築き，また G 防人という兵士を配置した。D 皇子は都を H 大津宮に移し，即位して I 天武天皇となり国内の改革に専念した。

[解答]E 白村江の戦い，I 天智天皇
※出題頻度：「新羅(地図)○と唐(地図)△」が「百済(地図)○」を滅ぼす「白村江の戦い○」「中大兄皇子→天智天皇○」「水城と大野城△」「防人△」

[問題](前期期末)
　次の文章中の①～③に適語を入れよ。
　7 世紀の半ば，朝鮮半島では新羅が唐と結んで(　①　)をほろぼした。中大兄皇子は，(①)を助けるために大軍を送ったが，663 年の(　②　)の戦いでやぶれ，以後，朝鮮半島から手を引いた。中大兄皇子は都を大津宮に移し，即位して(　③　)天皇となった。

[解答]① 百済　② 白村江　③ 天智

[問題](2 学期期末改)

663年に日本はア朝鮮半島のある国を助ける目的で朝鮮半島に軍を派遣したが，唐とイ朝鮮半島のある国の連合軍に敗れた。次の各問いに答えよ。

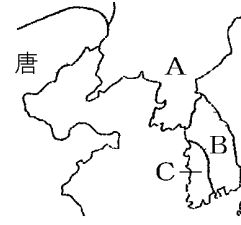

(1) この戦いを何というか。

(2) 朝鮮半島に軍を派遣した人物(後に天皇になる)は誰か。

(3) 下線部アの「ある国」とはどこか。
①国名を答えよ。
②その国の位置を右のA～Cから選べ。

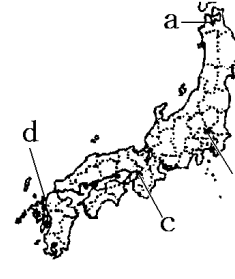

(4) 下線部イの「ある国」とはどこか。①国名を答えよ。②その国の位置をA～C から選べ。

(5) (2)は, (1)の戦いの後, 水城と大野城, 西日本の各地に山城を築いた。①その目的は何か。②大野城や水城が築かれた地域を地図中の a～d から 1 つ選び，記号で答えよ。③また，この戦いの後，九州北部に配備された兵士を何というか。

(6) (2)は都を大津宮に移し，即位して何という天皇となったか。

[解答](1) 白村江の戦い　(2) 中大兄皇子　(3)① 百済　② C　(4)① 新羅　② B　(5)① 唐や新羅の侵攻に備えるため。　② d　③ 防人　(6) 天智天皇

[問題](後期中間)

次の文章中の①～⑧に適語を入れよ。

7 世紀の初め，隋が滅んだあと中国を統一したのは(　①　)だった。朝鮮半島では(　②　)が力をつけてきた。7 世紀の半ば，朝鮮半島では(②)が(①)と結んで百済をほろぼした。中臣鎌足とともに大化の改新を行った(　③　)を中心とする朝廷は百済の復興を助けるために多くの兵と物資を船で送った。日本と(①)・(②)連合軍との戦いは，663 年，朝鮮半島南西部の(　④　)でおこなわれ，日本側の敗北に終わった。(①)や(②)の襲来をおそれた(③)は，北九州の海辺の守りのために(　⑤　)という兵士を配置し，大宰府の防備のために水城や(　⑥　)城を築いた。(③)は都を(　⑦　)宮に移し，即位して(　⑧　)天皇となった。

[解答]① 唐　② 新羅　③ 中大兄皇子　④ 白村江　⑤ 防人　⑥ 大野　⑦ 大津　⑧ 天智

[壬申の乱]

[問題](要点把握)

　次の下線部A～Gで誤っているものを3つ選び，正しい語句に直せ。

　A天武天皇の死後，あとつぎをめぐって672年にB壬心の乱がおこった。この戦いに勝ったC大海人皇子は即位してD天智天皇となった。D天皇は，唐や新羅に負けないための国づくりを目指し，中国にならった律令や都，さらには歴史書を作るように命じた。また，政治の中心を飛鳥地方にもどした。D天皇の死後は，その皇后がE持統天皇として即位し，日本ではじめての本格的な都であるF藤原京をつくるなどして，G律令制度を実施する準備を整えた。

[解答]A 天智天皇，B 壬申の乱，
D 天武天皇
※出題頻度：「壬申の乱◎」「大海人皇子△→天武天皇◎」「持統天皇△」「藤原京△」

[問題](2 学期期末)

天智天皇の死後，天皇の位をめぐって争いが起こった。次の各問いに答えよ。

(1) この戦いを何というか。

(2) この戦いに勝った大海人皇子は，即位して天皇となり，中央集権国家体制づくりをおこなった。この天皇の名を書け。

(3) (2)の天皇の死後，皇后が即位して(2)の事業を引き継いだ。何という天皇か。

(4) (3)の天皇がつくった日本ではじめての本格的な都の名前を答えよ。

[解答](1) 壬申の乱　(2) 天武天皇

(3) 持統天皇　(4) 藤原京

[問題](2 学期中間)

次の人物カードを読んで，後の各問いに答えよ。

A　私は(　X　)天皇の子どもです。父が亡くなると，おじのBとあとつぎをめぐって戦いましたが，敗北しました。

B　私は(　X　)天皇の弟です。Aとの戦いに勝利して天皇に即位しました。

C　私は(　X　)天皇の娘であり，Bと夫婦です。Bが亡くなると，私が天皇に即位して，新しい都を造りました。

(1) カードに共通してあてはまるXの天皇の名前を書け。

(2) カードAに「あとつぎをめぐって戦いました」とあるが，①この内乱を何というか。

②また，その内乱が起こったのは西暦何年か。

(3) カードBの人物は①何という皇子か。②また，即位して何という天皇になったか。

(4) カードCにあてはまる天皇の名前を答えよ。

(5) C のカードの「新しい都」の名前を書け。

[解答](1) 天智天皇　(2)① 壬申の乱 ② 672年　(3)① 大海人皇子 ② 天武天皇　(4) 持統天皇　(5) 藤原京

[問題](3 学期)

　次の A～E のカードを，古い順番に並び替え記号で答えよ。

A　天智天皇のあとつきをめぐる争いが起こった。

B　聖徳太子が推古天皇の摂政になった。

C　白村江の戦いが起きた。

D　蘇我蝦夷・入鹿が倒された。

E　小野妹子が中国へ派遣された。

[解答]B→E→D→C→A

【各ファイルへのリンク】

社会地理

[世界 1]　[世界 2]　[日本 1]　[日本 2]

社会歴史

[古代]　[中世]　[近世]　[近代]　[現代]

社会公民

[現代社会]　[人権]　[三権]　[経済]

理科 1 年

[光音力]　[化学]　[植物]　[地学]

理科 2 年

[電気]　[化学]　[動物]　[天気]

理科 3 年

[運動]　[化学]　[生殖]　[天体]　[環境]

【FdData 中間期末製品版のご案内】
この PDF ファイルは, FdData 中間期末を PDF 形式(スマホ用)に変換したサンプルです。製品版の FdData 中間期末は Windows パソコン用のマイクロソフト Word(Office)の文書ファイル(A4 版)で, 印刷・編集を自由に行うことができます。
◆FdData 中間期末の特徴
中間期末試験で成績を上げる秘訣は過去問を数多く解くことです。FdData 中間期末は, 実際に全国の中学校で出題された試験問題をワープロデータ(Word 文書)にした過去問集です。各教科(社会・理科・数学)約 1800～2100 ページと豊富な問題を収録しているため, 出題傾向の 90%以上を網羅しております。
FdData 中間期末を購入いただいたお客様からは,「市販の問題集とは比べものにならない質の高さですね。子どもが受け

た今回の期末試験では，ほとんど同じような問題が出て今までにないような成績をとることができました。」,「製品の質の高さと豊富な問題量に感謝します。試験対策として，塾の生徒に FdData の膨大な問題を解かせたところ，成績が大幅に伸び過去最高の得点を取れました。」などの感想をいただいております。

◆サンプル版と製品版の違い

ホームページ上に掲載しておりますサンプルは，製品の全内容を掲載しており，どなたでも自由に閲覧できます。問題を「目で解く」だけでもある程度の効果をあげることができます。しかし，FdData 中間期末がその本来の力を発揮するのは印刷ができる製品版においてです。印刷した問題を，鉛筆を使って一問一問解き進むことで，大きな学習効果を得ることができます。さらに，製品版は，すぐ印

刷して使える「問題解答分離形式」，編集に適した「問題解答一体形式」，暗記分野で効果を発揮する「一問一答形式」(理科と社会)の 3 形式を含んでいますので，目的に応じて活用することができます。

FdData 中間期末の特徴(QandA 方式)

◆FdData 中間期末製品版の価格

社会地理，歴史，公民：各 7,800 円

理科 1 年，2 年，3 年：各 7,800 円

数学 1 年，2 年，3 年：各 7,800 円

ご注文は電話，メールで承っております。

FdData 中間期末(製品版)の注文方法

※パソコン版ホームページは，Google などで「fddata」で検索できます。

※Amazon でも販売しております。
（「amazon　fddata」で検索）

【Fd 教材開発】電話：092-811-0960

メール： info2@fdtext.com