【FdData 中間期末：中学歴史：昭和】

[太平洋戦争①]

◆パソコン・タブレット版へ移動

[東南アジアへの南進]

[問題](要点把握)

次の下線部A～Hで誤っているものを2つ選び，正しい語句に直せ。

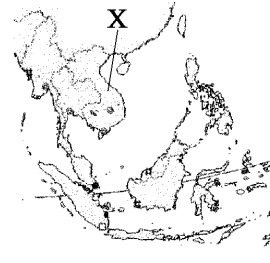

A 援蒋ルートを断ち切るとともに，B 石油やゴムなどの資源を獲得するために，日本は1940年にC フランス領インドシナの北部に軍を進め，次いで，ドイツとイタリアとD 日独伊三国協商を結んだ。

さらに，1941 年，ソ連と E 日ソ不可侵条約を結び，F 北方の安全を確保したうえで，G フランス領インドシナの南部を占領した。こうした動きと合わせて，日本は，日本の指導の下，欧米の植民地支配を打破し，アジアの民族だけで繁栄しようという H 大東亜共栄圏の建設を唱えた。

[解答]D 日独伊三国同盟,
E 日ソ中立条約

[問題](2 学期中間)

次の各問いに答えよ。

(1) 1940 年に，ドイツ，イタリア，日本が結んだ軍事同盟を何というか。

(2) 日本がフランス領インドシナ南部に軍を進める際，北方の安全を確保するために 1941 年にソ連と結んだ条約を何というか。

(3) 日本が東南アジアに南進を始めた目的を次のア～エから 2 つ選び，記号で答えよ。

ア　石油やゴムなどの資源を獲得するため。

イ　東南アジア諸国を解放するため。

ウ　援蒋ルートを断ち切るため。

エ　中国から撤退するため。

(4) 東南アジアへの進出を正当化するために，「日本の指導のもと，欧米の植民地支配を打破し，アジアの諸民族だけで繁栄しよう」として，日本が唱えた理念を漢字6文字で答えよ。

[解答](1) 日独伊三国同盟　(2) 日ソ中立条約　(3) ア，ウ　(4) 大東亜共栄圏

[問題](前期中間)

　日本軍は東南アジアへ侵攻していったが，その理由の１つは援蒋ルートを断ち切ることであった。もう１つの理由を「資源」に注目して簡単に答えよ。

[解答]石油やゴムなどの資源を獲得するため。

[問題](後期中間)

次の各問いに答えよ。

(1) 日本は，1940 年にインドシナ北部へ軍を進めたが，①右の地図中の A～D からその場所を選べ。

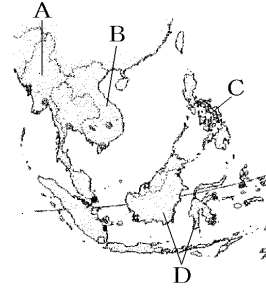

②そこはどこの国の植民地だったか。

(2) (1)の後，日本はヨーロッパのある 2 国と同盟を結んだ。

①この同盟を何というか。②日本が同盟を結んだ 2 国とはどこか。

(3) 1941 年にソ連ともある条約を結んだが，その条約名を答えよ。

(4) 日本が(3)の条約を結んだ理由を「北方」という語句を使って簡単に説明せよ。

(5) 日本がインドシナに武力による南進を行った目的は何か。「ルート」「資源」という語句を使って，簡潔に説明せよ。

(6) 日本は，東南アジアへの進出を正当化するために，「日本の指導のもと，欧米の植民地支配を打破し(　①　)の諸民族だけで繁栄しよう」という(　②　)圏の建設を唱えた。文中の①，②に適語を入れよ。

[解答](1)① B　② フランス　(2)① 日独伊三国同盟　② ドイツ，イタリア　(3) 日ソ中立条約　(4) 北方の安全を確保するため。　(5) 援蒋ルートを断ち切るとともに，石油やゴムなどの資源を獲得するため。　(6)① アジア　② 大東亜共栄

[日米交渉の決裂]

[問題](要点把握)

次の下線部 a～g で誤っているものを 2 つ選び，正しい語句に直せ。

1941 年 7 月に日本がフランス領インドシナ南部を占領すると，a アメリカは日本に対して b 石炭の輸出を禁止し，c イギリス，オランダ，中国がこれに同調した。このように日本を経済的に封鎖する体制を d「ABCD 包囲軍」という。e A はアメリカ(America),B はイギリス(Britain),C は中国(China),D はオランダ(Dutch)を表している。この包囲陣を打ち破るには早期に開戦するしかないという強硬論が高まった。日米交渉の席でアメリカが，f 中国とフランス領インドシナからの全面撤兵などを要求すると，近衛

内閣の次に成立したg 東条英機内閣と軍部は，アメリカとの戦争を最終的に決定した。

[解答]b 石油の輸出，d ABCD 包囲陣

[問題](1 学期期末)

次の文章中の①～③にあてはまる適語を書け。

1941 年 7 月に日本がフランス領インドシナ南部を占領すると，アメリカは日本に対して(　①　)の輸出を禁止し，イギリス，(　②　)，中国がこれに同調した。戦争に不可欠な(①)をたたれた日本では，このように日本を経済的に封鎖する「(　③　)」を打ち破るには早期に開戦するしかないという強硬論が高まった。日米交渉の席でアメリカが，中国とフランス領インドシナからの全面撤兵などを要求すると，近衛内閣の次に成立した東条英機内閣と軍部は，アメリカとの戦争を最終的に決定した。

[解答]① 石油　② オランダ

③ ABCD 包囲陣

[問題](前期期末)

右の図は太平洋戦争をめぐる各国の国際関係を示している。次の各問いに答えよ。

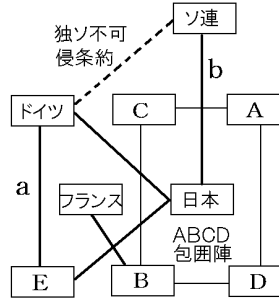

(1) 図中の ABCD 包囲陣の A，B，C，D はそれぞれ国を表している。A～D それぞれの国名を答えよ。

(2) ABCD 包囲陣は何を目的につくられたものか。「石油」「封鎖」という語句を使って簡潔に説明せよ。

(3) ①図中 a で示した日本・ドイツ・E が結んでいた同盟を何というか。②また，E の国名を答えよ。

(4) 図中のbで示した日本とソ連の間で結ばれた条約は何か。

(5) この後，日米交渉が行われたが，その席でアメリカが日本に対して要求したのはどのようなことか。「中国・東南アジア」という語句を使って説明せよ。

[解答](1) A アメリカ　B イギリス
C 中国　D オランダ　(2) 石油の禁輸など日本を経済的に封鎖するため。
(3)① 日独伊三国同盟　② イタリア
(4) 日ソ中立条約
(5) 中国・東南アジアから日本軍が撤退すること。

[開戦]

[問題](要点把握)

次の下線部A～Gで誤っているものを2つ選び，正しい語句に直せ。

A1941 年 12 月 8 日，日本軍はアメリカの海軍基地がある B グアムの真珠湾(右図ア)を奇襲攻撃するとともに，C イギリス領のマレー半島(イ)に上陸し，D 太平洋戦争を始めた。このときの日本の内閣総理大臣はE近衛文麿で，アメリカの大統領はF ローズベルトであった。日本軍は，開戦後半年間は戦争を有利に進めたが，1942 年の G ミッドウェー海戦での敗北を機に戦局は不利になっていった。

[解答]B ハワイの真珠湾，E 東条英機

[問題](1 学期期末)

次の各問いに答えよ。

(1) 1941 年 12 月 8 日に始まった第二次世界大戦における，日本とアメリカなどの連合国との戦争を何というか。

(2) (1)の戦争を始めたときの日本の首相は誰か。

(3) 日本が奇襲攻撃をしかけたのはどこか。「～の･･･湾」という形で答えよ。

(4) 日本の戦局が悪化するきっかけとなった，日本軍がアメリカ軍に敗退した 1942 年の海戦を何というか。

[解答](1) 太平洋戦争　(2) 東条英機　(3) ハワイの真珠湾　(4) ミッドウェー海戦

[問題](1 学期期末)

次の各問いに答えよ。

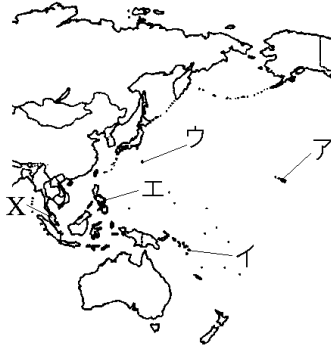

(1) 日本はアメリカの海軍基地がある場所へ奇襲攻撃をしたが，攻撃を行った場所の名前を答えよ。

(2) (1)の場所を地図中のア～エより１つ選べ。

(3) (1)の攻撃がきっかけで始まった戦争の名前を答えよ。

(4) (1)の攻撃は何年何月何日か。

(5) 日本は(1)に奇襲をかけると同時に，地図の X の半島にも侵攻した。①Xの半島名を答えよ。②ここを支配していた国名を答えよ。③侵攻した目的を「資源」という語句を使って簡潔に書け。

(6) (1)の戦争が始まったときの日本の首相の名前を答えよ。

(7) (1)の戦争が始まったときのアメリカの大統領の名前を答えよ。

(8) ドイツとイタリアも，アメリカに宣戦布告した。こうして，ヨーロッパで開始された第二次世界大戦は，日独伊などの(　①　)国と米英ソ中などの(　②　)国が戦う世界規模の戦争に発展した。文中の①，②に適語をそれぞれ漢字 2 字で入れよ。

(9) 日本軍は，開戦後半年間は戦争を有利に進めたが，1942 年 6 月のある海戦での敗北をきっかけに戦局は不利になっていった。この海戦の名前を答えよ。

[解答](1) ハワイの真珠湾　(2) ア
(3) 太平洋戦争　(4) 1941 年 12 月 8 日
(5)① マレー半島　② イギリス
③ 石油などの資源を確保するため。
(6) 東条英機　(7) ローズベルト
(8)① 枢軸　② 連合　(9) ミッドウェー海戦

【各ファイルへのリンク】

社会地理

[世界 1]　[世界 2]　[日本 1]　[日本 2]

社会歴史

[古代]　[中世]　[近世]　[近代]　[現代]

社会公民

[現代社会]　[人権]　[三権]　[経済]

理科 1 年

[光音力]　[化学]　[植物]　[地学]

理科 2 年

[電気]　[化学]　[動物]　[天気]

理科 3 年

[運動]　[化学]　[生殖]　[天体]　[環境]

【FdData 中間期末製品版のご案内】
このPDFファイルは,FdData 中間期末を PDF 形式(スマホ用)に変換したサンプルです。製品版の FdData 中間期末は Windows パソコン用のマイクロソフト Word(Office)の文書ファイル(A4 版)で,印刷・編集を自由に行うことができます。
◆FdData 中間期末の特徴
中間期末試験で成績を上げる秘訣は過去問を数多く解くことです。FdData 中間期末は,実際に全国の中学校で出題された試験問題をワープロデータ(Word 文書)にした過去問集です。各教科(社会・理科・数学)約 1800～2100 ページと豊富な問題を収録しているため,出題傾向の90%以上を網羅しております。
FdData 中間期末を購入いただいたお客様からは,「市販の問題集とは比べものにならない質の高さですね。子どもが受け

た今回の期末試験では，ほとんど同じような問題が出て今までにないような成績をとることができました。」,「製品の質の高さと豊富な問題量に感謝します。試験対策として，塾の生徒に FdData の膨大な問題を解かせたところ，成績が大幅に伸び過去最高の得点を取れました。」などの感想をいただいております。

◆サンプル版と製品版の違い

ホームページ上に掲載しておりますサンプルは，製品の全内容を掲載しており，どなたでも自由に閲覧できます。問題を「目で解く」だけでもある程度の効果をあげることができます。しかし，FdData 中間期末がその本来の力を発揮するのは印刷ができる製品版においてです。印刷した問題を，鉛筆を使って一問一問解き進むことで，大きな学習効果を得ることができます。さらに，製品版は，すぐ印

刷して使える「問題解答分離形式」，編集に適した「問題解答一体形式」，暗記分野で効果を発揮する「一問一答形式」(理科と社会)の 3 形式を含んでいますので，目的に応じて活用することができます。

FdData 中間期末の特徴(QandA 方式)

◆FdData 中間期末製品版の価格

社会地理，歴史，公民：各 7,800 円

理科 1 年，2 年，3 年：各 7,800 円

数学 1 年，2 年，3 年：各 7,800 円

ご注文は電話，メールで承っております。

FdData 中間期末(製品版)の注文方法

※パソコン版ホームページは，Google などで「fddata」で検索できます。

※Amazon でも販売しております。
（「amazon　fddata」で検索）

【Fd 教材開発】電話：092-811-0960
メール： info2@fdtext.com